L'AGENZIA DELLE ACCISE, DOGANE E MONOPOLI

CONCORSO PUBBLICO PER ESAMI A COMPLESSIVI 766 POSTI - III AREA F1 - PER L'ASSUNZIONE DI VARIE FIGURE PROFESSIONALI PRESSO L'AGENZIA DELLE DOGANE E DEI MONOPOLI
BANCA DATI DEI QUESITI PER LE PROVE PRESELTTIVE

Si pubblica in allegato al presente avviso la banca dati dei quesiti per le prove preselettive del concorso pubblico in intestazione, predisposta dall'Agenzia ai sensi dell'art. 7, comma 6, del bando di concorso, avvalendosi di società specializzata in selezione del personale.

I candidati possono provvedere ad inviare eventuali segnalazioni inerenti anomalie nella formulazione dei quesiti al seguente indirizzo email: test.concorso.funzionari@adm.gov.it

L'Agenzia si riserva di effettuare verifiche sulle segnalazioni pervenute e di procedere, qualora necessario, ad adeguamenti della banca dati e comunicazioni, esclusivamente mediante avviso pubblicato sul sito istituzionale adm.gov.it, nell'apposita sezione riservata al concorso. I candidati sono invitati a monitorare costantemente il sito dell'Agenzia.

Si comunica, inoltre, che per lo svolgimento delle prove non sarà consentito l'utilizzo di fogli o penne per calcoli e/o annotazioni. Eventuale materiale cartaceo in possesso del candidato non potrà essere in alcun modo utilizzato e andrà rimosso dal banco prima dello svolgimento della prova e per tutta la durata della stessa.

La banca dati resterà on line sul sito dell'Agenzia fino alle 00.00 del 12 luglio 2021.

CAPACITÀ LOGICO-DEDUTTIVA E RAG. LOGICO-MATEMATICO DOMANDE

1) **Quale dei seguenti è un ragionamento deduttivo?**

A Tutti i numeri che terminano in 0 o in 5 sono divisibili per 5. Il numero 255 termina in 5. Il numero 255 è divisibile per 5.
B Le mele verdi non sono maturate. Questa pesca è verde. Questa pesca non è maturata.
C Ho visto un corvo nero. Ho visto un secondo corvo nero. Probabilmente tutti i corvi sono neri

2) **Completare correttamente la seguente successione numerica. 3;23;26;49;75;?**

A 128
B 96
C 124

3) **Il risultato della divisione 450:90 è:**

A 2
B 5
C 0.5

4) **Fra due ore mancherà la metà del tempo per arrivare a mezzanotte, che sarebbe dopo un'ora. Che ore sono?**

A 20.00
B 18.00
C 21.00

5) **Una delle critiche alla teoria darwiniana attribuisce a Thomas Huxley (1825 - 1895) il famoso paradosso: "La quantità di latte prodotto in Inghilterra è direttamente proporzionale al numero delle vecchie zitelle esistenti nel paese." Infatti spiega Huxley, il latte, come ben noto, è prodotto dalle mucche che ne producono quanto più trifoglio possono mangiare. Gli insetti che favoriscono l'impollinazione del trifoglio sono i bombi, i cui nidi sono spesso distrutti dai topi. I più feroci nemici dei topi sono i gatti che, come è ben noto, sono protetti ... dalle vecchie zitelle! Quindi più zitelle più gatti, più gatti meno topi, meno topi più bombi, più bombi più trifoglio per le mucche, più mucche più latte. Quale tipo di ragionamento logico ripropone il paradosso di Huxley?**

A Induzione
B Deduzione
C Abduzione

6) **L'espressione "uovo di Colombo" è usata per indicare qualcuno che:**

A abbandona sul nascere ogni tentativo di risolvere un problema.
B rinuncia a maggiori vantaggi per accontentarsi di poco.
C risolve in modo semplice e immediato un problema apparentemente insolubile.

7) **Non è un sinonimo di vigile:**

A distratto
B attento
C concentrato

8) **Qual numero completa la seguente successione: 45 36 28 ? 15 10 6**

A 22
B 10
C 21

9) **Allo stadio, Marco è seduto al numero 253. Maria è seduta alla destra di Marco al numero 254. Alla sinistra di Marco è seduto Matteo. Lucio è seduto alla sinistra di Matteo. Quale numero ha il posto occupato da Lucio?**

A 251
B 254
C 255

10) **Giovanni ha quattro anni meno di Giorgio che ha cinque anni più di Giulio che ha tre anni meno di Gigi che ha 22 anni. Quanti anni ha Giovanni?**

A 19
B 20
C 16

---

11) **Se l'affermazione che "Nessun elefante ha cinque zampe" è FALSA, significa che:**

A tutti gli elefanti hanno un numero di zampe diverso da cinque .
B almeno un elefante ha un numero di zampe diverso da cinque.
C almeno un elefante ha cinque zampe.

---

12) **Quale dei seguenti è un ragionamento deduttivo?**

A In casa mia fa caldo. In casa del mio vicino fa caldo. Fa caldo nell'intero edificio in cui vivo.
B Una ragazza in motorino passava con il semaforo rosso. Un ragazzo in motorino passava con il semaforo rosso. Tutti i giovani in motorino passano con il semaforo rosso.
C Maria apre l'ombrello solo quando piove. Maria ha aperto il suo ombrello, quindi, sta piovendo

---

13) **Quale dei seguenti gruppi sillabici, inserito in sequenza, consente la formazione di parole di senso compiuto? Fo(..) ro, Go(..) to, Li(..) do, Mo(..) llo.**

A (de) , (mi) , (vi) , (de) .
B (de) , (mi) , (vi) , (di).
C (de) , (mi) , (va) , (da) .

---

14) **Individuare l'abbinamento anomalo tra le seguenti coppie di vocaboli:**

A libeccio - sud ovest
B scirocco - nord est
C maestrale - nord ovest

---

15) **Quale tra le seguenti frasi NON contiene un errore ortografico?**

A Maria è un'amica fidata.
B Abbiamo osservato un eclissi di sole.
C Avanti un'altro!

---

16) **Individuare l'alternativa che completa in modo corretto la seguente proporzione tra termini. "Colpevole : Innocente = X : Y"**

A X = fertile;Y = fecondo
B X = sterile;Y = produttivo
C X = ludico;Y = giocoso

---

17) **Iniziando a leggere un libro dall'inizio della pagina x fino alla fine della pagina y, quante pagine saranno state lette in totale?**

A y + x +1
B y + x
C y - x - 1

---

18) **Marina gioca a tennis se e solo se Fabio le presta la sua racchetta. Se la precedente affermazione è vera, quale delle seguenti NON è necessariamente vera?**

A Se Fabio non gioca a tennis, allora non ha prestato la sua racchetta a Marina
B Se Marina gioca a tennis, allora Fabio le ha prestato una sua racchetta
C Se Fabio non le presta una sua racchetta, allora Marina non gioca a tennis

---

19) **Indicare la sillaba che, preposta al primo e aggiunta al secondo gruppo di lettere, consente di ottenere due parole di senso compiuto. PO (...) TO:**

A sta
B ca
C mo

---

20) **Completare correttamente la seguente successione numerica: 8;15;29;57;113;225;?**

A 449
B 337
C 451

---

21) **Una frase è stata divisa in cinque parti, che successivamente sono state mescolate e che di seguito sono proposte in ordine casuale: [1 restare indifferente / 2 ingiustizie ai danni / 3 del tuo prossimo. / 4 Non puoi / 5 di fronte a simili]. Ricomporre correttamente la frase.**

A 4;1;5;2;3 .
B 1;5;4;3;2 .
C 2;3;5;4;1 .

22) **Quale dei termini che seguono può essere a ragione considerato parte della serie "posacenere, schiaccianoci, voltagabbana, scansafatiche"?**

A Altipiano.
B Bassorilievo.
C Portaborse.

23) **Quale delle seguenti parole NON ha a che fare con le altre?**

A Pitone
B Pipistrello
C Balena

24) **Con riferimento alla figura in alto, Individuare il diagramma che soddisfa la relazione insiemistica esistente tra i termini dati: INGEGNERI, LAUREATI, ATENEI**

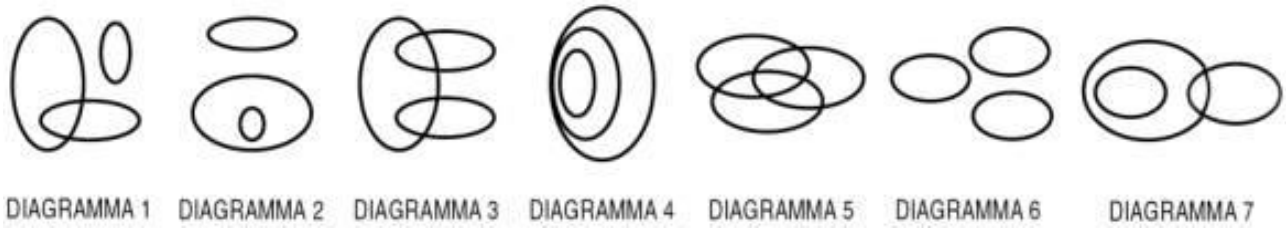

A Diagramma 2
B Diagramma 1
C Diagramma 6

25) **Individuare l'abbinamento errato.**

A Sbarco in Normandia - 1944
B Congresso di Vienna - 1815
C Battaglia di Azio - 1848.

26) **La scrittura è nata circa 5400 anni fa presso i Babilonesi, e lo stesso alfabeto fonetico ha soli 3800 anni. Questi tempi non sono che un istante se confrontati con quelli dell'evoluzione. Il nostro genoma non ha avuto il tempo di modificarsi per sviluppare circuiti cerebrali deputati alla lettura. Il nostro cervello da lettori si costruisce quindi con l'aiuto di istruzioni genetiche identiche a quelle che, da decine di migliaia di anni permettevano ai nostri antenati cacciatori-raccoglitori di sopravvivere: condividiamo le emozioni di Nabokov e la teoria di Einstein con un cervello da primate, concepito per la sopravvivenza nella savana africana. Nulla, nella nostra evoluzione, ci ha preparati a ricevere informazioni linguistiche tramite la vista. Eppure, l'imaging cerebrale ci mostra, nel soggetto adulto, meccanismi altamente evoluti e adattati alle operazioni richieste dalla lettura". (S. Dehaene, I neuroni della lettura, Raffaello Cortina). In base a quanto sostiene l'autore del brano:"**

A La lettura è una capacità iscritta nel patrimonio genetico della specie umana
B La lettura è una capacità che non ha a che fare con nulla di genetico
C L'apprendimento della lettura utilizza un patrimonio genetico predisposto originariamente per altre funzioni

27) **Completare correttamente la seguente successione numerica: 30, 42, 36, ?, ?, 54, 48, 60**

A 48, 42
B 40, 52
C 58, 56

28) **L'idea che ci si fa dell'educazione e del compito dell'educatore dipende evidentemente dall'idea che si ha dell'uomo e del suo destino. Infatti, quando si opera nel campo della formazione degli uomini, se si vuole essere coerenti con se stessi, bisogna comportarsi in modo diverso secondo che si ammetta che l'uomo è questo o quello, che dev'essere questo o quest'altro. D'altra parte, gli stessi procedimenti che si pongono in atto per educare i fanciulli, l'intenzione da cui si è animati, l'orientamento che si cerca di fornire loro, contengono sempre, almeno implicitamente - anche quando non ce ne rendessimo del tutto conto - una determinata concezione dell'uomo e del suo destino. Così come, per coloro che son capaci di riflettere, nulla può meglio aiutarli a precisare tale concezione delle necessità con le quali si trovano alle prese e delle osservazioni cui sono sollecitati, allorché abbiano a che fare con l'educazione. Esiste insomma, tra l'educazione e la concezione dell'uomo, un rapporto che dovrebbe risultare difficile contestare". (L. Laberthonnière, Teoria dell'educazione e altri scritti pedagogici, La Scuola. Secondo l'autore del brano il compito educativo è direttamente connesso:"**

A alla casualità naturale
B alla visione antropologica dell'uomo
C alla concezione religiosa

29) **Quali tra i termini proposti completano correttamente la proporzione verbale: Rame : X = tedesco : Y?**

A X = legno;Y = swahili
B X = minerale;Y = dizionario
C X = metalli;Y = lingue

30) **<<I meteoriti sono oggetti solidi che dallo spazio cadono sulla Terra. La loro origine è legata alla presenza di comete o a piccoli pianeti (detti asteroidi localizzati tra Marte e Giove. Gli scienziati chiamano "meteora" la scia luminosa originata dal passaggio di porzioni di materiale meteorico nelle zone superiori dell'atmosfera terrestre. Normalmente questo materiale si consuma prima di arrivare a terra. È tradizione popolare chiamare questo fenomeno con il nome di 'stella cadente'. Alcune meteore molto luminose sono definite 'bolidi' che a volte cadono sulla Terra dando origine a crateri di impatto. I meteoriti altro non sono che frammenti di bolidi dispersi sulla Terra dopo l'impatto>>. Quale delle seguenti affermazioni è FALSA?**

A I bolidi sono dei meteoriti
B Le stelle cadenti si formano in seguito alla caduta di materiale meteorico
C L'origine dei meteoriti è legata agli asteroidi

31) **Per indicare qualcuno che, nell'intraprendere un'attività, anticipa inopportunamente qualcosa e non agisce secondo un ordine logico, si dice che:**

A va piano e va lontano.
B mette il carro avanti ai buoi.
C mette le mani avanti.

32) **Indicare quale, fra i termini proposti, completa logicamente la seguente proposizione verbale: mossa : coppa = fossa : X**

A X = bicchiere
B X = nave
C X = poppa

33) **Se Olga è più bassa di Marta ed Elisa è più alta di Olga:**

A È certo che Elisa sia più bassa di Marta e di Olga.
B Olga potrebbe essere più alta di Elisa.
C Elisa potrebbe essere più alta di Marta.

34) **Se "Stefano e Fabrizio amano i deserti", "Stefano e Fabrizio hanno attraversato molti deserti" e "il Sahara è il più affascinante dei deserti", si può logicamente concludere che:**

A Stefano e Fabrizio sicuramente hanno attraversato il Sahara.
B Non è possibile dire con certezza se Stefano e Fabrizio abbiano attraversato il Sahara.
C Stefano e Fabrizio non hanno mai attraversato il Sahara.

35) **Completare la successione numerica: 432;72;12;?**

A 16
B 8
C 2

36) **Tutti i dottori sono laureati;Antonella è una dottoressa;tutti i virologi sono dottori. Quale delle seguenti affermazioni è vera se le precedenti sono sicuramente vere?**

A Tutti i dottori sono virologi.
B Antonella è sicuramente una virologa.
C Antonella è laureata.

37) **In un'azienda che produce lavatrici. Il costo della produzione giornaliero di x lavatrici è, in euro, C(x = x2 - 30x, il prezzo di vendita è legato al numero di lavatrici vendute dalla funzione R(x) = 800 + 40x. Qual è il massimo numero di lavatrici che l'azienda può produrre giornalmente per non essere in perdita?**

A 70
B 35
C 80

38) **Se nessun macellaio è un vegano" e "alcuni bugiardi sono vegani", si può logicamente concludere che...."**

A Almeno alcuni bugiardi non sono macellai.
B Tutti i bugiardi sono macellai.
C Nessun vegano è un bugiardo.

39) **Marco, Silvia, Luca e Sara hanno sistemato i giardini dei loro vicini. Prima di iniziare hanno deciso di dividere tutti i soldi guadagnati equamente tra di loro. Marco ha guadagnato 10 euro, Silvia 5 e Luca 12. Sara ha guadagnato 33 euro e quindi deve dei soldi agli altri amici. Quanto deve ricevere Silvia da Sara?**

A 6
B 10
C 8

40) **Se in una zona la piovosità media è di 360 millimetri all'anno, quanto piove mediamente in due anni e cinque mesi?**

A 870 millimetri
B 940 millimetri
C 720 millimetri

41) **Quali, tra i termini proposti, completano correttamente la seguente proporzione verbale? Diamante : X = Y : rame**

A X = quarzo;Y = ferro
B X = minerale;Y = vegetale
C X = metallo;Y = miniera

42) **I meteorologi hanno rilevato che il periodo in cui è più probabile il manifestarsi di uragani è compreso tra le ore 15 e le ore 17, in coincidenza con le ore in cui la temperatura è più elevata. Ne consegue che:**

A gli uragani che si manifestano di mattina hanno scarsa intensità.
B gli uragani tendono a manifestarsi con il caldo.
C gli uragani più pericolosi si manifestano di pomeriggio.

43) **Quali, tra i termini proposti, completano correttamente la seguente proporzione verbale? Concitato : X = tranquillo : Y**

A X = ansioso;Y = angosciato
B X = esagitato;Y = turbato
C X = irrequieto;Y = placido

44) **Se: X - 1 + Y = Z - 6, X = 3 + Z Allora Y è uguale a:**

A -6
B 6
C -8

45) **Individuare il diagramma che soddisfa la relazione insiemistica esistente tra i termini dati: ISOLE, PENISOLE, STATI**

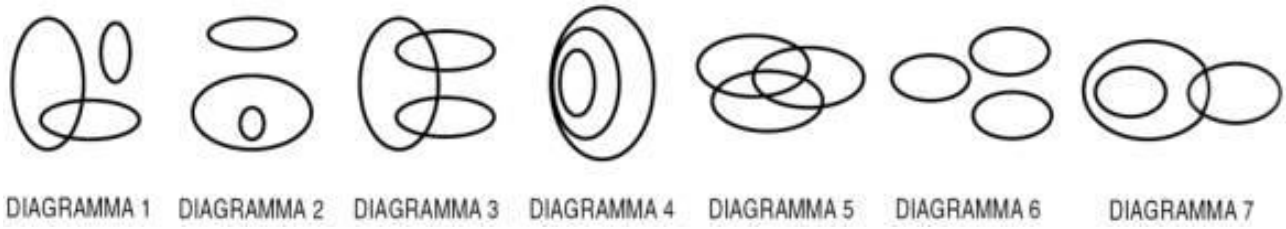

A Diagramma 1
B Diagramma 2
C Diagramma 3

46) **Individuare l'abbinamento da scartare.**

A quartiere - rione.
B borgo - contrada.
C città - campagna.

47) **Se "Piero è un convinto animalista" e "molti animalisti sono vegetariani", allora si può logicamente concludere che:**

A Non è possibile dire con certezza se Piero sia vegetariano.
B Piero non è sicuramente vegetariano.
C Piero è sicuramente vegetariano.

48) **Ricomporre correttamente la frase che e è stata divisa in cinque parti, che successivamente sono state mescolate e poi proposte in ordine casuale: [1 affermò che non avrebbe / 2 per risolvere quel caso. / 3 tralasciato nessun mezzo / 4 tra quelli a sua disposizione / 5 L'ispettore di polizia].**

A 5;1;3;4;2 .
B 3;5;2;1;4 .
C 4;1;5;2;3 .

---

49) **Quali, tra i termini proposti, completano correttamente la seguente proporzione verbale? Medico : X = Y : tribunale**

A X = accusati;Y = terapia
B X = ambulatorio;Y = giudice
C X = avvocato;Y = condanna

---

50) **Nel 1984 alcuni scienziati trovarono in Kenya uno scheletro di Homo Erectus ben conservato risalente a 1.600.000 anni fa. Lo scheletro apparteneva a un individuo dell'altezza di 1,82 metri. Le sue ossa, ritrovate in una palude, erano, per dimensione e per forma, come quelle di un uomo moderno. Sotto le ossa fu trovato materiale vulcanico derivante da un'eruzione avvenuta 1.650.000 anni fa. Quale delle seguenti affermazioni può essere ricavata dal testo?**

A L'uomo ha raggiunto le sue dimensioni attuali più di 1.500.000 anni fa
B La specie umana non esisteva 1,6 milioni di anni fa
C La specie umana ha avuto origine in Europa

---

51) **Completare correttamente la seguente successione numerica. 20,42,36,?,?,74,68,90**

A 30.52
B 48.62
C 58.52

---

52) **Un'azienda ha registrato nel passaggio dall'esercizio 2019 a quello 2020 un incremento del fatturato pari, in termini percentuali, al 15%. Sapendoche il valore del fatturato (in migliaia di euro nell'anno 2020 è stato pari a 345, determinare il valore del fatturato nell'anno 2019:**

A 285
B 305
C 300

---

53) **Gli esperti hanno escluso la possibilità che l'affresco non sia stato dipinto da Giotto. In base alla precedente argomentazione:**

A non si può dire se l'affresco sia stato dipinto da Giotto
B l'affresco non è stato dipinto da Giotto
C l'affresco è stato dipinto da Giotto

---

54) **Un fruttivendolo compra 500 kg di patate a 15 centesimi al kg e le rivende a 27 centesimi al kg. Quanto guadagna in totale?**

A 300 euro
B 90 euro
C 60 euro

---

55) **Se fata = 2;gnomo = 3;principe = 5;principessa = ?**

A 12
B 7
C 9

---

56) **Si dice che "è nell'occhio del ciclone" una persona che:**

A ottiene immeritatamente un privilegio.
B interviene continuamente in questioni che non la riguardano.
C si trova al centro di una vicenda che la espone alle critiche.

---

57) **Quale dei termini proposti, inserito tra le parentesi, assume un significato associabile sia al termine che precede che a quello che segue: FERROVIA (...) NUMERO**

A Carter.
B Vagone.
C Binario.

---

58) **Il lato di un quadrato misura 6 cm. Se un rettangolo è largo 3 cm e ha la stessa area del quadrato, quanto misura il perimetro?**

A 24 cm
B 18 cm
C 30 cm

---

59) **Indicare il termine che integra la serie: varietà - civiltà - felicità.**

A personalità.
B indole.
C carattere.

---

60) **Quali numeri e quali lettere rimangono dopo aver tolto dalla seguente stringa le lettere che compongono la parola FAVORI" e i numeri 3, 5, 7, 8?"123456789ABCDEFGHILMNOPQRSTUVZ""**

A 12569BCDEGHLMNPQSTUZ
B 12469BCDEGHLMNPQSTUZ
C 12469BCDGHILMNPQRSTUZ

---

61) **Indicare quale, fra i termini proposti, completa logicamente la seguente proposizione verbale: X : sintetico = reciso : Y**

A X = indeciso;Y = incerto
B X = conciso;Y = tagliato
C X = preciso;Y = ordinato

---

62) **L'espressione "stare all'erta" è ricollegabile all'idea di:**

A circuire, raggirare, ingannare.
B divertirsi, distrarsi, svagarsi.
C essere vigile, guardingo, diffidente.

---

63) **Indicare quale, fra i termini proposti, completa logicamente la seguente proposizione verbale: X : cavallo = colibrì : Y**

A X = cane;Y = gatto
B X = mosca;Y = rondine
C X = zebra;Y = aquila

---

64) **Se LIBRO = 5;EDITORE = 7, TIPOGRAFIA = ?**

A 9
B 10
C 7

---

65) **Tommaso, Paolo e Flavio hanno sposato Livia, Alice e Marcella, due delle quali sono tra loro sorelle. Paolo ha sposato la sorella di Alice. Flavio ha sposato Alice. Tommaso non è cognato di Paolo e Marcella non ha sorelle. Chi è la moglie di Paolo?**

A Marcella
B Alice
C Livia

---

66) **La frase "Dopo averlo lungamente osservato, ne ha stigmatizzato il comportamento nella sua opera" significa:**

A Qualcuno ha lodato entusiasticamente il comportamento di un'altra persona.
B Qualcuno ha vivamente criticato il comportamento di un'altra persona in una sua opera.
C Qualcuno ha proposto, in un suo scritto, di imitare il comportamento di un'altra persona.

---

67) **Se l'affermazione Tutti i sabati Paolo va in pizzeria e poi in discoteca" è FALSA, ne consegue che:"**

A qualche sabato non va né in pizzeria né in discoteca.
B qualche sabato non va in pizzeria o in discoteca.
C tutti i sabati va o in pizzeria o in discoteca.

---

68) **Relativamente alla sua funzione grammaticale il termine "mai" può essere inserito....**

A Nel gruppo formato da: tempo - durata - eternità.
B Nel gruppo formato da: dormire, aprire, scendere
C Nel gruppo formato da: sempre - forse - certamente.

---

69) **Se "lo sci è uno sport" e "Sergio non va a sciare", si può logicamente concludere che:**

A Sergio non va mai in montagna.
B Nessuna delle altre risposte contiene conclusioni che possono essere logicamente dedotte dalle due affermazioni proposte.
C Sergio non ama la montagna.

---

70) **Se: X - 8 = 4Y, X = 0 Allora Y è uguale a:**

A -4
B -2
C 2

71) **Indicare quale, fra i termini proposti, completa logicamente la seguente proposizione verbale: ATTONITO : STUPITO = INDIFFERENTE :?**

A impassibile.
B smarrito.
C basito.

72) **Pamela, Fiona e Gina, tre ragazze newyorkesi, stanno prendendo il sole in una piscina della loro città;Pamela indossa un costume intero, Fiona legge un libro, Pamela e Gina sono cugine. In base alle affermazioni precedenti è possibile concludere che:**

A Fiona è una studentessa universitaria
B Pamela e Fiona sono cugine
C a Roma non sono le nove del mattino

73) **Se Vittorio è pieno di alterigia si può dire che:**

A Vittorio è alterato.
B Vittorio è schivo.
C Vittorio è altezzoso.

74) **Un dipinto con un prezzo di listino pari a 6000 euro viene venduto a un prezzo diminuito dei 2/5. A quanto ammonta lo sconto?**

A 1200
B 3600
C 2400

75) **È stato dimostrato che nella società odierna la diminuzione del tempo trascorso a casa provoca un sensibile aumento dei dissidi tra genitori e figli. È dunque evidente che la mancata corrispondenza tra le esigenze familiari e gli impegni in società e/o nel lavoro è una delle cause dei dissidi tra genitori e figli. La conclusione precedente si basa sulla premessa implicita che:**

A in famiglia sono sempre più frequenti le liti fra genitori e figli.
B la mancata corrispondenza tra le esigenze familiari e gli impegni in società e/o nel lavoro è una delle cause della diminuzione del tempo trascorso a casa.
C gli impegni in società e nel lavoro mal si conciliano con le esigenze familiari.

76) **Scegliere tra le alternative proposte, quella che completa correttamente la frase "non saresti rimasto così deluso....".**

A se avessi fatto del tuo meglio
B Se avresti fatto del tuo meglio.
C Se facevi del tuo meglio.

77) **Se Aldo è più attento di Paolo e Gigi è più distratto di Aldo:**

A certamente Paolo e Gigi sono sempre distratti.
B Paolo e Gigi potrebbero essere ugualmente distratti.
C è da escludere che Paolo sia più distratto di Gigi.

78) **Il termine LIBERISMO appartiene al lessico....**

A della letteratura.
B della matematica.
C dell'economia.

79) **Quale delle seguenti coppie di vocaboli integra correttamente la serie: Il busto-la busta / Il calo-la cala / Il porto-la porta/ ..?..**

A Il mento-la menta.
B L'avvocato -l'avvocatessa.
C Il gallo-la gallina.

80) **Sono sempre più numerosi i passeggeri che scelgono di viaggiare in aereo con compagnie low cost per la loro convenienza economica, seppur consapevoli del fatto che il trasporto aereo causa notevoli danni ambientali. Tale convenienza è, però, illusoria. Le compagnie low cost attirano i clienti pubblicizzando tariffe a prezzi apparentemente molto convenienti, ma oltre alla tariffa base, i passeggeri devono poi pagare molti servizi considerati essenziali, quali l'imbarco dei bagagli e i posti a sedere riservati. Si è persino ipotizzato che i passeggeri paghino per l'utilizzo dei servizi igienici a bordo. Quale delle seguenti affermazioni è totalmente sostenuta dal brano?**

A Rispetto alle compagnie tradizionali i voli delle compagnie low cost causano meno danni all'ambiente.
B Le compagnie aeree low cost sono più convenienti economicamente delle compagnie tradizionali
C Le compagnie aeree low cost non sono così convenienti economicamente come pubblicizzato

81) **Il numero in cifre romane MDLXVIII corrisponde a:**

A 1069
B 1568
C 1853

---

82) **Se Ettore si comporta con grazia esagerata e innaturale che riesce perciò inopportuna e fastidiosa posso affermare che....**

A Ettore è brusco.
B Ettore non è il tipo da fare smancerie.
C Ettore è lezioso.

---

83) **ACCINGERSI sta ad APPRESTARSI come DESISTERE sta a:**

A intraprendere
B proseguire
C interrompere

---

84) **Completare correttamente la seguente proporzione: animale : minerale = x : y**

A foglia - roccia
B albero - cane
C verme - sale

---

85) **"L'inflazione consiste in un generale aumento dei prezzi nominali, accompagnato da una svalutazione della moneta. Quale tra le seguenti affermazioni è deducibile dalla frase precedente? "**

A L'aumento dei prezzi nominali è una causa della svalutazione della moneta
B Esiste una concomitanza tra inflazione e svalutazione
C La svalutazione è una conseguenza dell'inflazione

---

86) **Quali, tra i termini proposti, completano correttamente la seguente proporzione verbale? Superiore : supremo = X : Y**

A X = esteriore Y = estremo
B X = alto Y = infimo
C X = finale Y = terminale

---

87) **Indicare quale dei seguenti termini può essere considerato parte della serie: spargere - sparpagliare - disperdere.**

A Eliminare
B Conferire
C Disseminare

---

88) **Indicare quale, tra quelli proposti, il sinonimo dell'aggettivo caustico"."**

A Puro.
B Mordace.
C Classista.

---

89) **Quale tra le seguenti espressioni ha significato contrario di "avere fegato"?**

A Essere insolente.
B Essere prode.
C Essere pavido.

---

90) **Individuare la coppia di termini antitetici che NON è grammaticalmente coerente con le altre:**

A accordo - disaccordo
B flemma - foga
C coraggio - audacia

---

91) **Quale gruppo di lettere, premesso in sequenza ai termini proposti, determina parole di senso compiuto? ALDO - AGLIO - ALGA - ALLA - VALLO.**

A B - T - M - A - P
B T - B - M - E - A
C B - T - M - P - A

---

92) **In base all'affermazione: "L'ipotesi A è condizione necessaria e sufficiente perché una data conseguenza B si verifichi", quale delle seguenti affermazioni è vera?**

A B può verificarsi anche se non risulta verificata l'ipotesi A
B B può non verificarsi anche se risulta verificata l'ipotesi A
C B si verifica solo quando risulta verificata l'ipotesi A

---

93) **Tizio e Caio devono ricevere una certa quantità di farmaco, in maniera da avere una quantità di principio attivo proporzionale al proprio peso corporeo. Tizio pesa 50 kg, Caio pesa 60 kg. Due flaconi identici di farmaco contengono, complessivamente, la dose totale necessaria per il fabbisogno di entrambi. Qual è la dose esatta da somministrare a Caio?**

A Un flacone intero e un quarto dell'altro flacone
B Un flacone intero e un undicesimo dell'altro flacone
C Un flacone intero e un quinto dell'altro flacone

---

94) **"Vittorio ha 50 CD di musica rock e 41 CD di musica jazz suddivisi in 10 ripiani di un mobile porta-CD". Quale delle seguenti affermazioni è sicuramente vera?**

A In ogni ripiano ci sono almeno 8 CD
B Esiste almeno un ripiano in cui ci sono più di 9 CD
C Esiste almeno un ripiano in cui ci sono esattamente 5 CD di musica jazz

---

95) **Alla finale di una gara di automobilismo la classifica dal 1° al 7° posto è la seguente: Alessandro, Federico, Iris, Bruno, Cesare, Elisa, Gianna. Cinque di questi sette piloti indossano il casco integrale e si sa che a indossarlo sono tre tra i primi quattro classificati e tre tra gli ultimi quattro classificati. Si può essere certi che a indossare il casco integrale è:**

A Gianna
B Alessandro
C Bruno

---

96) **Indicare quale, fra i termini proposti, completa logicamente la seguente proposizione verbale: ATTIGUO : LIMITROFO = LONTANO : ?**

A distante
B circostante
C prossimo

---

97) **"Sara sostiene che tutti gli studenti di medicina hanno frequentato il liceo scientifico". Quale delle seguenti condizioni è necessario si verifichi affinché l'affermazione di Sara risulti FALSA?**

A Deve esistere almeno uno studente di medicina che non ha frequentato il liceo scientifico
B Nessuno studente di medicina deve aver frequentato il liceo scientifico
C Deve esistere almeno uno studente che ha frequentato il liceo scientifico ma che non è iscritto a medicina

---

98) **Francesco possiede un numero di biglie compreso tra 70 e 80. Se si contano a due a due ne avanza una, mentre se si contano a tre a tre non ne avanza nessuna. Le biglie sono:**

A 75
B 71
C 73

---

99) **Completare la seguente serie: VANITOSO, TRACOTANTE, ARROGANTE, BORIOSO, ...**

A GARBATO. PRESUNTUOSO
B DEFERENTE
C PRESUNTUOSO

---

100) **Completare la successione numerica: 23 3 69 33 ? 99**

A 3
B 9
C 6

---

101) **Indicare l'alternativa da scartare.**

A Evidente
B Sibillino
C Perspicuo

---

102) **Indicare quali tra i termini proposti completano correttamente la proporzione verbale: vino : X = olio: Y?**

A X = uva;Y = oliva
B X = vigna;Y = botte
C X = vitigno;Y = fiore

---

103) **Se piove Antonio non esce con il gommone. Se la precedente affermazione è vera, è anche vero che:**

A Quando piove Antonio esce sempre con il gommone.
B Antonio non esce con il gommone solo quando piove.
C Se Antonio non esce con il gommone significa che piove.

104) **Completare la frase seguente con l'aggettivo più appropriato: nel giardino fiorito il profumo dei gelsomini era_____**

A amaro.
B lucente.
C penetrante.

105) **Completare correttamente la seguente successione numerica. 70;50;?;40;?;30**

A 20;80
B 60;50
C 40;70

106) **Inserire i termini mancanti della proporzione: X : carie = oculista : Y**

A X = infermiere Y = insegnante
B X = odontoiatra Y = miopia
C X = psichiatra Y = medicine

107) **Individuare la sillaba che, posposta a MATTO , forma un vocabolo di senso compiuto:**

A FE
B BO
C NE

108) **Il termine "vetusto" è associabile a:**

A nascosto, inaccessibile.
B antico, vecchio
C soleggiato, splendente.

109) **Completare correttamente la successione numerica: 25 ? 61 79 97 ?**

A 42;112
B 46;114
C 43;115

110) **I telefoni cellulari mettono in comunicazione gli utenti valendosi dell'emissione di microonde, le stesse che permettono ai forni a microonde di cuocere gli alimenti: da qui il timore che esse possano agire allo stesso modo sull'orecchio e sul cervello dei maniaci del telefonino. La potenza di un forno a microonde è però di parecchie centinaia di watt, quella di un telefonino non supera mai i due watt. Per fare chiarezza sono stati condotti degli studi scientifici, finanziati in particolare dai costruttori di telefonini e dagli operatori della telefonia mobile, preoccupati di mettere fine alle voci. Anni di ricerche di dosimetria hanno dimostrato che i telefonini non provocano alcun riscaldamento di tessuti. L'assenza di riscaldamento potrebbe però essere una semplice conseguenza dell'attivazione del sistema di termoregolazione del corpo umano: la circolazione sanguigna si intensificherebbe e agirebbe come un circuito di raffreddamento. Questa attivazione sarebbe generatrice di stress e potrebbe, a lungo termine, indurre altri effetti biologici. Ma per il momento nessuno di questi effetti è stato riscontrato. Secondo quanto riportato nel brano, relativamente alle microonde emesse dai telefonini, si può affermare con certezza:**

A che stimolano l'attivazione del sistema di termoregolazione del corpo umano.
B che il loro effetto finale non è il riscaldamento dei tessuti.
C che aumentano il numero di rotture delle molecole di DNA.

111) **Mara ha più di cinquant'anni;tutte le persone che hanno le rughe hanno più di cinquant'anni;le persone che non hanno le rughe sono allegre. Se le precedenti affermazioni sono vere, allora NON si può affermare con certezza che:**

A Mara potrebbe avere le rughe.
B Possono esserci persone con più di cinquant'anni che non hanno le rughe.
C Mara ha le rughe e non è una persona allegra.

112) **Individuare la sillaba che, preposta a VANDA, dà una parola di senso compiuto:**

A MO
B LA
C FU

113) **Completare correttamente la seguente successione di lettere, utilizzando l'alfabeto italiano: D;T;E;R;F;P;G;?**

A N
B P
C O

114) **Volendo piantare degli alberi lungo un viale, se si lascia fra un albero e l'altro una distanza di 8 metri sono necessari 50 alberi. Quanti ne occorrerebbero se la distanza tra 2 alberi consecutivi aumentasse di 2 metri?**

A 25
B 30
C 40

115) **Completare correttamente la seguente successione numerica: 1;2;3;6;7;14;15;30;?;62**

A 31
B 29
C 61

116) **Se: TZ + WK = -TZ - VJ + 1 WK = -14 VJ = -13 Allora TZ è uguale a:**

A 7
B 14
C -14

117) **Individuare il diagramma che soddisfa la relazione insiemistica esistente tra i termini dati: SPORTIVI, CITTADINI EUROPEI, PERSONE BIONDE**

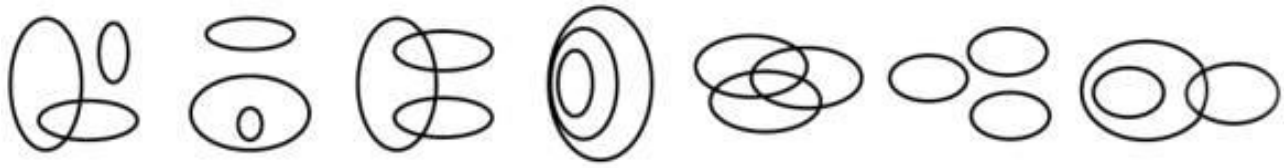

DIAGRAMMA 1 DIAGRAMMA 2 DIAGRAMMA 3 DIAGRAMMA 4 DIAGRAMMA 5 DIAGRAMMA 6 DIAGRAMMA 7

A Diagramma 3
B Diagramma 4
C Diagramma 5

118) **Completare correttamente la seguente successione numerica: 56;26;28;22;14;18;7;?**

A 14
B 12
C 10

119) **Tutti coloro che hanno un diploma possono partecipare alla selezione. Filippo è un architetto. Tutti gli architetti hanno un diploma. Se le precedenti informazioni sono corrette, quale delle seguenti affermazioni NON rappresenta una conclusione corretta?**

A Chi non può partecipare alla selezione non può essere un architetto.
B Coloro che possono partecipare alla selezione sono architetti.
C Filippo ha un diploma

120) **Se: X + X + Y = -5Y, X = 3 Allora Y è uguale a:**

A 1
B -1
C -2

121) **Se PAC significa cifra (singola divisibile per 4, PIC significa cifra (singola divisibile per 7 e PEC significa cifra (singola divisibile per 3, allora con quale scrittura può essere espresso il numero 89?**

A PEC PIC
B PAC PEC
C PIC PEC

122) **Completare la seguente successione, utilizzando l'alfabeto italiano: P;107;U;94;C;81;?;?**

A F;87
B H;72
C H;68

123) **Quali consonanti, anteposte al gruppo di lettere ASSO, formano parole di senso compiuto?**

A M - P - S - T
B D - F - N - V
C C - G - N - Z

124) **"Tutti i pompieri sono coraggiosi. Tutti i marinai sono coraggiosi. Tutti i marinai amano il mare". Se le precedenti informazioni sono corrette, quale delle seguenti informazioni addizionali consentirebbe di concludere che tutti i pompieri amano il mare?**

A Tutti i marinai sono anche pompieri
B Tutte le persone coraggiose amano il mare
C Tutti i pompieri sanno nuotare

---

125) **Quali tra i termini proposti completano correttamente la seguente proporzione? Serpente : X = mela : Y**

A X = Eva;Y= Eden
B X = rettile;Y = frutto
C X = albero;Y= animale

---

126) **Un tappezziere possiede 2 rotoli di carta lunghi rispettivamente 55 e 95 metri. Tagliando da essi alcuni pezzi, tutti della stessa lunghezza, gli avanzano 3 metri dal primo rotolo e 4 metri dal secondo. Quanti pezzi della stessa lunghezza ha tagliato in tutto?**

A 11
B 13
C 15

---

127) **Alla stazione ferroviaria di Roma, il treno per Milano parte 1 ora e 20 minuti prima di quello per Genova. Quest'ultimo parte 70 minuti dopo quello per Palermo, per prendere il quale i viaggiatori del treno proveniente da Torino e diretto ad Ancona hanno solo 5 minuti di tempo. Sapendo che tutti i treni in transito da Roma si fermano in stazione almeno 10 minuti e non più di 20, in quale ordine partono i treni per Milano, Genova, Palermo e Ancona?**

A Milano, Palermo, Ancona, Genova
B Palermo, Milano, Ancona, Genova
C Ancona, Milano, Palermo, Genova

---

128) **Indicare quale dei seguenti termini può essere considerato parte della serie somiglianza - similitudine - affinità - analogia, ...""**

A attinenza
B dissomiglianza.
C estraneità

---

129) **Giorgio, animatore di un villaggio turistico, ha organizzato per gli ospiti un torneo di pallavolo con 8 squadre ciascuna formata da un ugual numero di ospiti (e comunque maggiore di 6 . Se finora 47 sono le persone iscritte, qual è il numero minimo di persone che si devono ancora iscrivere per poter effettuare il torneo?**

A 7
B 9
C 13

---

130) **Individuare l'abbinamento errato.**

A Leopardi - L'infinito
B Pascoli - I Sepolcri
C D'Annunzio - La sera fiesolana

---

131) **Completare correttamente la seguente successione numerica: 12;21;19;17;26;13;?;?**

A 33;11
B 33;9
C 9;32

---

132) **"Tutti i sigma sono lambda; tutti gli omega sono sigma; tutti i lambda sono delta". In base alle precedenti affermazioni, quale delle seguenti NON è necessariamente vera?**

A Tutti i sigma sono delta
B I non lambda sono non delta
C I non lambda sono non delta

---

133) **Quali dei seguenti gruppi sillabici devono essere inseriti in sequenza perché le parole che seguono abbiano senso compiuto? APP(...)TIRE - ILL(...)RATO - QUE(...)RINO**

A (IAT) - (SUT) - (STU).
B (IAT) - (UST) - (STU).
C (IAT) - (UST) - (TSU).

---

134) **A un corso di laurea sono iscritti 235 studenti, di cui 183 maschi, 190 miopi, 204 castani e 214 in corso. Qual è il numero minimo di uomini miopi?**

A 152
B 52
C 138

---

135) **La telefonia mobile è per gente che si muove. Non perdi mai di vista il tuo cellulare. La tua tuta da jogging è dotata di una tasca speciale per il cellulare, e non lasceresti mai quella tasca vuota così come non andresti mai a correre senza le tue scarpette. Di fatto, senza il cellulare non andresti da nessuna parte (nessuna parte" è di fatto lo spazio senza un cellulare, oppure con un cellulare fuori campo o con la batteria scarica. E una volta che hai il cellulare al tuo fianco non sei mai fuori o via. Sei sempre dentro - mai però bloccato in un singolo posto. Avvolto in una fitta rete di chiamate e messaggi, sei invulnerabile. Chi ti sta intorno non può estrometterti da nulla, e qualora ci provasse, non cambierebbe nulla di veramente importante. Non importa in che luogo ti trovi, chi è la gente che ti sta intorno e cosa stai facendo in quel luogo con quella gente. La differenza tra un posto e un altro, tra un gruppo di persone e un altro, è stata cancellata, azzerata. Sei l'unico punto stabile nell'universo degli oggetti in movimento - e altrettanto lo sono (grazie a te, grazie a te! le tue diramazioni: le tue connessioni. Le connessioni restano inalterabili nonostante il fatto che chi vi è connesso si sposta. Le connessioni sono solide rocce circondate da sabbie mobili. Ci puoi contare - e poiché ti fidi della loro solidità, puoi smettere di preoccuparti di quanto fangoso o infido e viscido sia il terreno sotto i tuoi piedi nel momento in cui si invia o si riceve una chiamata o un messaggio. (Zygmunt Bauman, Amore Liquido, Laterza). L'autore definisce "nessuna parte":"**

A l'universo degli oggetti in movimento.
B il terreno fangoso sotto i piedi.
C lo spazio senza un cellulare.

---

136) **Per piastrellare una parete si dispongono 9 file da 16 piastrelle. Utilizzando lo stesso numero di piastrelle, disponendone solo 12 per fila, quante file si potrebbero formare?**

A 12 file
B 13 file
C 10 file

---

137) **Due colleghi che viaggiano per lavoro si incontrano a Milano il 21 marzo. Il primo passa per la città ogni 24 giorni, il secondo ogni 30. In quale data i due si incontreranno di nuovo.**

A 24 Maggio
B 21 Giugno
C 19 Luglio

---

138) **Se l'affermazione tutte le medicine fanno bene alla salute" è vera, allora è anche vero che:"**

A nessuna medicina fa bene alla salute.
B non esiste alcuna medicina dannosa per la salute.
C alcune medicine sono dannose per la salute.

---

139) **Completare correttamente la successione numerica: 7, 21, 10, 30, 19, 57, ?, ?**

A 56;138
B 46;128
C 46;138

---

140) **Un gioco ha le seguenti regole: se un numero è divisibile per 5 vale 5 punti;se è divisibile per 3 vale 4 punti. In base a tali regole, quale dei seguenti numeri vale di più?**

A 55
B 43
C 76

---

141) **Se GAP significa cifra (singola divisibile per 7, GUP significa cifra (singola divisibile per 5 e GEP significa cifra (singola divisibile per 4, allora con quale scrittura può essere espresso il numero 48?**

A GEP GEP
B GUP GEP
C GAP GAP

---

142) **Le piastrelle (quadrate del pavimento (rettangolare di un locale di dimensioni 4 x 6 = 24 metri sono costate complessivamente 600 euro. Sapendo che il costo unitario delle piastrelle è di 4 euro, quanto misura il lato della piastrella?**

A 40 cm
B 30 cm
C 50 cm

---

143) **Individuare, l'alternativa che completa correttamente la seguente serie di numeri: 5;14;41;122;?**

A 244
B 366
C 365

144) **Individuare la parola da scartare:**

A positivismo
B realismo
C strabismo

145) **Un pacchetto azionario dal costo di 10.000 euro ha fruttato il primo anno il 20%, il secondo il 50% e il terzo il 10%. Qual è il valore finale del pacchetto?**

A 18.000 euro
B 18.600 euro
C 19.800 euro

146) **L'indagine della procura non ha consentito di dimostrare l'impossibilità che il crollo del ponte sia avvenuto per cedimento strutturale. Qual è il corretto significato della precedente affermazione?**

A L'indagine della procura non ha dimostrato che il crollo del ponte non è avvenuto per cedimento strutturale.
B È impossibile che il crollo del ponte sia avvenuto per cedimento strutturale.
C L'indagine della procura ha dimostrato che il crollo del ponte non può essere avvenuto per cedimento strutturale.

147) **Un sinonimo di alacre" è:"**

A attivo.
B timido.
C forbito.

148) **Se realtà = 12, calamità = 16, città = 10, verità = ?**

A 18
B 16
C 12

149) **Se in Polinesia aumentasse il numero di aziende operanti sul territorio, sicuramente il tasso di disoccupazione locale diminuirebbe. L'anno scorso il tasso di disoccupazione della Polinesia è diminuito di 3 punti percentuali rispetto all'anno precedente. Se le precedenti affermazioni sono vere allora:**

A tre anni fa la disoccupazione in Polinesia era inferiore di 3 punti percentuali rispetto all'anno scorso.
B sicuramente in Polinesia, l'anno scorso, è aumentato il numero di aziende operanti sul territorio.
C è possibile che in Polinesia, l'anno scorso, sia aumentato il numero di aziende operanti sul territorio.

150) **Mario è nato martedì 8 febbraio. Luisa è nata mercoledì 8 marzo, nello stesso anno. Di quale anno potrebbe trattarsi?**

A 1982
B 1994
C 1992

151) **Indicare quali tra i termini proposti completano correttamente la proporzione verbale: latte : X = miele: Y?**

A X = capra;Y = ape
B X = minerale;Y = fiore
C X = legno;Y = pecora

152) **Individuare il diagramma che soddisfa la relazione insiemistica esistente tra i termini dati: ITALIANI, CICLISTI, APPASSIONATI DI FORMULA 1**

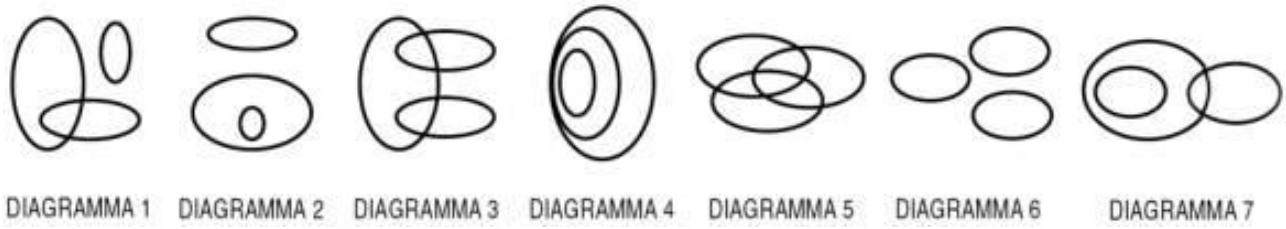

A Diagramma 2
B Diagramma 1
C Diagramma 5

153) Solo se il ragno tesse la tela, la farfalla cade nella rete. In base alla precedente affermazione, è necessariamente vero che:

A se il ragno tesse la tela, sicuramente la farfalla cade nella rete.
B se il ragno non tesse la tela, la farfalla non cade nella rete.
C è possibile che la farfalla cada nella rete anche se il ragno non tesse la tela.

---

154) Completare correttamente la accessione numerica: ? 24 31 40 47

A 5
B 10
C 15

---

155) Esistono più di mille specie di uccelli acquatici. Tra gli uccelli acquatici solo le specie pelagiche trascorrono tutta la loro vita, esclusa l'epoca della riproduzione, nell'acqua". Dalle precedenti affermazioni si può dedurre che:"

A la maggioranza degli uccelli vive in prossimità dell'acqua.
B gli uccelli acquatici vivono tutta la loro vita nell'acqua.
C nessuna specie di uccelli pelagici si riproduce nell'acqua.

---

156) Un gruppo di quattro amici presenta le seguenti caratteristiche: 1 Franco è nato a Gorizia e studia a Pordenone;2 I genitori di Giacomo lavorano a Udine;3 Ilario risiede a Trieste;4 Mario fa il pendolare tra Gorizia e Trieste. Pertanto:

A è certo che almeno tre amici siano residenti nel Friuli-Venezia Giulia.
B non è certo che tutti gli amici siano residenti nel Friuli-Venezia Giulia.
C è possibile che nessuno dei quattro amici sia nato nel Friuli-Venezia Giulia.

---

157) Completare correttamente la seguente successione numerica: 16;36;76;156;316;636;?

A 1278
B 1282
C 1276

---

158) Individuare la riga che contiene un numero di x" uguale al numero di "+"."

A +xxx+xx+xx+++xx+x++
B ++xxx+x++xx+xx++
C +++++xxxxx+xxx+x+

---

159) A quale dominio tra quelli proposti appartiene il termine solstizio"?"

A Zoologia.
B Astronomia.
C Botanica.

---

160) Completare la seguente successione numerica: 22;44;26;38;30;32;?;?

A 34;28
B 34;26
C 36;26

---

161) All'affermazione Chi dorme non piglia pesci" segue logicamente che:"

A il sonno e la veglia sono del tutto irrilevanti sulla quantità dei pesci pescati.
B chi piglia pesci non dorme.
C chi non dorme piglia pesci.

---

162) Stefano è appassionato di giardinaggio;tutti gli appassionati di giardinaggio amano la natura;alcuni floricoltori sono appassionati di giardinaggio. Se le precedenti affermazioni sono vere, quale delle seguenti è sicuramente vera?

A Stefano è un floricoltore.
B Tutti i floricoltori amano la natura.
C Stefano ama la natura.

---

163) Completare correttamente la seguente successione numerica: 19;22;31;58;?

A 139
B 81
C 174

---

164) Il verbo procrastinare" significa:"

A rimandare, rinviare
B richiamare alla memoria, ricordare.
C protestare, lamentarsi

165) Individuare la riga che contiene il minor numero di lettere J.

A HSFOJYTYUTJ9JJ6583J
B UUU34JUJFDJ909UJ1324UU663
C CFJJGXZJ12J4568JJSGAJ

166) Determinare l'elemento mancante nella seguente serie: ;4;?;8;N;12;R;?

A H;16
B H;8
C F;18

167) Completare la seguente successione: 1, 4, 10, 22, 46, ...

A 94
B 90
C 84

168) I leoni amano gli elefanti;gli elefanti amano le giraffe;le giraffe amano gli scoiattoli. Se le precedenti affermazioni sono vere, quale delle seguenti è sicuramente vera?

A i leoni amano le giraffe
B nessuna delle affermazioni riportate dalle altre opzioni è vera
C le giraffe amano i leoni

169) Individuare il termine da scartare:

A cubismo
B monoteismo
C espressionismo

170) Con il termine insipiente ci si riferisce:

A a una persona priva di serietà e consistenza intellettuale.
B a un rimedio infallibile, quasi miracoloso.
C a un cibo privo di sapore.

171) Completare correttamente la successione numerica: 9;27;18;54;?;135;?;378

A 45;126
B 100, 107
C 55;128

172) Quale gruppo di consonanti, anteposte al gruppo di lettere ASSO, formano parole di senso compiuto?

A G - F - N - V
B L - M - P - S
C D - N - V - Z

173) Posti A = {7, 8, 9} e B = {8, 9, 10}, qual è l'insieme risultante dall'intersezione di A e B?

A {7, 8, 9, 10}
B {7, 8, 9}
C {8, 9}

174) Quali dei seguenti gruppi sillabici devono essere inseriti in sequenza perché le parole che seguono abbiano senso compiuto? AGG(...))TARE - IDE(...) AMMA - QUA(...))NQUE

A (IUS) - (OGR) - (NTU) .
B (IUS) - (GOR) - (NTU) .
C (IUS) - (GRO) - (NTU) .

175) Completare la seguente proporzione: apatico : X = indolente : coscienzioso : ?

A solerte
B noncurante
C inerte

176) Tra le alternative proposte, scegliere quella che completa correttamente la frase "Se avessi il libro di scienze, _____ molto volentieri , ma purtroppo l'ho lasciato a scuola".

A studierei
B studiassi
C avessi studiato

177) **Completare correttamente la seguente successione: DCF - 436 . HCC - ? . CHD - 384**

A 544
B 833
C 622

178) **Un giocatore vince al lotto 12.000 euro. Il primo giorno ne spende 1/5 e il secondo giorno 2/3 della quantità rimasta. Con quanti euro si ritrova il terzo giorno?**

A 3200
B 3000
C 2800

179) **Fare il doppio gioco sta a ingannare" come "mettere la pulce nell'orecchio" sta a:"**

A infierire
B insospettire
C interrompere

180) **Relativamente alla sua funzione grammaticale il termine "certamente" può essere inserito:**

A nel gruppo formato da: certo - probabile - presumibile - .
B nel gruppo formato da: finire - correre - lavorare.
C nel gruppo formato da: presto - quasi -adesso

181) **Un aereo parte dall'aeroporto della città Alpha alle 9 (ora locale e arriva all'aeroporto della città Beta alle 12 (ora locale . Riparte da Beta dopo 4 ore e atterra all'aeroporto di Alpha alle 23 (ora locale . Le città Alpha e Beta hanno un fuso orario diverso e la durata del volo di andata è la stessa di quella del volo di ritorno. Se ad Alpha è mezzogiorno, che ore sono a Beta?**

A le 16
B le 14
C le 10

182) **Il numero medio di libri venduti ogni bimestre dalla libreria Branco è pari a 240. Quanti sono i libri venduti mediamente in 15 mesi?**

A 1.6
B 1.75
C 1.8

183) **Quale diagramma rappresenta l'insieme ANIMALI, VEGETALI, MINERALI?**

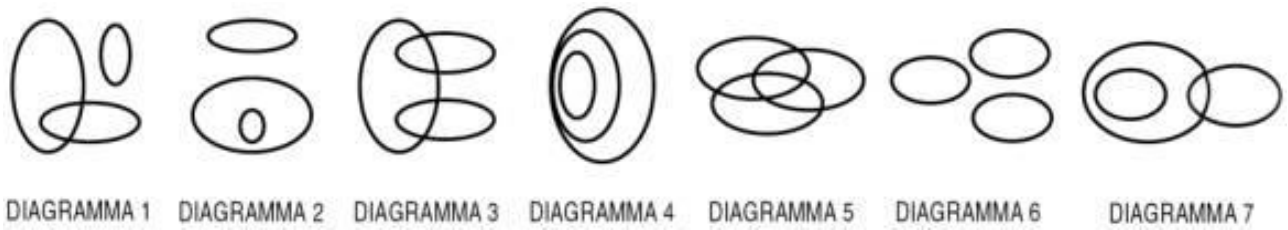

A Diagramma 2
B Diagramma 4
C Diagramma 6

184) **Giacomo e Simone hanno fatto merenda. Giacomo ha mangiato metà dei biscotti preparati dalla loro mamma e Simone ha mangiato un terzo dei biscotti rimanenti più altri quattro. Sapendo che non è rimasto neanche un biscotto, quanti biscotti aveva preparato la mamma?**

A 24 biscotti
B 10 biscotti
C 12 biscotti

185) **Un gruppo di 11 amici festeggia in un ristorante il compleanno di uno di loro. Quando il cameriere porta il conto, calcolano che ciascuno dovrebbe pagare 20 euro. Tuttavia decidono di non far pagare il festeggiato: quindi quanto dovrà spendere ciascuno degli altri amici?**

A 21 euro
B 22 euro
C 11 euro

186) **ADUNCO sta a UNCINATO come DRITTO sta a:**

A rettilineo.
B ritorto.
C aquilino.

187) **Individuare l'abbinamento errato.**

A Roma - Teatro alla Scala
B Venezia - Teatro La Fenice
C Torino - Teatro Regio

188) **L'affermazione: "Su ogni tavolo ci sono bicchieri" è falsa. Allora è vero che:**

A ogni tavolo è senza bicchieri
B ci sono tavoli con due o più bicchieri
C c'è un tavolo senza bicchieri

189) **Relativamente alla sua funzione grammaticale il vocabolo "imminente" può essere inserito....**

A Nel gruppo formato da: naturalmente - facilmente - spesso.
B Nel gruppo formato da: agile - subitaneo - improvviso.
C Nel gruppo formato da: avere, carpire, conquistare.

190) **Indicare il numero che continua la serie: 24 19 14 9 ?**

A 4
B 10
C 7

191) **Indicare la figura da scartare.**

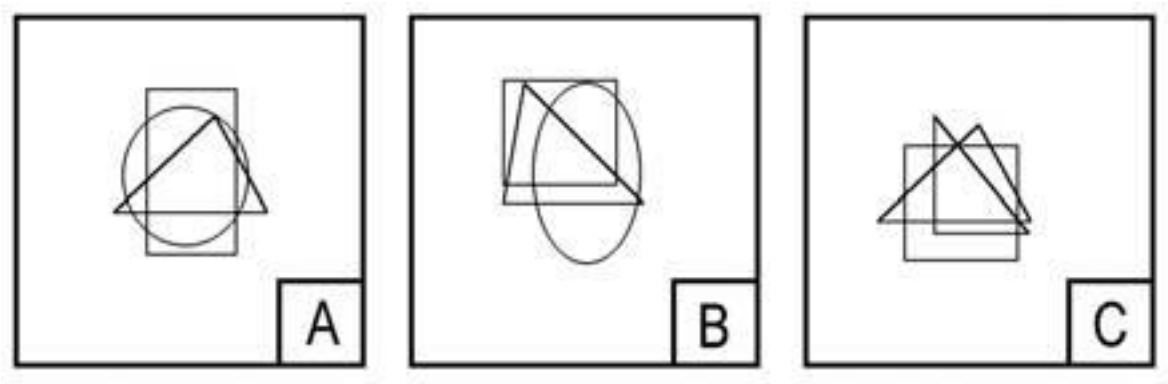

A La figura B
B La figura C
C La figura A

192) **Un parallelepipedo di legno, che misura 15 x 8 x 16 cm, è dipinto di blu sulla superficie esterna. Se viene suddiviso in 1920 cubetti di 1 cm di lato ciascuno, quanti di questi avranno almeno una faccia dipinta di blu?**

A 868
B 828
C 886

193) **Permafrost è un termine che appartiene al lessico:**

A della sociologia.
B della biologia.
C della geografia

194) **"Tutte le volte che accompagno mia figlia a scuola arriviamo in ritardo". Se la precedente affermazione è FALSA, quale delle seguenti è certamente vera?**

A Almeno una volta ho accompagnato mia figlia a scuola e non siamo arrivati in ritardo.
B Tutte le volte che ho accompagnato mia figlia a scuola siamo arrivati puntuali.
C Almeno una volta ho accompagnato mia figlia a scuola e siamo arrivati in ritardo.

195) **Completare correttamente la accessione numerica: ? G F, E, D, C, ?**

A B;A
B L;I
C H;B

196) **Una moto viaggia alla velocità di 60 km/h, ma dopo un certo periodo deve ridurre la propria velocità del 30%. A quale velocità viaggia ora la moto?**

A 24 km/h
B 42 km/h
C 40 km/h

---

197) **Completare correttamente la accessione numerica: 128 36 16 18 ? 9**

A 2
B 8
C 12

---

198) **Quali, tra i termini proposti, completano correttamente la seguente proporzione verbale? abile : incapace = X : Y**

A X = impervio;Y = impermeabile
B X = calmo;Y = impulsivo
C X = complesso;Y = semplice

---

199) **Completare la accessione numerica: 720;144 ? 12;6**

A 28
B 40
C 36

---

200) **Quale cubo si ottiene piegando la figura a lato?**

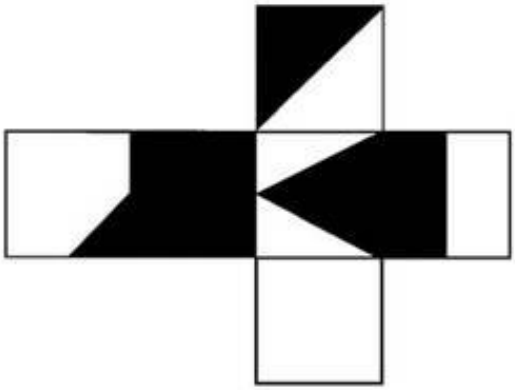

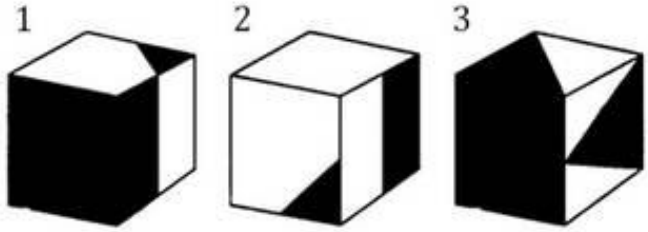

A Il cubo 2
B cubo 3
C cubo 1

---

201) **Quattro atleti partecipano a una gara di velocità su pista. Paolo arriva prima di Carlo;Carlo arriva prima di Luigi;Mario arriva prima di Carlo. La corsa non è stata vinta da Mario. Quale, tra le seguenti affermazioni, NON è corretta?**

A L'ordine di arrivo non è alfabetico
B Paolo è il vincitore della corsa
C Mario è arrivato dopo Luigi

---

202) **Individuare l'abbinamento errato.**

A Parigi - Museo del Louvre
B Firenze - Museo degli Uffizi
C Berlino - Museo del Prado

---

203) **Completare correttamente la seguente frase: Non apprezzai il fatto che i miei compagni _____ giudizi negativi sul mio operato.**

A esprimerebbero
B ebbero espresso
C avessero espresso

---

204) **Marco ha 6 candele apparentemente identiche, una delle quali è però più pesante delle altre. Avendo a disposizione una bilancia a due piatti, quante pesate saranno sufficienti per essere certi di individuarla?**

A 4
B 2
C 3

205) **Individuare il diagramma che soddisfa la relazione insiemistica esistente tra i termini dati: MUSICISTI, PIANISTI, TEATRI**

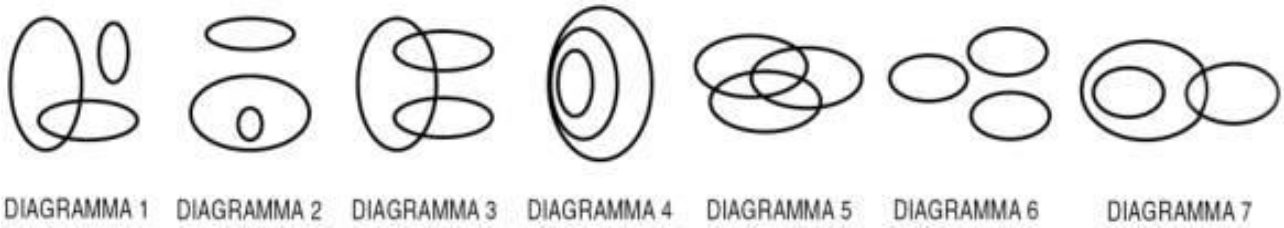

A Diagramma 2
B Diagramma 6
C Diagramma 5

206) **Quanti anni ci sono in 24 lustri e 4 semestri?**

A 136
B 122
C 132

207) **Individuare la parola da scartare:**

A terrorismo
B decadentismo
C crepuscolarismo

208) **Non è possibile negare la falsità della tesi secondo la quale gli UFO non esistono. Qual è il corretto significato della precedente affermazione?**

A Gli UFO non esistono.
B Gli UFO esistono.
C Non è possibile sapere con certezza se esistano o meno gli UFO.

209) **Completare correttamente la seguente successione numerica. 2;20;22;42;64;?**

A 128
B 105
C 106

210) **Completare la seguente proporzione: X = latitudine = meridiano : Y**

A X = parallelo;Y = longitudine
B X = globo;Y = equatore
C X = polo;Y = tropico

211) **È assertivo": "**

A chi è troppo accondiscendente.
B chi tende a prevaricare sugli altri.
C chi riesce a farsi valere pur nel rispetto del diritto degli altri.

212) **Se L = 10, Q = 15, allora ? = ? Z = ?**

A 21
B 18
C 20

213) **Completare la seguente proporzione: Mango : Banana = Zucchina : ?**

A Carota
B Ananas
C Melone

214) **Completare la seguente proporzione: X = triangolo : X = sfera : Y**

A X = cerchio;Y = piramide
B X = cono;Y = volume
C X = quadrato;Y = lato

215) **Se lo sci è uno sport invernale" e "il calcio è uno sport di squadra", si può logicamente concludere che...."**

A Nessuna risposta contiene conclusioni che possono essere logicamente dedotte dalle due affermazioni proposte.
B Le persone che sciano non amano l'inverno.
C La pratica dello sci e quella del calcio sono tra loro incompatibili.

---

216) **Se Tutti i musei in Italia sono ricchi di opere d'arte. Questo museo si trova in Italia", quale delle seguenti affermazioni è certamente vera? "**

A Questo museo è preso di mira dai ladri di opere d'arte
B Gli unici musei ricchi di opere d'arte si trovano in Italia
C Questo museo è ricco di opere d'arte

---

217) **Qual è il termine da scartare?**

A inviolabile
B inespugnabile
C penetrabile

---

218) **Dei 120 alunni di una scuola, non tutti hanno comperato il libro di storia. Chiamando, a caso, due ragazzi non se ne troveranno mai due senza libro. Quanti degli alunni hanno comperato il libro?**

A 119
B 90
C 100

---

219) **Quale delle seguenti parole non ha attinenza con le altre?**

A solvente
B spartito
C vernice

---

220) **In base all'enunciato Tutti i mammiferi hanno i polmoni alcuni mammiferi sono equini, indicare, quale delle seguenti conclusioni NON è corretta:**

A Alcuni animali con i polmoni sono equini
B Non tutti i mammiferi sono equini
C Alcuni equini non hanno i polmoni

---

221) **Completare correttamente la seguente successione numerica: 87;106;79;?;?;89;107;126**

A 98;117
B 98;71
C 97;116

---

222) **In un viale 20 tigli crescono in fila e distano l'uno dall'altro 3 metri. Qual è la distanza tra il quarto e il penultimo albero?**

A 45 metri
B 39 metri
C 48 metri

---

223) **Siano P la proposizione x è divisibile per 4" e Q la proposizione "x è divisibile per 2". Allora:"**

A P implica Q
B Q implica P
C P equivale a Q

---

224) **Negli ultimi due secoli, le attività antropiche hanno provocato un notevole aumento delle concentrazioni atmosferiche di gas serra, tra cui l'anidride carbonica, in grado di modificare la temperatura terrestre. Ai ritmi attuali, la crescita media delle temperature superficiali globali potrebbe essere di 0,2°C per decennio, con una previsione di aumento compresa tra 1,8 e 4 °C per la fine del XXI secolo. Per l'emisfero boreale, sono già documentate alterazioni nella distribuzione spaziale delle specie animali in risposta al riscaldamento globale. Un aumento delle temperature medie può consentire a molte specie con distribuzione geografica limitata dalle basse temperature, di espandere il margine settentrionale dell'areale, la superficie abitata da una specie, verso nord. Analogamente, nelle specie con distribuzione altitudinale limitata dalle basse temperature, uno scenario di riscaldamento globale può consentire un'espansione degli areali verso quote più elevate. Viceversa, ci si attende che specie tipiche di alte latitudini o montane mostrino una contrazione del margine meridionale dell'areale, oppure un innalzamento del margine inferiore della distribuzione altitudinale. In entrambi i casi, questi fenomeni possono comportare una contrazione numerica e un maggiore grado di frammentazione delle popolazioni, con un conseguente aumento del rischio di estinzione locale o globale. Numerosi studi evidenziano modificazioni di areale delle specie in relazione ai cambiamenti climatici. Lo studio della distribuzione geografica degli uccelli nidificanti nei periodi 1968-1972 e 1988-1991 evidenzia che 59 specie di uccelli nidificanti a distribuzione prevalentemente meridionale avevano espanso verso nord il margine settentrionale dell'areale di 18,9 km in media. Per specie di clima caldo, pertanto, questi andamenti costituiscono un ampliamento netto di areale. Gran parte degli studi relativi alle variazioni latitudinali di areale documentano espansioni verso nord dei margini settentrionali degli areali, ma non contrazioni dei margini meridionali. (D. Rubolini: "Effetti ecologici dei cambiamenti climatici", Treccani online). Quale delle seguenti considerazioni emerge dal testo?**

A Nell'emisfero boreale, l'incremento di temperatura può provocare l'espansione verso nord di alcune specie senza modificare significativamente i margini meridionali dell'areale.
B In risposta alle variazioni di temperatura, l'areale delle specie tende sempre ad espandersi.
C I cambiamenti climatici influenzano prevalentemente le specie che vivono nell'emisfero australe, che spostano i loro areali verso sud.

---

225) **Se gli assenti non hanno mai ragione, qual è la logica conseguenza?**

A Nessuna delle altre alternative è corretta
B I presenti hanno sempre ragione
C Gli assenti hanno sempre torto

---

226) **Quale termine, anteposto ai vocaboli METRO -FRASI- ZIA", forma vocaboli di senso compiuto? "**

A PERI
B META.
C ANTI.

---

227) **Il termine epicentro" appartiene al lessico:"**

A della geografia
B della mineralogia
C della geologia

---

228) **Completare correttamente la seguente successione, utilizzando l'alfabeto italiano: R;29;31;A;26;?;?;23;25;O**

A 28;G
B 31;M
C 24;M

---

229) **Individuare l'abbinamento errato.**

A Napoli - Il Mattino
B Roma - Corriere della Sera
C Torino - La Stampa

---

230) **Nella piantina di un appartamento in scala 1 : 50, la distanza tra due muri è pari a 9 centimetri. Qual è la loro distanza reale?**

A 90 centimetri
B 4,5 metri
C 45 centimetri

---

231) **Completare correttamente la seguente successione, utilizzando l'alfabeto italiano: B;2;F;3;N;5;R;8;?;?**

A C;13
B A;13
C B;17

---

232) **Se Vittorio corre, si affatica. Se la precedente informazione è vera, quale delle seguenti affermazioni è necessariamente vera?**

A Se Vittorio non corre allora non si affatica.
B È necessario che Vittorio corra perché si affatichi.
C Se Vittorio non è affaticato allora vuol dire che non ha corso.

---

233) **Utilizzando l'alfabeto italiano, completare correttamente la seguente successione di lettere: I;N;Z;G;L;U;?;?**

A E;H
B G;P
C A;L

---

234) **Solo se faccio la spesa, invito amici a cena. In base alla precedente affermazione, è necessariamente vero che:**

A se faccio la spesa, sicuramente invito gli amici a cena.
B è possibile che inviti amici a cena anche se non faccio la spesa.
C se non faccio la spesa, non invito amici a cena.

---

235) **Se: Z - 1 + AX = BY - 6, Z = 3 + BY Allora AX è uguale a:**

A 12
B -8
C -10

---

236) **Osservando le lancette del suo orologio, Emma nota che esso ha accumulato esattamente un'ora di ritardo in tre giorni esatti. Tra quanto tempo, a partire da questo istante, l'orologio segnerà di nuovo l'ora esatta, se continuerà a funzionare con lo stesso ritmo?**

A 72 giorni
B 48 giorni
C 33 giorni

---

237) **Giorgio prenderà la patente se e solo se non commetterà errori durante la guida. Se la precedente affermazione è vera allora è certamente vero che:**

A se Giorgio non prenderà la patente, vorrà dire che avrà commesso errori durante la guida
B se Giorgio non commetterà errori durante la guida, non necessariamente prenderà la patente
C se Giorgio non prenderà la patente, non necessariamente avrà commesso errori durante la guida

---

238) **Individuare l'abbinamento errato.**

A Scoperta dell'America -1492
B Bombardamento di Hiroshima -1945
C Scoppio della prima guerra mondiale - 1939

---

239) **Posti A = {21, 22, 23} e B = {22, 23, 24}, qual è l'insieme risultante dall'unione di A e B?**

A {22, 23, 24}
B {21, 22, 23, 24}
C {21, 22, 23}

---

240) **A quale dominio tra quelli proposti appartiene il termine zigote"?"**

A Geografia
B Chimica
C Biologia

---

241) **Completare correttamente la seguente successione numerica: 45;52;65;?;?;83;81;88**

A 63;70
B 66;72
C 52;64

---

242) **Non posso non dichiarare la mia non convinzione in merito alla invalidità della tua teoria. La precedente affermazione equivale a:**

A sono convinto dell'invalidità della tua teoria.
B non sono convinto dell'invalidità della tua teoria.
C la tua teoria per me non è valida.

---

243) **Completare correttamente la seguente successione di lettere, utilizzando l'alfabeto italiano: Z;U;R;N;?;A**

A G
B I
C H

244) **Antonio è un amante dell'enigmistica. Tutti i matematici sono amanti dell'enigmistica. Ogni matematico è anche uno scienziato. Se le precedenti informazioni sono corrette, quale delle seguenti informazioni addizionali consentirebbe di concludere che Antonio è un matematico?**

A Ogni scienziato è anche un matematico.
B Chi ama l'enigmistica è anche un matematico.
C Antonio è uno scienziato.

245) **Un motociclista ha compiuto i 2/5 di un circuito di gara. Se ha corso per 20 chilometri, quanti chilometri è lungo il percorso di gara?**

A 100
B 50
C 60

246) **Solamente dopo aver lavato la macchina è possibile lucidarla. In base alla precedente affermazione, quale delle seguenti NON è necessariamente vera?**

A Se la macchina è stata lucidata significa che è stata lavata.
B Se la macchina non è stata lavata allora non può essere lucidata.
C Se la macchina non è stata lucidata allora non è stata lavata.

247) **Maria ha tre sorelle: Sofia, Martina e Nadia e due fratelli: Dario e Valerio. Si sa che: I Dario è il maggiore di tutti;Il Valerio è più grande di Martina e Nadia (non necessariamente in quest'ordine ma più piccolo di Maria e Sofia (non necessariamente in quest'ordine . In base alle informazioni precedenti è FALSO affermare che:**

A Maria è più grande di Martina.
B Sofia è più grande di Nadia.
C Maria è più grande di Nadia ma più piccola di Valerio.

248) **Individuare il diagramma che soddisfa la relazione insiemistica esistente tra i termini dati: Mammiferi, Gatti, Uccelli**

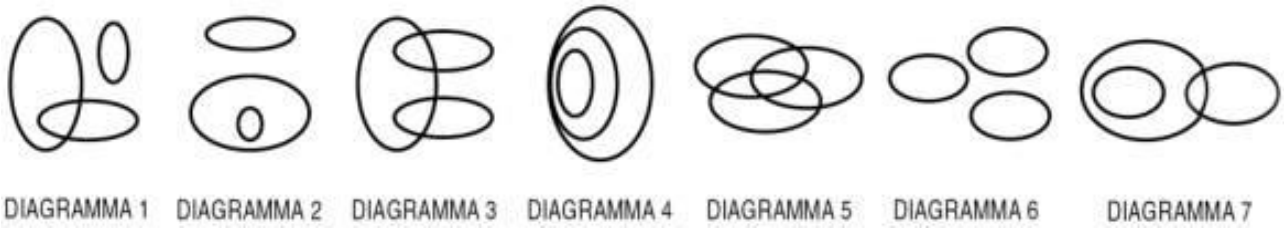

A Diagramma 3
B Diagramma 4
C Diagramma 2

249) **Federico ha già trascorso i 6/7 delle sue vacanze. Sapendo che dal loro inizio sono passati 72 giorni, quanti giorni di vacanza gli restano?**

A 12
B 22
C 18

250) **Per avere la busta paga, è sufficiente rivolgersi in segreteria. Se l'affermazione precedente è vera, quale delle seguenti è certamente vera?**

A L'unico ufficio autorizzato alla consegna della busta paga è la segreteria.
B Rivolgendosi in segreteria è possibile avere la busta paga.
C Per avere la busta paga, è necessario rivolgersi in segreteria.

251) **Completare correttamente la seguente successione numerica: 136;46;?;?;34;184;17**

A 68;92
B 32;92
C 62;94

252) **Poiché secondo Adam Smith, non è una società felice quella in cui la maggioranza soffre, e poiché lo stadio di massima ricchezza di una società conduce a questa sofferenza della _____, ed è l'economia politica (e in genere, la società dell'interesse privato che conduce a questo stadio di massima _____, il risultato finale dell'economia politica è dunque l'_____ della società (K. Marx . Quale dei gruppi di termini proposti in sequenza integra, nell'ordine, le parole omesse?**

A maggioranza / ricchezza / infelicità.
B maggioranza / povertà / infelicità.
C minoranza / ricchezza / infelicità.

253) **Se B = 16, C = 15, ... Z = 1, quanto vale H?**

A 11
B 10
C 12

254) **Con quale dei seguenti gruppi di parole ha analogia il termine CONFERMATO?**

A Respinto - rifiutato - recusato
B Ratificato - convalidato - approvato.
C Relativo - corrispondente - equivalente.

255) **Completare correttamente la seguente successione numerica: 74;38;67;46;60;54;53;62;?;?**

A 61;55
B 46;70
C 67;46

256) **Individuare la sillaba che, posposta a FATTO, dà una parola di senso compiuto:**

A re
B ni
C so

257) **Il termine ESTETISMO appartiene al lessico:**

A della letteratura
B della fisica
C della politica

258) **Se Andrea avesse 6 euro in più di Davide, essi avrebbero in totale 34 euro. Ma Andrea ha 6 euro meno di Davide. Quanti euro ha Andrea?**

A 8
B 14
C 12

259) **Un sinonimo di ANCESTRALE è:**

A atavico
B geniale
C storico

260) **Individuare il nome di città da scartare:**

A Parigi
B Tokyo
C Berlino

261) **Indicare la sillaba che, posposta a FE e preposta a DIO, forma due parole di significato compiuto:**

A ma
B sta
C le

262) **Interfaccia è un termine che appartiene al lessico:**

A dell'informatica.
B dell'anatomia.
C della letteratura.

263) **Indicare la parola da scartare:**

A quadro
B qualche
C quaderno

264) **In un circo, la persona incaricata di dare da mangiare agli animali nei recinti, inizia il suo lavoro alle 6:30 del mattino. Si sa che: 1 si ferma 15 minuti presso ciascun recinto 2 le tigri vengono nutrite prima degli elefanti ma dopo gli orsi 3 i cavalli sono nutriti 15 minuti dopo gli orsi 4 i leoni sono nutriti dopo gli elefanti. Alle 6:50 l'incaricato nutrirà:**

A gli orsi
B i cavalli
C le tigri

265) **Individuare i termini mancanti nella seguente proporzione: morfologia : X = Y : suono**

A linguistico, periodo
B parola, fonologia
C discorso, frasi

266) **Completare correttamente la seguente proporzione? Collodi : Pinocchio = x : y""**

A x = Manzoni;y = Amleto
B x = Cervantes;y = Don Chisciotte
C x = Shakespeare;y = Promessi sposi

267) **Un'azienda con 1.200 operai produce 360.000 pezzi in tre anni. Quale sarebbe la produzione annua dell'azienda se gli operai fossero 500?**

A 64000
B 72000
C 50000

268) **L'arredo di un parco prevede la messa a dimora, lungo il suo perimetro, di alberi distanziati 7 metri l'uno dall'altro. Quante alberi in più sono necessari per arredare un parco quadrato di area quadrupla rispetto a un altro parco quadrato che ha il perimetro pari a 140 metri?**

A 20
B 60
C 28

269) **In una carta geografica in scala 1 : 500.000, quanti chilometri sono rappresentati da 3 cm?**

A 1,5 km
B 150 km
C 15 km

270) **Il serbatoio di una stampante a getto d'inchiostro è completamente pieno. Dopo che è stata effettuata la stampa della tesi di uno studente, è pieno per 3/5. La stampa di un tema di un altro studente consuma 20 cc e lascia il serbatoio pieno per 2/5. Qual è la capacità complessiva del serbatoio?**

A 100 cc
B 80 cc
C 60 cc

271) **A quale dominio tra quelli proposti appartiene il termine polinomio"?"**

A Musica
B Algebra
C Chimica.

272) **Si dice "prende lucciole per lanterne" di qualcuno che:**

A Confonde una cosa con un'altra ed è vittima di un vistoso abbaglio.
B Perde inutilmente il suo tempo affannandosi per fare cose di nessuna importanza.
C Inganna abitualmente il suo prossimo per proprio tornaconto personale.

273) **Dei seguenti plurali di nomi composti non è corretto:**

A altipiani
B bassorilievi
C terrecotte

274) **Inserire tra le parentesi il termine con il significato associabile sia alla parola che precede che a quella che segue automobile (.....) moneta.**

A motore
B cambio
C Valuta

275) **Quale dei seguenti abbinamenti non è coerente con gli altri?**

A Rigido - austero
B Solido - affidabile
C Fitto - rado

276) **Ogni lunedì, mercoledì e sabato Federica va in piscina. In uno dei rimanenti giorni della settimana Gabriele gioca a tennis. Sapendo che il giorno dopo gli allenamenti di nuoto Federica non svolge alcuna attività fisica, qual è il giorno in cui gioca a tennis?**

A Venerdì
B Martedì
C Domenica

---

277) **Quale tra le coppie di termini proposti completa logicamente la proporzione: x : montagna = faccia : y**

A x = collina;y = pentagono
B x = versante;y = esaedro
C x = sommità;y = nuca

---

278) **Se l'affermazione "Ogni volta che mi alzo dal letto provo delle vertigini" è FALSA, quale delle seguenti è certamente vera?**

A Quando mi alzo dal letto non provo mai vertigini
B Almeno una volta mi sono alzato dal letto senza provare vertigini
C Almeno una volta mi sono alzato dal letto e ho provato delle forti vertigini

---

279) **Quale delle seguenti argomentazioni si basa su un ragionamento induttivo?**

A Tutti quelli che tradiscono sono infedeli, anche se a volte non possono evitarlo. Gianluca tradisce spesso. Quindi Gianluca è infedele.
B Tutti i pazienti affetti da demenza senile hanno un deficit di memoria. Enrico non ha un deficit di memoria. Quindi Enrico non è affetto da demenza senile.
C Nel mio studio sperimentale tutti i pazienti affetti da demenza senile presentavano un deficit di memoria. Quindi il deficit di memoria è necessariamente presente nella demenza senile.

---

280) **Se: X - Y = 100, X + Y = 150 allora X e Y sono rispettivamente uguali a:**

A 125 e 25
B 150 e 50
C 25 e 125

---

281) **Indicare la sillaba che, preposta alla prima e aggiunta alla seconda, consente di ottenere due parole di senso compiuto. STA FI**

A co
B mo
C fo

---

282) **Quale valore si ottiene dal prodotto fra i 2 risultati delle operazioni seguenti? 820 / 410 e 480 / 240**

A 10
B 6
C 4

---

283) **In una scuola elementare, composta da 250 alunni, sono stati attivati due corsi pomeridiani. Si sa che 200 alunni frequentano il corso di spagnolo, 199 il corso di nuoto, 24 nessuno dei due corsi. Quanti alunni frequentano entrambi i corsi?**

A 27
B 173
C Non si può stabilire perché i dati sono insufficienti

---

284) **Qual è la differenza tra i 2 risultati delle operazioni seguenti? 4716 / 2 e 4714 / 2**

A 0.5
B 2
C 1

---

285) **Un orologio segna le ore 3. La lancetta dei minuti forma con quella dell'ora un angolo retto. Dopo circa quanti minuti le due lancette saranno sovrapposte, cioè formeranno un angolo nullo?**

A Dopo circa 16 minuti
B Dopo circa 17 minuti
C Dopo circa 15 minuti

---

286) **Completare la seguente successione, utilizzando l'alfabeto italiano: C;7;B;8;A;15;Z;23;?;?**

A V;38
B V;31
C Q;50

---

287) **Se OPERAZIONE = 20;BISTURI = 14;SALA = 8;OSPEDALE = ?**

A 12
B 8
C 16

288) **Completare correttamente la seguente successione numerica: 41;85;73;31;?;?;21;65**

A 75;67
B 75;63
C 69;63

289) **All'ingresso dello stadio ci sono 8 file di persone in attesa. Ciascuna fila conta 3 persone in più della precedente. Nella prima fila vi sono 15 persone. Quante ce ne sono nell'ultima?**

A 36
B 16
C 39

290) **Se: X - 1 + Y = Z + 12, X = 3 + Z Allora Y è uguale a:**

A 11
B 9
C 10

291) **Di 22 alunni che vanno a scuola con un mezzo di locomozione (bicicletta, motorino o pattini , 8 possiedono la bicicletta, 12 il motorino e 9 i pattini. Sapendo che 6 ragazzi hanno sia la bicicletta sia i pattini e che in nessun caso c'è chi ha sia i pattini sia il motorino, in quanti hanno sia la bicicletta sia il motorino?**

A 5
B 3
C 1

292) **La probabilità di NON estrarre una pallina gialla da un'urna che contiene 40 palline rosse, 20 gialle e 40 nere è pari a:**

A 60%
B 80%
C 20%

293) **Completare correttamente la seguente successione numerica: 10;30;17;51;38;114;?;?**

A 101;293
B 100;202
C 101;303

294) **Quale termine, anteposto ai vocaboli PASTO -PANICO - STANTE", forma vocaboli di senso compiuto? "**

A PIRO.
B PARA.
C ANTI.

295) **Leonardo è un bambino vivace;alcuni bambini vivaci amano giocare a palla;chi ha più di otto anni ama giocare a palla. Se le precedenti affermazioni sono vere, allora è certamente vero che:**

A Leonardo ha più di otto anni.
B Leonardo ha meno di otto anni.
C non è detto che Leonardo abbia più di otto anni.

296) **La prima persona singolare del futuro attivo del verbo "dolersi" è:**

A mi dorrò.
B mi dolerò.
C mi duolrò.

297) **Completare correttamente la seguente successione, utilizzando l'alfabeto italiano: ;20;L;7;16;U;3;?;?**

A E;1
B 8;G
C 12;G

298) **Se: X = Y (3 - 7), X = 5 Allora Y è uguale a:**

A -1.25
B -0.8
C 4

299) **Per ridurre il tempo necessario ai pendolari per raggiungere in auto il posto di lavoro si è pensato di introdurre delle tariffe per le auto che circolano, scoraggiando il traffico automobilistico e incoraggiando l'uso dei mezzi pubblici. Quale delle seguenti affermazioni rafforza la precedente argomentazione?**

A Ogni temporaneo miglioramento del traffico si perderebbe subito in quanto attirerebbe nuove automobili in città.
B Molte persone che attualmente utilizzano l'auto da sole si metterebbero d'accordo con altre persone e continuerebbero a utilizzare l'automobile.
C Il sistema del trasporto pubblico non è in grado di accogliere un aumento del numero dei passeggeri.

---

300) **Completare correttamente la seguente successione di lettere, utilizzando l'alfabeto italiano: ?;Q;N;I;F**

A U
B Z
C T

---

301) **Completare la seguente successione numerica: 9;18;16;14;23;10;?;?**

A 30;6
B 6;29
C 19;17

---

302) **Completare correttamente la seguente successione di lettere, utilizzando l'alfabeto italiano: N;O;M;O;P;N;?;?**

A P;Q
B Q;H
C O;M

---

303) **Se: X + 2Y + Z = 4 Y, X = Y, Z = 3, allora £ è uguale a:**

A 2
B 3
C 4

---

304) **In una biblioteca i 3/5 dei libri sono di letteratura, 1/7 di storia e i rimanenti 144 sono libri scientifici. Qual è il numero totale dei libri?**

A 384
B 416
C 560

---

305) **Un torneo di calcio si svolge in due fasi. Nella prima fase le squadre sono suddivise in 8 gruppi di ugual numero. Ciascuna squadra gioca una sola volta contro ogni squadra del proprio gruppo. La vincitrice di ciascun gruppo si qualifica per la seconda fase a eliminazione diretta. Al termine del torneo la squadra vincitrice avrà disputato 8 partite.Quante squadre partecipano alla prima fase del torneo?**

A 24
B 32
C 48

---

306) **Paolo lavora dal lunedì al venerdì e, a settimane alterne, anche il sabato. Qual è il numero massimo di giorni lavorativi di Paolo in un mese?**

A 23
B 24
C 25

---

307) **Se si lanciano due dadi, qual è la probabilità che il punteggio totale sia 2?**

A 1/36
B 5/36
C 2/36

---

308) **Completare correttamente la frase seguente: "Grazie alla scrittura, oggi siamo in grado di sapere che la città non è stata un punto di arrivo, _____ un punto di partenza verso successive trasformazioni: i grandi imperi".**

A bensì
B cioè
C infatti

---

309) **Se: X + X + Z = Y + Z, X = 8 Allora Y è uguale a:**

A 16
B 13
C 19

---

310) **Completare correttamente la seguente proporzione: Freddo : X = Y : aridità**

A X = temperatura;Y = ari
B X = stagione;X = estate
C X = caldo;Y = umidità

---

311) **Qual è l'abbinamento errato?**

A Lorenzo il Magnifico - Firenze
B Federico da Montefeltro -Urbino
C Ludovico il Moro - Venezia

---

312) **Con quale dei seguenti gruppi di parole ha analogia il vocabolo OMOLOGO?**

A Corrispettivo - corrispondente - equivalente.
B Diverso - opposto - discrepante.
C Spento - velato - smorzato.

---

313) **Completare correttamente la seguente proporzione: Michigan : X = Tanganica : Y**

A X = Oceania;Y = Asia
B X = Asia;X = Europa
C X = America;Y = Africa

---

314) **Se B = 15, C = 14, ... Z = 0, quanto vale N?**

A 8
B 9
C 7

---

315) **Completare correttamente la seguente successione numerica: 45;68;99;?;?;131;109;132**

A 80;102
B 77;100
C 73;98

---

316) **Data la sequenza ASDFWASATATatatsfgqwerta individuare l'alternativa che la riproduce fedelmente se inserita al posto dei puntini nella seguente: ASDFWA...fgqwerta**

A SATATatats
B ATSATatats
C SATATatast

---

317) **Se: X + X = O - Y, Z + W = W, Y = O Allora X è uguale a:**

A 2
B 0
C -1

---

318) **Indicare in quale delle seguenti alternative è presente una sola volta il gruppo di lettere SXDE" (esattamente come riportato tra virgolette ."**

A AZXCVBNSXDEDERDFTGRR
B AZXCVBNSXDADERDFTGRR
C AZXCVSXDESXDERDFTGRR

---

319) **Se 38 operai producono 25.320 bulloni al giorno, quanti bulloni verranno prodotti al giorno da 76 operai che lavorano allo stesso ritmo?**

A 50.320 bulloni
B 101.280 bulloni
C 50.640 bulloni

---

320) **Se: X = 11, Y = 6X - 21 - 4Y Allora Y è uguale a:**

A 45
B 9
C 15

---

321) **Quando viene interrogata, Anna ha paura. Ma se nessuno interroga Anna, suo padre si preoccupa. Ieri il padre di Anna non si è preoccupato. Se le precedenti affermazioni sono vere, quale delle seguenti conclusioni NON può essere ricavata con certezza?**

A Ieri Anna si è preoccupata.
B Ieri Anna è stata interrogata
C Ieri Anna ha avuto paura e suo padre non si è preoccupato

---

322) **Completare correttamente la seguente successione numerica: ?;3 5;7;3;5;7;?**

A . 7;3
B . 5;7
C . 4;8

---

323) **In un negozio Laura fa acquisti per un totale di 52,50 euro. Se paga al negoziante 60 euro e questi le restituisce il resto soltanto in monete da 50 centesimi, quante monete il negoziante dovrà dare a Laura?**

A 8
B 17
C 15

---

324) **Quale dei seguenti termini è sinonimo di improbo"? "**

A probabile
B corretto
C disonesto

---

325) **Quale delle tre serie di numeri o lettere è identica alla seguente: 3838388833383383**

A 3838388383383380
B 3838338833383380
C 3838388833383383

---

326) **Se in una libreria ci sono diversi scaffali con libri di matematica e di chimica negli scaffali dove ci sono almeno due libri ce ne è almeno uno di chimica" allora è vero che..."**

A in uno scaffale che contiene due libri potrebbero non esserci libri di matematica
B il numero dei libri di matematica in uno scaffale è sempre inferiore al numero di libri di chimica
C se in uno scaffale c'è un solo libro, questo è di chimica

---

327) **Completare la seguente successione: 100, 121, 144, ...**

A 196
B 170
C 169

---

328) **Individuare l'abbinamento errato tra autore e opera.**

A Lev Tolstoj - Anna Karenina
B Gustav Flaubert - Madame Bovary
C Agatha Christie - Delitto e castigo

---

329) **Se si dividono 91 biscotti in tre piatti in modo che il primo piatto contenga un terzo dei biscotti del secondo e il secondo piatto un terzo dei biscotti del terzo piatto. Quanti biscotti conterrà il secondo piatto?**

A 25
B 29
C 21

---

330) **Se la lettera D" corrisponde a 13, la lettera "B" corrisponde a 7 e la lettera "C" corrisponde a 10, a quale sequenza corrisponde la codifica: DEFBC?"**

A 13 - 10 - 19 - 7 - 16.
B 13 - 16 - 19 - 7 - 10.
C 13 - 7 - 22 - 16 - 10.

---

331) **Completare correttamente la seguente proporzione. Scafo : nave = X : Y**

A X = ferrovia;Y = treno
B X = porto;Y = marinaio
C X = carlinga;Y = aereo

---

332) **Completare correttamente la seguente successione numerica: 39;47;48;?;?;44;31;39**

A 35;43
B 47;36
C 38;45

---

333) **Individuare l'abbinamento errato.**

A Svezia - Stoccolma
B Spagna - Madrid
C Germania - Bonn

---

334) Completare correttamente la seguente successione numerica: 20;60;?;144;132;396;384;?

A 1.152;60
B 48;1.152
C 180;1.154

---

335) È stato affermato che: L'inflazione consiste in un generale aumento dei prezzi nominali, accompagnato da una svalutazione della moneta." Quale tra le seguenti affermazioni è deducibile dalla frase precedente?"

A C'è una concomitanza tra inflazione e svalutazione
B L'inflazione è determinata dalla svalutazione
C La svalutazione è una conseguenza dell'inflazione

---

336) Il contrario di trascendente" è: "

A sovrumano
B immanente
C eterno

---

337) Un'auto corre alla velocità di 125 km/h. Quanti minuti occorrono per percorrere 368 km a un'auto che corre alla velocità di 125 km/h?

A 4120
B 176.64
C 525

---

338) 12 8 24 ? 36

A 20
B 28
C 14

---

339) In base all'informazione tutti gli alberi dei parchi canadesi sono molto alti", quale delle seguenti affermazioni è necessariamente vera?"

A Non esistono alberi bassi nei parchi canadesi
B È impossibile negare che esista almeno un albero basso dei parchi canadesi poco alto.
C Non esistono alberi più alti di quelli dei parchi canadesi.

---

340) Non posso affermare di non aver protestato. Pertanto:

A potrei anche non aver protestato.
B protesterò.
C ho protestato.

---

341) Due lati di un ottagono formano un angolo interno di:

A 135 gradi
B 115 gradi
C 145 gradi

---

342) Indicare quali, tra i termini proposti, completano correttamente la seguente proporzione verbale. Frazionare : X = emancipare : Y

A X = accentrare;Y = svincolare
B X = dislocare;Y = asservire
C X = suddividere;Y = affrancare

---

343) Laura deve nutrire i suoi pesci, 20 in tutto, divisi in due acquari. Se per ogni pesce del primo acquario Laura deve usare cinque larve, mentre per ogni pesce del secondo sei, quanti sono i pesci nel secondo acquario, se per nutrire i 20 pesci ha utilizzato 112 larve?

A 15
B 12
C 10

---

344) In una scatola ci sono 60 penne;non tutte e rosse. Se tuttavia si estraggono tre penne qualsiasi dalla scatola, almeno due sono rosse. Quante sono le penne rosse contenute nella scatola?

A 57
B 30
C 59

345) Un sinonimo di "ciclopico" è:

A favoloso
B aggressivo
C gigantesco

346) Individuare l'abbinamento errato.

A Montecristo -Toscana
B Favignana - Sicilia
C Procida - Sardegna

347) Completare la seguente successione: ..., 34, 53, 65, 84, 96, 115". "

A 25
B 15
C 22

348) A quale dominio tra quelli proposti appartiene il termine elzeviro"?"

A Moda
B Giornalismo
C Astrologia

349) In una classe di 33 studenti, 18 giocano a calcio, 17 giocano a basket e 4 non praticano né calcio né basket. Quanti sono gli studenti che giocano sia a calcio sia a basket?

A 6
B 11
C 9

350) Completare la seguente successione, utilizzando l'alfabeto italiano: D;8;C;9;B;17;A;26;?;?

A C;52
B R;55
C Z;43

351) Se: X + Y - X = X - 7, Y = -1 Allora X è uguale a:

A 6
B -6
C -8

352) Completare correttamente la seguente successione di lettere, utilizzando l'alfabeto italiano: G;P;D;R;B;O;?;?

A E;N
B M;P
C D;M

353) Individuare in quale delle seguenti alternative viene rispettata la regola di alternanza vocale-consonante"."

A ABOABECLEUFAPUBEBLE
B ABOCABELPUFABELBELE
C ABOCABELEFABELUFABE

354) Se: X - 3 + Y = Z - Y, X = 5, Y = -2 Allora Z è uguale a:

A 1
B -2
C 3

355) Indicare in quale delle seguenti alternative viene rispettata la regola di alternanza vocaleconsonante"."

A UCIXEFOMOAPIDIC
B UCIXEFOMOROSAZAPIDIC
C UCIXEFOMSAPIDIC

356) Indicare l'abbinamento errato.

A Raffaello - Guernica
B Leonardo - Gioconda
C Michelangelo - David

357) **Una strada lunga 104 metri ha in totale 28 platani posti su entrambi i lati. Sapendo che i platani sono tra loro equidistanti, a quale distanza è posto un platano dall'altro?**

A 3,7 metri
B 4 metri
C 8 metri

358) **Indicare la sillaba che, aggiunta al primo e preposta al secondo gruppo di lettere, consente di ottenere due parole di senso compiuto. LE (... MO**

A gno
B chi
C gli

359) **Il significato di impudente" è: "**

A che manca di rispetto o di contegno
B che non si cura del pericolo
C che costituisce motivo di pudore

360) **Completare la seguente successione: (6, 5, 24 (7, 7, 43 (9, 8, 66 (5, 9, ...**

A 40
B 36
C 39

361) **Se il padre di Anna è fratello della madre di Ugo, in che rapporto di parentela è Ugo con la madre di Anna?**

A Cugino
B Nipote
C Zio

362) **Completare la seguente successione: 95, 90, 80, 65, ...**

A 45
B 50
C 55

363) **In un quartiere di 416 abitanti, ciascuna persona possiede un cane o un gatto o entrambi. Se ci sono 316 persone che hanno un cane e 280 che hanno un gatto, quanti sono i proprietari di cane che non hanno gatto?**

A 136
B 184
C 100

364) **A quale velocità viaggia un autocarro che impiega 1 h e 40 minuti per percorrere 60 Km in?**

A 48 Km/h
B 36 Km/h
C 42 km/h

365) **Indicare la sillaba che, preposta al primo e aggiunta al secondo gruppo di lettere, consente di ottenere due parole di senso compiuto. RIA PA**

A co
B sto
C bo

366) **Se: X + 20 + Y = Z + 2, X = 6 + Z Allora Y è uguale a:**

A -24
B 12
C 24

367) **In base all'alfabeto italiano, completare correttamente la seguente successione di lettere: ;E;S;O;P;E;?;?**

A N;C
B B;M
C A;B

368) **Completare correttamente la seguente successione numerica: 40;48;49;?;?;45;32;40**

A 50;37
B 48;37
C 36;44

369) Completare correttamente la seguente successione numerica: 13;39;27;81;69;207;?;?

A 195;587
B 195;585
C 210;541

370) Non è sbagliato evitare di rinunciare a non violare la legge pur non avendo dubbi sull'impossibilità di essere colti in flagrante. Qual è il corretto significato della precedente affermazione?

A Se si è sicuri di non essere colti in flagrante si può anche violare la legge.
B In ogni caso non si deve violare la legge.
C Non si deve violare la legge perché è certo che si sarà colti in flagrante.

371) Posti A = {34, 35, 36} e B = {35, 36, 37}, qual è l'insieme risultante dall'unione di A e B?

A {34, 35, 36, 37}
B {35, 36, 37}
C {35, 36}

372) Indicare la sillaba che, aggiunta al primo e preposta al secondo gruppo di lettere, consente di ottenere due parole di senso compiuto. LAM (. . .) STO

A po
B mo
C ca

373) Quale dei gruppi di termini proposti in sequenza integra, nell'ordine, le parole omesse nel testo: "In una società alienata il modo in cui la gente esprime la propria volontà non è affatto diverso da quello della loro scelta nell'acquisto delle merci. La gente ascolta i ..... della propaganda e i fatti significano poco in confronto al chiasso suggestionante che la martella. In effetti il funzionamento della macchina politica in un paese democratico non differisce sostanzialmente dalla procedura del mercato delle ..... I partiti politici non sono troppo diversi dalle grandi aziende commerciali e i politici di professione cercano di ..... la loro merce al pubblico (E. Fromm)."

A Tamburi / merci / vendere
B Tamburi/ parole / regalare.
C Filoni / illusioni/ piazzare.

374) Quale valore si ottiene dal prodotto fra i 2 risultati delle operazioni seguenti? 620 / 310 e 780 / 260

A 6
B 9
C 8

375) Completare la successione numerica: 9;18;16;14;23;10;?;?

A 6;29
B 30;6
C 19;17

376) In base alla sua funzione grammaticale il termine "qualora" può essere inserito:

A nel gruppo formato da talmente - dove - quando"."
B nel gruppo formato da bello - docile - aggressivo"."
C nel gruppo formato da fare - agire - temere"."

377) Completare la seguente successione di lettere, utilizzando l'alfabeto italiano: N;O;M;O;P;N;?;?

A P;Q
B O;M
C Q;H

378) Dei seguenti plurali di nomi composti non è corretto:

A guardasigilli
B pescecani
C capireparto

379) Indicare le sillabe che, preposte al gruppo di lettere -NTE e - , danno parole di significato compiuto:

A ta; la; ga
B co; mo; po
C ne; pe; ve

380) **Un torneo di calcio si svolge in due fasi. Nella prima fase le squadre sono suddivise in 8 gruppi di ugual numero. Ciascuna squadra gioca una sola volta contro ogni squadra del proprio gruppo. La vincitrice di ciascun gruppo si qualifica per la seconda fase a eliminazione diretta. Al termine del torneo la squadra vincitrice avrà disputato 8 partite. Quante squadre partecipano alla prima fase del torneo?**

A 32
B 24
C 48

---

381) **Individuare la coppia in cui i termini NON hanno significato affine:**

A impervio - arduo
B facile - comodo
C modico - modellato

---

382) **Completare la seguente successione numerica: 300; 250; 205 ? 130; 100**

A 125
B 135
C 165

---

383) **In quale dei seguenti termini il prefisso è semanticamente diverso dagli altri:**

A Triangolo
B Trittico
C Tribordo

---

384) **Quale coppia di termini ha le stesse caratteristiche di ALBA - TRAMONTO?**

A estate - inverno
B calore -tepore
C freddo - gelo

---

385) **Qual è la parola da scartare?**

A Caravaggio
B Dante
C Petrarca

---

386) **Con quale dei seguenti gruppi di parole ha analogia il termine omologo?**

A Corrispettivo - corrispondente - equivalente.
B Diverso - opposto - discrepante.
C Spento - velato - smorzato.

---

387) **Può accadere a un contribuente di essere ingiustamente accusato di evasione fiscale. Il cittadino, di qualsiasi posizione sociale e economica, quando viene colpito da un accertamento fiscale si sente impotente di fronte all'Agenzia delle Entrate. La legge tuttavia garantisce a ognuno una difesa e permette di far valere le proprie ragioni ricorrendo agli organi giudiziari competenti. Quale delle seguenti affermazioni può essere dedotta dal brano precedente?**

A Il presunto evasore fiscale viene multato in ogni caso, salvo essere poi rimborsato.
B Il contribuente in buona fede non è mai accusato di evasione.
C Solo gli organi giudiziari sono competenti a dirimere un contenzioso fiscale.

---

388) **Completare correttamente la seguente successione numerica: 45;68;99;?;?;131;109;132**

A 73;98
B 77;100
C 80;102

---

389) **Una frase è stata divisa in 5 parti, che successivamente sono state mescolate e che di seguito sono proposte in ordine casuale. Ricomporla correttamente. 1) la storia senza la politica ? \ 2) che impari la strada \ 3) ma cos'è \ 4) e di conseguenza butta via i suoi passi \ 5) una guida che cammina, cammina con nessuno dietro.**

A 2; 4; 1; 3; 5.
B 3; 1; 5; 2; 4.
C 1; 3; 2; 4; 5.

---

390) **Se: X + X = 0 - Y, Z + W = W, Y = 0 Allora X è uguale a:**

A 0
B 2
C -1

391) **In un auditorio ci sono 200 spettatori: 40 sono italiani, 50 sono donne, e 60 preferiscono la musica sinfonica. Sulla base di queste informazioni, di quanti spettatori si può affermare con certezza che sono allo stesso tempo italiani, donne e appassionati di musica sinfonica?**

A Di cinquanta
B Di cento
C Di nessuno

392) **Se 38 operai producono 25.320 bulloni al giorno, lavorando allo stesso ritmo, quanti bulloni verrebbero prodotti al giorno da 76 operai?**

A 50.320 bulloni
B 50.640 bulloni
C 101.280 bulloni

393) **Quali parole vanno sostituite ai numeri per dare un senso compiuto alle frasi seguenti? Le parole ___(1)___, più o meno regolarmente, da altre parole già note a chi le ha coniate. A volte capita che non ___(2)___ a rintracciare l'etimo. Ma l'esperienza ci dice che ciò dipende soprattutto dalla nostra ___(3)___.**

A (1) = arrivano (2) = sappiamo (3) = scolarità
B (1) = derivano (2) = possiamo (3) = educazione
C (1) = nascono (2) = riusciamo (3) = ignoranza

394) **Completare la seguente analogia: X : futuro = rimpianto : Y**

A X = aspettativa; Y = passato
B X = condanna; Y = pentimento
C X = rammarico; Y = speranza

395) **Completare correttamente la seguente successione numerica: ?;6;5;11;6;5;11;?**

A 12;4
B 11;6
C 11;5

396) **In un negozio Laura fa acquisti per un totale di 52,50 euro. Se paga al negoziante 60 euro e questi le restituisce il resto in monete da 50 centesimi, quante monete il negoziante dovrà dare a Laura?**

A 8
B 17
C 15

397) **Quale termine integra la serie agitato - irruente - esuberante ....?**

A silenzioso
B pacato
C impetuoso

398) **Quale delle tre serie di numeri o lettere è identica alla seguente: 3838388833383338**

A 3838338833383388
B 3838388833383338
C 3838388383383388

399) **In una libreria ci sono diversi scaffali con libri di matematica e di chimica;negli scaffali dove ci sono almeno due libri ce ne è almeno uno di chimica. Pertanto:**

A se in uno scaffale c'è un solo libro, questo è di chimica.
B in uno scaffale che contiene due libri potrebbero non esserci libri di matematica.
C il numero dei libri di matematica in uno scaffale è sempre inferiore al numero di libri di chimica.

400) **Completare correttamente la seguente successione numerica: 11; 20; 31; ?; 82; 123; ? 328**

A 55; 188
B 51; 205
C 52; 160

401) **Se si dividono 91 mele in tre cassette in modo che la prima contenga un terzo delle mele della seconda e la seconda cassetta un terzo delle mele della terza. Quante mele conterrà la seconda cassetta?**

A 25
B 29
C 21

402) **Alla fine del 1504 Raffaello, alla ricerca di commissioni pubbliche importanti, giunse a Firenze al cospetto del gonfaloniere della repubblica Pier Soderini con una lettera di raccomandazione in piena regola. L'aveva scritta la sorella di Guidobaldo da Montefeltro, duca di Urbino, Giovanna Feltria, duchessa di Sora, vedova di Giovanni Della Rovere, signore di Senigallia e prefetto di Roma. Anche se il Soderini non poté esimersi dal leggere con attenzione quelle righe, dalla Repubblica fiorentina, Raffaello non ebbe le prestigiose commissioni che sperava. Ebbe però l'opportunità di rimanere a Firenze in un periodo tra i più fertili, intensi e affascinanti della storia di quella città. Protagonisti indiscussi di tale stagione felice e vitale erano Leonardo e Michelangelo, che come altri erano tornati a Firenze alla ricerca delle ambite opportunità che il Soderini sembrava elargire. Portando la lettera di Giovanna Feltria al gonfaloniere nel Palazzo vecchio, Raffaello certo si sarà fermato in piazza della Signoria ad ammirare il David di Michelangelo, emblema dell'intelligenza repubblicana, posto sulla "ringhiera" davanti al palazzo poco tempo prima, l'8 settembre del 1504. E una volta entrato, qualcuno certo gli avrà mostrato, nel maestoso salone del Gran Consiglio, la parete dove si attendevano al più presto Leonardo e Michelangelo ad affrescare la "Battaglia di Anghiari" e la "Battaglia di Cascina"; speranza vana, dato che - come è noto - dei due grandi progetti furono realizzati solo i cartoni, che fecero scuola anche a Raffaello. (da: E. Capretti, Raffaello, Giunti). Perché il soggiorno di Raffaello a Firenze si rivelò proficuo?**

A Perché Raffaello entrò in contatto con le opere di grandi artisti come Michelangelo e Leonardo
B Perché Raffaello contribuì a rafforzare il legame politico tra il Gonfaloniere Soderini e il ducato di Urbino
C Perché a Raffaello fu proposto di lavorare ai cartoni per l'affresco della Battaglia di Anghiari

---

403) **Completare correttamente la seguente proporzione. Automobile: barca = X : Y**

A X = acqua;Y = aria
B X = meccanico;Y = pilota
C X = garage;Y = rimessaggio

---

404) **Quale tra i seguenti può essere considerato un contrario del termine etereo"?"**

A Impalpabile
B Sempiterno
C Tangibile

---

405) **Individuare l'abbinamento errato.**

A Mozart - Il flauto magico
B Verdi - Rigoletto
C Puccini - Traviata

---

406) **Quale tra i seguenti vocaboli si può definire palindromo?**

A asso
B osso
C ossa

---

407) **Se ogni giorno pratico jogging, perdo peso. in base alla precedente affermazione, è necessariamente vero che:**

A Ogni giorno che corro, perdo peso
B Se non perdo peso significa che non pratico jogging ogni giorno
C Se perdo peso, è probabile che stia facendo anche una dieta

---

408) **Un contrario di LOQUACE è:**

A chiacchierone
B verboso
C laconico

---

409) **A quale velocità viaggia un'auto che percorre una distanza di 210 km in 1 ora e 45 minuti?**

A 120
B 140
C 100

---

410) **Completare correttamente la seguente successione, utilizzando l'alfabeto italiano: ;54;T;62;P;70;?;?**

A M;76
B L;78
C L;76

---

411) **Quale tra le coppie di termini proposti completa logicamente la seguente proporzione verbale: X : carboidrati = latticini : Y**

A X = pasta, Y = proteine
B X = vitamine Y = pane
C X = pasto Y = peso

412) **In una scatola ci sono 40 palline;non tutte gialle . Se tuttavia si estraggono tre palline qualsiasi dalla scatola, almeno due sono gialle. Quante sono le palline gialle contenute nella scatola?**

A 27
B 30
C 39

413) **Un sinonimo di "irriverente" è:**

A insignificante
B insolente
C insicuro

414) **"Se gli studenti si impegnano, conseguiranno la promozione." Se quanto affermato corrisponde a verità, quale delle seguenti affermazioni è necessariamente vera?**

A Verranno promossi solo gli studenti che si sono impegnati.
B Alcuni studenti saranno bocciati.
C Se uno studente non si impegna, verrà bocciato.

415) **Individuare l'abbinamento errato.**

A Pantelleria - Sicilia
B Capri - Sardegna
C Elba -Toscana

416) **Se il leone è un animale predatore e molti degli animali predatori cacciano con la tecnica della mimetizzazione:**

A non è possibile affermare con certezza che il leone cacci le proprie prede con la tecnica della mimetizzazione.
B tutti gli animali predatori cacciano solo con la tecnica della mimetizzazione.
C Il leone certamente caccia con la tecnica della mimetizzazione.

417) **A quale dominio tra quelli proposti appartiene il termine comma"?"**

A Giurisprudenza
B Economia
C Meccanica

418) **Alberto, Carlo, Roberto, Paolo e Sergio sono nati in cinque città diverse: Amsterdam, Cagliari, Roma, Pavia, NizzA) Alberto e Sergio mentono sempre mentre Paolo non mente mai. Alberto afferma di essere nato ad Amsterdam e che Sergio è nato a NizzA) Paolo afferma di essere nato a Pavia e riferisce che Alberto gli ha detto di essere nato a Cagliari. Dove può essere nato Alberto?**

A Roma o Nizza
B Roma o Cagliari
C Roma o Amsterdam

419) **Se BAIA = 1;RADA = 2;GOLFO = 3;INSENATURA = ?**

A 4
B 7
C 5

420) **Se: X + Y - X = X - 7, Y = -1 Allora X è uguale a:**

A 6
B -6
C -8

421) **A quale numero del sistema decimale corrisponde il numero romano MMXXI?**

A 2021
B 2001
C 2011

422) **Tutte le gallerie svizzere sono illuminate. Questa galleria si trova in Svizzera. In base alle precedenti informazioni, quale delle seguenti affermazioni è certamente vera?**

A Questa galleria potrebbe non essere illuminata
B Le gallerie illuminate si trovano solo in Svizzera
C Questa galleria è illuminata

423) **Se: X - 3 + Y = Z - Y, X = 5, Y = -2 allora Z è uguale a:**

A 1
B -2
C 3

---

424) **Se Paolo è così amico di Giuseppe e di Claudio che quando lui va alle feste ci vanno anche i suoi due amici", quale delle seguenti affermazioni è certamente vera?"**

A Ieri Claudio è andato ad una festa, quindi c'è andato anche Paolo
B Paolo ieri è andato d una festa, quindi sicuramente c'erano anche Giuseppe e Claudio
C Giuseppe e Claudio ieri erano ad una festa, quindi c'era anche Paolo

---

425) **Per superare il provino ed entrare in una squadra di calcio è necessario, ma non sufficiente, saper giocare bene e non avere più di 14 anni. Determinare quale delle seguenti situazioni è NON compatibile con la frase precedente.**

A Diego non sa giocare bene a calcio, ha meno di 14 anni e non supera il provino
B Diego non sa giocare bene a calcio, ha meno di 14 anni, e supera il provino
C Diego sa giocare bene a calcio, ha meno di 14 anni e supera il provino

---

426) **"Mario è saggio.Tutti gli anziani sono saggi. Anna è anziana." In base alleprecedenti informazioni, quale delle seguenti affermazioni è necessariamente vera?**

A Anna è saggia
B I saggi sono tutti anziani
C Mario è più giovane di Anna

---

427) **Indicare la sillaba che, aggiunta al primo e preposta al secondo gruppo di lettere, consente di ottenere due aggettivi: SA (... TO**

A chi
B gli
C no

---

428) **Condizione sufficiente, ma non necessaria, affinché al Liceo scientifico Galileo l'anno scolastico si concluda con una festa è che le interrogazioni terminino entro la fine del mese di maggio. Quale delle seguenti situazioni non è compatibile con l'affermazione precedente?**

A Nel 2008 le interrogazioni sono terminate a marzo, e poi non c'è stata la festa.
B Nel 2006 uno studente è stato interrogato il 4 giugno, e poi c'è stata la festa.
C Da quando esiste il Liceo Pitagora la festa c'è stata ad anni alterni.

---

429) **Se il padre di Antonio è fratello della madre di Ugo, qual è il rapporto di parentela di Ugo con la madre di Antonio?**

A Nipote
B Zio
C Cugino

---

430) **Quanto tempo impiega un ciclista che procede alla velocità costante di 9 km/h, a percorrere un chilometro?**

A 6 minuti e 40 secondi
B 6 minuti e 30 secondi
C 6 minuti e 20 secondi

---

431) **Quali parole vanno sostituite ai numeri per dare un senso compiuto e logico al testo seguente? Le province italiane sono quasi ___(1)___ sorte come comuni indipendenti nel nord e centro-nord, cioè come centri civili e ___(2)___. Anche nel sud, dove la struttura comunale era meno frequente, la distribuzione ___(3)___ delle città era piuttosto simile al nord e aveva la stessa funzione.**

A (1) = tutte (2) = commerciali (3) = geografica
B (1) = sempre (2) = marinari (3) = asimmetrica
C (1) = mai (2) = mercantili (3) = storica

---

432) **A quale velocità viaggia un autocarro che impiega 1 h e 40 minuti per percorrere 60 Km?**

A 36 Km/h
B 48 Km/h
C 42 km/h

---

433) **Sara afferma che tutti gli studenti di medicina hanno frequentato il liceo scientifico. Quale delle seguenti condizioni è necessario si verifichi affinché l'affermazione di Sara risulti FALSA?**

A Nessuno studente di medicina deve aver frequentato il liceo scientifico
B Deve esistere almeno uno studente di medicina che ha frequentato il liceo classico
C Deve esistere almeno uno studente di medicina che non ha frequentato il liceo scientifico

434) **Se: X + 20 + Y = Z + 2, X = 6 + Z Allora Y è uguale a:**

A -24
B 12
C 24

435) **Mario è il secondogenito di una coppia con due figli, e sua moglie è figlia unicA) Uno dei nonni del figlio di Mario ha una figlia che si chiama Francesca, la quale ha due anni meno di Mario. Date queste premesse, Francesca:**

A è una zia di Mario
B è la sorella di Mario
C è la moglie di Mario

436) **In ogni corso di laurea in Ingegneria c'è almeno uno studente che ha superato tutti gli esami del primo anno. Se tale affermazione è falsa, allora sicuramente:**

A in tutti i corsi di laurea in Ingegneria nessuno studente ha superato tutti gli esami del primo anno.
B c'è almeno un corso di laurea in Ingegneria in cui almeno uno studente ha superato tutti gli esami del primo anno.
C esiste almeno un corso di laurea in Ingegneria in cui nessuno studente ha superato tutti gli esami del primo anno.

437) **Individuare la coppia di termini antitetici che NON è grammaticalmente coerente con le altre:**

A garbo - malagrazia
B tatto - indelicatezza
C gentile - scortese

438) **Non è sbagliato evitare di rinunciare a non violare la legge pur non avendo dubbi sull'impossibilità di essere colti in flagrante. Qual è il corretto significato della precedente affermazione?**

A Non si deve violare la legge, in ogni caso
B Se si è sicuri di non essere colti in flagrante si può anche violare la legge
C Non si deve violare la legge perché è certo che si sarà colti in flagrante

439) **Se A = {34, 35, 36} e B = {35, 36, 37}, qual è l'insieme risultante dall'unione di A e B?**

A {34, 35, 36, 37}
B {35, 36, 37}
C {35, 36}

440) **"Chi pratica sport vive bene". "Vivere bene è una caratteristica di chi non fuma". Se le precedenti affermazioni sono vere, allora è necessariamente vero che:**

A Chi non fuma vive bene
B Chi fuma pratica sport
C Chi vive bene pratica sport

441) **Indicare quale delle seguenti opzioni fa parte dello stesso campo semantico della parola volatile":"**

A volo
B volontà
C volontariato

442) **Indicare la sillaba che, aggiunta al primo e preposta al secondo gruppo di lettere, consente di ottenere due parole di senso compiuto. LA (... NO**

A si
B ma
C ca

443) **Ha significato analogo a ineffabile":"**

A imprescindibile
B impermeabile
C impareggiabile

444) **Individuare l'abbinamento errato tra autore e opera.**

A Torino - Po
B Firenze - Adige
C Roma - Tevere

445) **Se la lettera F" corrisponde a 11, la lettera "D" corrisponde a 8 e la lettera "C" corrisponde a 14, a quale sequenza corrisponde la codifica: FDRBC?"**

A 11 - 5 - 12- 14 -9
B 11 -7 - 3 - 10 - 14
C 11 - 8 - 6 - 9 - 14

---

446) **Quali dei seguenti gruppi sillabici devono essere inseriti in sequenza perché le parole che seguono abbiano senso compiuto? APP(...) TARE - ILL(...) RATO - QUE(...)ONE**

A (IAT)- (SUT)- (STU).
B (ALT)- (UST) - (STI).
C (IAT) - (TSU) - (TSU) .

---

447) **Individuare i termini che completano correttamente la seguente proporzione. X : Polonia = Estonia: Y**

A X = Ungheria;Y = Praga
B X = Varsavia;Y = Tallin
C X = Bulgaria;Y = Budapest

---

448) **Completare la serie con il numero mancante: 4;12;36;72;?;**

A 108
B 96
C 216

---

449) **È sinonimo di edulcorare":"**

A adulterare
B modificare
C attenuare

---

450) **Individuare l'abbinamento errato:**

A astio - benevolenza
B superbia - arroganza
C avarizia - generosità

---

451) **Giuseppe acquista due T-shirt al prezzo di 11 euro e 10 centesimi. Una costa 10 euro più dell'altra. Quanto costa ciascuna T-shirt?**

A Una T-shirt costa 10 euro e l'altra 1 euro e 10 centesimi
B Una T-shirt costa 10 euro e 55 centesimi e l'altra 55 centesimi
C Una T-shirt costa 10 euro e 10 centesimi e l'altra 1 euro

---

452) **Il fatturato annuo di una società è sceso da 450.000 euro a 360.000 euro. Qual è la diminuzione percentuale?**

A 0.2
B 0.3
C 0.25

---

453) **Completare la seguente proporzione: astronomo : telescopio = X : Y**

A X = meteorologo;Y = barometro
B X = insegnante;Y = alunno
C X = scrittore;Y = libro

---

454) **Il confronto fra i due brani musicali non ha consentito di dimostrare l'impossibilità che il musicista Rossini abbia copiato la canzone dal musicista Bellini. Qual è il corretto significato della precedente affermazione?**

A Il confronto fra i due brani ha dimostrato che il musicista Rossini ha copiato la canzone dal musicista Bellini
B Il confronto fra i due brani non ha dimostrato che il musicista Rossini non ha copiato la canzone dal musicista Bellini
C Il confronto fra i due brani ha dimostrato che il musicista Rossini non può aver copiato la canzone dal musicista Bellini

---

455) **Degli iscritti a un corso di arti marziali 45 sono principianti e il 40% a livello avanzato. Quanti sono in tutto gli iscritti?**

A 120
B 75
C 90

---

456) **Individuare li termini che completano correttamente la seguente proporzione. X : girasole = azzurro: Y**

A X = sole;Y = campo
B X = estate;Y = fioritura
C X = giallo;Y = fiordaliso

---

457) **Se in base a una regola nascosta, a POLO corrisponde 16 e a BASKET corrisponde 36, che numero corrisponde a SCHERMA?**

A 49
B 22
C 36

---

458) **Completare correttamente la seguente successione, utilizzando l'alfabeto italiano: ?;P;5;R;9;?;13;V**

A 1;T
B 4;S
C 2;Q

---

459) **Bisogna che gli studenti siano molto attenti per comprendere bene la lezione di fisica. Se la precedente affermazione è vera, allora è anche vero che:**

A è possibile che gli studenti abbino compreso bene la lezione di fisica anche se non sono stati molto attenti.
B se gli studenti hanno compreso bene la lezione di fisica, vuol dire che i sono stati molto attenti.
C se gli studenti non hanno compreso la lezione di fisica, sicuramente significa che non sono stati molto attenti.

---

460) **Un operaio specializzato realizza un impianto in 15 giorni. A condizione che lavorino allo stesso ritmo, quanti operai sono necessari per preparare 5 impianti in 5 giorni?**

A 20
B 15
C 25

---

461) **Ulisse è un amante dei viaggi. Tutti i navigatori sono amanti dei viaggi. Ogni navigatore è anche uno sportivo. Se le precedenti affermazioni sono corrette, quale delle seguenti informazioni addizionali consentirebbe di concludere che Ulisse è un navigatore?**

A Chi ama i viaggi è anche un navigatore
B Non vi è bisogno di alcuna informazione addizionale
C Ogni sportivo è anche un navigatore

---

462) **Individuare l'alternativa che riporta una successione di elementi in ordine inverso rispetto alla sequenza ABABAABA.**

A ABABAABA
B ABAABABA
C ABABBABA

---

463) **Se a ogni ciclo una cellula si divide in due cellule, dopo quanti cicli le cellule saranno almeno 30, partendo da 1 cellula?**

A 5
B 3
C 4

---

464) **È sinonimo di oppugnare:""**

A Confutare
B Opprimere
C Comprovare

---

465) **Se: X + X = Y - Z, X = 6, Y = -3 Allora Z è uguale a:**

A -15
B -5
C 15

---

466) **Lanciando due volte un dado cubico regolare, con facce numerate da 1 a 6, qual è la probabilità che escano 2 numeri multipli di 3?**

A 1/9
B 1/4
C 1/2

---

467) **Completa la seguente successione: 104, 52, 56, ..., ..., 16, 20""**

A 60, 24
B 28, 32
C 30, 26

---

468) **Stefano è appassionato di giardinaggio. Tutti gli appassionati di giardinaggio amano la natura. Alcuni floricoltori sono appassionati di giardinaggio. Se le precedenti affermazioni sono vere, quale delle seguenti è sicuramente vera?**

A Non è certo che Stefano ami la natura.
B Stefano ama la natura.
C Stefano è un floricoltore.

---

469) **ATTIGUO : LIMITROFO = X : Y**

A X = prossimo;Y = lontano
B X = lontano;Y = distante
C X = circostante;Y = remoto

---

470) **Quale tra le coppie di termini proposti completa logicamente la seguente proporzione verbale: X : Onorevole = Conclave : Y**

A X = San Pietro; Y = Vaticano
B X = Parlamento; Y = Eminenza
C X = Stato; Y = Chiesa

---

471) **Individuare il diagramma che soddisfa la relazione insiemistica esistente tra i termini dati: UOMINI, DEPUTATI, SENATORI.**

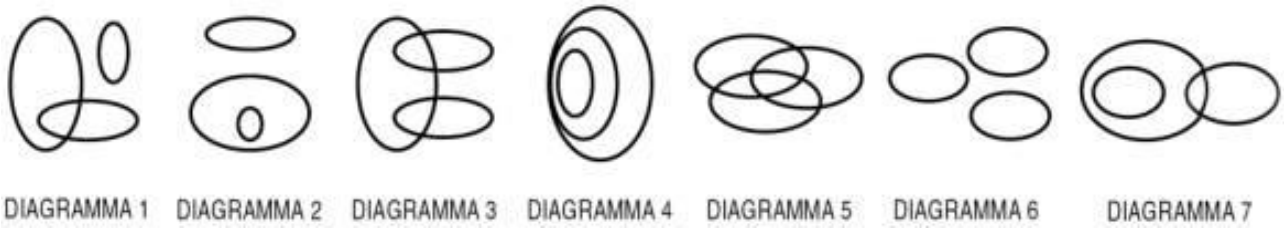

A Diagramma 1
B Diagramma 5
C Diagramma 2

---

472) **Se la lettera N identifica una qualunque cifra (singola , la lettera P identifica una qualunque cifra (singola pari e la lettera D identifica una qualunque cifra (singola dispari, allora il prodotto tra i numeri PP e PP sarà certamente un numero:**

A composto da cinque cifre
B pari
C dispari di tre cifre

---

473) **Maria vuole dividere 288 biglie tra i suoi tre figli, Davide, Andrea e Luca, in proporzione alla loro età. Sapendo che Andrea ha due anni in meno di Davide, che ha 8 anni, e Luca ha la metà degli anni di Davide, quante biglie toccheranno ad Andrea?**

A 128 biglie
B 48 biglie
C 96 biglie

---

474) **Relativamente alla sua funzione grammaticale il vocabolo "gli " può essere inserito....**

A Nel gruppo formato da: il - lo - le"."
B Nel gruppo formato da: forte - scavato - giallo.
C Nel gruppo formato da: dormire, sentire, scendere

---

475) **Individuare il numero che completa la serie: 3; 11; 33; ?; 123**

A 99
B 63
C 41

---

476) **Se cubo= 3, mare = 11, giostra = 7, fiera = ?**

A 9
B 12
C 6

477) **Quale gruppo di lettere, premesso in sequenza ai termini proposti, determina parole di senso compiuto? ALDO - AGLIO - ALGA - ALLA - ANCA.**

A C - V - M - C - B
B T - B - V - E - A
C B - T - N - A - P

478) **Quale espressione indica chi, nell'intraprendere un'attività, anticipa inopportunamente qualcosa e non agisce secondo un ordine logico?**

A Mettere il carro avanti ai buoi.
B Mettere le mani avanti.
C Menare il can per l'aia.

479) **Un'azienda riduce di un quarto il numero dei dipendenti, ma dopo qualche tempo incrementa il nuovo numero di dipendenti di un terzo. Come è cambiato globalmente il numero dei dipendenti?**

A Non si può stabilire perché non è noto il numero iniziale dei dipendenti
B È rimasto inalterato
C È diminuito di un dodicesimo

480) **Marina possiede 5 collane apparentemente identiche, una delle quali è però più pesante delle altre. Avendo a disposizione una bilancia a due piatti, quante pesate saranno sufficienti per essere certi di individuarla?**

A 2
B 3
C 4

481) **Completare la seguente successione: 3, 4, 6, 10, 18, 34, ..."**

A 86
B 66
C 96

482) **Renato è più veloce di Alberto ma più lento di Gianni, il quale a sua volta è più veloce di Franco ma più lento di Leo. Se le precedenti affermazioni sono vere, allora è necessariamente vero che:**

A Alberto è più veloce di Franco
B Renato è più veloce di Franco
C Leo è più veloce di Renato

483) **Se B = 15, C = 14, ... Z = 0, N è uguale a ?**

A 9
B 8
C 7

484) **Completare correttamente la seguente successione, utilizzando l'alfabeto italiano: H;111;L;93;N;75;?;57;R;?**

A N;37
B P;39
C O;41

485) **Completare la seguente proporzione: direttore d'orchestra : bacchetta = X : Y**

A X = pasticciere;Y = torta
B X = scultore;Y = scalpello
C X = meccanico;Y = automobile

486) **Individuare il diagramma che soddisfa la relazione insiemistica esistente tra i termini dati: DONNE SPOSATE, PERSONE ABBRONZATE, UOMINI SINGLE**

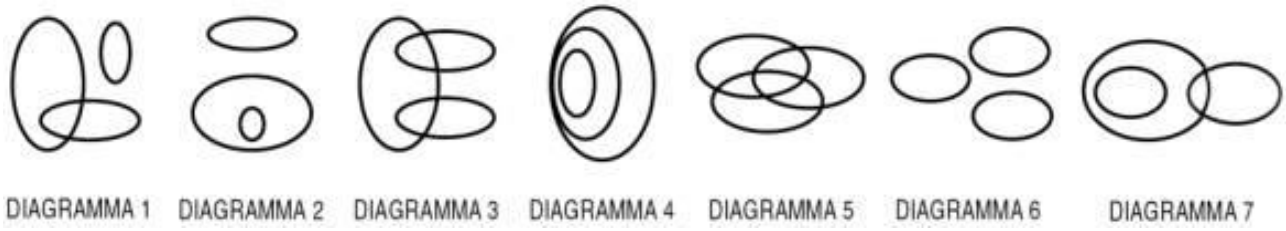

A Diagramma 1
B Diagramma 2
C Diagramma 3

487) **Un contadino porta al mercato 70 uova e ne vende 14. Quale percentuale rimane invenduta?**

A 20%
B 50%
C 80%

488) **Il significato di impavido" è: "**

A coraggioso.
B sfrontato.
C ipocrita.

489) **Considerando che il segno +" identifica "-", il segno "-" identifica "+", il segno "x" identifica ":", il segno ":" identifica "x", in quale dei seguenti punti è riproposta la seguente stringa: 12 - (9 : 3) - (20 x 4)= "**

A 12 + (9 x 3) - (20 : 4) =
B 12 + (9 x 3) + (20 :4) =
C 12 - (9 x 3) + (20 : 4) =

490) **Indicare il termine da scartare:**

A salto in alto
B salto con gli sci
C salto in lungo

491) **Tutti i divi del cinema sono famosi;Leonardo è carismatico;tutte le persone carismatiche sono famose. In base alle precedenti affermazioni, quale delle seguenti NON è necessariamente vera?**

A Non esistono persone carismatiche non famose.
B Leonardo è un divo del cinema.
C Leonardo è famoso.

492) **Individuare, tra i termini seguenti, quello che è sinonimo sia con "osservazione" sia con "altura".**

A risalto
B rilievo
C prospetto

493) **Cento conigli mangiano, in cento giorni, un quintale di carote. Quanti chilogrammi dello stesso alimento mangeranno dieci conigli in dieci giorni?**

A 1
B 100
C 10

494) **Completare la seguente successione: 8, 22, 50, 106, 218, ..."'"**

A 428
B 416
C 442

495) **Individuare l'abbinamento errato:**

A Paolo - Beatrice
B Giulietta - Romeo
C Antonio - Cleopatra

496) **Completare la seguente successione numerica: 171;168;177;?;?;178;173;170**

A 176;181
B 167;172
C 172;169

497) **Completare correttamente la seguente successione numerica: 43;30;51;?;?;47;35;22**

A 30;43
B 39;26
C 42;29

498) **Un camion che trasporta 156 bottiglie di vino, a causa di un incidente ne perde i 3/13. Successivamente, mentre il camion si trova in officina, un meccanico vengono rubate altre 20 bottiglie. Quante bottiglie intatte rimangono sul camion?**

A 100
B 56
C 120

499) **Non è assolutamente inopportuno sconsigliare, se non addirittura vietare, il consumo di superalcolici da parte dei minorenni. Che cosa si deduce dalla precedente affermazione?**

A È opportuno sconsigliare ai minorenni il consumo di alcolici
B I maggiorenni possono consumare bevande alcoliche senza problemi
C I superalcolici danneggiano la salute

---

500) **Le prime opere di Jean-Jacques Rousseau furono due discorsi scritti per l'Accademia di Digione, il Discorso sulle scienze e sulle arti (1750 e il Discorso sull'origine della diseguaglianza tra gli uomini (1755 . Nel primo di essi si sosteneva che il progresso compiuto nei settori delle scienze, delle tecniche e delle varie arti non aveva portato a un reale miglioramento dell'uomo e della società a causa dell'uso distorto che di esse si era sempre fatto, perseguendo prevalentemente fini di potere politico ed economico, di vanità personale o di interesse meramente particolare. Nel secondo, Rousseau affrontava invece il tema della diseguaglianza tra gli uomini, ricapitolando lo snodarsi della storia umana a partire da un originario "stato di natura", in cui gli uomini vivevano isolati e tra loro uguali, riuscendo a svilupparsi spontaneamente secondo le proprie inclinazioni e i propri bisogni, originariamente buoni. Il sorgere della civiltà ha poi invece corrotto alle sue radici la natura umana, conducendo a uno stato di decadenza morale, sociale e politica in cui è avvenuta una vera e propria trasmutazione dell'amore di sé (sentimento positivo verso se stessi e la propria conservazione in amor proprio, cioè egoismo. Quest'ultimo, anziché ai bisogni della collettività bada esclusivamente a quelli propri. Si scatenano così gelosie, invidie e sopraffazioni reciproche. Il sorgere della proprietà privata e la divisione del lavoro sono tra le cause principali della degenerazione della società e di una "alienazione" conseguente dell'uomo stesso, cioè del suo essere costretto a diventare altro da sé, ormai privo di quelle caratteristiche naturali che ognuno possiede potenzialmente alla propria origine. (Da: R. Massa Istituzioni di pedagogia e Scienze dell'Educazione, Laterza). Rousseau sosteneva che la natura umana è stata corrotta:**

A dai filosofi illuministi
B dalla nascita della civiltà
C dall'alienazione dell'uomo stesso.

---

501) **Completare la accessione numerica: 14 ? 100 112 130 154**

A 90
B 88
C 94

---

502) **Il ciclista A parte lungo un percorso pianeggiante alla velocità costante di 36 km/h. Il ciclista B parte all'inseguimento di A dopo tre minuti alla velocità costante di 40 km/h. Dopo quanto tempo B raggiunge A?**

A 28 minuti
B 27 minuti
C 25 minuti

---

503) **Completare correttamente la seguente successione numerica: 105; 123; 97; ?; ?; 106; 123; 141**

A 114; 132
B 117; 134
C 123; 115

---

504) **Per vincere le gare di atletica, un centometrista deve allenarsi tutto l'anno. Se l'affermazione precedente è vera, quale delle seguenti è necessariamente vera?**

A Se centometrista si allena tutto l'anno, allora vince le gare di atletica.
B Se il centometrista non si allena tutto l'anno, non vince le gare di atletica.
C È sufficiente che l centometrista si alleni tutto l'anno perché vinca le gare di atletica.

---

505) **Un treno merci parte dalla stazione A verso la stazione B che dista 210 km alla velocità di 60 km/h. Dalla stazione B parte un treno veloce alla velocità di 120 km/h. A che distanza da A i due treni si incrociano ?**

A 70 km
B 72 km
C 76 km

---

506) **Se W viene prima di K; Y viene prima di K; K viene prima di D; W viene prima di Y; qual è l'ordine corretto delle lettere?**

A Y - K - D - W
B W - Y - K - D
C D - Y - K - W

---

507) **Completare correttamente la seguente successione numerica: 121; 242; ? ; 968**

A 442
B 428
C 484

---

508) Quali tra i termini proposti completano correttamente la seguente proporzione? decennio : cinquantennio = X : Y

A X = ora Y = minuto
B X = anno; Y = lustro
C X = mese Y = settimana

---

509) La perizia degli inquirenti non ha escluso l'impossibilità che il colpo non sia stato sparato dalla casa di fronte. A quale delle seguenti la precedente affermazione è logicamente equivalente?

A Il colpo non è stato sicuramente sparato dalla casa di fronte.
B La perizia non è riuscita a certificare, dopo molte ricerche, che il colpo sia stato sparato dalla finestra
C Il colpo deve essere stato sparato dalla casa di fronte.

---

510) Se NAVE = 2; PANFILO = 3; TRANSATLANTICO = ?

A 8
B 12
C 5

---

511) Individuare la riga che contiene il maggior numero di F:

A FHHHHQRLLMGJLFEEEF
B EEGWUOOFBNKLFOPRTE
C RREEFFFFJJKFNRTIOOFF

---

512) Individuare i termini che completano correttamente la seguente proporzione: X : sassofono = percussioni: Y

A X = suono; Y = melodia
B X = piatti; Y = note
C X = fiati; Y = batteria

---

513) Completare correttamente la accessione numerica. ?, ?, 16, 55, 21, 58, 26, 61

A 11, 52
B 9, 52
C 52, 12

---

514) Chi lavora meno spende di più. Gli abitanti di Borgo Alto spendono di più. Gli abitanti di Borgo Basso spendono di meno. Individuare la conclusione corretta.

A È possibile che vi sia un abitante di Borgo Basso che lavora meno.
B È possibile che vi sia un abitante di Borgo Alto che lavora meno.
C È certo che vi sia almeno un abitante di Borgo Alto che lavora meno.

---

515) Indicare il significato del termine asfittico"."

A privo di vitalità
B imperturbabile
C irrespirabile

---

516) È sbagliato non ammettere che la competenza del medico non è bastata per impedire che la prognosi risultasse errata. Basandosi sulla precedente affermazione, individuare quale delle seguenti alternative è esatta.

A La prognosi è risultata errata nonostante la competenza del medico
B La prognosi è risultata corretta nonostante l'incompetenza del medico
C Grazie alla competenza del medico la prognosi non è risultata errata

---

517) Un autobus ha percorso i 5/9 del suo tragitto. Se ha percorso 1.500 metri, quanti metri deve ancora percorrere l'autobus per completare il tragitto?

A 1200
B 2400
C 1750

---

518) Quali, tra i termini proposti, completano correttamente la seguente proporzione verbale? Copioso: abbondante = X : Y

A X = giusto Y = errato
B X = stravagante Y = bizzarro
C X = ambiente Y = chiuso

519) **Tre campane suonano a intervalli di 4 minuti, 12 minuti e 9 minuti, rispettivamente. Se suonano insieme alle 8 di mattina, dopo quanto tempo suoneranno di nuovo insieme?**

A 24 minuti
B 72 minuti
C 36 minuti

520) **In una fattoria sono nati dei pulcini. Maria dice: Sono nati tre pulcini e sono gialli". Gianni dice: "Sono nati due pulcini gialli e due neri". Anna dice: "sono nati solo pulcini gialli". Quanti pulcini sono nati, sapendo che una e una sola delle precedenti affermazioni è falsa?"**

A 6
B 4
C 3

521) **Se su un biliardo ci sono due biglie davanti a due biglie e due biglie dietro a due biglie, qual è il numero minimo di biglie presenti?**

A 4
B 8
C 5

522) **Completare la seguente serie numerica: 11, 7, 22, 21, 44, ?, ?, 189, 176**

A 28; 55
B 63; 88
C 42; 88

523) **Se A viene prima di C, E viene prima di C, C viene prima di D ed A viene prima di E, una delle seguenti affermazioni è falsa (F) mentre tutte le altre sono vere (V): 1. A è la prima della serie 2. E viene dopo D 3. E non è l'ultima della serie 4. E viene prima di D 5. L'ordine non è alfabetico Quale tra le seguenti è dunque la sequenza corretta?**

A 1:V 2:F 3:V 4:V 5:V
B 1:V 2:V 3:V 4:F 5:V
C 1:F 2:V 3:V 4:V 5:V

524) **Completare la seguente proporzione: Tranquillo : X = Y : Discreto**

A X = Agitato; Y = Passabile
B X = Serio; Y = Perbene
C X = Irrequieto; Y = Invadente

525) **In una comunità di 5000 persone il 5% dei membri viene colpito da una malattia infettiva, che richiede il ricovero nel 50% dei casi; quanti ricoveri sono avvenuti?**

A 125
B 145
C 205

526) **Tutti gli sportivi sono estroversi; Fabrizio è audace; tutte le persone audaci sono estroverse. In base alle precedenti affermazioni, quale delle seguenti è necessariamente vera?**

A Tutti gli sportivi sono audaci.
B Fabrizio è estroverso.
C Tutti gli sportivi si chiamano Fabrizio.

527) **Individuare i termini che completano la proporzione: Puglia : Veneto= X : Y**

A X= Maremma; Y= Monferrato
B X= Salento; Y= Polesine
C X= Irpinia; Y= Maremma

528) **Completare la serie con il numero mancante: 4; 9; 19; 39 79; ?**

A 141
B 169
C 159

529) **Quali, tra i termini proposti, completano correttamente la seguente proporzione verbale? Documento: X = quadro : Y**

A X = credenza; Y = pergamena
B X = archivio; Y = pinacoteca
C X = piatto; Y = statua

530) **Completare la seguente successione di numeri: 120, 116, 112, 108, ...**

A 128
B 104
C 102

531) **Quale , tra i vocaboli elencati, si avvicina di più al contrario del termine ingiuria"?"**

A Lode
B Insulto
C Infamia

532) **Di una frase, un discorso o un'attività inconcludenti si dice che:**

A hanno un sesto senso.
B non hanno né capo né coda.
C hanno carta bianca.

533) **Il custode di un museo lavora 4 giorni consecutivi e si riposa il quinto. Se oggi il guardiano ha la giornata di riposo ed è lunedì, tra quanti giorni lavorativi riposerà nuovamente di lunedì?**

A 30
B 25
C 28

534) **Completare la successione numerica: 12; 8; 24 ? 36**

A 30
B 20
C 14

535) **Individuare l'abbinamento errato tra autore e opera.**

A Lev Tolstoj - Anna Karenina
B Gustave Flaubert - Madame Bovary
C Giovanni Verga - Il gattopardo

536) **Se B = 16, C = 15, ... Z = 1, quanto vale T?**

A 4
B 3
C 2

537) **Completare la successione numerica: 11, 33, 21, 63, 51, 153, ?, ?**

A 141, 433
B 141, 423
C 151, 413

538) **Indicare in quale delle seguenti alternative la lettera K è presente un numero maggiore di volte rispetto alla lettera W.**

A KWKWKKKWWKWKKW
B KWKWWKWWWKKKW
C WWKWKKWWWKKWKW

539) **Tre numeri naturali (interi positivi) A, B, C sono tali che la loro media aritmetica è uguale alla media aritmetica del numero C e del numero media aritmetica di A e B. In queste ipotesi si ha che:**

A C è la media aritmetica
B C = A+B
C C è il doppio di A

540) **Una persona percorre a passo costante in salita una strada lunga 3 km e ci impiega 45 min. La stessa persona poi ridiscende per la stessa strada sempre a passo costante impiegando 25 min. Nel frattempo una seconda persona parte, sempre a passo costante, dalla base della strada dopo 10 minuti dalla partenza della prima ed impiega per salire 50 min. A quale distanza dalla base le due persone si incontrano?**

A 2700
B 3000
C 2.400 metri

541) **L'agricoltura e la pastorizia nacquero intorno al 9000 avanti Cristo gli esseri umani cominciarono a coltivare piante e addomesticare animali: le risorse alimentari e fornirono la fonte diretta di energia costituita dagli animali. I buoi, gli asini, i cammelli e alla fine anche i cavalli (per non parlare delle renne, degli yak, dei bufali indiani, dei lama e degli elefanti, utilizzati nei più svariati angoli del globo) potevano, con la loro forte muscolatura, svolgere i lavori essenziali, nutrendosi di alimenti troppo grossolani per gli uomini. In base a quanto si evince dal brano intorno al 9000 a. C. gli esseri umani:**

A vivevano solo di pesca e di raccolta.
B cominciarono a praticare l'agricoltura e l'allevamento.
C cominciarono a produrre alimenti per gli animali.

---

542) **Con riferimento ai diagrammi, Individuare il diagramma che soddisfa la relazione insiemistica esistente tra i termini dati: PERSONE BIONDE, PERSONE BRUNE, CITTADINI ITALIANI.**

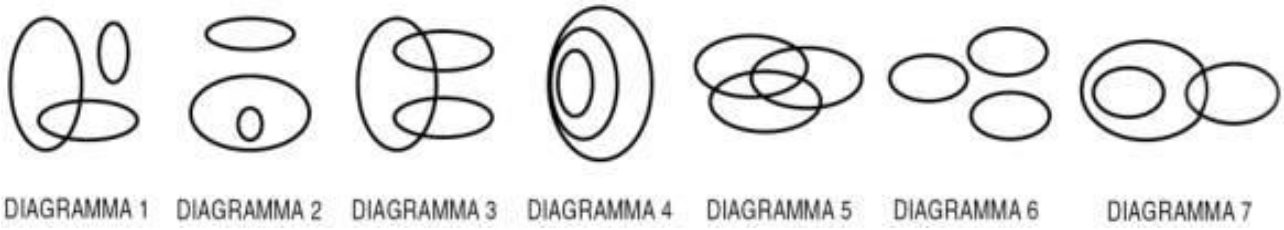

A Diagramma 5
B Diagramma 3
C Diagramma 2

---

543) **Completare la successione numerica: 11; 4; ? ; 24**

A 31
B 28
C 22

---

544) **Se il terreno viene concimato ogni anno, la produzione di ortaggi rimarrà costante. In base alla precedente affermazione, è necessariamente vero che:**

A se non si concima il terreno ogni anno, la produzione di ortaggi non rimarrà costante.
B anche se il terreno viene concimato ogni anno, la produzione di ortaggi potrebbe non rimanere costante.
C per aumentare la produzione di ortaggi occorre concimare il terreno almeno una volta all'anno.

---

545) **Negare che a tutti i lettori di gialli piacciono sia i noir italiani sia quelli inglesi significa affermare che:**

A ad almeno un lettore di gialli piacciono sia i noir italiani sia quelli inglesi.
B ad almeno un lettore di gialli non piacciono o i noir italiani o quelli inglesi.
C ad almeno un lettore di gialli non piacciono né i noir italiani né quelli inglesi.

---

546) **Una persona è illuminata" quando:"**

A è saggia e sapiente.
B ha delle visioni.
C è oscura e confusa.

---

547) **Individuare l'alternativa che riproduce fedelmente la sequenza JKFDKVDDNDLKLDVDURTEUIF se inserita al posto dei puntini nella seguente: JKFDKVD...RTEUIF**

A DNDLKLDVD
B DNBLKLDVDU
C DNDLKLDVDU

---

548) **L'obesità è una patologia in costante aumento nei Paesi occidentali che colpisce, senza distinzione, soggetti di ogni età, con un picco di incidenza nella media infanzia. Secondo alcune ipotesi l'obesità infantile si può far risalire alla relazione precoce madre bambino, all'inadeguatezza della prima a discriminare correttamente i bisogni del piccolo, all'offerta di cibo come risposta indifferenziata ai segnali di disagio che egli esprime. Attribuendo al cibo un significato di consolazione universale si altereranno le successive capacità dell'individuo di discriminare correttamente gli stimoli della fame e della sazietà. Altri, invece, hanno ipotizzato la presenza di un deficit nella capacità di riconoscimento e di regolazione delle emozioni nelle madri di bambini obesi è stata inoltre osservata una povertà comunicativa nel sistema familiare di tali bambini, che si rileva soprattutto nella difficoltà a esprimere emozioni di tipo negativo. Da altre ricerche è emerso che è soprattutto la presenza di problematiche materne quali, ad esempio, una sintomatologia di tipo psichiatrico che può essere correlata positivamente con l'obesità infantile. Il bambino obeso viene descritto in letteratura con una struttura di personalità caratterizzata da una tendenza generalizzata alla passività e alla dipendenza dall'oggetto materno e dalla presenza di vissuti depressivi. Non è, però, chiaro se questi siano una conseguenza della negativa immagine di sé che si associa all'obesità o se non siano piuttosto una causa dello stesso comportamento alimentare". Secondo quanto riportato nel brano, il problema dell'obesità infantile è dovuto principalmente:"**

A a un'offerta non regolata di cibo al bambino.
B all'incapacità dei bambini di percepire il senso di sazietà
C alla ricchezza dei Paesi occidentali.

---

549) **Marco dice a Filippo: Se mi dai 8 euro, avremo in tasca gli stessi soldi!". Filippo risponde: "Se tu dai a me 8 euro, io avrò il doppio dei tuoi soldi!". Quanti soldi hanno inizialmente in tasca, rispettivamente, Marco e Filippo?"**

A 40 e 56 euro
B 24 e 40 euro
C 16 e 32 euro

---

550) **Gaia prenderà un bel voto a scuola se e solo se non commetterà errori di distrazione. Se la precedente affermazione e vera allora è certamente vero che:**

A Se Gaia non prenderà un bel voto, vorrà dire che avrà commesso errori di distrazione.
B Se Gaia non commetterà errori di distrazione non prenderà un bel voto.
C Se Gaia commetterà un solo errore di distrazione, allora prenderà un bel voto.

---

551) **A quale dominio tra quelli proposti appartiene il termine percezione"?"**

A Psicologia.
B Botanica.
C Geometria.

---

552) **Un'asta di metallo della lunghezza di 1 metro è sospesa per il suo centro. A 30 cm dall'estremità sinistra è agganciato un peso di 5 kg, mentre all'estremità opposta è agganciato un peso di 24 kg. Cosa è necessario fare per equilibrare l'asta e mantenerla in posizione orizzontale?**

A Aggiungere, al peso agganciato a sinistra, un ulteriore peso di 55 kg.
B Aggiungere, al peso agganciato a destra, un ulteriore peso di 22 kg.
C Nulla, l'asta è già in equilibrio.

---

553) **Con 1.432 metri di rete metallica si deve delimitare un confine rettilineo. Dovendo porre i pali di sostegno ogni quattro metri, quanti pali si dovranno acquistare?**

A 359
B 355
C 350

---

554) **Quali, tra i termini proposti, completano correttamente la seguente proporzione verbale? Colonne : architrave = X : Y**

A X = tetto; Y = muro
B X = finestra; Y = vetraio
C X = gambe; Y = tavolo

---

555) **Aldo e Marco mangiano 8 mele in 15 minuti. Aldo ne mangia il triplo di Marco che a sua volta ne mangia un terzo di Gino. Quante mele potrebbero mangiare i tre insieme in un'ora?**

A 56
B 20
C 32

---

556) **Una frase è stata divisa in 5 parti, che successivamente sono state mescolate e che di seguito sono proposte in ordine casuale: - 1) e una delle consolazioni dell'amicizia \ 2) una delle più \ 3) è quell'avere \ 4) grandi consolazioni di questa vita è l'amicizia \ 5) a cui confidare un segreto. Indicare la sequenza che ricompone l'ordine della frase.**

A 3;2;1;5;4.
B 2;4;1;3;5.
C 1;2;5;4;3;

---

557) **Completare correttamente la seguente successione, utilizzando l'alfabeto italiano: Z; 4; T; 5; Z; 9; T; 14; Z; 23; ?; ?**

A T; 37
B Z; 40
C T; 34

---

558) **Se: X + 5 + Y = Z + 2, X = -15 + Z allora Y è uguale a:**

A -12
B -36
C 12

---

559) **Nessuno Zeta è Omega; qualche Beta è Zeta; qualche Erre è Omega. Se le precedenti affermazioni sono vere, allora è certamente vero che:**

A nessun Erre è Beta
B qualche Erre è Zeta
C qualche Beta potrebbe essere Omega

---

560) **Completare correttamente la seguente successione di lettere: D; G; N; C; F; M; ?; ?**

A L; H
B B; E
C E; I

---

561) **Indicare il numero che manca tra le parentesi: 72 (122) 172 82 (?) 212**

A 192
B 294
C 147

---

562) **Se IMPERIA = 6, SIENA = 4, MODENA = 5, ALESSANDRIA = ?:**

A 10
B 7
C 9

---

563) **Se l'affermazione tutti gli studenti di medicina dicono sempre la verità" è FALSA, quale delle seguenti proposizioni è necessariamente vera?"**

A Chi dice sempre la verità è uno studente di medicina.
B C'è almeno uno studente di medicina che non dice sempre la verità.
C Chi non è studente di medicina non dice sempre la verità.

---

564) **Completare correttamente la seguente successione numerica: 11; 20; 18; ?; 25; 12; ?; 8**

A 16; 32
B 32; 8
C 27; 8

---

565) **In un club sportivo tennistico si hanno le seguenti percentuali di uomini e donne che praticano il tennis: - uomini 60% - donne 40% Se il totale degli iscritti è 130, quante sono le donne che praticano il tennis?**

A 50
B 52
C 58

---

566) **Solo se c'è corrente la stampante funziona. Se la precedente affermazione è vera, allora è possibile dedurre che:**

A Se la stampante non funziona, allora non c'è corrente.
B Non è necessario che ci sia corrente perché la stampante funzioni.
C Se la stampante funziona, allora c'è corrente.

---

567) **Se in un gruppo di 40 persone 16 sono maggiorenni, qual è la percentuale di minorenni nel gruppo?**

A 60%
B 80%
C 30%

---

568) Tutte le persone lungimiranti sono tenaci. Tutte le persone lungimiranti sono generose. Individuare il corretto completamento del sillogismo.

A Tutte le persone tenaci sono lungimiranti.
B Tutte le persone tenaci sono generose.
C Tutte le persone lungimiranti sono tenaci.

---

569) Individuare la successione numerica corrisponde alla seguente: 21711217712""

A 21712217712
B 21711217712
C 21771211712

---

570) Sull'autobus un avviso recita: I passeggeri sono tenuti a pagare un ulteriore biglietto per ogni bagaglio che superi le seguenti dimensioni: 50 cm x 30 cm x 25 cm". Chi legge comprende che, in base a questa norma, si debba pagare un ulteriore biglietto per un oggetto di qualunque forma che occupi uno spazio il cui volume è superiore a quello occupato dal bagaglio sopra descritto. Pertanto:"

A si deve pagare un biglietto per un bastone lungo 90 cm e con il diametro di 2 cm se tenuto orizzontalmente.
B si deve pagare un biglietto per un pallone del diametro di 20 cm.
C si deve pagare un biglietto per un oggetto che supera 50 cm di lunghezza e 30 cm di altezza e 25 cm di spessore.

---

571) Completare la seguente successione numerica: 6; 8; 16; 18; 36 ? ?

A 72; 74
B 38; 46
C 44; 46

---

572) Dall'affermazione non è stata data la prova della negazione della certezza che gli Italiani non si astengono dal manifestare paura per gli animali esotici" consegue che:"

A gli Italiani hanno paura degli animali esotici.
B gli Italiani non hanno paura degli animali esotici.
C gli italiani non sanno se aver paura o meno degli animali esotici.

---

573) In quale gruppo di vocaboli può essere inserirà per affinità la seria: Il punto-la punta / Lo scalo-la scala / Il testo-la testa / ..?..

A L'imprenditore -l'imprenditrice.
B Il visto-la vista.
C Il gatto-la gatta.

---

574) Completare la seguente successione numerica: 89 82 70 ? 51

A 56
B 63
C 52

---

575) Un'azienda ha fatto registrare un fatturato (in migliaia di euro) pari rispettivamente a 400.000 euro nell'anno 2019 e a 440.000 euro nel 2020. L'incremento percentuale del fatturato registrato nel passaggio dall'esercizio 2019 a quello 2020 è stato pari al:

A 12%
B 10%
C 4%

---

576) Completare correttamente la seguente proporzione: luce : X = calore : Y

A X = lampadina; Y = stufa
B X = giorno Y = notte
C X = ombra Y; = luminosità

---

577) Completare correttamente la seguente successione di lettere, utilizzando l'alfabeto italiano: ?; F; H; L; N

A D
B E
C O

---

578) Era sufficiente chiedere cortesemente il lasciapassare per ottenerlo. Se la precedente affermazione è vera, allora è vero che:

A Chi non ha ottenuto il lasciapassare non lo ha chiesto cortesemente.
B chi non lo ha chiesto cortesemente non ha ottenuto il lasciapassare
C il lasciapassare è stato dato solo alle persone più gentili

579) **Il più grande di tre fratelli ha un'età pari alla somma delle età degli altri due; il fratello intermedio ha il doppio dell'età del più piccolo. Inoltre l'età del fratello intermedio è pari a quella del maggiore meno tre. Quanti anni ha il più piccolo?**

A 6
B 8
C 3

580) **Quanti triangoli equilateri possono essere disegnati intorno a un punto, accostandoli come fette di una torta?**

A 9
B 12
C 6

581) **Completare correttamente la frase seguente scegliendo il sostantivo adeguato tra quelli proposti: "Qui le pareti sono tinte d'un sudicio azzurro, e il soffitto è annerito come in una di quelle _____ fumose: ciò che fa intendere che qui dentro, l'inverno, le stufe fanno fumo, e l'atmosfera si fa asfissiante" (A. Cechov).**

A isbe
B isobare
C risme

582) **Individuare la successione di numeri che presenta una simmetria rispetto allo 0.**

A 321789 (0) 938721
B 321789 (0) 982137
C 321789 (0) 987123

583) **Quale risultato si ottiene sottraendo da 2588 il numero 2324**

A 864
B 264
C 282

584) **Completare correttamente la seguente successione, utilizzando l'alfabeto italiano: D; 115; F; 97; H; 79; ?; 61; N; ?**

A L;43
B L; 41
C L; 45

585) **Completare correttamente la seguente successione: 13; 21; 10; 26; 7; 31; 4; 36; ?; ?**

A 40; 1
B 1; 39
C 1; 41

586) **Nessun lettore di romanzi è amante dello sport; Alcuni filosofi sono amanti dello sport; Tutti i lettori di romanzi sono persone anziane. Se le precedenti affermazioni sono vere, allora è certamente vero che:**

A qualche lettore di romanzi potrebbe essere filosofo e non essere anziano
B nessun amante dello sport può essere anziano
C almeno un filosofo può essere anziano

587) **Un segmento di 42 cm è diviso in due parti proporzionali ai numeri 2 e 5. Quanto misura la parte più corta?**

A 12 cm
B 10 cm
C 30 cm

588) **In un gruppo di 12 persone, ognuna può studiare, lavorare o fare entrambe le cose. Se 9 persone studiano e 7 lavorano, quante sono le persone che contemporaneamente svolgono entrambe le attività?**

A 4
B 2
C 7

589) **Completare la seguente analogia: X : flotta = alunno : Y.**

A X = nave; Y = classe
B X = militare; Y = scolaresca
C X = onda; Y = maestro

590) **Piero ha letto 32 pagine più della metà di un romanzo, per cui gli mancano 132 pagine alla fine. A quale pagina è arrivato?**

A 96
B 158
C 264

591) **La frase da quanto si sa, non si può concludere che la partita sia stata persa" equivale logicamente a:"**

A si può affermare che la partita è stata vinta
B non è possibile sostenere che la partita sia stata persa
C presto si saprà se la partita è stata vinta o persa

592) **Un sogno è una produzione psichica che si forma durante il sonno senza una motivazione cosciente. Nel sogno la coscienza non è completamente estinta, ma ne rimane sempre un piccolo residuo. Per esempio, nella maggior parte dei sogni sussiste ancora una certa coscienza dell'Io, per quanto si tratti di un Io molto limitato e stranamente deformato, noto come Io onirico, e che è semplicemente un frammento o un'ombra dell'Io di veglia. La coscienza esiste soltanto quando i contenuti psichici sono associati all'Io e l'Io è un complesso psichico di un genere particolarmente solido. Poiché il sonno è raramente del tutto privo di sogni, possiamo presumere che solo di rado l'attività del complesso dell'Io è interamente sospesa; di solito la sua attività è soltanto limitata dal sonno. I contenuti psichici che si associano all'Io durante il sogno si presentano in modo affine alle situazioni esteriori della vita reale, per cui nei sogni ci troviamo abitualmente in situazioni che non avremmo potuto concepire da svegli ma che sono molto simili a quelle che si osservano nella realtà. Secondo l'autore del brano, nel sogno:**

A la coscienza è completamente estinta
B raramente rimane un piccolo residuo di coscienza
C la coscienza non è completamente estinta

593) **Una strada lunga 104 metri ha in totale 28 platani posti su entrambi i lati. Sapendo che i platani sono tra loro equidistanti, a quale distanza è posto un platano dall'altro?**

A 4,4 metri
B 3,7 metri
C 8 metri

594) **Roberto ha un fratello di nome Mauro e una sorella di nome Anna, che ha sposato il fratello della moglie di Roberto. Che relazione c'è tra Roberto e il marito di Anna?**

A Sono consuoceri
B Sono cognati
C Sono cugini

595) **Se è vero che solo se faccio del bene sono felice", vuol dire che: "**

A Se non sono felice non faccio del bene
B Chi fa del bene è più felice di chi non ne fa
C Se sono felice allora ho fatto del bene

596) **Se il pomeriggio ho lavorato, la sera ho fame e se la sera ho fame, allora sono nervoso. Quale delle seguenti conclusioni non posso trarre da queste premesse?**

A Se lavoro il pomeriggio, allora la sera ho fame e sono nervoso.
B Se la sera non ho fame, allora non sono nervoso.
C Se la sera non ho fame, allora non ho lavorato il pomeriggio.

597) **Se non è vero che tutti gli abitanti di Low City sono bassi e antipatici", quale delle seguenti affermazioni è vera?"**

A Esiste qualche abitante di Low City che non è basso oppure non è antipatico.
B Gli abitanti di Low City sono alti e antipatici.
C Gli abitanti di Low City se sono bassi non sono simpatici.

598) **I gabbiani possono solamente volare e camminare, ma le scimmie possono saltare. Se la precedente affermazione è corretta, allora:**

A le scimmie possono volare.
B i gabbiani talvolta saltano.
C i gabbiani non saltano.

599) **Indicare in quale delle seguenti alternative viene rispettata la regola di alternanza vocale - consonante"."**

A APOVIBELEUFABON
B APOVUBELPUFABUN
C APOVABELEFABANU

---

600) **Utilizzando l'alfabeto italiano, completare correttamente la seguente successione di lettere: C; F; C; E; H; E; ?; ?**

A H; E
B G; L
C Q; O

---

601) **Individuare l'abbinamento errato.**

A Toscana - isola d'Elba
B Sardegna - isola di San Pietro
C Sicilia - isola di Capri

---

602) **Non tutti i sociologi escludono il fatto che Internet abbia evitato un calo dell'occupazione. In base alla precedente affermazione, individuare quale delle seguenti alternative è esatta.**

A Secondo alcuni sociologi l'occupazione è calata nonostante Internet.
B Almeno un sociologo ritiene possibile che Internet abbia evitato un calo dell'occupazione.
C Internet è un fattore che contribuisce a evitare il calo dell'occupazione.

---

603) **In quale dei seguenti gruppi alfanumerici sono contenuti, in ordine diverso, tutti gli elementi della seguente stringa: QFOSKUELAXKEZRQMZJG**

A EUKSZGQXMJKLPFZAOEBO
B EUKSZGQXMJKLPFRQZAOE
C EUKSZGQXMJNKLPFHRQZA

---

604) **Dei 50 iscritti a un corso di danza non tutti sono donne, ma se si prendono due iscritti a caso, almeno uno dei due è una donna. Quante sono le donne iscritte al corso?**

A 49
B 45
C 48

---

605) **Un fiorista, avendo 75 rose, 60 margherite e 90 tulipani, vuole distribuirli in vasi contenenti ciascuno il maggior numero di fiori dei 3 tipi. Di quanti vasi avrà bisogno? E quanti fiori di ciascun tipo conterrà ciascun vaso?**

A 15 vasi e 15 fiori
B 3 vasi e 75 fiori
C 5 vasi e 45 fiori

---

606) **Il dottor Rossi arriva in ufficio sempre puntuale alle ore 9. Ogni giorno esce da casa alle 8.45 e si incammina verso il posto di lavoro mantenendo la velocità costante di 5 km/h. Oggi, purtroppo, a causa di un contrattempo, esce di casa alle 8.50. Quale velocità deve mantenere il dottor Rossi per poter arrivare in ufficio alle 9?**

A 7,5 km/h
B 6 km/h
C 12,3 km/h

---

607) **Tutti i bambini sono capricciosi; Max è capriccioso; tutte le persone capricciose hanno un carattere difficile. In base alle precedenti affermazioni, quale delle seguenti NON è necessariamente vera**

A Max è un bambino.
B Chi non ha un carattere difficile non è capriccioso.
C È impossibile che Max non abbia un carattere difficile.

---

608) **Tutti i tassisti sono abili guidatori. Giovanni è un abile guidatore. Tutti i tassisti sono agitati. Se le precedenti affermazioni sono vere, quale delle seguenti è necessariamente vera?**

A Nessun tassista è un abile guidatore ed è calmo.
B Giovanni è agitato.
C Tutti gli abili guidatori sono agitati.

---

609) **Completare la seguente successione numerica: 61; 87; 121; ?; ?; 156; 131; 157**

A 96; 122
B 99; 124
C 113; 125

---

610) **A è più di B. C e D sono entrambi più magri di E. B è più grasso di C ma più magro di D. Se le precedenti informazioni sono corrette, F è più grasso di B se è anche vero che:**

A F è più grasso di C.
B E è più grasso di F.
C F è più grasso di A.

---

611) **Se l'affermazione Nel centro storico tutti i palazzi sono antichi" è FALSA, quale delle seguenti affermazioni è necessariamente vera?"**

A Nel centro storico tutti i palazzi non sono antichi.
B Nel centro storico non ci sono palazzi antichi.
C Almeno un palazzo nel centro storico non è antico.

---

612) **Completare la seguente successione numerica: 68; 34; 36; 18; ?; ?**

A 20; 10
B 21; 10
C 21; 20

---

613) **Se il leone è un animale predatore e molti degli animali predatori cacciano con la tecnica della mimetizzazione:**

A Il leone certamente caccia con la tecnica della mimetizzazione.
B tutti gli animali predatori cacciano solo con la tecnica della mimetizzazione.
C non è possibile dire con certezza se il leone cacci le proprie prede con la tecnica della mimetizzazione.

---

614) **Se l'affermazione nella Roma antica tutte le strade erano lastricate" è FALSA, quale delle seguenti proposizioni è necessariamente vera?"**

A Almeno una strada nella Roma antica non era lastricata.
B Nell'antica Roma non esistevano strade lastricate.
C L'antica Roma aveva almeno due strade non lastricate.

---

615) **Completare la seguente successione numerica: 56; 36; 50; 40; 44; 44; 38; ?; ?**

A 48;32
B 32; 50
C 48; 31

---

616) **Completare correttamente la seguente successione: 11; O; 13; M; 12; I; 14; G; 13; E; ?; ?**

A C; 12
B 12; D
C 15; C

---

617) **Due ore fa era passato tanto tempo dall'una del pomeriggio quanto ne sarebbe passato fino all'una di notte. Che ora è adesso?**

A 16
B 21
C 23

---

618) **Arrivato in aeroporto, un viaggiatore osserva i seguenti dati: 1) l'aereo in arrivo da Milano per Praga atterra alle 12.00 e riparte alle 12.30; 2) l'aereo che va a Stoccolma parte 90 minuti dopo quello che va a Berlino che parte alle 12.00; 3) 40 minuti prima del volo per Stoccolma parte l'aereo per Mosca e, 10 minuti dopo quest'ultimo, quello per Lisbona. In base alle informazioni precedenti, l'aereo che va a Berlino parte:**

A un'ora prima di quello per Stoccolma.
B alla stessa ora di quello per Praga.
C 50 minuti prima di quello per Mosca.

---

619) **Indicare in quale delle seguenti alternative non viene rispettata la regola di alternanza vocaleconsonante"."**

A CUDEFOMOROSZAP
B CIXEFOMUSAPIDIC
C UCIXEFOMOCAPIDI

---

620) **Quale termine integra la serie malaugurato - infelice - funereo ....?**

A infausto
B avvilente
C vergognoso

---

621) **Completare correttamente la seguente proporzione. bicchiere: vetro = X : Y**

A X = bevanda; Y = calice
B X = piatto; Y = porcellana
C X = bottiglia; Y = tazza

622) **In un vivaio che dispone solo di giacinti o di tulipani, un giardiniere ha comprato un bulbo. i bulbi di giacinti sono tutti di giacinti screziati. Dal bulbo acquistato dal giardiniere è nato un fiore non screziato. È dunque possibile concludere che il giardiniere:**

A ha comprato un bulbo di tulipano.
B ha comprato un bulbo di giacinto.
C ha comprato un bulbo di giacinto non screziato.

623) **Dall'affermazione chi commette un reato non dice mai la verità" è logicamente deducibile che:"**

A coloro che commettono reati mentono sempre.
B chi mente ha commesso un reato.
C Le persone che non commettono reati dicono sempre la verità.

624) **Solo se lavati con cura, i denti non vengono danneggiati dalla carie. In base alla precedente affermazione, quale delle seguenti NON è necessariamente vera?**

A È necessario lavare i denti con cura perché non vengano danneggiati dalla carie.
B I denti danneggiati dalla carie non sono stati lavati con cura.
C I denti non danneggiati dalla carie sono stati lavati con cura.

625) **Completare correttamente la seguente proporzione : brillante : X = Y : encomiastico**

A X = noioso; Y = spregiativo
B X = luminoso; Y = vivace
C X = lodevole; Y = ammirevole

626) **Quale delle tre serie di numeri o lettere è identica alla seguente: 373737773337337K**

A 373737333337337K
B 337737733337337K
C 373737773337337K

627) **Individuare l'abbinamento errato.**

A Firenze - Castello Sforzesco
B Pisa - Torre pendente
C Torino - Mole Antoneliana.

628) **Maria acquista due magliette al prezzo di 18 euro. Se una costa il doppio dell'altra, quanto costa ciascuna?**

A 13 euro e 5 euro
B 14 euro e 4 euro
C 12 euro e 6 euro

629) **Se l'affermazione Tutte le ginnaste svolgono due tipi di esercizi a corpo libero" è FALSA, allora è necessariamente vero che:"**

A tutti le ginnaste svolgono un tipo di esercizio a corpo libero.
B nessuna ginnasta svolge due tipi di esercizi a corpo libero.
C esiste almeno una ginnasta che non svolga due tipi di esercizi a corpo libero.

630) **Se l'affermazione non tutti i giorni del mese d'agosto vado in spiaggia" è vera, allora necessariamente."**

A almeno un giorno del mese di agosto non vado in spiaggia.
B non esiste un giorno in agosto in cui non vada in spiaggia.
C in luglio generalmente non vado in spiaggia.

631) **Qual è risultato della somma 1+2+3+4+5+6+7+8+9+10 ?**

A 71
B 68
C 55

632) **Per permettere all'idraulico di completare il suo lavoro è necessario che Giorgia rimanga in casa tutto il giorno. Se tale affermazione è vera, allora è vero che:**

A se Giorgia non rimane in casa tutto il giorno l'idraulico non può completare il suo lavoro.
B Giorgia rimane in casa tutto il giorno e quindi l'idraulico completa il suo lavoro.
C Giorga rimane in casa tutto il giorno solo se l'idraulico completa il suo lavoro.

633) **Due numeri interi hanno somma 9 e prodotto 18. Quanto vale il minore dei due interi?**

A 2
B 3
C 6

---

634) **Quali consonanti, anteposte al gruppo di lettere OLLA, formano parole di senso compiuto?**

A G - N - R - T
B B - C - F - Z
C D - F - N - V

---

635) **Negli ultimi decenni è stata dedicata una crescente (1) _____ al fenomeno della conflittualità interpersonale estrema nei luoghi di (2) ____, definita con il termine di mobbing. Il mobbing riguarda una serie di comportamenti (3)____ condotti nei confronti di un lavoratore dal superiore o dai colleghi, reiterati frequentemente per un periodo relativamente lungo di tempo.**

A (1) attenzione (2) lavoro (3) ostili
B (1) curiosità (2) divertimento (3) osceni
C (1) enfasi (2) culto (3) ambigui

---

636) **Indicare i numeri che completano la serie: 29, 24, ?, 14, 9, ?**

A 10, 5
B 19, 4
C 12, 7

---

637) **Consideriamo inoltre una gran cosa l'indipendenza dai (1) _____, non perché ci si debba accontentare del poco, ma per (2)..... anche di questo poco se ci capita di non avere molto, convinti come siamo che l'abbondanza si gode con più dolcezza se meno da essa dipendiamo. In fondo ciò che veramente serve non è difficile da trovare; l'inutile è invece difficile. I sapori semplici danno lo stesso piacere dei più raffinati, l'acqua e un pezzo di (3)..... fanno il piacere più pieno a chi ne manca. (Epicuro) Indicare quale dei gruppi di parole integra, nell'ordine, le parole omesse nel testo.**

A (1) bisogni (2) godere (3) pane.
B (1) bisogni (2) soffrire (3) pane.
C (1) nulla (2) godere (3) vita.

---

638) **Se P viene prima di Q; O viene prima di Q; Q viene prima di R; O viene prima di P, quale tra queste affermazioni non è corretta?**

A O non è la seconda lettera della serie
B O viene dopo R
C Q non è l'ultima della serie

---

639) **Individuare la stringa alfanumerica in cui la lettera M segue un numero dispari.**

A BH789FCD346GBS468841MB78CX34F
B 36CS789D3X6MFC468841W34FBHGB4B
C SBH789D34678MCX34FGBFC468841WB

---

640) **Completare la seguente successione: 104, 52, 56, ..., ..., 16, 20""**

A 30, 52
B 32, 28
C 28, 32

---

641) **Indicare in quale delle seguenti alternative è presente 3 volte il gruppo di lettere QWEK"."**

A VGQWEKXQWEKVGFFMKQWEK
B VGYTQWEKXDREVVGDQWEKUHY
C VGYTFCXDREFFVQWEKUHY

---

642) **Lo studio di Gabriele è a metà strada tra la casa di Paola e la casa di Silvia. La casa di Silvia è a metà strada tra la casa di Giuseppe e lo studio di Gabriele. Pertanto:**

A Silvia abita più lontano dalla casa di Gabriele che non dalla casa di Giuseppe.
B Silvia abita più vicino alla casa di Gabriele che non alla casa di Giuseppe.
C Paola abita più vicino allo studio di Gabriele che non alla casa di Silvia.

---

643) **Se, aggiungendo al numero A la sua metà, si ottiene il numero B, quale percentuale di A è B?**

A 150%
B 50%
C 120%

---

644) **Se la Juventus ha vinto contro la Roma, è certo che:**

A ha segnato più di una rete
B ha segnato almeno una rete
C ha segnato solamente una rete

---

645) Completare la seguente successione: 2, 7, 12, ..., 22, 27""

A 17
B 19
C 27

---

646) Siano P la proposizione x è divisibile per 4" e Q la proposizione "x è divisibile per 2". Allora:"

A P implica Q
B P equivale a Q
C Q implica P

---

647) Individuare il diagramma che soddisfa la relazione insiemistica esistente tra i termini dati: LAGUNE, GHIACCIAI, MARI

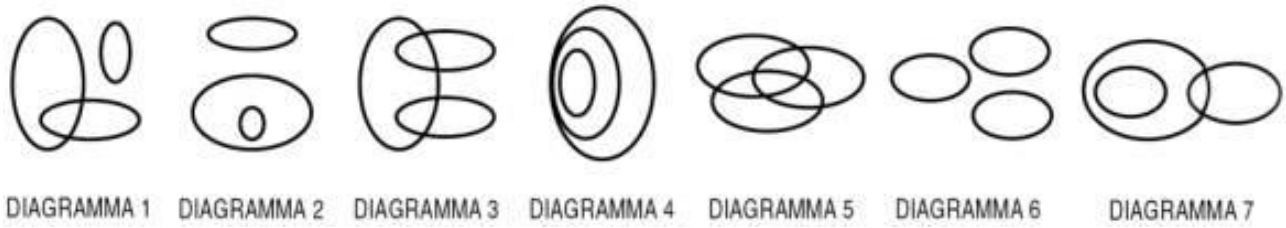

A Diagramma 3
B Diagramma 4
C Diagramma 6

---

648) Se l'affermazione In tutte le famiglie che posseggono almeno due animali, c'è almeno un cane" è vera, allora necessariamente:"

A se una famiglia ha due animali, allora ha almeno un cane.
B una famiglia deve sempre avere almeno un animale.
C una famiglia non può avere solo un gatto.

---

649) Non posso affermare di non aver votato alle elezioni amministrative. Pertanto:

A ho votato alle elezioni amministrative.
B voterò alle elezioni amministrative.
C potrei anche non aver votato alle elezioni amministrative.

---

650) Dei seguenti plurali di nomi composti non è corretto:

A capisaldi
B portafogli
C pianiforte

---

651) Se in questo momento sono le 3; a quale ora per la prima volta dopo questo orario le lancette dell'orologio si troveranno l'una sul prolungamento dell'altra?

A Verso le 3 e 49 minuti.
B Verso le 4 e 5 minuti.
C Verso le 3 e 25 minuti.

---

652) Tre pasticceri preparano una meringa rispettivamente in 4, 5 e 6 minuti. Quanto impiegano insieme a prepararne 37?

A 1 ora.
B 37 minuti.
C 55 minuti.

---

653) Inserire nel testo che segue le parole omesse. Quando si considera l'espressione "cultura umanistica", si deve valutare il termine "cultura" nel suo senso (1)_____: una cultura fornisce le conoscenze, i (2)____, i simboli che orientano e guidano le vite umane. La cultura umanistica è stata, rimane e deve divenire una preparazione alla vita non più per un élite ma per tutti. Letteratura, poesia e cinema devono essere considerati non solamente, né principalmente, come oggetti d'analisi grammaticale, sintattica o semiotica, ma come (3) _____ di vita, e ciò in molteplici sensi"."

A (1) lato; (2) motori; (3) ragioni
B (1) antropologico; (2) valori; (3) scuole
C (1) matematico; (2) prodotti; (3) vicende

654) **Individuare il diagramma che soddisfa la relazione insiemistica esistente tra i termini dati: TEDESCHI, SCIATORI, IMPRUDENTI**

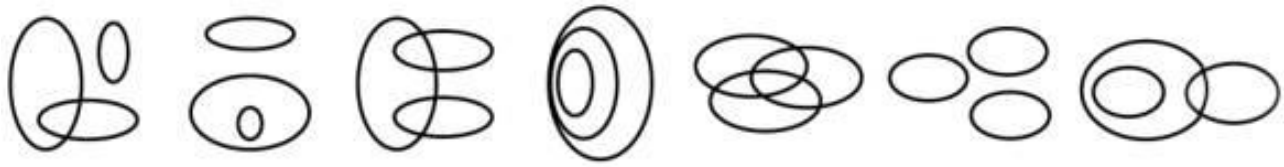

DIAGRAMMA 1 DIAGRAMMA 2 DIAGRAMMA 3 DIAGRAMMA 4 DIAGRAMMA 5 DIAGRAMMA 6 DIAGRAMMA 7

A Diagramma 1
B Diagramma 2
C Diagramma 5

655) **Indicare in quale delle seguenti alternative la lettera P è presente il maggiore numero di volte.**

A PPJPPBPBPPPJPPPB
B PBCPBPBPPPJBBJQP
C PCPBPJPPBPPBPPQP

656) **Quali, tra i termini proposti, completano correttamente la seguente proporzione verbale? Ospedale : reparto = X : Y**

A X = medico; Y = avvocato.
B X = cura; Y = condanna.
C X = tribunale; Y = sezione.

657) **Qual è il numero che aggiunto a 5644 dà per risultato 7528?**

A 1712
B 1884
C 1962

658) **Completare la seguente proporzione. X : temperato = Y : caldo**

A X = freddo; Y = vapore
B X = allegro; Y = gelato
C X = polare; Y = freddo

659) **Cinque persone si dividono in parti uguali una somma di denaro. Se il denaro, anziché per cinque, fosse stato diviso per quattro, ciascuno avrebbe ricevuto 40 euro in più. A quanto ammontava la somma di denaro da dividere?**

A 800 euro
B 250 euro
C 400 euro

660) **Un orologio segna le 3. La lancetta dei minuti forma con quella delle ore un angolo retto. Dopo circa quanti minuti le due lancette formeranno un nuovo angolo retto?**

A Dopo 33 minuti.
B Dopo 43 minuti.
C Dopo 38 minuti.

661) **Individuare il vocabolo che ha significato analogo ad antitesi"."**

A Somiglianza
B Corrispondenza
C Contrapposizione

662) **In un gruppo di cinque persone, Attilio, Bruno, Ugo, Danilo, Piero, quella senza lavoro è la più alta, mentre quella che fa l'imprenditore la più bassa. Bruno è più basso di Attilio; né il più alto né il più basso sono sposati. Attilio, Ugo e Piero vivono in affitto. Solo Bruno e Ugo sono sposati. L'imprenditore possiede un palazzo in cui da vent'anni ha affittato un appartamento alla famiglia dell'operaio che è più basso del commerciante. Il commerciante, essendo solo, vive in affitto come il disoccupato. In ordine di altezza dal più basso al più alto si possono avere:**

A Bruno, Danilo, Ugo, Piero, Attilio.
B Danilo, Ugo, Bruno, Attilio, Piero.
C Ugo, Bruno, Piero, Danilo, Attilio.

663) **Blu, rosso, verde, marrone, azzurro e giallo sono i sei colori usati per indicare ciascuno dei sei appartamenti in un palazzo di due piani (primo e secondo), in cui ogni piano prevede tre appartamenti. Si sa che il giallo è sotto il blu e il rosso è accanto al verde. In base alle precedenti informazioni, se il rosso è accanto al blu:**

A il marrone è al secondo piano
B l'azzurro è al primo piano
C i| rosso è al primo piano

---

664) **Completare la seguente successione di numeri: 8; 4; 24; 12; 72; 36; ?; 108; 648**

A 336
B 216
C 200

---

665) **Se Gaia è in ufficio, allora Mauro è a scuola. Se l'affermazione precedente è vera, quale delle seguenti è certamente vera?**

A Se Gaia non è in ufficio, allora Mauro non è a scuola.
B Se Mauro non è a scuola allora Gaia non è in ufficio.
C Gaia e Mauro non possono mai essere a scuola insieme.

---

666) **Il valore di un'automobile diminuisce del 20% ogni anno. Dopo 3 anni qual è il valore dell'automobile in percentuale, rispetto al valore iniziale?**

A 51,20%
B 59,50%
C 48,20%

---

667) **Non è inopportuno non smentire che l'indifferenza non sia difforme dall'egoismo. La precedente affermazione equivale a:**

A Indifferenza ed egoismo sono conformi.
B è sbagliato dire che l'indifferenza ed egoismo sono conformi.
C L'indifferenza e l'egoismo non sono simili.

---

668) **Completare la seguente successione numerica: 128; 48; ?; ?; 32; 192; 16**

A 64; 98
B 64; 96
C 96; 62

---

669) **Qual è il numero il cui quadruplo meno due è uguale a ventisei?**

A 4
B 8
C 7

---

670) **Se Paolo non telefona a Marco, allora il loro appuntamento avrà luogo al Caffè del Corso alle 21:00. Se la precedente affermazione è vera, si può concludere che:**

A se i due amici non si incontrano al Caffè del Corso alle 21:00, allora Paolo non ha telefonato a Marco
B se i due amici si incontrano al Caffè del Corso alle 20:00 allora Paolo ha telefonato a Marco.
C se i due amici si incontrano al Caffè del Corso alle 21:00, allora Paolo non ha telefonato a Marco.

---

671) **In una scuola, composta da 250 alunni, sono stati attivati due corsi pomeridiani. Se 200 alunni frequentano il corso di informatica, 199 il corso di teatro e 46 nessuno dei due corsi, quanti alunni frequentano entrambi i corsi?**

A 15
B | 205
C 195

---

672) **Quale dei seguenti non è un anagramma del nome di uno stato?**

A Saturia
B Strofa
C Armonia

---

673) **Un aereo ha 132 posti a sedere. Poiché c'è una poltrona vuota ogni tre passeggeri, quanti sono le poltrone vuote su quell'aereo?**

A 33
B 22
C 19

---

674) **Dividendo a metà il i quadrato di quale numero si ottiene 50?**

A 9
B 5
C 10

---

675) **Dei 1050 iscritti a un concorso, i 2/5 superano la prima prova. I 4/9 degli esclusi vengono riammessi in seguito a un ricorso e accedono anche loro alla seconda prova. Solo i 2/5 dei candidati ammessi alla seconda prova accederanno alla prova finale. Quanti candidati accedono alla prova finale?**

A 350
B 320
C 280

---

676) **Qual è la differenza tra i 2 risultati delle operazioni seguenti? 5514 / 2 e 5512 / 2**

A 0.5
B 1
C 3

---

677) **Quali, tra i termini proposti, completano correttamente la seguente proporzione verbale? Rilevare : X = impregnare : Y**

A X = riscontrare; Y = intridere
B X = liberare; Y = riempire
C X = minimizzare; Y = inzuppare

---

678) **Individuare il diagramma che soddisfa la relazione insiemistica esistente tra i termini dati: ANIMALI, GABBIANI, UCCELLI**

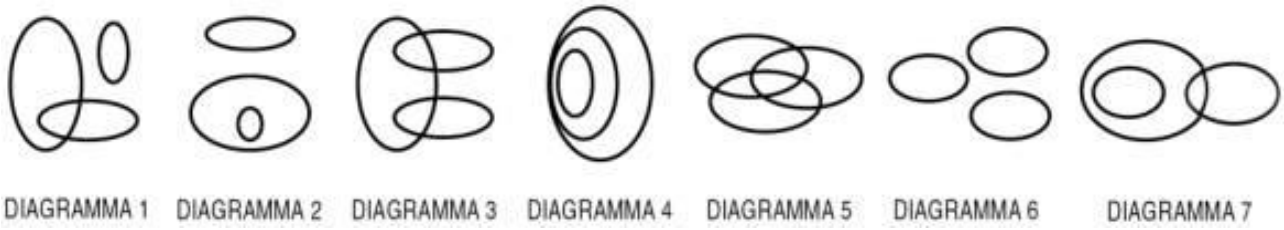

A Diagramma 4
B Diagramma 2
C Diagramma 3

---

679) **È necessario che il direttore dia il proprio assenso affinché il progetto venga avviato. Se l'argomentazione precedente è vera, quale delle seguenti è certamente vera?**

A Se il progetto non è stato avviato significa che il direttore non ha dato il proprio assenso.
B Se il progetto è stato avviato allora il direttore ha dato il proprio assenso.
C Se il direttore ha dato il proprio assenso allora il progetto viene sicuramente avviato.

---

680) **Completare la seguente successione: ABC UVZ FGH CDE ILM .... UVZ""**

A SRQ, TVU
B NOP, RST
C GEN, RDH

---

681) **Una lumaca si arrampica lungo la parete di un pozzo profondo 5 metri. Ogni giorno sale di 3 m e ogni notte, mentre dorme, scivola verso il basso di 2 m. Dopo quanti giorni la lumaca potrà uscire dal pozzo?**

A 3
B 5
C 4

---

682) **Tutte le studentesse sono giovani. Chi è giovane ama ballare. Chi ama ballare non è timido. Se le precedenti informazioni sono vere, quale delle seguenti affermazioni è necessariamente FALSA?**

A Chi non ama ballare potrebbe non essere timido.
B Alcune studentesse sono timide.
C Tutte le studentesse amano ballare.

---

683) **Quale sillaba, aggiunta alla prima e preposta alla seconda, fornisce un significato compiuto a entrambe: A (...) LE**

A de
B so
C la

684) **Non si può escludere che, se Francesca non avesse chiuso la porta, il gatto sarebbe scappato. In base alla precedente affermazione, quale delle seguenti è certamente vera?**

A È possibile che il gatto sarebbe scappato qualora Francesca non avesse chiuso la porta
B È possibile che il gatto sarebbe scappato, qualora Francesca avesse chiuso la porta
C Il gatto sarebbe scappato se Francesca avesse aperto la porta

685) **È un sinonimo di efficiente":"**

A inconcludente
B inoperoso
C produttivo

686) **Solo se Marta va a dormire presto, rende al massimo sul lavoro. In base alla precedente affermazione, è necessariamente vero che:**

A se non va dormire presto, Marta non rende al massimo sul lavoro
B è possibile che Marta renda al massimo sul lavoro anche se non va a dormire presto
C se non rende al massimo sul lavoro, significa che Marta non è andata a dormire presto

687) **Completare la successione numerica: 25 40 ? 50 45**

A 60
B 65
C 35

688) **Completare correttamente la seguente successione numerica: 42; 86; 74; 32; 76; ?; ?; 66**

A 64; 22
B 74; 32
C 70; 66

689) **A quale numero del sistema decimale corrisponde il numero romano MCMXXVII?**

A 2017
B 1927
C 2127

690) **Quale delle seguenti alternative contiene una lettera ripetuta esattamente cinque volte?**

A HHJKJKJHHKHK
B LWLLQWLWLQQW
C EEETRETTTRRR

691) **Completare correttamente la seguente successione numerica: 11; 33; 21; 63; 51; 153; ?; ?**

A 141; 423
B 121; 124
C 459; 447

692) **Completare correttamente la seguente successione, utilizzando l'alfabeto italiano: O; 64; I; 32; E; 16; ?; ?**

A B; 8
B A; 8
C Z; 4

693) **Individuare il termine da scartare:**

A Luna
B Marte
C Venere

694) **Nonostante Socrate fosse _____ dai suoi discepoli, la sua filosofia costituì _____ per il governo dell'epoca.**

A temuto, un'eccezione
B riverito, un ostacolo
C ignorato, un beneficio

695) **Completare correttamente la seguente successione di lettere: ?, D, G, L, O**

A L
B A
C B

696) **Completare correttamente la seguente proporzione. X : primavera = Natale: Y**

A X = dicembre; Y = Carnevale
B X = estate; Y = aprile
C X = Pasqua; Y = inverno

---

697) **In quale riga è presente la sequenza: RMRRRMRRRRRM?**

A MRRMRMRRRMRRRRRMRRRMMRRRRRMRMRRRMRRRRM.
B RMMRRRRRMRMRRRMRRRRRRMRMRRRMRRRRMRMRMR.
C MRRMRMRRRMRRRRMMRRRRRMRMRRRMRRRRMMRRRR.

---

698) **Se è vero che Gli assenti non hanno mai ragione" ciò significa:"**

A i presenti hanno sempre ragione.
B chi ha ragione è sempre assente.
C chi non è presente ha sempre torto.

---

699) **In una classe ci sono 25 studenti, 15 italiani e 10 stranieri. Se ne estraggono a sorte 2, la probabilità che i due estratti siano uno straniero e un italiano è:**

A del 25%
B del 50%
C del 30%

---

700) **Completare correttamente la seguente successione numerica: 8 ? 24 31 40 47**

A 16
B 15
C 19

---

701) **Quale dei seguenti ragionamenti è necessariamente corretto?**

A Chi beve vodka si ubriaca, Yuri si ubriaca, quindi Sergio beve vodka.
B Chi beve vodka si ubriaca, Yuri non beve vodka, quindi Sergio non si ubriaca.
C Chi beve vodka si ubriaca, Yuri non si ubriaca, quindi non beve vodka.

---

702) **Un uomo ha più figli, alcuni maschi e altre femmine. Ogni femmina ha un numero di fratelli doppio di quello delle sorelle e ogni maschio ha un numero di sorelle pari a quello dei fratelli. Quanti figli e quante figlie ha quest'uomo?**

A 3 femmine e 4 maschi
B 2 maschi e 2 femmine
C 3 maschi e 4 femmine

---

703) **Quale tra i termini proposti completa correttamente la proporzione: betulla : X = gramigna : Y**

A X = fiore; Y = prato
B X = frutto; Y = bosco
C X = albero; Y = erba

---

704) **Individuare, tra le alternative proposte, il termine da scartare.**

A idealismo
B positivismo
C astigmatismo

---

705) **Se i 2/3 di una piscina vengono riempiti in 20 minuti, quanto occorrerà per riempirla completamente?**

A 39 minuti.
B 30 minuti.
C 56 minuti.

---

706) **Completare correttamente la seguente successione numerica: 11; 75; 33; 71; ? 67**

A 69
B 89
C 99

---

707) **Individuare i termini che completano correttamente la seguente proporzione: X : pittura = Shakespeare: Y**

A X = Van Gogh; Y = teatro
B X = dipinto; Y = Inghilterra
C X = Olanda; Y = letteratura

---

708) **Tutte le modelle sono alte. Federica è alta. In base alle precedenti informazioni, quale delle seguenti affermazioni è necessariamente vera?**

A Federica è una modella
B Nessuna delle alternative è corretta
C Federica non è una modella

---

709) Se non è vero che tutti gli abitanti di Sparta hanno scudo e spada", è dunque vero che:"

A Almeno un abitante di Sparta non ha lo scudo oppure non ha la spada.
B Gli abitanti di Sparta se hanno lo scudo non hanno la spada.
C Gli abitanti di Sparta non hanno né scudo né spada.

---

710) È sinonimo di blandire":"

A Impugnare
B Alleggerire
C Allettare

---

711) Luca è un appassionato di trekking. Tutti gli appassionati di trekking amano il mare. Alcune persone solitarie sono appassionati di trekking. Se le precedenti affermazioni sono vere, quale delle seguenti è sicuramente vera?

A Non è certo che Luca ami il mare.
B Luca ama il mare.
C Luca è una persona solitaria.

---

712) Se Fabio è più alto di Franco, il quale è più basso di Carlo, allora:

A sia Fabio sia Carlo sono più alti di Franco
B Carlo è più alto di Fabio
C Fabio è più alto di Carlo

---

713) Dividendo per 3 il quadrato di quale numero si ottiene 27?

A 11
B 7
C 9

---

714) Sergio è amante del mare; tutte le persone dinamiche amano il mare; alcune persone pigre non amano il mare, mentre altre lo amano; Anna è una persona pigra.

A Sergio è una persona dinamica.
B Non è certo che Anna ami il mare.
C Anna non ama il mare.

---

715) Il termine basico" appartiene al lessico:"

A della zoologia
B della filosofia
C della chimica

---

716) Solo se il gatto dorme, la farfalla si posa sul fiore. In base alla precedente affermazione, è necessariamente vero che:

A se il gatto dorme, sicuramente la farfalla si posa sul fiore.
B se il gatto non dorme, la farfalla non si posa sul fiore.
C è possibile che la farfalla si posi sul fiore anche se il ragno non dorme.

---

717) Un pittore dispone di 8 colori e vuole colorare un suo disegno in tanti modi quanti sono possibili combinando due colori, senza mai ripetere le combinazioni: quante combinazioni differenti sono possibili?

A 36
B 28
C 56

---

718) Quale tra le seguenti parole è sinonimo di aleatorio"?"

A Volatile
B Irrealizzabile
C Incerto

---

719) Ogni lato di un quadrato misura 6 cm. Se un rettangolo è largo 3 cm e ha la stessa area del quadrato, quale sarà il suo perimetro?

A 18 cm
B 12 cm
C 22 cm

720) Completare la seguente serie numerica: 1; 3; 8; 19; 42, ?

A 89
B 93 Numerose campagne mediatiche di sensibilizzazione hanno promosso il consumo di prodotti ortofrutticoli di stagione a chilometro zero" di provenienza locale. Tuttavia i consumatori si aspettano che i supermercati offrano qualsiasi tipo di frutta e ortaggi in ogni stagione. Il fatto che il cibo sia "a chilometro zero" non sembra un fattore rilevante per orientare le scelte dei consumatori."
C 55

721) Quale delle seguenti affermazioni è totalmente sostenuta dal brano?

A I consumatori sono diventati maggiormente esigenti nel richiedere gli alimenti che desiderano.
B Contrariamente a tutte le aspettative, le campagne mediatiche di sensibilizzazione hanno un basso impatto sui consumatori
C L'economia agricola locale continua a soffrire

722) Individuare la serie identica alla seguente stringa: 084080080080808480

A 088084088080848040
B 084080080080808480
C 088084080080888408

723) Dieci amici che non si vedono da tempo si incontrano per una cena e ciascuno di loro saluta ognuno dei partecipanti abbracciandolo. Quanti abbracci si scambiano in totale?

A 90
B 20
C 45

724) Individuare i termini che completano correttamente la proporzione: Sicilia : X = Vesuvio : Y

A X = Cervino; Y = Valle d'Aosta
B X = Sicilia; Y = Solfatara
C Etna: X = Y : Campania

725) Ha significato opposto di dicotomico":"

A convergente
B bipartito
C ramificato

726) Completare la seguente successione: 1, 20, 21, 41, 62, ..."

A 123
B 113
C 103

727) Quale dei seguenti gruppi alfanumerici, ripropone in senso inverso, la sequenza UBABAUABU

A UBABAUBAU
B UBABAAUBU
C UBAUABABU

728) Completare correttamente la seguente successione di lettere, utilizzando l'alfabeto italiano: D; M; A; O; V; L; A; H; ?; ?

A L; T
B R; Q
C U; L

729) Completare correttamente la seguente successione di numeri: 100; 90; 79; 67; 54; 40; ?

A 34
B 49
C 25

730) Indicare in quale delle seguenti alternative viene rispettata la regola di alternanza vocale-consonante"."

A ENOFABOLPULEFAFAEBEL
B ENOFABOLEFABELUFABEL
C ENOFABOLEUFABEFABEAL

731) Il termine capzioso" è sinonimo di:"

A ingannevole.
B rigoroso.
C attraente.

732) **Posti A = {20, 21, 22} e B = {21, 22, 23}, qual è l'insieme risultante dall'unione di A e B?**

A {20, 21, 22, 23}
B {21, 22}
C {20, 21, 22}

733) **A un semaforo la cui luce può essere rossa, gialla o verde un automobilista deve arrestarsi con la luce rossa e, salvo casi particolari, con la luce gialla. Quale delle seguenti frasi è logicamente equivalente alla precedente?**

A A un semaforo con la luce gialla un automobilista non deve mai transitare.
B A un semaforo con la luce gialla un automobilista si deve arrestare comunque.
C A un semaforo un automobilista può transitare solo con la luce verde e, in casi particolari, con la luce gialla.

734) **Completare correttamente la seguente successione numerica: 87; 73; 103; 89; ?; 105; 135; ?**

A 117; 161
B 119; 121
C 77; 101

735) **Tutti i ciclisti sono calvi; Aldo è calvo; tutte le persone calve sono spiritose. In base alle precedenti affermazioni, quale delle seguenti NON è necessariamente vera?**

A Tutti i ciclisti sono spiritosi
B Aldo è spiritoso
C Aldo è un ciclista

736) **Individuare il diagramma che soddisfa la relazione insiemistica esistente tra i termini dati: Piramidi, Monumenti egizi, Obelischi**

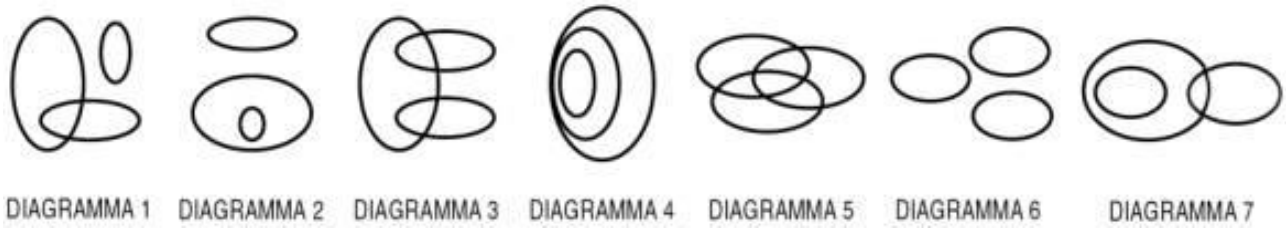

A Diagramma 3
B Diagramma 5
C Diagramma 6

737) **Logaritmo è un termine che appartiene al linguaggio:**

A della geometria.
B della matematica.
C della statistica.

738) **Individuare il numero che completa la serie: 5; 15; 17; 51; 53; ?**

A 159
B 55
C 30

739) **Completare la sequenza con il numero mancante: 5, 6, 4, 7, 3, 8, ?**

A 11
B 10
C 2

740) **Se x < 0 e xy > 0, quale affermazione tra le seguenti è corretta?**

A y < 0 sempre
B y = 0 sempre
C y > 0 sempre

741) **Indicare i termini che completano correttamente la seguente proporzione verbale? Libro : biblioteca = X : Y**

A X = museo; Y = arte
B X = quadro; Y = pinacoteca
C X = piatto; Y = bicchiere

742) **Completare correttamente la seguente successione di lettere, utilizzando l'alfabeto italiano: ?; G; M; Q; U**

A B
B C
C D

743) **Indicare il termine che è sinonimo di riluttante"."**

A rilevante
B risoluto
C restio

744) **Quali, tra i termini proposti, completano correttamente la seguente proporzione verbale? Idoneo : abile = X : Y**

A X = munifico; Y = generoso
B X = calmo; Y = impulsivo
C X = attento; Y = distratto

745) **L'affermazione ogni persona single non è allegra" è logicamente equivalente a:"**

A tutte le persone single sono allegre
B ogni persona che non è allegra è single
C non esistono persone allegre e single

746) **Individuare il diagramma che soddisfa la relazione insiemistica esistente tra i termini dati: ALIMENTI, LATTICINI, MOZZARELLA**

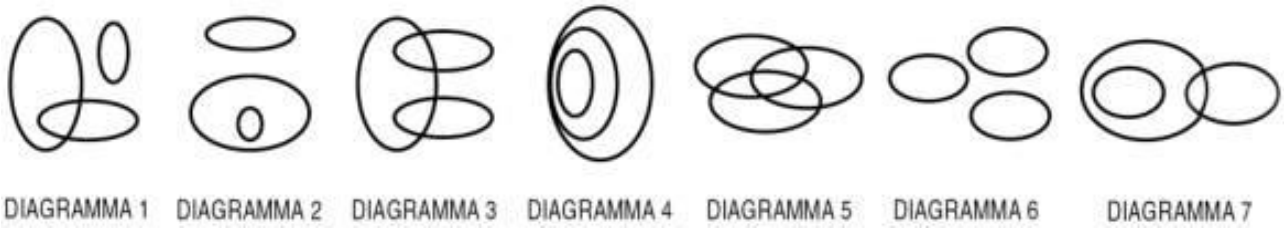

A Diagramma 7
B Diagramma 1
C Diagramma 4

747) **Il termine di faida" indica:"**

A il diritto di istruire un processo
B una vendetta privata
C una associazione criminale

748) **Un viale lungo 102 metri è fiancheggiato su su entrambi i lati da 36 tigli. Sapendo che i tigli sono tra loro equidistanti, a quale distanza è posto un albero dall'altro?**

A 6 metri
B 2 metri
C 3 metri

749) **Quante strette di mano si scambiano quattro persone che si incontrano?**

A 6
B 4
C 8

750) **Completare correttamente la seguente successione numerica: 75; 37; 68; 45; 61; 53; 54; 61; ?; ?**

A 47; 69
B 69; 49
C 66; 42

751) **Se un treno che ha percorso i 5/18 del suo tragitto abituale, ha percorso 50 chilometri, quanto è lungo l'intero tragitto?**

A 180 chilometri
B 250 chilometri
C 900 chilometri

752) **Il termine stress, preso dal linguaggio della fisica, indica lo sforzo, la tensione da caric. Lo stress è l'agente di disturbo più trasversale che ci sia: affratella senza distinzioni di censo, età, sesso e rende le sue vittime solidali nella lotta contro il comune, subdolo nemico. Riconosciuto per la prima volta dalla scienza nel 1936 grazie a uno studio dell'austriaco Hans Seyle comparso su "Nature", lo stress colpisce ovunque, spesso in maniera imprevedibile, anche se predilige precise situazioni. Per esempio, tra le pareti domestiche, nel traffico, in ufficio, in coda al supermercato, oppure al cinema. Elemento scatenante è la tendenza a riempire il tempo di parole, gesti, aspettative, tensioni, che non lasciano tregua e fanno sentire perennemente sotto pressione. Se è difficile evitare del tutto quello che è diventato il naturale corollario della nostra frenesia quotidiana, non resta che imparare a conviverci! Prima regola? Differenziare i vari tipi di stress. Per cogliere, dove possibile, gli aspetti costruttivi e stimolanti dello stato di "allerta" che investe mente e corpo. È l'"eustress", o stress verde, quello da sfruttare per trasformare le difficoltà in occasioni di miglioramento, il peso della routine in passione. Mentre il "distress", o stress giallo, segnalato da una sottile ma persistente stanchezza, va arginato con qualche modifica allo stile di vita (dieta, ritmo del sonno, organizzazione del tempo). Invece a chi approda allo stress rosso - causa di tachicardia, mal di testa, gastrite - può essere di grande aiuto la filosofia delle medicine naturali". Secondo il brano, chi è soggetto a distress o stress giallo:"**

A deve trasformare le difficoltà in occasioni di miglioramento
B soffre di sottile ma persistente stanchezza
C può ricorrere alle medicine naturali.

---

753) **Marco è un atleta bravo quanto Mario. Fabio è più bravo della media degli atleti. Ne consegue che:**

A Marco non è inferiore alla media degli atleti.
B Fabio è più bravo di Mario.
C Marco è il migliore fra gli atleti.

---

754) **Individuare il numero che continua la serie: 9, 10, 8, 11, 7, 12, ?**

A 4
B 5
C 6

---

755) **Individuare l'aggettivo da scartare:**

A discorde
B propenso
C accondiscendente

---

756) **Individuare il numero che continua la serie: 5, 9, 17, 33, 65.**

A 137
B 113
C 129

---

757) **Individuare l'abbinamento errato fra la poesia e il suo autore.**

A L'infinito - Eugenio Montale
B La capra - Umberto Saba
C Soldati - Giuseppe Ungaretti

---

758) **Un'auto percorre 20 000 km. Per ridurre i consumi le 5 ruote vengono scambiate con regolarità. Quanti chilometri avrà percorso ogni gomma alla fine del viaggio?**

A 10 000
B 16000
C 15 000

---

759) **Se la mia moto ha benzina, allora può funzionare. In base al precedente assunto, quale delle seguenti affermazioni è sicuramente vera?**

A Se la moto ha benzina allora funziona.
B Se la moto non funziona allora non ha benzina.
C Se la moto funziona allora c'è sufficiente benzina.

---

760) **Completare la seguente successione, utilizzando l'alfabeto italiano: D; 8; C; 9; B; 17; A; 26; ?; ?**

A C; 52
B R; 55
C Z; 43

---

761) **Se BOA = 1; VIPERA = 3; LUCERTOLA = 5; COCCODRILLO = ?**

A 6
B 7
C 5

762) **Per completare la costruzione di un edificio, utilizzando tutti gli operai disponibili nel cantiere, sono necessari 18 giorni. Se ci fossero 2 operai il lavoro verrebbe completato in 12 giorni. L'impresa, tuttavia, anziché fornire altri 2 operai, sottrae le risorse al cantiere e lascia un solo operaio. Quanti giorni impiegherà tale operaio a completare il lavoro, nell'ipotesi in cui tutti abbiano lo stesso ritmo di lavoro?**

A 82
B 42
C 72

763) **In base alle informazioni in suo possesso, il commissario di Polizia non può non negare che è falso quanto affermato dal suo informatore, il quale ha dichiarato di non conoscere l'autore della rapina di ieri. Basandosi sulla precedente affermazione, individuare quale delle seguenti alternative è esatta:**

A l'informatore conosce l'autore della rapina.
B non è possibile sapere se l'informatore conosca l'autore della rapina.
C l'informatore non conosce l'autore della rapina.

764) **Inserire i termini mancanti della proporzione: X : ortopedico = vista : Y**

A X = psichiatra; Y = trapano
B X = ossa; Y = oculista
C X = infermiere; Y = insegnante

765) **Individuare il numero che segue logicamente: 100, 95, 85, 70, 50, ...**

A 20
B 25
C 35

766) **Per una festa vengono acquistate 63 bottiglie di spumante. Di queste un terzo non viene consumato. Delle rimanenti, le donne ne hanno bevuto un settimo e gli uomini le altre. Quante bottiglie hanno bevuto gli uomini?**

A 18
B 36
C 24

767) **Inserire il numero mancante nella serie: 8 10 14 8 20 6 ? 4.**

A 26
B 24
C 20

768) **Alice ha avuto tre figli due dei quali sono gemelli. Se la somma delle età dei tre figli è di 45 anni e la differenza fra l'età del figlio maggiore e quella di uno dei figli minori (i gemelli) è 6, qual è l'età dei gemelli?**

A 16
B 11
C 13

769) **La teoria della relatività è una pietra angolare nella struttura della fisica moderna. Il suo creatore è considerato come il più grande scienziato contemporaneo e la sua fama è più diffusa di quella dei re e dei presidenti. Adesso è tempo di volgerci indietro, di passare in rassegna le rivoluzioni di Einstein nel loro sviluppo e vedere quale sia stato il loro influsso sulla nostra epoca. Cerchiamo innanzitutto di eliminare gli effetti dei pregiudizi, degli slogan senza senso ripetuti migliaia di volte dalla viva voce, dalla radio e dalla stampa. Uno di questi afferma che è impossibile che un uomo comune capisca le idee di Einstein. Egli è il grande sacerdote della scienza matematica e c'è solo una dozzina di persone che lo capisce veramente. Non è facile combattere i pregiudizi. Io non posso neanche dire che l'affermazione che solo una dozzina di persone comprende la teoria della relatività sia falsa. Ma è un'affermazione senza senso, come quella che "solo una dozzina di uomini comprende Beethoven". Questa analogia tra la matematica e la musica, tra Einstein e Beethoven, fa un certo effetto su chiunque sia amante della matematica o della musica. Come la musica, la matematica e la fisica matematica sono due creazioni artistiche. Come nella musica, dobbiamo fare distinzione tra tecnica e idee. Nessuno può suonare bene Beethoven - e nessuno può scrivere un lavoro scientifico sulla teoria della relatività - senza prima rendersi padrone della tecnica. Eppure, come si può provare una profonda emozione ascoltando Beethoven, pur senza conoscere nulla della tecnica dell'esecuzione, così è possibile provare un profondo piacere nell'apprendere le idee fondamentali della teoria della relatività pur ignorando completamente la tecnica matematica". Secondo l'autore del brano, la teoria della relatività:"**

A è una pietra angolare della fisica moderna.
B è apprezzabile solamente da chi conosce la fisica.
C chiunque può scrivere un lavoro scientifico sulla teoria della relatività.

770) Delle seguenti affermazioni individuare quale ha lo stesso significato dell'asserzione Chiunque può imparare a parlare il cinese"."

A Esiste una persona che può imparare a parlare il cinese.
B Non esiste una persona che non può imparare a parlare il cinese.
C Nessuno può imparare a parlare il cinese.

---

771) Qual è la media aritmetica tra i valori 10, 20, 30?

A 10
B 20
C 15

---

772) Arturo è una persona paziente; Tutti i pescatori sono persone pazienti "Carlo è un pescatore". In base alle precedenti informazioni, quale delle seguenti affermazioni è necessariamente vera?

A Chi non va a pesca è impaziente
B Carlo è una persona paziente
C Arturo e Carlo sono pescatori

---

773) Il numero di Paesi aperti al turismo è in continuo aumento. Tra questi ve ne sono alcuni in cui i diritti umani dei cittadini vengono ripetutamente violati e per questo motivo, quindi, i turisti non dovrebbero recarvisi. Il turismo è sempre fonte di reddito per un Paese e, per quei governi soggetti ad embarghi e restrizioni, questo tipo di introito è particolarmente importante. Pertanto, i turisti che visitano tali Paesi aiutano a mantenere al potere regimi corrotti e oppressivi. Mentre i turisti visitano tesori archeologici e si rilassano su spiagge incontaminate, i cittadini di quel Paese sono sempre più vessati. Quale delle seguenti affermazioni esprime il messaggio principale del brano?

A La responsabilità morale di aiutare i più deboli è più importante del desiderio di visitare altri Paesi.
B I turisti non dovrebbero visitare i Paesi che violano i diritti umani dei loro cittadini.
C Molti dei regimi che violano i diritti umani dei loro cittadini incoraggiano il turismo.

---

774) Completare la seguente successione numerica: 26; 24; 28; 27; 30; 30; 32; ?; ?

A 33; 34
B 32; 39
C 33; 36

---

775) Se il pesco è in fiore, la primula appassisce. Se la begonia marcisce il papavero sboccia. Inoltre o il pesco è in fiore o la begonia marcisce. In base alle precedenti affermazioni è sicuramente vero che:

A il papavero sboccia
B il pesco è in fiore e il papavero sboccia
C la primula appassisce o il papavero sboccia

---

776) Se l'affermazione Nessun comico è infelice" è FALSA , quale delle seguenti affermazioni è necessariamente vera?"

A Almeno un comico è infelice
B Tutti i comici sono felici
C Nessun comico è felice

---

777) Un ragazzo, che ha ricevuto 1024 euro in regalo per il suo compleanno, ogni giorno spende metà di quello che possiede. Dopo quanti giorni rimarrà con meno di un euro?

A 5
B 12
C 9

---

778) Quanti quadrati possono essere contati su una scacchiera, considerando che si possono disporre 8 pezzi per ogni fila?

A 64
B 16
C 32

---

779) Quale termine risponde alla definizione capacità di porsi nella situazione di un'altra persona e di comprenderne le emozioni"? immediatamente i processi psichici è detta:"

A altruismo
B empatia
C introversione

---

780) La distanza tra le città A e B è di 70 chilometri. Un uomo si sposta da A a B alla velocità di 8 km/h, mentre una lumaca procede in senso inverso alla velocità di 2 km/h. Se entrambi partono nello stesso momento, quanti chilometri dovrà fare l'uomo prima di incontrare la lumaca?

A 40
B 48
C 56

---

781) **Inserire tra le parentesi il numero mancante. 12 (56) 16 17 (?) 21**

A 84
B 76
C 80

---

782) **Completare correttamente la seguente successione, utilizzando l'alfabeto italiano: B; 19; C; 17; E; 16; F; 14; ?; ?**

A G; 22
B I; 7
C H; 13

---

783) **Tutti gli infermieri sono precisi. Davide è infermiere. In base alle precedenti informazioni, quale delle seguenti affermazioni è certamente vera?**

A Chi non è infermiere non può essere preciso
B Davide è preciso
C Tutte le persone precise sono infermieri

---

784) **I Giochi Olimpici sono un evento sportivo quadriennale che prevede la competizione tra i migliori atleti del mondo in quasi tutte le discipline sportive praticate nei cinque continenti. Pur essendo comunemente chiamati anche Olimpiadi, non sono da confondere con l'Olimpiade. Quest'ultima indica l'intervallo di tempo di quattro anni che intercorre tra un'edizione dei Giochi e la successiva. Per questo, anche se i Giochi del 1916, 1940 e 1944 non sono stati disputati, si è continuato a conteggiare le Olimpiadi, cosicché ad esempio i Giochi di Atene del 2004 sono stati quelli della Ventottesima Olimpiade. Il nome Giochi Olimpici è stato scelto per ricordare i giochi che si svolgevano nell'antica Grecia a Olimpia, nei quali si confrontavano i migliori atleti greci. Il barone Pierre de Coubertin alla fine XIX secolo ebbe l'idea di organizzare dei giochi simili a quelli dell'antica Grecia, e quindi preclusi al sesso femminile, ma su questo punto non venne ascoltato. La prima Olimpiade dell'era moderna si svolse ad Atene nel 1896. A partire dal 1924 vennero istituiti anche dei Giochi Olimpici invernali specifici per gli sport invernali. A partire dal 1994 l'edizione invernale non si tiene più nello stesso anno dell'edizione estiva, ma sfasata di due anni". Secondo quanto si legge nel brano, i Giochi Olimpici:"**

A nell'antica Grecia si tenevano ad Atene
B si disputarono per la prima volta nel 1924
C non si sono svolti per tre volte nel ventesimo secolo

---

785) **Completare la seguente successione numerica: ?; ?; 44; 41; 36; 33; 28; 25; 20**

A 42; 39
B 52; 49
C 62; 59

---

786) **Completare correttamente la seguente successione di lettere, utilizzando l'alfabeto italiano: V; S; O; L; F; ?**

A H
B E
C D

---

787) **Quale termine completa la serie: LEVARE, RECIDERE, ESTIRPARE, ...?**

A Apportare.
B Immettere.
C Asportare

---

788) **Individuare l'abbinamento errato:**

A Portogallo - Barcellona
B Austria - Vienna
C Atene - Grecia

---

789) **In una squadra ci sono giocatori con capelli castani, neri, biondi e rossi. Quelli con capelli castani sono in numero uguale a quelli con capelli neri. Quelli con capelli biondi sono la metà di quelli con capelli neri. Quelli con capelli neri sono tutti meno 5. Il resto ha capelli rossi. In base alle informazioni fornite, qual è la composizioni del colore dei capelli dei giocatori?**

A Neri = 2, biondi = 1, castani = 2, rossi = 2
B Neri = 2, biondi = 1, castani = 1, rossi = 2
C Neri = 4, biondi = 2, castani = 4, rossi = 1

790) **Indicare il numero che continua la serie: 24 19 14 9 ?**

A 4
B 6
C 10

791) **Individuare la parola da scartare:**

A abside
B pronao
C frontone

792) **Un gruppo di 6 amici si appresta a giocare una partita,) 3 contro 3. In quanti modi possono distribuirsi per formare le squadre?**

A 10
B 20
C 27

793) **Indicare il termine da scartare:**

A Danubio
B Senna
C Rio delle Amazzoni

794) **In quanti modi si possono confezionare coni gelato da tre gusti diversi avendo a disposizione quattro gusti: nocciola, stracciatella, crema e cioccolato?**

A 4
B 6
C 5

795) **Indicare il numero che completa la serie: 3 7 13 27 ?**

A 53
B 51
C 56

796) **Individuare l'abbinamento errato:**

A Berlino - Quirinale
B Mosca - Cremlino
C Parigi - Eliseo

797) **Per numerare le pagine di un libro sono state usate in totale 3300 cifre. Le pagine del libro sono:**

A tra 2000 e 3000
B tra 1000 e 1500
C meno di 1000

798) **Se A + B = C; C - E = B, allora:**

A A = E
B B > A
C A > B

799) **Quali tra i termini completano correttamente la seguente proporzione? Moderno : antico = X : Y :**

A X = bianco Y = rosso
B X = giovane; Y = vecchio
C X = basso Y = alto

800) **Un'industria produce magliette in tre colori (rosso, verde, arancione) e 4 taglie (S, M; L; XL). Se le magliette rosse finiscono, ma rimane un ugual numero di tutte le altre (per un totale di 3200), quante saranno quelle di taglia S?**

A 600
B 400
C 800

801) **Individuare il diagramma che soddisfa la relazione insiemistica esistente tra i termini dati: NUOTATORI, BUONGUSTAI, VIAGGIATORI**

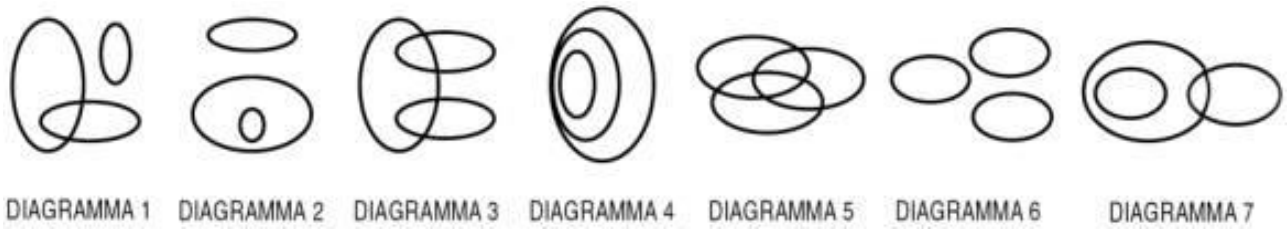

A Diagramma 5
B Diagramma 1
C Diagramma 6

---

802) **Un sinonimo di contiguo" è?"**

A divergente
B adiacente
C prospiciente

---

803) **Considerando l'alfabeto italiano, quali lettere risultano dalla seguente addizione? 632 + 163 = ?**

A GAF
B BIC
C GIE

---

804) **Completare la serie con il numero mancante nei numeri seguenti: 3, 7, 10, 17, 27, 44, ...**

A 71
B 24
C 13

---

805) **Indicare la sillaba che, posposta ai gruppi di lettere, fornisce a ciascuno un significato compiuto: SE..; MU..; BO...**

A MO
B RA
C PI

---

806) **Si consideri un numero di tre cifre dove la cifra delle decine è uguale alla somma di quella delle centinaia con quella delle unità. Se si somma il numero di tre cifre con quello ottenuto scambiando la cifra delle unità con quella delle centinaia e si divide il risultato per la somma delle cifre del numero dato, si ottiene un numero:**

A minore di 50
B uguale a 50
C maggiore di 50 ma minore di 100

---

807) **Con questa affermazione respingo l'infondatezza della teoria secondo cui non è vera l'improbabilità che tu realizzi il massimo punteggio in questo test. Ciò significa che:**

A è improbabile che tu possa realizzare il massimo punteggio nel test.
B è certo che tu possa realizzare il massimo punteggio nel test.
C è probabile che tu possa realizzare il massimo punteggio nel test.

---

808) **Ruotando la figura in alto proposta di 180°, quale tra le alternative risulta?**

A 2
B 3
C 5

---

809) **Quale gruppo di lettere, premesso in sequenza ai termini proposti, determina parole di senso compiuto? - ASTO - ESTO - OSTA - OSTO?**

A P - T - P - C
B T - B - M - T
C B - Z - M - A

---

810) **Se TAP indica una cifra da 1 a 9 divisibile per 5, TUP una cifra divisibile per 3 e TOP a cifra una cifra divisibile per 2, con quale scrittura può essere espresso il numero 92?**

A TUP TOP
B TOP TAP
C TUP TAP

---

811) **Quali tra i termini proposti completano correttamente la seguente proporzione? Farmacia : X = cartoleria : Y**

A X = analgesici; Y = matite
B X = farmacista; Y =influenza
C X = ricariche; Y = sfilata

---

812) **Se l'Italia ha una superficie di 301.338 Km², quale percentuale del territorio rappresenta approssimativamente la Campania con un'estensione di13.595 Km² ?**

A 4,5%
B 3,8%
C 5,70%

---

813) **Individuare, tra le alternative proposte, la parola da scartare.**

A facessi
B ho fatto
C farò

---

814) **Completare correttamente la seguente successione, utilizzando l'alfabeto italiano: A; 54; T; 62; P; 70; ?; ?**

A N; 76
B G; 84
C L; 78

---

815) **Se sommando la rispettiva età di 6 ragazzi si ottiene 64, quale sarà la somma della loro età fra 6 anni?**

A 76
B 128
C 100

---

816) **CANE sta a CENA come 3165 sta a:**

A 3561
B 6153
C 5136

---

817) **Quali tra i termini proposti completano correttamente la seguente proporzione? X : guanto = testa : Y**

A x = collo; y = capelli
B X = nuca ; y = cuffia
C X = mano; Y = cappello

---

818) **Indicare il numero che completa la serie: 9 15 21 27 ?**

A 39
B 31
C 33

---

819) **Il tempo di reazione di Marco è di 3/4 di secondo. Conducendo una moto alla velocità di 104 km/h, Marco vede un ostacolo: quanti metri percorre prima di iniziare a frenare?**

A Circa 42
B Circa 22
C Circa 18

---

820) **Quali, tra i termini proposti, completano correttamente la seguente proporzione? morfologia : X = Y : suono**

A X = grammatica; Y = italiano
B X = lingua; Y = dialetto
C X = parola; Y = fonologia

---

821) **Completare correttamente la seguente successione numerica: 16; 25; 19; 31; 22; 37; 25; ?; ?**

A 28; 45
B 38; 41
C 43; 28

---

822) **Se Tutte le strade portano a Roma", ciò significa che:"**

A qualche strada porta a Roma
B almeno una strada non porta a Roma
C nessuna strada porta a Roma

823) **Completare correttamente la seguente successione numerica: ?; ?; 44; 41; 36; 33; 28; 25; 20**

A 50; 52
B 52; 49
C 47; 51

824) **Se la figlia non telefona, Carlo si preoccupa. Se la precedente affermazione è vera, l'unica conseguenza certa che si può trarre è che:**

A Carlo è preoccupato perché sua figlia non ha telefonato.
B Carlo non si preoccupa anche se sua figlia non gli telefona.
C Se Carlo non è preoccupato, vuol dire che sua figlia ha telefonato.

825) **Tutte le persone attive fanno carriera; Lorenzo si occupa di politica; tutte le persone che si occupano di politica fanno carriera. Si può dedurre che:**

A Chi si occupa di politica è una persona attiva
B Tutte le persone attive si occupano di politica
C Lorenzo fa carriera

826) **Quali tra i termini proposti completano correttamente la seguente proporzione? Tappo : X = bicchiere: Y**

A X = bottiglia; Y = quercia
B X = spumante; Y = sete
C X = sughero; Y = vetro

827) **L'età di Marco è pari ai 3/7 dell'età di Camilla, la quale aveva 31 anni quando è nato il suo primogenito che oggi ha 18 anni. Quanti anni ha Marco?**

A 49
B 21
C 28

828) **Il cricket è uno sport molto seguito in India, ma ultimamente non riscuote più l'attenzione che aveva in passato. In base alle informazioni fornite quale affermazione è vera?**

A Il cricket in passato in India riscuoteva maggiore interesse.
B In India in passato c'era più interesse per lo sport.
C Il cricket è lo sport più amato dagli indiani.

829) **MARTE sta a 12345 come TRAME sta a:**

A 23415
B 15234
C 43215

830) **Completare la seguente successione: 8, 11, 20, 23, 32, 35, ...""**

A 46
B 44
C 40

831) **Se, aprendo il rubinetto dell'acqua fredda, si riempie la vasca in 7 minuti e aprendo quello dell'acqua calda in 5 minuti, in quanto tempo si riempie la vasca se si aprono entrambi i rubinetti?**

A In 2 minuti e 30 secondi
B In 2 minuti e 55 secondi
C In 3 minuti e 40 secondi

832) **Completare la seguente successione numerica: 41; 49; 50; ?; ?; 46; 33; 41**

A 37; 45
B 40; 47
C 49; 58

833) **CRETA sta a 49581 come CARTE sta a:**

A 14589
B 45891
C 41985

834) **I gatti sono ladri. Alcuni ladri vanno in giro di notte. Chi non dorme va in giro di notte. Individuare la conclusione corretta.**

A Tutti coloro che vanno in giro di notte sono ladri.
B I gatti derubano chi in giro di notte.
C È possibile che alcuni gatti vadano in giro di notte.

---

835) **Indicare la sillaba che, anteposta ai gruppi di lettere ...NGO, ...STO, ..SCA, forma parole di significato compiuto:**

A CI
B TA
C LE

---

836) **Elisa ha tre sorelle, Francesca, Simona e Antonia, e due fratelli, Ciro e Vincenzo. Si sa che: I) Ciro è il maggiore di tutti; II) Vincenzo è più grande di Simona e Francesca (non necessariamente in quest'ordine) ma più piccolo di Elisa e Antonia. (non necessariamente in quest'ordine). Quindi è certamente vero che:**

A Elisa è più piccola di Ciro ma più grande di Vincenzo.
B Vincenzo è più grande di Elisa.
C Ciro è più piccolo di Vincenzo.

---

837) **In una pescheria sono stati venduti in un primo tempo i 2/7 di una partita di pesce spada e poi i 3/5 del pesce spada residuo. Sapendo che la seconda volta si sono venduti 180 kg di pesce spada, qual era il peso dell'intera partita?**

A 900 kg
B 420 kg
C 360 kg

---

838) **Completare correttamente la seguente successione numerica: 37; 35; 51; ?; ?; 59; 53; 51**

A 48; 45
B 36; 47
C 45; 43

---

839) **Se, nell'equazione A6 x 3B = 2C6D", al posto di ogni lettera si inserisce una cifra differente in modo che il risultato della moltiplicazione sia esatto, quanto vale la più bassa delle cifre inserite?"**

A 3
B 5
C 0

---

840) **Secondo una ricerca il numero di incidenti (ogni 1.000 veicoli circolanti) è decisamente superiore in Italia rispetto alla Svezia, dove i limiti di velocità sono inferiori. Per ridurre il numero di incidenti in Italia, occorre quindi abbassare i limiti di velocità. Quale delle seguenti affermazioni, se vera, rafforzerebbe la precedente argomentazione?**

A limiti di velocità in Italia generalmente non vengono rispettati, qualunque essi siano
B In Francia l'abbassamento dei limiti di velocità ha portato a una riduzione pari al 20% del numero di incidenti registrati
C L'esame per ottenere la patente di guida in Svezia è molto più difficile da superare rispetto a quello italiano

---

841) **Gaia prenderà un 8 a scuola se e solo se non commetterà errori di distrazione. Se la precedente affermazione e vera allora è certamente vero che:**

A Se Gaia non prenderà 8, vorrà dire che avrà commesso errori di distrazione.
B Se Gaia commetterà un solo errore di distrazione, allora prenderà 8.
C Se Gaia non commetterà errori di distrazione non prenderà 8.

---

842) **Completare correttamente la seguente successione numerica: 17; 51; 39; 117; 105; 315; ?; ?**

A 302; 911
B 303; 909
C 909; 302

---

843) **Se otto topi mangiano una forma di formaggio in 15 giorni, dodici topi in quanti giorni mangeranno la stessa forma di formaggio?**

A 13
B 9
C 10

---

844) **Se ROSA = 8; MIMOSA = 12; DALIA = 10; ORTENSIA = ?**

A 20
B 16
C 15

845) **Riccardo promette a Luisa che, se a Ferragosto ci sarà il sole, andranno al mare. In quale dei seguenti casi Riccardo NON mantiene la promessa?**

A A Ferragosto c'è il sole e Maurizio va al mare da solo.
B A Ferragosto non c'è il sole e Maurizio e Luisa non vanno al mare.
C A Ferragosto c'è il sole e Riccardo e Luisa vanno al mare.

846) **Con il contenuto di un serbatoio di acqua Mauro riempie 120 bottiglie da un litro e mezzo. Se usasse bottiglie da due litri, quante gliene occorrerebbero?**

A 80
B 90
C 100

847) **Un'azienda che nel 2017 aveva fatturato 200 milioni di euro ha visto calare del 20% il fatturato nel 201, del 10% nel 2019 e del 50% nel 2020. Qual era il fatturato alla fine del 2020?**

A 64 milioni di euro
B 88 milioni di euro
C 72 milioni di euro

848) **Completare correttamente la seguente successione: B; 15; O; 21; M; 27; A; 33; ?; ?**

A V; 39
B O; 34
C Z; 36

849) **Indicare il termine che ha significato opposto a pedissequo":"**

A pedestre
B banale
C originale

850) **Riccardo è più vecchio di Carlo; Lorenzo è più vecchio di Mario; Mario è più giovane di Sandro; Carlo e Sandro sono gemelli. Sulla base delle precedenti affermazioni, quale delle seguenti è certamente vera?**

A Riccardo è più vecchio di Mario
B Lorenzo è più vecchio di Sandro
C Carlo è più giovane di Lorenzo

851) **Con riferimento alla figura in alto, Individuare il diagramma che soddisfa la relazione insiemistica esistente tra i termini dati: DIPLOMATI, GIOVANI, DISOCCUPATI**

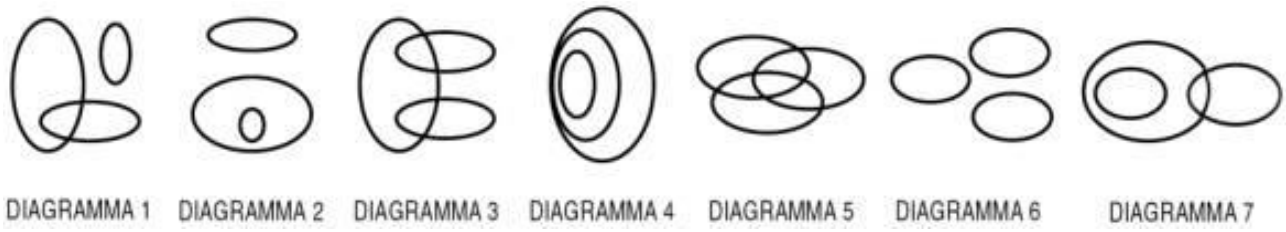

A Diagramma 4
B Diagramma 6
C Diagramma 5

852) **Se: 2X - 3 = 7X - 18 allora X è uguale a:**

A 3
B -3
C 1

853) **Completare correttamente la seguente successione numerica: 37; 81; 69; 27; ?; ?; 17; 61**

A 71; 59
B 71; 63
C 65; 59

854) **Quanti venerdì 13 ci possono essere al massimo in un anno non bisestile?**

A 1
B 3
C 2

855) **Indicare il gruppo di lettere che non presenta analogie con gli altri.**

A GEDH
B BCFG
C KNAO

856) **Completare correttamente la seguente successione numerica: 18; 168; 36; 84; 72; 42; 144; ?; ?**

A 288; 21
B 288; 20
C 21; 288

857) **Completare correttamente la seguente successione numerica: 6; 7; 10; 10; 14; 13; ?; ?**

A 21; 18
B 18; 18
C 18; 16

858) **Quale numero aumentato di 150 unità e poi ridotto di 175 unità dà come risultato 420?**

A 315
B 375
C 395

859) **Marco ha 3.90 euro per poter acquistare della frutta. Le mele costano euro 0,60 ciascuna, le banane euro 0,80 le arance euro 0,50 e le pere 0,75 euro. Qual è il massimo numeri di frutti che Marco può avere acquistato?**

A 7
B 6
C 5

860) **Completare correttamente la seguente successione di lettere, utilizzando l'alfabeto italiano: I; ?; O; Q; S**

A M
B H
C P

861) **In un corso di musica, frequentato da 9 ragazzi e 11 ragazze, per partecipare a un concerto vengono estratti 3 nominativi. Quale è la probabilità che almeno uno di essi sia quello di una allieva?**

A 88/95
B 52/55
C 11/20

862) **Se: X + X + Y = 9Y, X = 20 allora Y è uguale a:**

A 10
B 5
C -5

863) **Se CUBO = 2; PIRAMIDE = 4 CERCHIO = 3 PARALLELEPIPEDO =?**

A 6
B 12
C 7

864) **Se ALZARE = AL e CADERE = AD, allora URGERE è uguale a....**

A GE
B ER
C RE

865) **Secondo un'antica e tenace concezione, le norme giuridiche si caratterizzerebbero per il fatto di essere suscettibili di attuazione forzata (coercizione) o sarebbero comunque garantite dalla predisposizione, per l'ipotesi di trasgressione, di una conseguenza in danno del trasgressore, chiamata "sanzione", la cui minaccia favorirebbe l'osservanza spontanea della norma, attraverso una forma di coazione psicologica volta a dissuadere dal tenere il comportamento antigiuridico chi fosse intenzionato a violare le regole dell'ordinamento. Non vi è dubbio che effettivamente molto spesso, accanto a norme "di condotta" o primarie, il legislatore prevede una "risposta" o "reazione" dell'ordinamento (c.d. norme sanzionatorie o "secondarie", da far scattare in caso di inosservanza del comportamento prescritto, ad es. "il debitore che non esegue esattamente la prestazione dovuta è tenuto al risarcimento del danno", art. 1218 e.e.). Vi è peraltro da rilevare che la difesa dell'ordinamento non viene perseguita soltanto attraverso misure repressive o restaurative di una situazione preesistente illegittimamente violata, ma anche mediante misure preventive, di vigilanza e di dissuasione, e perfino con l'ausilio di norme che si limitano ad affermazioni di principio {"il figlio deve rispettare i genitori": art. 315 e.e.), che svolgono un'importante funzione "esemplare" (psicologica-pedagogica), indipendentemente dalla previsione di qualsiasi sanzione. Le norme giuridiche si caratterizzano per il fatto di essere suscettibili:**

A di inapplicabilità
B di attuazione forzata
C di interpretazione giurisprudenziale

---

866) **Indicare il termine che ha significato analogo a riottoso":"**

A recalcitrante
B accondiscendente
C docile

---

867) **Diego, Armando e Cristiano giocano come attaccanti nella stessa squadra di calcio. Si sa che se Cristiano gioca, gioca anche Diego; Diego e Armando giocano spesso, ma mai tutti e due insieme; Armando e Cristiano giocano spesso, insieme o singolarmente; d'altra parte se Armando gioca, allora viene inserito in squadra anche Cristiano. Sulla base di tali premesse, quali attaccanti giocano insieme?**

A Cristiano e Armando
B Cristiano e Diego
C Nessuno

---

868) **Quanti numeri di quattro cifre diverse si possono formare con 1, 3, 5, 8, 9?**

A 60
B 90
C 120

---

869) **Se: X + 20 + Y = Z + 2, X = 6 + Z allora Y è uguale a:**

A -36
B -24
C 24

---

870) **Utilizzando l'alfabeto italiano, completare la seguente successione di lettere: D; E; S; O; P; E; ?; ?**

A N; O
B A; B
C N; L

---

871) **La tesi di chi nega la possibilità che l'uomo possa camminare sul Sole e abbia la possibilità di creare dei campi di forza di reazione è stata dichiarata falsa. Qual è allora il corretto significato della precedente osservazione?**

A Non è possibile che l'uomo possa camminare sul Sole o che possa creare dei campi di forza di reazione.
B È possibile che l'uomo possa camminare sul Sole e sviluppare dei campi di forza di reazione.
C Anche utilizzando degli opportuni campi di forza, non è possibile camminare sul Sole.

---

872) **Completare la seguente successione numerica: 40; 48; 49; ?; ?; 45; 32; 40**

A 48; 37
B 36; 44
C 50; 37

---

873) **Individuare tra le alternative proposte quella che contiene una differenza rispetto alle righe seguenti: FGTF-34SD-DXCD-3ESD WSRT-2369-SXDC-XZSD HYGF-DRFC-WSTF-3DRC**

A FGTF-34SD-DXCD-3ESD
B WSRT-2369-TXDC-XZSD
C WSRT-2369-SXDC-XZSD

---

874) **Completare correttamente la seguente successione numerica: 13; 39; 27; 81; 69; 207; ?; ?**

A 195; 587
B 205; 585
C 195; 585

---

875) **Sopra un paio di pantaloni chiari Marta indossava una camicia blu . Se questa frase è vera, quale delle seguenti affermazioni è sicuramente vera?**

A Marta indossava una camicia blu.
B Marta si veste solo di blu.
C Marta indossa preferibilmente colori scuri

---

876) **Se TAP indica una cifra da 1 a 9 divisibile per 5, TUP una cifra divisibile per 3 e TOP a cifra una cifra divisibile per 2, con quale scrittura può essere espresso il numero 84?**

A TOP TOP
B TUP TAP
C TOP TAP

---

877) **Completare correttamente la seguente successione numerica: 16; 36; 76; 156; 316; 636; ?**

A 1.281
B 1.275
C 1.276

---

878) **Un sinonimo di evanescente" è:"**

A insostenibile
B inconsistente
C incapace

---

879) **Data la proporzione X : 12 = 15 : 20, quanto vale X?**

A 8
B 9
C 12

---

880) **Indicare in quale delle seguenti alternative è presente una sola volta il gruppo di lettere AJKW"."**

A WESSDAJKWESTWSGVJESA
B RTAJKWOQRLTAJKWVESA
C WESSDFTGQQRTWSGVJESA

---

881) **Tutti gli avvocati sono buoni oratori. Bruno è un buon oratore. In base alle precedenti informazioni, quale delle seguenti affermazioni è certamente vera?**

A Chi è un buon oratore ha studiato legge
B A) Nessuna delle risposte è corretta
C Bruno non è un avvocato

---

882) **Intervistato da un giornalista, l'onorevole negò di aver ricusato di non autorizzare la diffusione delle sue dichiarazioni. Quale delle seguenti affermazioni è corretta rispetto a quanto enunciato?**

A Il giornalista ha raccolto il consenso dell'onorevole alla diffusione delle sue dichiarazioni.
B L'onorevole ha autorizzato la diffusione delle sue dichiarazioni.
C L'onorevole non ha autorizzato la diffusione delle sue dichiarazioni.

---

883) **Se raddoppiando un certo numero n si ottiene lo stesso risultato che si sarebbe ottenuto dimezzandolo, quale fra le seguenti affermazioni deve essere vera?**

A n è pari
B n è dispari
C n vale 0

---

884) **Se si investono 12.000 euro per 3 mesi al tasso annuale del 5%, l'interesse che si ottiene per tre mesi è:**

A 150,00 euro
B 300,00 euro
C 120,00 euro

---

885) **Se: X + X = Y - Z, X = 2, Z = -3 allora Y è uguale a:**

A 2
B 3
C 1

---

886) **Indicare in quale delle seguenti alternative non è presente il gruppo di lettere QQRT"."**

A WESSDFTGWESTWSGVJESA
B RTQQRTOQQRTWSGVJESA
C WESSDFTGQQRTWSGVJESA

---

887) **Matteo ha compiuto i 2/7 della sua passeggiata. Se ha camminato per 2 chilometri, quanti chilometri è lunga l'intera passeggiata?**

A 14 Km
B 28 Km
C 7 Km

---

888) **Se: X + X + X = Y + X, X = -5 allora Y è uguale a:**

A -3
B -10
C -5

---

889) **Se il bambino ha fame, allora piange. Se la precedente affermazione è vera, è sicuramente vero che:**

A se il bambino non piange, allora non ha fame.
B se non ha fame, il bambino non piange.
C se il bambino piange, vuol dire che ha sicuramente fame.

---

890) **Completare correttamente la seguente successione numerica: 8; 10; 11; 16; 14; 22; 17; ?; ?**

A 28; 20
B 26; 18
C 20; 27

---

891) **Se: ZA + 6 + YW = XE + 1 ZA = -18 + XE allora YW è uguale a:**

A 25
B -13
C 13

---

892) **Indicare la parola il cui significato è associabile ad entrambi i termini proposti. Segnaletica (..?..) Denaro.**

A Circolazione.
B Contante
C Cambio.

---

893) **Indicare in quale delle seguenti alternative è presente una sola volta il gruppo di lettere KKLM"."**

A DFGTRELDKKSZDWRDFDGFG
B DFGTREKKLDSZDWRDFDGFG
C DFGTREKKLMSZDWRDFDGFG

---

894) **Per piastrellare una parete si dispongono 9 file da 16 piastrelle. Utilizzando lo stesso numero di piastrelle, disponendone solo 12 per fila, quante file si potrebbero formare?**

A 14 file
B 15 file
C 12 file

---

895) **Le indagini non hanno consentito di dimostrare l'impossibilità che il crollo del ponte sia avvenuto per cedimento strutturale. Qual è il corretto significato della precedente affermazione?**

A Le indagini non hanno dimostrato che il crollo del ponte non è avvenuto per cedimento strutturale.
B Le indagini hanno dimostrato che il crollo del ponte è avvenuto per cedimento strutturale.
C Le indagini hanno dimostrato che il crollo del ponte non può essere avvenuto per cedimento strutturale.

---

896) **Se: VJ + VJ = AX - JK VJ = BY + MK JK = AX BY = 2 allora MK è uguale a:**

A -2
B 4
C 2

---

897) **Completare correttamente la seguente proporzione? Pirandello : Il fu Mattia Pascal = x : y:**

A X = Verga: Y = La coscienza di Zeno
B X = Manzoni; Y= I Promessi sposi
C X = romanzo; Y = tragedia

---

898) **Tutti i bambini sono vivaci; Nicolò è vivace; tutte le persone vivaci amano giocare. In base alle precedenti affermazioni, quale delle seguenti NON è necessariamente vera?**

A Tutti i bambini amano giocare
B È impossibile che Nicolò non ami giocare
C Niccolò è un bambino

---

899) **Se Franco avesse 6 euro più di Andrea, i due ragazzi avrebbero in totale 34 euro. Ma Franco ha 3 euro in meno di Andrea. Quanti euro ha Franco?**

A 8
B 7
C 5

---

900) **Completare correttamente la seguente successione numerica: 104; 122; 96; ?; ?; 105; 122; 140**

A 104; 78
B 113; 131
C 122; 114

---

901) **Se B = 16, C = 15, ... Z = 1, quanto vale H?**

A 10
B 11
C 12

---

902) **Un motociclista ha compiuto i 2/5 di una gara. Se ha corso per 20 chilometri, quanti chilometri è lungo il percorso di gara?**

A 40
B 50
C 60

---

903) **Indicare il nome della città da scartare:**

A Amalfi
B Sorrento
C Sanremo

---

904) **Quali tra i termini proposti completano correttamente la seguente proporzione? Infermiere : X = parrucchiere : Y**

A X = medicazione; Y = taglio
B X = infezione; Y = siringa
C X = forbici; Y = garza

---

905) **Se l'affermazione tutti i marinai sono persone di parola" è FALSA, quale delle seguenti proposizioni è necessariamente vera?"**

A Almeno un marinaio non è una persona di parola.
B Nessun marinaio è una persona di parola.
C Almeno un marinaio è di parola.

---

906) **Completare correttamente la seguente successione numerica: 12; 17; 36; 34; 108; 68; 324; ?**

A 142
B 138
C 136

---

907) **Completare correttamente la seguente successione numerica: 3; 5; 8; 13; 21; 34; 55; ?; ?**

A 89; 145
B 90; 143
C 89; 144

---

908) **Indicare quale gruppo di lettere inserito nella parentesi puntini forma due parole di senso compiuto. INF(....)LATRA"."**

A INE.
B EDE.
C IDO.

---

909) **Sulla scrivania del direttore il telefono si trova tra il portapenne e l'agenda. Il porta penne si trova tra l'agenda e il computer. Quindi:.**

A Il computer. è più vicino all'agenda che al telefono.
B Il telefono è più vicino al porta enne che al computer.
C L'agenda si trova tra il computer e il telefono.

---

910) **Quali, tra i termini proposti, completano correttamente la seguente proporzione verbale? verde : X = salato : Y**

A X = sale; Y = insalata
B X = colore; Y = dolce
C X = vista; Y = gusto

---

911) **Quale dei seguenti termini, posposto al primo gruppo di lettere e anteposto al secondo , forma parole di senso compiuto? MAG (...)STRA.**

A GIE
B GIA
C GIO.

---

912) **Completare correttamente la seguente proporzione verbale. Encomio : X = Y : conclusione**

A X = esito; Y =risultato
B X = biasimo; Y = storia
C X = lode; Y = fine

---

913) **Un pacchetto azionario, acquistato a 10.000 euro, ha fruttato il primo anno il 20%, il secondo il 50% e il terzo il 10%. Qual è il valore finale del pacchetto?**

A 18.600 euro
B 18.000 euro
C 19.800 euro

---

914) **In una lotteria vengono estratti progressivamente tre numeri naturali in ordine crescente da 1 a 20. In quanti modi diversi possono essere fatte le estrazioni in modo che il prodotto dei numeri sia 36?**

A 4
B 6
C 3

---

915) **Quali consonanti, anteposte ai gruppi di lettere ARA - ALA - MALTO - ALA - ARTO, formano parole di senso compiuto?**

A G - D - S - R - R.
B S - D - S - P - G.
C G - P - S - S - S.

---

916) **Quale dei seguenti termini, posposto al primo gruppo di lettere e anteposto al secondo, forma parole di senso compiuto? MA (..) - (..)SA.**

A PARA
B ESTRO
C IPO

---

917) **Se l'addetto stampa non avesse trovato il messaggio, non avrebbe potuto evitare che la notizia si diffondesse. In base alla precedente affermazione, quale delle seguenti è certamente vera?**

A Essendosi diffusa la notizia, allora l'addetto stampa non ha trovato il messaggio.
B È possibile che la notizia non si sarebbe diffusa se l'addetto stampa non avesse trovato il messaggio.
C Avendo trovato il messaggio, l'addetto stampa ha potuto evitare che la notizia si diffondesse.

---

918) **Se P è la proposizione x è divisibile per 4" e Q la proposizione "x è divisibile per 2". Allora:"**

A la negazione di P implica la negazione di Q
B Q implica P
C P implica Q

---

919) **Quale dei seguenti nomi propri diventa un vocabolo di senso compiuto se preceduto dalle lettere C, M, N, P?**

A Aldo.
B Alma.
C Anna.

---

920) **Quali, tra i termini proposti, completano correttamente la seguente proporzione verbale? angoscia: X = sollievo : Y**

A X = pianto Y = disperazione
B X = ansia; Y = conforto
C X = preoccupazione; Y = dolore

---

921) **Indicare i termini che completano correttamente la seguente proporzione: introverso : X = estroverso: Y**

A X = adulto; Y = giovane
B X = chiuso; Y = aperto
C X = razionale; Y = incoerente

---

922) **Chi non tace urla. Chi urla ha sempre torto". " Anna non tace mai". Se le precedenti affermazioni sono vere, quale delle seguenti affermazioni è vera?"**

A Anna a volte ha ragione.
B Anna ha sempre torto.
C Anna ha sempre ragione.

---

923) **Indicare quale gruppo di termini va eliminato perché disomogeneo rispetto agli altri.**

A Filo-i fili-le fila.
B Autore- gli autori-le autrici.
C Poeta-i poeti-le poetesse.

---

924) **Qual è l'aggettivo più adatto a descrivere un terreno nel quale le acque piovane si fermano e ristagnano?**

A Paludoso.
B Lacustre.
C Stepposo

---

925) **Gaia abita tra lo stadio e la casa di Mara. Lo stadio si trova tra la casa di Mara e la stazione ferroviaria. Si può affermare che:**

A Gaia abita più vicino allo stadio che alla stazione ferroviaria.
B Gaia abita sicuramente più vicino allo stadio che alla casa di Mara.
C La casa di Mara è più vicina alla stazione ferroviaria che all'abitazione di Gaia.

---

926) **Indicare l'alternativa che completa correttamente la seguente frase: Ho prenotato le vacanze per la prossima settimana e quindi....**

A spero tanto che sia bel tempo.
B sperai che fosse bel tempo.
C spero tanto che abbia bel tempo

---

927) **Quale dei seguenti gruppi di termini è disomogeneo rispetto agli altri?**

A Algido - diaccio - glaciale.
B Alacre -inerte - neghittoso.
C Florido - prospero - avvizzito.

---

928) **La segretaria di uno studio notarile deve digitare 150 pagine. Il lunedì svolge un terzo del lavoro, il martedì tre quinti del rimanente. Quante pagine le rimangono da battere?**

A 30
B 40
C 45

---

929) **Quale gruppo di aggettivi ha analogia di significato con il termine pago"?"**

A Avvilito - mesto - sconfortato.
B Oppresso - gravato - vessato.
C Appagato - soddisfatto - contento.

---

930) **Quale dei seguenti gruppi sillabici, inserito in sequenza, consente la formazione di parole di senso compiuto? Fa(..)le, Ga(..)ra, La(..)tta, Ma(..)ma.**

A (ta), (le), (ne), (da).
B (ta), (le), (na), (du).
C (ta), (le), (ne), (de).

---

931) **Degli iscritti a un corso di arti marziali 45 sono principianti e il 40% sono esperti. Quanti sono in tutto gli iscritti?**

A 80
B 75
C 85

---

932) **Nel suo giardino Roberto impiega un'ora a tagliare il prato, mentre la moglie riesce a farlo in 40 minuti. I due cominciano a lavorare insieme, ma dopo 10 minuti Roberto interrompe il lavoro, che viene completato dalla moglie. Di quanti minuti l'aiuto del marito ha ridotto il tempo necessario alla moglie per tagliare il prato da sola?**

A 4 minuti e 10 secondi
B 3 minuti e 45 secondi
C 6 minuti e 20 secondi

---

933) **Se: X + 8 + Y = Z + Y, X = -5, Y = 5 allora Z è uguale a:**

A 5
B 3
C -5

---

934) **Un paio di scarpe costava 64 euro e con i saldi il suo prezzo attuale è pari ai 3/4 del prezzo iniziale. A quanto ammonta lo sconto applicato?**

A 16 euro
B 20 euro
C 12 euro

---

935) **Completare la seguente successione numerica: 45; 32; 53; ?; ?; 49; 37; 24**

A 38; 42
B 41; 28
C 54; 30

---

936) **Solo se termina la siccità in inverno, si avranno buoni raccolti in primavera. Se si hanno buoni raccolti in primavera, in Maggio i prezzi dei prodotti agricoli non aumenteranno e l'inflazione non crescerà. Un'indagine statistica ha rilevato un aumento dell'inflazione nel mese di Maggio. Quale tra le seguenti affermazioni può essere dedotta dalle proposizioni precedenti?**

A In Maggio i prezzi dei prodotti agricoli sono aumentati.
B L'inverno è stato molto piovoso.
C I raccolti in primavera non sono stati buoni.

---

937) **Un aliscafo ha percorso i 5/17 del suo tragitto abituale. Sapendo che ha percorso 50 miglia, quanto è lungo l'intero tragitto?**

A 170 miglia
B 500 miglia
C 130 miglia

---

938) **Se CANE = 16, OCA = 9, GALLINA = 49, PECORA = ?:**

A 22
B 10
C 36

---

939) **Una corda lunga 7 metri ogni giorno viene ridotta di un metro. Dopo quanti giorni la corda sarà completamente tagliata?**

A 6
B 7
C 8

---

940) **Se nel mar Nero ho visto solo pesci gialli e nel mar Rosso ho visto due pesci rossi, posso affermare che sicuramente:**

A nel mar Rosso ci sono solo pesci rossi
B nel mar Rosso non ci sono pesci gialli
C nel mar Nero alcuni pesci sono gialli

---

941) **Di tre cugine Anna, Elisabetta e Marina, due sono bionde e una bruna. Se Anna è bionda, allora lo è anche Elisabetta; se Elisabetta è bionda allora lo è anche Marina. In base a queste informazioni, quale delle seguenti è sicuramente vera?**

A Anna è bruna e Marina è bionda
B Elisabetta è bruna e Anna è bionda
C Anna ed Elisabetta sono brune

---

942) **Se 6 operai scavano 12 buche in 24 giorni, quanti giorni tre uomini impiegheranno per scavare 6 buche delle stesse dimensioni?**

A 12
B 18
C 24

---

943) **Una tartaruga, che avanza per 4 metri di giorno e arretra di 3 metri la notte, quanti giorni impiega per avanzare di 7 metri?**

A 4 giorni
B 7 giorni
C 5 giorni

---

944) **Quali tra i termini proposti completano correttamente la seguente proporzione? Agosto : X = Y: Martedì**

A X = Mese; Y = settimana
B X = estate Y = vacanza
C X = Settembre; Y = Lunedì

---

945) **Se a un certo numero n viene sommato 8, il risultato è pari a otto volte il numero n iniziale. Quanto vale n?**

A 8/7
B 3/4
C 7/8

---

946) **In un negozio tutti gli articoli hanno uno sconto del 20% . Acquistandone due, tuttavia, al secondo viene applicato uno sconto ulteriore del 10%. Quale percentuale del prezzo effettivo viene pagata per il secondo articolo?**

A 60%
B 72%
C 80%

---

947) **Giocando Superenalotto 18 amici si dividono la spesa e pagano 6 euro ciascuno. Se il gruppo dei giocatori si riduce di un terzo, quanto pagherà ciascuno per effettuare la stessa giocata?**

A 9 euro
B 10 euro
C 8 euro

---

948) **Completare la seguente serie numerica: 3, 4, 7, 16, 43, ...**

A 124
B 86
C 112

---

949) **Completare la successione seguente: ..., 16, 20, 25, 31, 38**

A 12
B 13
C 15

---

950) **Individuare la serie numerica uguale alla seguente: 12211212**

A 12121212
B 12211212
C 12122112

---

951) **Completare la seguente successione numerica: 86; 49; 79; 45; 72; 41; 65; ?; ?**

A 38; 57
B 58; 38
C 37; 58

---

952) **Un dipinto del XIX secolo che ha un prezzo di listino pari a 80.000 euro viene venduto con uno sconto del 30%. A quanto ammonta lo sconto?**

A 24000 euro
B 27.000 euro
C 30.000 euro

---

953) **Quale degli abbinamenti di un vizio con la virtù opposta non è corretto?**

A Odio / astio
B Superbia/umiltà
C Avarizia/generosità

---

954) **Se TUC significa cifra (singola) divisibile per 5, TAC significa cifra (singola) divisibile per 2 e TIC significa cifra (singola) divisibile per 7, allora con quale scrittura può essere espresso il numero 74?**

A TAC TAC
B TUC TAC
C TIC TAC

955) **È assurdo negare l'inesistenza di un testimone che abbia assistito al delitto della contessa. La precedente affermazione significa che:**

A al delitto della contessa ha assistito almeno un testimone.
B è sicuro che non esiste una persona che non sia stata testimone del delitto della contessa.
C non esiste alcun testimone che abbia assistito al delitto della contessa.

956) **Se: X + X = Y - Z, X = W + V, Z = Y, W = -12 allora V È uguale a:**

A 12
B 16
C -12

957) **Il reddito medio delle famiglie italiane quest'anno è risultato del 2% più elevato rispetto all'anno scorso. Nello stesso tempo, il reddito medio è diminuito per le famiglie appartenenti alle classi di reddito medio-basse. Quale delle seguenti conclusioni può esseredeotta dalle informazioni precedenti?**

A Vi sono meno famiglie nella classe di reddito alta quest'anno rispetto all'anno scorso
B Il reddito medio delle famiglie non appartenenti alle classi di reddito medio-basse è aumentato di oltre il 2% dall'anno scorso a quest'anno
C Nessuna delle alternative è corretta

958) **Completare correttamente la seguente successione numerica: 10; 30; 19; 57; 46; 138; ?; ?**

A 127; 371
B 127; 381
C 414; 403

959) **Se INVERNO = 14, NEVE = 8 , NATALE = 12, GHIACCIO = ?**

A 16
B 18
C 8

960) **Completare la seguente successione numerica: 29; 87; 75; 225; 213; 639; ?; ?**

A 1.881; 626
B 627; 1.881
C 626; 1.886

961) **Siano a, b, c e d quattro numeri reali positivi. Si sa che: a/b = 2, c = 2a e d = b/2. Quale, fra le seguenti relazioni, è corretta?**

A c/b > a/d
B b - d > a - b
C c/d > a/b

962) **Indicare in quale delle seguenti alternative è presente il maggiore numero di volte la lettera P.**

A PPQPPBPBPPPQPPPBP
B PCPBPBBPPPQBPPQP
C PCPBPBPPPPBBPPQP

963) **L'autobus partirà se e solo se i posti saranno tutti occupati. In base alla precedente affermazione, quale delle seguenti NON è necessariamente vera?**

A È sufficiente che i posti siano tutti occupati perché l'autobus parta
B L'autobus non partirà se i posti non saranno tutti occupati
C Anche se i posti saranno tutti occupati, l'autobus potrà non partire

964) **Per i suoi 6 gatti Luisa compra 15 kg di croccantini al mese. Dopo qualche tempo, i gatti sono diventati 8 e Luisa preferisce fare la spesa due volte al mese. Quanti kg di croccantini dovrà comprare ogni volta?**

A 10 kg
B 13 kg
C 7kg

965) **Se l'affermazione tutti i calciatori sono persone colte" è FALSA, quale delle seguenti proposizioni è necessariamente vera?"**

A Almeno un calciatore è colto.
B Almeno un calciatore non è una persona colta.
C Nessun calciatore è una persona colta.

966) **Posti A = {3, 4, 5} e B = {4, 5, 6}, qual è l'insieme risultante dall'intersezione di A e B?**

A {4, 5}
B {3, 4, 5, 6}
C Un insieme vuoto

---

967) **Il reddito medio delle famiglie italiane quest'anno è risultato del 2% più elevato rispetto all'anno scorso. Nello stesso tempo, il reddito medio è diminuito per le famiglie appartenenti alle classi di reddito medio-basse. Quale delle seguenti conclusioni può essere ragionevolmente dedotta dalle informazioni precedenti?**

A Il reddito medio delle famiglie non appartenenti alle classi di reddito medio-basse è aumentato di oltre il 2% dall'anno scorso a quest'anno.
B Il reddito complessivo di tutte le famiglie nelle classi di reddito medio-basse è stato più elevato quest'anno rispetto all'anno scorso
C Vi sono meno famiglie nella classe di reddito alta quest'anno rispetto all'anno scorso

---

968) **Tutti i domatori di leoni sono calvi; Daniele è calvo; tutte le persone calve sono spiritose. In base alle precedenti affermazioni, quale delle seguenti NON è necessariamente vera?**

A Tutti i domatori di leoni sono spiritosi.
B Chi non è spiritoso non è calvo.
C Daniele è un domatore di leoni.

---

969) **Completare la seguente successione di lettere, utilizzando l'alfabeto italiano: D; M; A; O; V; L; A; H; ?; ?**

A N; L
B N; O
C U; L

---

970) **Completare correttamente la seguente successione di numeri: 100; 90; 79; 67; 54; 40; ?**

A 29
B 25
C 33

---

971) **Posti A = {80, 81, 82} e B = {81, 82, 83}, qual è l'insieme risultante dall'unione di A e B?**

A {80, 81, 82, 83}
B {81, 82}
C {80, 81, 82}

---

972) **Quali, tra i termini proposti, completano correttamente la seguente proporzione verbale? Chef : X = Y : capomastro**

A X = cucina; Y = cantiere
B X = avvocato; Y = comandante
C X = accusati; Y = progettisti

---

973) **Completare correttamente la seguente successione di lettere, utilizzando l'alfabeto italiano: B; U; D; T; F; S; H; ?**

A R
B T
C Q

---

974) **Individuare l'abbinamento errato.**

A pellicano - mammiferi
B lucertola - rettili
C rana - anfibi

---

975) **Escludendo dalla seguente sequenza FLOGORMFAAGOLCCREORIOFLL" le lettere dei termini "FORMAGGIO" e "FOLCLORE", si ottiene:"**

A CFOLLRA
B LCFAOLM
C GFOLGRA

---

976) **Quale delle seguenti parole è sinonimo di dileggio"?"**

A Privilegio
B Elogio
C Derisione

---

977) **Ricomporre correttamente la frase che è stata divisa in 4 parti, successivamente mescolate e proposte in ordine casuale: - 1) hanno cercato me \ 2) non sono io che \ 3) ma sono i guai che \ 4) ho cercato i guai.**

A 1; 2; 3;4.
B 2; 4; 3;1.
C 3; 2; 1;4

---

978) **Se O viene prima di P; R viene prima di P; P viene prima di Q; R viene prima di O, quale tra queste affermazioni non è corretta?**

A L'ordine non è alfabetico.
B La O è a fianco alla P.
C R non è la seconda lettera della serie.

---

979) **Individuare l'abbinamento errato:**

A Estensi - Ferrara
B Medici - Mantova
C Visconti - Milano

---

980) **Non si può escludere che, se Alberto non avesse sostituito la ruota, l'auto avrebbe subito molti danni. In base alla precedente affermazione, quale delle seguenti è certamente vera?**

A È possibile che l'auto avrebbe subito molti danni qualora Alberto non avesse sostituito la ruota.
B Se l'auto avesse subito molti danni, è possibile che Alberto non avrebbe sostituito la ruota.
C È possibile che l'auto avrebbe subito molti danni qualora Alberto avesse sostituito la ruota.

---

981) **Alice ha investito 1000 euro in azioni di una certa società. Ieri le azioni di quella società hanno subito un rialzo del 45% alla chiusura della borsa, mentre oggi si sono deprezzate del 40%. Se domani mattina, all'apertura della borsa, Alice rivende le azioni, quanto ha guadagnato o quanto ha perso?**

A ha perso 130 euro
B ha guadagnato 50 euro
C ha guadagnato 870 euro

---

982) **Due libri di esattamente 100 pagine ciascuno sono allineati fianco a fianco su uno scaffale. Il libro a sinistra è capovolto, cioè a testa in giù. Aggiungendo il numero della pagina all'estrema sinistra al numero della pagina all'estrema destra del libro a destra, qual è il totale?**

A 101
B 100
C 99

---

983) **Una stazione ferroviaria è attigua all'ingresso di una lunga galleria. In quale vagone deve salire un tizio che soffre di claustrofobia se vuole trascorrere il minore tempo possibile nella galleria se il treno imbocca la galleria immediatamente dopo la partenza?**

A Il tempo di permanenza in galleria è indipendente dalla posizione del vagone
B Nel vagone di centro
C Nell'ultimo vagone

---

984) **Se l'automobile è di colore rosso, allora è sportiva. Da quale delle seguenti affermazioni può essere logicamente dedotta l'affermazione precedente?**

A Tutte le automobili rosse sono sportive.
B Se un'automobile non è rossa, allora non è sportiva.
C Tutte le automobili sportive sono rosse.

---

985) **Quale dei termini che seguono può essere a ragione considerato parte della serie "controprova, frutticoltore, schiaccianoci, maledire"?**

A Posacenere
B Calcolatore.
C Argomento.

---

986) **Individuare l'abbinamento errato.**

A Sicilia - Chianti
B Piemonte - barolo
C Emilia Romagna - lambrusco

---

987) **Se LAC indica una cifra da 1 a 9 divisibile per 5, LUC una cifra divisibile per 3 e LOC una cifra divisibile per 2, con quale scrittura può essere espresso il numero 325?**

A LUC LOC LAC
B LOC LAC LUC
C LAC LAC LUC

988) **Accortezza sta a avvedutezza" come stoltezza sta a:"**

A intuito.
B perspicacia.
C dissennatezza.

989) **Un elettricista realizza un impianto in 15 giorni. Quanti elettricisti (che lavorano allo stesso ritmo del primo) devono lavorare per preparare 5 impianti in 5 giorni?**

A 15
B 20
C 25

990) **Nel 2019 l'azienda Love Yachting ha prodotto 450 barche. Sapendo che nell'anno successivo sono state prodotte 585 barche, quale è stato l'incremento percentuale della produzione da un anno all'altro?**

A 30%
B 1,35%
C 25%

991) **Se l'affermazione tutte le navi inglesi hanno le vele" è FALSA, quale delle seguenti proposizioni è necessariamente vera?"**

A Nessuna nave inglese ha le vele.
B Almeno una nave inglese non ha le vele.
C Almeno una nave inglese ha le vele.

992) **Se: X + X = Y - Z, Y = -1, X = 1 allora Z è uguale a:**

A -3
B 3
C 1

993) **Completare la seguente successione numerica: 11; 33; 21; 63; 51; 153; ?; ?**

A 151; 423
B 141; 423
C 141; 413

994) **Perciò io penso che il ..... non nasca dal rimpianto di una mala azione già commessa ma dalla visione della propria colpevole disposizione. La parte superiore del corpo si china a guardare e giudicare l'altra parte e la trova deforme. Ne sente ribrezzo e questo si chiama ..... . Anche nella tragedia antica la vittima non ritornava in vita e tuttavia il ..... passava. Ciò significava che la deformità era guarita e che ormai il pianto altrui non aveva alcuna importanza. Dove poteva esserci posto per il ..... in me che con tanta gioia e tanto affetto correvo dalla mia legittima moglie? Da molto tempo non m'ero sentito tanto puro. (I. Svevo, "La coscienza di Zeno"). Quale termine ricorre per quattro volte nel testo?**

A coraggio
B rimorso
C bene

995) **Completare la seguente successione di lettere, utilizzando l'alfabeto italiano: V; S; O; L; F; ?**

A B
B C
C E

996) **Completare correttamente la seguente successione, utilizzando l'alfabeto italiano: O; 64; I; 32; E; 16; ?; ?**

A A; 8
B B; 7
C Z; 4

997) **Se: MK - 6 + TZ = YW + ZA + TZ MK = YW allora ZA è uguale a:**

A -6
B 12
C -3

998) **Se: X + X = Y - Z, Y = -1, X = -8 allora Z è uguale a:**

A 15
B 17
C -20

999) **Completare la seguente proporzione verbale: epidemia : virus = X : Y**

A X = contagio; Y = guarigione
B X = pompiere; Y = vaccino
C X = incendio; Y = scintilla

1000) **Completare correttamente la seguente successione numerica: 42; 86; 74; 32; ?; ?; 22; 66**

A 76; 64
B 76; 68
C 81; 62

1001) **Laura possiede 12 cucchiaini d'argento apparentemente identici, uno dei quali è però più pesante degli altri. Avendo a disposizione una bilancia a due piatti, quante pesate saranno sufficienti per essere certi di individuarlo?**

A 3
B 7
C 6

1002) **Completare correttamente la seguente successione numerica: 46; 90; 78; 36; ?; ?; 26; 70**

A 76; 64
B 80; 68
C 80; 72

1003) **Un macchinario produce un pezzo ogni 20 secondi. Quanti pezzi si possono produrre in 2 ore e mezza?**

A 600
B 450
C 120

1004) **Completare correttamente la proporzione: arco : freccia = X : Y**

A X = tiro; Y = caccia
B X = fucile; Y = cartuccia
C X = arciere; Y = sparo

1005) **Indicare la sillaba che, posposta ai gruppi di lettere, fornisce a ciascuno un significato compiuto: SE..; FA..; RA...; CI**

A ME
B GI
C PI

1006) **Quali, tra i termini proposti, completano correttamente la seguente proporzione verbale? Mattone : muro = X : Y**

A X = alunno; Y = scolaresca
B X = fiore; Y = frutto
C X = seme; Y = albero

1007) **Attraverso operazioni mentali reversibili, il bambino, nel periodo delle operazioni concrete, è in grado di valutare come appaiano gli oggetti a un osservatore che si trovi in una posizione diversa; qui ci imbattiamo nel ben noto fenomeno del decentramento, in cui il bambino può indicare come apparirebbe la scena a qualcuno che fosse seduto in un'altra parte della stanza, o come ci apparirebbe un oggetto se ruotasse nello spazio. Questa varietà di intelligenza spaziale è però ancora limitata a situazioni ed eventi concreti. Solo durante il periodo delle operazioni formali, al tempo dell'adolescenza, il ragazzo può concepire l'idea di spazi astratti o di regole formali che governano lo spazio. Così la geometria viene a essere apprezzata dall'adolescente (o dal bambino precoce nel campo della comprensione della matematica), che è ora in grado di istituire relazioni fra il mondo delle immagini figurali e quello delle proposizioni linguistiche, e di ragionare sulle implicazioni di vari tipi di trasformazione. (H. Gardner, Formae mentis. Saggio sulla pluralità dell'intelligenza, Feltrinelli). Secondo quanto si afferma nel brano, il decentramento è la capacità di:**

A spostarsi nello spazio da un luogo a un altro
B valutare come appaiono gli oggetti da diversi punti di osservazione
C concepire l'idea dello spazio astratto

1008) **Tutte le persone determinate sono ambiziose. Marina è una persona determinata. Le persone determinate sono ambiziose. In base alle precedenti affermazioni, quale delle seguenti è necessariamente vera?**

A Le persone ambiziose sono determinate.
B Marina è una persona ambiziosa.
C Marina è una persona determinata.

1009) **La ____ di ciascuno trascorre tutta fra il volere e l'ottenere. Il desiderio per sua natura è dolore, la soddisfazione genera ben presto saturazione: la meta era solo apparente. Il possesso toglie ogni interesse: il desiderio, il bisogno ricompare sotto nuova forma; dove non succede, subentrano lo squallore, il vuoto, la ___ che da combattere sono altrettanto___ come il bisogno (Schopenhauer). Quale dei gruppi di termini proposti in sequenza integra, nell'ordine, le parole omesse?**

A Vita/felicità/tormentosi
B Morte/noia/tormentosi.
C Vita/noia/tormentosi.

1010) **Se ISOLA = 5, OCEANO = 6 , SPIAGGIA = 7, GOLFO = ?**

A 6
B 5
C 7

1011) **Individuare l'alternativa che completa in modo corretto la seguente proporzione tra termini: mansueto: aggressivo = X : Y**

A X = triste; Y = lieto.
B X = povero; Y = indigente.
C X = attivo; Y = vivace

1012) **In quante diverse maniere si possono disporre le prime 5 lettere dell'alfabeto?**

A 120
B 60
C 100

1013) **Ricomporre correttamente la frase che è stata divisa in 5 parti, successivamente mescolate e proposte in ordine casuale: - 1) quello di poter odiare \ 2) di questo mondo \ 3) è uno dei vantaggi \ 4) senza conoscersi \ 5) ed essere odiati.**

A 2; 5;1; 3; 4.
B 3; 2;1;5; 4.
C 4;1; 2; 3;5.

1014) **Qual è il 20% di m 41?**

A 9,2 m
B 7,2 m
C 8,2 m

1015) **Albert Einstein affermava che la scienza non è altro che un affinamento del pensiero (1) _____, in quanto, per trovare la soluzione a un (2) _____, sia lo scienziato sia l'uomo comune raccolgono informazioni e le confrontano con le esperienze già acquisite anche se il primo può avvalersi del bagaglio delle conoscenze (3) _____, mentre il secondo ricorre semplicemente alla propria esperienza.**

A (1) debole; (2) male; (3) comuni
B C. (1) segreto; (2) quesito; (3) inutili
C (1) quotidiano; (2) problema; (3) scientifiche

1016) **A quale numero corrisponde la frazione 9/20?**

A 2.2
B 0.45
C 29

1017) **La frazione 2/5 corrisponde al numero:**

A 10
B 0.4
C 2.5

1018) **Qual è la differenza fra i numeri 2,68 e 0,029?**

A 2.652
B 2.651
C 2.661

1019) **Completare correttamente la seguente successione: C; 116; E; 98; G; 80; ?; 62; M; ?**

A M; 44
B I; 44
C I; 42

1020) **Un centro di ricerca deve distribuire un finanziamento di 5.000 euro. Il responsabile propone di destinarne la metà a contratti di ricerca, un quarto a spese di laboratorio, un quinto a spese per pubblicazione dei lavori scientifici che saranno scritti e un decimo a spese per partecipazione a congressi. Così facendo:**

A si risparmiano 50 euro.
B si esaurisce il budget riuscendo a finanziare tutto.
C si supera il budget di 250 euro.

1021) **Completare correttamente la seguente successione numerica: ?; ?; 37; 62; 42; 65; 47; 68**

A 59; 31
B 32; 59
C 32; 61

1022) **Se la lettera N identifica una qualunque cifra (singola), la lettera P identifica una qualunque cifra (singola) pari e la lettera D identifica una qualunque cifra (singola) dispari, allora il prodotto tra i numeri NP e NN sarà certamente un numero:**

A pari.
B composto da cinque cifre.
C dispari di tre cifre.

1023) **Tre amici, Giovanni, Marco e Filippo vanno spesso al cinema. Si sa che se Filippo va al cinema, ci va anche Giovanni; Giovanni e Marco non ci vanno mai tutti e due insieme; può anche succedere che Filippo o Marco vadano al cinema singolarmente; d'altra parte se Marco va al cinema, allora ci va anche Filippo. Ammesse per vere tali premesse, sono andati al cinema in coppia:**

A Giovanni e Filippo
B Filippo e Marco
C Nessuno

1024) **Individuare il diagramma che soddisfa la relazione insiemistica esistente tra i termini dati: OGGETTI IN PELLE, BORSE DA VIAGGIO, PELLETTERIE**

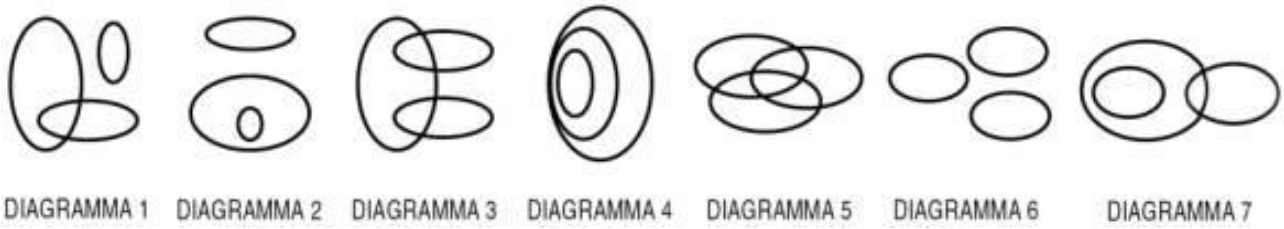

A Diagramma 1
B Diagramma 5
C Diagramma 4

1025) **Se Marta continua a mangiare abbondantemente, ingrasserà. Se l'affermazione precedente è corretta, allora è certamente vero che:**

A se Marta ingrasserà, sarà a causa dei pasti troppo abbondanti.
B se Marta ingrasserà, significa che non ha smesso di mangiare abbondantemente.
C se Marta non ingrasserà, significa che ha smesso di mangiare abbondantemente.

1026) **Completare correttamente la seguente successione numerica: 45; 47; 50; 54; 59; 65; ?**

A 73
B 72
C 69

1027) **Tutti i pescatori sono amanti del mare. Giulio è un amante del mare. Tutti gli amanti del mare sono sportivi. In base alle precedenti affermazioni, quale delle seguenti NON è necessariamente vera?**

A Giulio è un pescatore
B Tutti i pescatori sono sportivi
C Giulio è sportivo

1028) **Se CELLULARE = 18, TASTO = 10, SQUADRA = 14, RICARICA = ?**

A 14
B 12
C 16

1029) **Individuare l'abbinamento errato.**

A Spedizione dei Mille - 1860
B Rivoluzione francese - 1789
C Battaglia di Caporetto - 1944

1030) Indicare in quale delle seguenti alternative è presente una sola volta il gruppo di lettere HTTP"."

A AZXCVSXDESXDERDHTGRR
B AZXCVBNSXDADERDFTGRR
C AZXCVBNHTTPDERDFTGRR

1031) I lapsus verbali si presentano con particolare frequenza quando si è affaticati, si ha mal di testa, o se incombe un'emicrania. In queste stesse condizioni si verificano facilmente le dimenticanze di nomi propri. Alcune persone sono abituate a riconoscere l'avvicinarsi dell'emicrania da questo loro dimenticare i nomi propri. Anche quando si è eccitati si scambiano spesso le parole - nonché le cose: si prende una cosa per l'altra. La dimenticanza di propositi e tante altre azioni non intenzionali si presentano quando si è distratti, ossia, propriamente parlando, quando si è concentrati su qualcos'altro. Un noto esempio di questa distrazione è il Professore del settimanale umoristico "Fliegende Blätter", che dimentica l'ombrello e scambia il suo cappello con quello di un altro perché pensa ai problemi che tratterà nel prossimo libro. Esempi di come si possono dimenticare propositi e promesse, perché nel frattempo qualche avvenimento ci ha intensamente assorbiti, ognuno di noi può ricavarli dalla propria esperienza. (Da: S. Freud, Introduzione alla psicoanalisi)". Secondo quanto riportato nel brano, può incorrere in lapsus verbali:"

A chi non dimentica mai i nomi propri
B chiunque sia affaticato
C solo chi presenta disturbi psichici

1032) Completare la seguente proporzione: X : cerchio = tre : Y

A X = superficie; Y = quadrato
B X = quadrato; Y = cubo
C X = due; Y = sfera

1033) Di una famiglia si sa che: almeno un maschio non è celibe, tutti i laureati sono celibi, almeno un maschio è maggiorenne. Solo una delle seguenti proposizioni è deducibile dalle premesse. Quale?

A Tutti i celibi sono laureati.
B Almeno un maggiorenne è coniugato.
C Almeno un celibe non è maggiorenne.

1034) Indicare il termine da scartare.

A Labile.
B Schietto.
C Leale.

1035) Individuare il diagramma che soddisfa la relazione insiemistica esistente tra i termini dati: MUSEI, DISCOTECHE, LIBRERIE

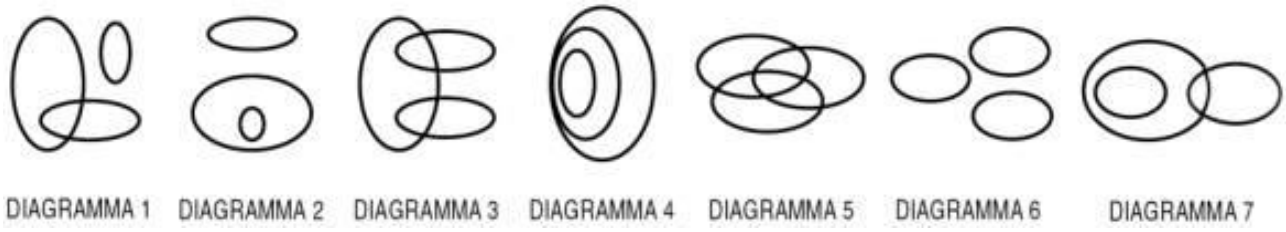

A Diagramma 6
B Diagramma 2
C Diagramma 3

1036) Giovanni entra in camera da letto al buio, per non svegliare sua moglie. Nel suo cassetto vi sono 7 paia di calze indistinguibili al tatto, di cui quattro paia blu e tre paia grigie. Quella mattina gli va bene uno qualsiasi dei due colori. Qual è il numero minimo di calze che deve prendere per essere sicuro di averne almeno due dello stesso colore?

A 5
B 4
C 3

1037) In un supermercato arrivano tre casse sigillate con le seguenti etichette: Limoni, Mele, Limoni e mele. Sapendo che le tre casse contengono: una mele, un'altra cassa limoni, e la terza mele e limoni, ma che nessuna di esse riporta l'etichetta corrispondente al reale contenuto, qual è il numero minimo di casse che è necessario aprire e quale è il numero di frutti che è necessario estrarre dalle casse per correggere le tre etichette?

A Tre casse e due frutti per ogni cassa.
B Una cassa e un solo frutto.
C Due casse e tre frutti per ogni cassa.

1038) Lanciando tre dadi nello stesso momento, qual è la probabilità di ottenere un punteggio dispari?

A 33%
B 75%
C 50%

1039) Nicola è astemio. Chi è magro è astemio. Marco è magro. Se le tre premesse sono vere, quale delle seguenti affermazioni ne consegue?

A Nicola è magro.
B Marco è astemio
C Chi è astemio è magro.

1040) Quale delle seguenti affermazioni riguardanti un parallelogramma è falsa?

A La somma degli angoli interni è 360
B Gli angoli opposti sono supplementari
C I lati opposti sono uguali

1041) A quale percentuale corrisponde la frazione 18/200?

A 18%
B 90%
C 9%

1042) Indicare il termine da scartare.

A Copioso.
B Abbondante.
C Abietto.

1043) Se alcuni agrumi sono arance" e "tutte le arance hanno i semi", quale delle seguenti affermazioni è certamente vera?"

A Alcuni agrumi hanno i semi
B Tutti i frutti con i semi sono arance
C Solo le arance hanno i semi

1044) Individuare il diagramma che soddisfa la relazione insiemistica esistente tra i termini dati: APPARTAMENTI, CUCINE, PIATTI

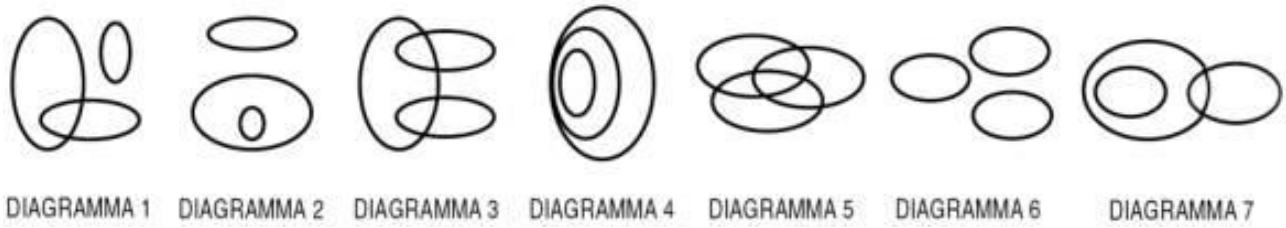

A Diagramma 6
B Diagramma 2
C Diagramma 4

1045) Quale valore si ottiene dal prodotto fra i 2 risultati delle operazioni seguenti? 880 / 440 e 390 / 130?

A 4
B 6
C 9

1046) I progressi rapidi e sostanziali che la genetica ha compiuto negli anni che sono trascorsi hanno portato questa disciplina a una posizione di punta e centrale nel quadro delle scienze biologiche. Di punta, perché alcuni tra i massimi problemi della biologia, quali la riproduzione, il differenziamento, la struttura della materia vivente a livello molecolare, e alcune funzioni biologiche fondamentali, quali la trasmissione dei caratteri, la variazione, la sintesi delle proteine, che fino a pochi anni fa sembravano sottrarsi irrimediabilmente all'indagine sperimentale, sono stati invece attaccati e risolti, o avviati verso la soluzione, proprio grazie all'indagine genetica, spesso in collaborazione con la biochimica. Quindi la genetica è oggi la disciplina che ha portato l'indagine biologica verso le frontiere più avanzate. (G. Montalenti, Introduzione alla Genetica, UTET) Secondo l'autore del brano:

A la genetica ha assunto una posizione rilevante nella Biologia
B la genetica e la biochimica consentono, in collaborazione, di spiegare tutti i fenomeni biologici
C l'indagine genetica è la base irrinunciabile della ricerca biologica

---

1047) Se in una classe di 30 alunni , il 30 % ha avuto un'insufficienza in matematica, quanti sono gli alunni con un giudizio insufficiente?

A 5
B 12
C 9

1048) In un mazzo di carte francesi (52 carte e 4 semi), la probabilità di estrarre 2 figure di picche è:

A 5/442
B 1/1326
C 1/442

1049) A differenza delle altre palestre della città, la palestra Fitness ha aumentato le iscrizioni rispetto all'anno precedente. Il motivo di tale aumento è riconducibile all'allestimento in sede di una piscina olimpionica. Quale delle seguenti conclusioni NON può essere dedotta dalla precedente affermazione?

A Le altre palestre della città diverse dalla Fitness non sono dotate di piscina.
B Nell'ultimo anno le palestre della città, ad esclusione della Fitness, non hanno aumentato le iscrizioni rispetto all'anno precedente.
C Nell'ultimo anno gli iscritti della palestra Fitness sono aumentati rispetto a quelli dell'anno precedente.

1050) Il termine deontologia" significa:"

A rispetto della morale cattolica
B etica professionale
C la parte della filosofia che studia l'essere

1051) Anna spende il 4% del suo stipendio mensile per l'abbigliamento e l'8% per i divertimenti. Se ogni mese spende 60 euro in vestiti, a quanto ammonta lo stipendio di Anna?

A 1500 euro
B 2.000 euro
C 1.600 euro

1052) Se il prezzo di un bene inclusivo dell'IVA al 20% è di euro 75, l'imponibile IVA, ovvero il prezzo al netto dell'imposta, è di:

A 62.5
B 60
C 65

1053) Indicare in quale delle seguenti alternative viene rispettata la regola di alternanza vocale-consonante"."

A UPOFABELEUFABEL
B UPOFABELPUFABEL
C UPOFABELEFAFABEL

1054) Marco ha 5 gettoni apparentemente identici, uno dei quali è però più pesante degli altri. Avendo a disposizione una bilancia a due piatti, quante pesate saranno sufficienti per essere certi di individuarlo?

A 4
B 3
C 2

1055) Una recente ricerca condotta da un prestigioso centro ha mostrato che le droghe leggere sono meno dannose per la salute di quanto non lo sia l'alcol. È dunque opportuno provvedere a legalizzare tali sostanze. Quale delle seguenti affermazioni, se corretta, indebolisce maggiormente la conclusione riportata dall'autore del passaggio precedente?

A La ricerca si concentra sugli effetti delle droghe leggere e dell'alcol sul fegato, trascurando altri possibili effetti.
B La legalizzazione delle droghe leggere è avversata dai principali partiti politici.
C La liberalizzazione delle droghe leggere comporterebbe un ingente danno al giro d'affari della mafia.

1056) Completare la seguente successione, utilizzando l'alfabeto italiano: A; 3; C; 7; E; ?; ?; 15

A 11; F
B 13; F
C 11; G

1057) Due ciclisti fanno una gara su una pista circolare lunga 500 m partendo insieme dai nastri di partenza e con l'obbligo di eseguire 10 giri. Sapendo che il primo ciclista viaggia alla velocità di 45 km/h e che il secondo corre alla velocità di 20 km/h, quando il primo ciclista doppierà il secondo per la terza volta?

A Durante il suo quinto giro
B Durante il suo sesto giro
C Durante il suo terzo giro

1058) Completare correttamente la seguente successione numerica: 61; 96; 53; ?; ?; 79; 113; 148

A 96; 88
B 87; 122
C 90; 124

1059) Un'eredità di 120.000 euro è divisa in tre parti proporzionali ai numeri 3, 4 e 5. Qual è la porzione più ingente dell'eredità?

A 30.000 euro
B 40.000 euro
C 50.000 euro

1060) Completare correttamente la seguente successione, utilizzando l'alfabeto italiano: C; 77; P; 65; D; 53; Q; 41; ?; ?

A E; 29
B C; 29
C P; 22

1061) Considerando due viali consecutivi, lunghi rispettivamente 55 m e 33 m, volendo collocare dei lampioni in modo che la distanza tra essi sia la stessa in entrambi i viali e la massima possibile, quanti lampioni saranno collocati?

A 11
B 9
C 13

1062) Completare correttamente la seguente successione di lettere, utilizzando l'alfabeto italiano: M; L; H; E; ?

A C
B A
C B

1063) Il ritrovamento dei reperti non ha consentito di dimostrare l'impossibilità che il sito sia quello dell'antica capitale etrusca. Qual è il corretto significato della precedente affermazione?

A L'esame dei reperti non ha dimostrato che la città scoperta non è l'antica capitale etrusca.
B L'esame dei reperti ritrovati ha dimostrato che la città scoperta è l'antica capitale etrusca.
C È impossibile che la città scoperta sia l'antica capitale etrusca.

1064) Posti A = {5, 6, 7} e B = {6, 7, 8}, qual è l'insieme risultante dall'intersezione di A e B?

A {6, 7}
B {5, 6, 7, 8}
C {6, 7, 8}

1065) Un appartamento del valore di euro 100.000 viene venduto per una somma diminuita dei 3/5. A quanto è ammontato lo sconto?

A 50.000 euro
B 36.000 euro
C 60.000 euro

1066) Completare correttamente la seguente successione numerica: 89; 52; 82; 48; 75; 44; 68; ?; ?

A 61; 39
B 39; 66
C 40; 61

1067) Tutti i cercatori dii funghi hanno una buona vista. Angelo ha una buona vista. In base alle precedenti informazioni, quale delle seguenti affermazioni è certamente vera?

A Angelo è un cercatore di funghi.
B Tutti coloro che hanno una buona vista sono cercatori di funghi.
C Nessuna delle alternative è corretta

1068) Individuare il numero che completa la serie: 162 ? 18 6

A 64
B 54
C 72

1069) Completare correttamente la seguente successione numerica: 102; 77; 44; ?; ?; 10; 34; 9

A 77; 69
B 68; 43
C 71; 45

1070) In un numero di due cifre, la cifra delle unità è il doppio di quella delle decine: scambiando l'ordine delle cifre si ottiene un secondo numero che supera di 18 il primo. Qual è il primo numero?

A 24
B 42
C 48

1071) Dario ha più di cinquant'anni; tutte le persone che hanno i capelli bianchi hanno più di cinquant'anni; le persone che non hanno i capelli bianchi sono sensibili. Se le precedenti affermazioni sono vere, allora NON si può affermare con certezza che:

A Dario ha i capelli bianchi e non è una persona sensibile.
B Possono esserci persone con più di cinquant'anni che non hanno i capelli bianchi.
C Dario potrebbe essere una persona sensibile.

1072) Completare correttamente la seguente successione, utilizzando l'alfabeto italiano: G; 11; F; 12; E; 23; D; 35; ?; ?

A T; 70
B C; 58
C F; 67

1073) Mescolando 400 litri di vino da 0,40 euro al litro con 600 litri di vino da 0,30 euro al litro si ottiene un vino il cui prezzo al litro potrebbe essere:

A 0.35
B 0.32
C 0.34

1074) Completare correttamente la seguente successione numerica: 22; 44; 26; 38; 30; 32; ?; ?

A 34; 26
B 34; 28
C 36; 26

1075) In una scatola ci sono 4 palline bianche, 3 palline gialle e 7 palline blu. Qual è la probabilità di estrarre a caso una pallina bianca o una blu?

A 1/11
B 1/14
C 11/14

1076) Quale gruppo di lettere, premesso in sequenza ai termini proposti, determina parole di senso compiuto? ANA - ENA - INA .

A T - C - M
B F - N - S
C M - F - V

1077) Estraendo una pallina da un'urna contenente 100 palline, di cui 25 blu, 15 rosse e 60 gialle, qual è la probabilità che esca una pallina rossa?

A 20/3
B 3/20
C 1/20

1078) **Per ottenere una tinta di una particolare tonalità di grigio occorre mescolare 2 barattoli di vernice nera con 5 barattoli di vernice bianca. Quanti barattoli di vernice bianca servono per 11 barattoli di vernice nera?**

A 29.5
B 35
C 27.5

1079) **Se 4 bastoncini delimitano un quadrato, 6 bastoncini delimitano un rettangolo formato da due quadrati allineati e 8 bastoncini delimitano un rettangolo formato da tre quadretti allineati, quanti bastoncini delimitano un rettangolo di 50 quadretti allineati?**

A 96
B 100
C 102

1080) **Se il prezzo di 0,7 kg di mele corrisponde a 0,35 euro, quanto costa 0,1 kg di mele?**

A 0.22
B 0.05
C 0.5

1081) **Indicare il verbo che non ha significato affine agli altri.**

A Affrontare.
B Truffare.
C Frodare.

1082) **Affinché un numero intero sia multiplo di 3 è sufficiente che:**

A non sia multiplo di 5
B sia maggiore di 3
C sia multiplo di 6

1083) **Completare la seguente successione: 120, 118, 115, 110, 103, 94, 81, 64.....**

A 60
B 41
C 45

1084) **Quali dei seguenti numeri è divisibile per 3 e 5 ma non per 2 o 7?**

A 45
B 55
C 30

1085) **Qual è la somma degli angoli interni di un poligono regolare?**

A 90
B 180
C 360

1086) **Sapendo che il 7 non esce sulla ruota di Roma da 30 estrazioni e il 12 non esce su quella di Torino da 86 estrazioni, quale dei due numeri ha maggiori probabilità di essere estratto?**

A non è possibile calcolare la probabilità dell'estrazione.
B il 7 sulla ruota di Roma.
C 12 sulla ruota di Torino.

1087) **Indicare in quale delle seguenti alternative è presente una sola volta il gruppo di lettere VVGFF"."**

A VGYTFCXDREVVGFFMKJUHY
B VGYTFCXDREFFVVGMKJUHY
C VGYTFCXDREVVGDDMKJUHY

1088) **Ricomporre correttamente la frase che è stata divisa in 5 parti, successivamente sono state mescolate e proposte in ordine casuale: - 1) rigido e inflessibile \ 2) se non chi \ 3) contro cui non divien forte \ 4) il delitto è un padrone \ 5) se ne ribella interamente. .**

A 4; 3;1; 2; 5.
B 5; 2;3; 1; 4.
C 4;1; 3; 2; 5.

1089) **Completare correttamente la seguente successione numerica: 44; 51; 64; ?; ?; 82; 80; 87**

A 65; 71
B 62; 69
C 58; 67

1090) **Impegnarsi a fare il genitore con successo è una chiave di volta per la salute mentale delle nuove generazioni: abbiamo bisogno di sapere tutto il possibile riguardo alle molteplici condizioni sociali e psicologiche che influenzano in senso positivo o negativo lo sviluppo di tale processo. [...] Essere genitore con successo significa lavorare molto duramente. Occuparsi di un neonato o di un bambino che fa i primi passi è un lavoro che impegna ventiquattro ore al giorno per sette giorni alla settimana, e che spesso crea molte preoccupazioni. E anche se il carico di lavoro si allevia un po'man mano che i bambini crescono, se si vuole che crescano bene è ancora necessario fornire loro moltissimo tempo e moltissime attenzioni. Infiniti studi attestano che gli adolescenti e i giovani adulti sani, felici e fiduciosi in se stessi sono il prodotto di famiglie stabili in cui entrambi i genitori forniscono ai propri figli una grande quantità di tempo e di attenzioni. (John Bowlby, Una base sicura. Applicazioni cliniche della teoria dell'attaccamento) L'espressione chiave di volta", usata all'inizio del brano significa:"**

A novità impensabile e inaspettata.
B problema ricorrente.
C elemento fondamentale da cui dipendono altre cose.

1091) **In un numero di tre cifre la cifra delle unità è uguale alla somma di quella delle decine con quella delle centinaia. Se si somma questo numero con quello ottenuto scambiando la cifra delle decine con quella delle centinaia e si divide il risultato per la somma delle cifre del numero dato, si ottiene:**

A 56
B 58.5
C 55.5

1092) **Quando Maurizio aveva 49 anni, suo figlio Paolo ne aveva 16. Quanti anni ha adesso Paolo, tenendo conto che la sua età è ora la metà di quella del padre?**

A 35
B 29
C 33

1093) **Se è vero che tutti i cani da guardia sono molto aggressivi", quale delle seguenti affermazioni è necessariamente vera?"**

A Non esistono cani da guardia non aggressivi.
B Non esistono cani più aggressivi di quelli da guardia.
C È impossibile negare che esista almeno un cane da guardia poco aggressivo.

1094) **Individuare l'alternativa che riporta una successione di elementi identica alla sequenza JJHHYHYHYHHYY.**

A JJHYYHYHYHHYY
B JJHHYHYYYHHYY
C JJHHYHYHYHHYY.

1095) **Calcolare il numero di studenti in una classe sapendo che di questi 6/11 sono stati promossi in prima sessione, 4/11 in seconda sessione e 3 studenti sono stati respinti.**

A 29 studenti.
B 33 studenti.
C 25 studenti.

1096) **Non esiste alcun elemento probatorio che consenta di eliminare la possibilità che l'imputato sia estraneo al fatto. Dalla precedente affermazione si deduce che:**

A l'imputato è estraneo al fatto.
B è impossibile che l'imputato sia estraneo al fatto.
C è possibile che l'imputato sia estraneo al fatto.

1097) **Se: X + X + Y = -7Y, X = 1 allora Y è uguale a:**

A -0.25
B -1
C 1

1098) **Individuare l'elemento mancante nella seguente serie: D; 4; ?; 8; N; 12; R; ?**

A H; 16
B F; 18
C H; 8

1099) Se la pubblicità ha avuto effetto, allora molte persone guarderanno la fiction televisiva. Se l'affermazione precedente è vera, quale delle seguenti è necessariamente vera?

A Chi ha guardato la fiction televisiva ha subito l'effetto della pubblicità.
B Se la pubblicità non ha avuto effetto, allora poche persone guarderanno la fiction televisiva.
C Se poche persone hanno guardato la fiction televisiva, allora la pubblicità non ha avuto effetto.

1100) Se GREGGE = 12, CAPRA = 10, LANA = 8, PASCOLO = ?

A 10
B 14
C 16

1101) Franco promette al figlio Tommaso che, se verrà promosso con una votazione superiore a sette, gli regalerà un computer portatile. In quale dei seguenti casi si è certi che Franco NON mantiene la promessa?

A Tommaso è promosso con una votazione pari a otto e non riceve alcun regalo dal padre.
B Tommaso viene respinto e riceve in regalo un computer portatile.
C Tommaso viene promosso con sette e non riceve alcun regalo dal padre.

1102) Completare correttamente la seguente successione numerica: 20; 40; 9; 54; 74; 43; ?; ?

A 88; 108
B 12; 57
C 93; 106

1103) Indicare il verbo che ha significato diverso dagli altri.

A Erudire.
B Disintegrare.
C Indottrinare.

1104) Una concessionaria ha venduto 200 monopattini elettrici in settembre e 340 in ottobre. A quanto ammonta l'incremento percentuale delle vendite da un mese all'altro?

A 0.7
B 1.4
C 2.1

1105) La pagina dell'articolo di cronaca è posta 7 pagine prima rispetto alla rubrica dedicata alla cucina che è 3 pagine prima della pagina delle lettere ai lettori" che è 6 pagine dopo quella dello sport che è a pagina 30. A che pagina è l'articolo di cronaca?"

A 28
B 29
C 27

1106) Indicare in quale delle seguenti alternative viene rispettata la regola di alternanza vocale-consonante"."

A ODERAXETUPAFESTXIDIC
B ODERAXETUIXIDICDIC
C ODERAXETUPAFESIXIDIC

1107) All'ingresso del cinema ci sono 6 file di persone in attesa. Ogni fila è composta di 3 persone in più della precedente. Nella prima fila vi sono 15 persone. Quante ce ne sono nell'ultima?

A 27
B 30
C 33

1108) Tutti coloro che amano la natura sono felici; Matteo ama la natura; chi è felice non si arrabbia mai. Se le precedenti informazioni sono corrette, quale delle seguenti affermazioni NON rappresenta una conclusione corretta?

A Chi è felice ama la natura.
B Matteo non si arrabbia mai.
C Chi ama la natura non si arrabbia mai.

1109) Completare correttamente la seguente successione, utilizzando l'alfabeto italiano: S; 109; Z; 98; D; 87; ?; ?

A Z; 88
B H; 76
C I; 78

1110) Noi adulti amiamo credere che i giovani usino Internet per soddisfare bisogni culturali. Le loro motivazioni si concentrano, invece, sulle nuove opportunità di comunicazione: esprimere la propria identità, stringere nuove amicizie, consolidare quelle vecchie, divertirsi. Anche se ai nostri occhi la maggior parte delle conversazioni online appare banale, i ragazzi sembrano attribuire un valore particolare a quella negoziazione continua, ora divertente, ora complicata, che li impegna con i loro pari qualsiasi cosa, dal vestito giusto alle aspettative scolastiche e professionali e che consente loro di estendere la vita offline nello spazio della rete, dove è possibile fare esperienze com maggiore libertà, lontano dallo sguardo degli adulti. Anche quando sono fisicamente presenti, in classe o a casa, gli adolescenti sono psicologicamente assenti, impegnati a interagire con la propria rete sociale o a gestire le proprie dinamiche familiari, sempre on line, sempre in contatto fra loro. (S. Livingstone Ragazzi on line Vita e Pensiero) Secondo l'autore del brano gli adulti tendono a credere che le conversazioni on line tra adolescenti siano:

A banali.
B inutili, perché sottraggono tempo allo studio.
C motivate da una ricerca di contenuti culturali.

1111) Se TAPPETO = 14; DIVANO = 12; LAMPADA = 14; POLTRONA = ?

A 18
B 14
C 16

1112) Se X e Y stanno tra loro come 2 sta a 3 e la loro somma vale 10, quanto vale X?

A 4
B 8
C 5

1113) Individuare l'alternativa che riporta una successione di elementi identica alla sequenza AUVUVUUVUVVAV.

A AUVUVUUVUVVAV
B AUVUUVUVVAVUV
C AUVUVUUVVUVUV

1114) Indicare il verbo che ha un significato diverso dagli altri.

A Prosciugare.
B Contestare.
C Essiccare.

1115) Data la sequenza OSDFWOSOTATatatsfgqwerta individuare l'alternativa che la riproduce fedelmente se inserita al posto dei puntini nella seguente: OSDFWO...fgqwerta

A SOTATatast
B SOTAoTatas
C SOTATatats

1116) Completare correttamente la seguente successione numerica: ?; 6; 5; 11; 6; 5; 11; ?

A 12; 6
B 11; 6
C 11; 5

1117) Se: X - Y = 100, X + Y = 150 allora X e Y sono rispettivamente uguali a:

A 150 e 50
B 125 e 25
C 100 e 50

1118) Se al numero 0,7777 si addiziona un millesimo, si ottiene:

A 0.7777
B 0.8777
C 0.7787

1119) Indicare in quale delle seguenti alternative è presente una sola volta il gruppo di lettere HHGFF"."

A VGYHHGFFTFCXHHGFFHY
B VGYTFCXDREHHGFFMKJUHY
C VGYTFCXDREVVGDDMKJUHY

1120) Indicare il verbo che non è sinonimo degli altri.

A Convocare.
B Chiamare.
C Revocare.

1121) Una classe è composta da 10 ragazzi e 8 ragazze. Tra i 18 allievi se ne scelgono 2 a caso: qual è la probabilità che essi siano tutti maschi?

A 7/8
B 5/17
C 4/5

1122) Indicare in quale delle seguenti alternative è presente una sola volta il gruppo di lettere SWDA" (esattamente come riportato tra virgolette)."

A AZXCVBNSWDADERDFTGRR
B AZXCVBNZXDEDAWDFTGRR
C AZXCVSWDASWDARDFGRR

1123) Se: YW - 10 + XE = VJ + WK + XE YW = VJ allora WK è uguale a:

A -10
B -20
C 10

1124) Completare correttamente la seguente successione numerica: 101; 76; 43; ?; ?; 9; 33; 8

A 10; 34
B 70; 44
C 67; 42

1125) Olga è sincera. Tutte le psicoterapeute sono sincere. Tutte le persone sincere sono oneste. Se le precedenti affermazioni sono vere, quale delle seguenti è necessariamente vera?

A Tutte le persone oneste sono sincere
B Olga è onesta.
C Olga è una psicoterapeuta.

1126) Quali tra i numeri proposti completa correttamente la proporzione tappo sta a toppa: come 32664 sta a X ?

A X = 32466
B X = 34662
C X = 36642

1127) Lanciando tre dadi nello stesso momento, qual è la probabilità di ottenere un punteggio dispari?

A 50%
B 33%
C 75%

1128) Una società che inizialmente fatturava 600 milioni di euro ha visto calare del 20% il fatturato nel primo anno, del 10% nel secondo e del 50% nel terzo. Qual è il suo fatturato alla fine del terzo anno?

A 216 milioni di euro.
B 180 milioni di euro.
C 120 milioni di euro.

1129) Indicare il termine da scartare.

A Oscuro
B Celebre.
C Famoso.

1130) Indicare il verbo che ha significato diverso dagli altri due.

A Convertire.
B Tergiversare.
C Esitare.

1131) Le persone che amano il teatro sono spiritose. Gigi è una persona spiritosa. Quale delle seguenti affermazioni aggiuntive consente di dedurre con certezza che Gigi ama il teatro?

A Non è certo che tutte le persone spiritose amino il teatro.
B Alcune persone spiritose amano il teatro.
C Tutte le persone spiritose amano il teatro.

1132) La casa automobilistica Nuvolari non vince il Campionato Mondiale di Formula 1 dal 2010. Per questo motivo, e anche per fare felici i tifosi, quest'anno il suo budget è stato aumentato considerevolmente. Su quale presupposto implicito si basa l'argomentazione precedente?

A Le altre case automobilistiche di Formula 1 hanno budget più elevati.
B Un incremento del budget aumenta la probabilità di vittoria al Mondiale di Formula 1.
C La Nuvolari in passato ha sempre risparmiato sui costi di produzione.

1133) Se: X + 2Y + Z = 4Y, X = Y, Z = 3 allora Y è uguale a:

A 2
B 3
C 6

1134) Indicare la figura che completa la serie

A 1
B 2
C 3

1135) Se B = 15, C = 14, ... Z = 0, quanto vale R?

A 4
B 2
C 6

1136) Se tasto= 15, albero = 18, computer = 24 , monitor =

A 22
B 21
C 14

1137) Indicare il termine da escludere:

A Ritto.
B Eretto.
C Ricurvo.

1138) Tutti i piloti sono coraggiosi. Tutti i paracadutisti sono coraggiosi. Tutti i paracadutisti amano il mare. Se le precedenti informazioni sono corrette, quale delle seguenti informazioni addizionali consentirebbe di concludere che tutti i piloti amano il mare?

A Tutti i paracadutisti sono anche piloti.
B Tutti i piloti sanno nuotare.
C Tutte le persone coraggiose amano il mare.

1139) Quali tra i termini proposti completano correttamente la seguente proporzione? Aquila : X = fragola : Y.

A X = uccello Y = frutto
B X = banana; Y= buccia
C X = volatile Y= rapace

1140) Individuare l'abbinamento errato.

A Paolo Sorrentino - La grande bellezza.
B Roberto Benigni - La vita è bella.
C Carlo Verdone - Gomorra.

1141) Posti A = {e, i} e B = insieme delle vocali, l'insieme complementare di A rispetto a B è:

A {a, e, i, o, u}
B {a, u, o}
C {e, i}

1142) Nel 2020 numero di passeggeri della compagnia aerea Voloalto è aumentato rispetto all'anno precedente ; tuttavia il fatturato totale della compagnia è diminuito, anche se i prezzi dei biglietti sono rimasti invariati (a parità di viaggio). Quale delle seguenti potrebbe essere una logica spiegazione di quanto descritto nella precedente affermazione?

A Nel 2020 i passeggeri della compagnia Voloalto hanno generalmente scelto viaggi più brevi e quindi meno costosi
B Nel 2020 la compagnia Voloalto è stata scelta da passeggeri mediamente più ricchi
C Per tutto il settore dei trasporti aerei, il 2020 è stato un anno di recessione, con una forte diminuzione del numero di passeggeri.

1143) Individuare il diagramma che soddisfa la relazione insiemistica esistente tra i termini dati: VERBI TRANSITIVI, VERBI DELLA PRIMA CONIUGAZIONE, AVVERBI.

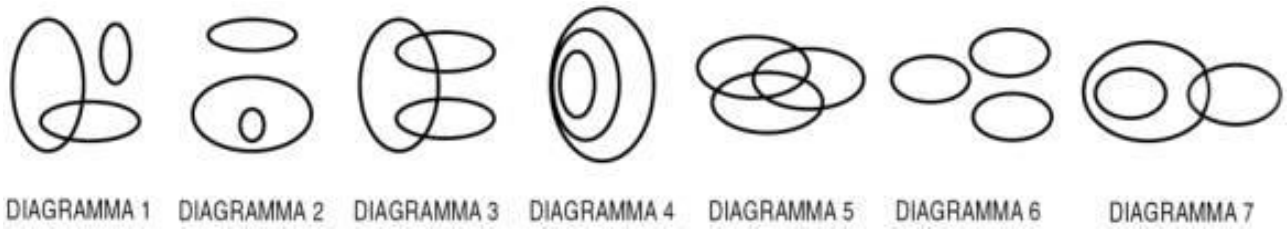

A Diagramma 1
B Diagramma 3
C Diagramma 2

1144) Indicare il termine da scartare:

A indifferibile.
B indilazionabile.
C indifferente.

1145) Completare correttamente la seguente successione numerica: 13; 21; 14; 23; 31; 24; ?

A 32
B 33
C 34

1146) Individuare la coppia di termini che non è coerente con le altre:

A arrendevolezza - condiscendenza
B presunzione - umiltà
C calma - agitazione

1147) Completare correttamente la seguente successione, utilizzando l'alfabeto italiano: G; 11; F; 12; E; 23; D; 35; ?; ?

A C; 58
B H; 67
C T; 70

1148) Indicare il termine da scartare.

A Peregrinare.
B Esagerazione.
C Gironzolare.

1149) Individuare l'alternativa che riporta una successione di elementi identica alla sequenza WWHHYHYHYHHKK.

A WWJHHYHYYYHHK
B WWHYYHYHYHJK
C WWHHYHYHYHHKK.

1150) Una farmacia compra 500 mascherine a 0,50 centesimi e le rivende a 2 euro. Quanto guadagna in totale?

A 500 euro
B 300 euro
C 750 euro

1151) Nel supermercato del porto di Bahia sono in vendita prodotti e vini. Per evitare furti ingenti, dalle ore 18 all'ora di chiusura, quando il supermercato è molto affollato, se un prodotto o un vino costa più di 50 dollari viene riposto nello scaffale dietro la cassa dove lavora il proprietario del supermercato. Se le precedenti informazioni sono vere, quale delle seguenti affermazioni è necessariamente corretta?

A Tra le 18 e l'ora di chiusura se un prodotto ha un costo compreso tra 80 e 100 dollari allora si trova nello scaffale dietro la cassa del supermercato.
B Alle 16, sullo scaffale alle spalle del proprietario del supermercato, non è possibile che vi siano prodotti né vini..
C Sullo scaffale alle spalle del proprietario del supermercato non è possibile che vi siano prodotti che costano 30 dollari

---

1152) In una fabbrica di bottiglie di plastica un macchinario produce un pezzo ogni 20 secondi. Quante bottiglie si possono produrre in 2 ore e mezza?

A 360
B 180
C 450

1153) Indicare il verbo che ha significato diverso dagli altri.

A Dissimulare.
B Celare.
C Contraccambiare.

1154) Solo se è presente un servizio di sorveglianza, si evitano le risse allo stadio. In base alla precedente affermazione, è necessariamente vero che:

A se il servizio di sorveglianza non è presente, non si evitano le risse allo stadio.
B anche se il servizio di sorveglianza è presente, sicuramente non si evitano le risse allo stadio.
C se è presente un servizio di sorveglianza non si verificheranno risse allo stadio.

1155) Indicare in quale delle seguenti alternative la lettera T è presente un numero maggiore di volte.

A BTTEETTETEETETBT
B TEETEEBTTEETETET
C TEETTTTEEBETETEB

1156) Inserire i termini mancanti della proporzione: X : orecchio = odontoiatra : Y

A X = specialista; Y = occhiali
B X = otorinolaringoiatra; Y = dente
C X = infermiere; Y = oculista

1157) L'espressione: non sono poi così certo che il ragazzo abbia omesso di dire la verità" equivale a dire:"

A il ragazzo potrebbe aver detto la verità.
B il ragazzo ha certamente detto la verità.
C il ragazzo ha certamente mentito.

1158) A rigore di logica quale lettera deve seguire: B, E, H, M?

A V
B P
C Z

1159) Nessun cane è alato. Alcuni animali sono alati. Indicare con quale delle seguenti conclusioni può essere completato il precedente sillogismo:

A alcuni cani sono animali.
B alcuni animali non sono cani.
C nessun essere alato è un cane.

1160) Indicare in quale delle seguenti alternative la lettera H è presente un numero maggiore di volte.

A TTHHTPHHTTHTHTH
B TTHTTPHHTTHTHTH
C THTTHTHHTHTTTPP

1161) Un pensionato ha passato la sua vita per un quarto da ragazzo, per un ottavo da giovane, per metà al lavoro. Da 9 anni non lavora più.Quanti anni ha adesso?

A 72
B 74
C 66

1162) Completare la seguente successione:1,4, 34 ?

A 2314
B 1214
C 664

1163) Due numeri interi hanno somma 5 e prodotto 0. Quanto vale il minore?

A 0.
B 2.
C 4.

1164) Chi non rispetta il Codice della strada viene sanzionato amministrativamente. In base a questa affermazione quale conclusione è vera?

A Il Codice della strada è rispettato da tutti.
B Chi non viene sanzionato amministrativamente ha rispettato il Codice della strada.
C Chi viene sanzionato amministrativamente non ha rispettato il Codice della strada.

1165) Se Q viene prima di P; 0 viene prima di P; P viene prima di R; O viene prima di Q, quale tra queste affermazioni è corretta?

A L'ordine è alfabetico.
B La P è l'ultima della serie.
C La P è a fianco della R.

1166) Completare la seguente successione ...,6,18,72,360""

A 4
B 2
C 3

1167) Indicare il termine da scartare.

A Moralità.
B Immorale.
C Dignità.

1168) Completare la seguente successione: M - A - M - ... - L - ... - S - O - N - D""

A N e E
B T e O
C G, A

1169) Indicare la sillaba che, preposta alla prima e aggiunta alla seconda, consente di ottenere due parole di senso compiuto. STO LU

A po
B mo
C fo

1170) Se: X + X = Y - Z, Y = -1, X = -8 allora Z è uguale a:

A 15
B -3
C 17

1171) Se l'operaio sta riposando, allora il capo cantiere è assente. Se la precedente affermazione è vera, allora è anche vero che:

A se il capo cantiere è assente, allora l'operaio si riposa
B se l'operaio non sta riposando, allora il capo cantiere è presente
C se il capo cantiere è presente, allora l'operaio non sta riposando

---

1172) Indicare in quale delle seguenti alternative è presente una sola volta il gruppo di lettere DFWA"."

A JKDFWARESDFWAOKLMJNF
B EDTGJKDFWAHNJVCFXS
C EDTGJKXCFVHNJVCFXS

1173) Se: MK - 6 + TZ = YW + ZA + TZ MK = YW allora ZA è uguale a:

A -6
B 4
C 6

1174) Non tutti gli economisti escludono il fatto che Internet abbia evitato un calo dell'occupazione. Basandosi sulla precedente affermazione, individuare quale delle seguenti alternative è esatta.

A Almeno un economista ritiene possibile che Internet abbia evitato un calo dell'occupazione
B Nessun economista sostiene che Internet abbia evitato un calo dell'occupazione
C Secondo molti economisti l'occupazione è calata nonostante Internet

---

1175) Indicare il termine da scartare:

A invincibile
B indomabile
C docile

1176) Indicare quale diagramma soddisfa la relazione insiemistica esistente tra i terminii: SPETTACOLI, ATTORI, COMMEDIE TEATRALI

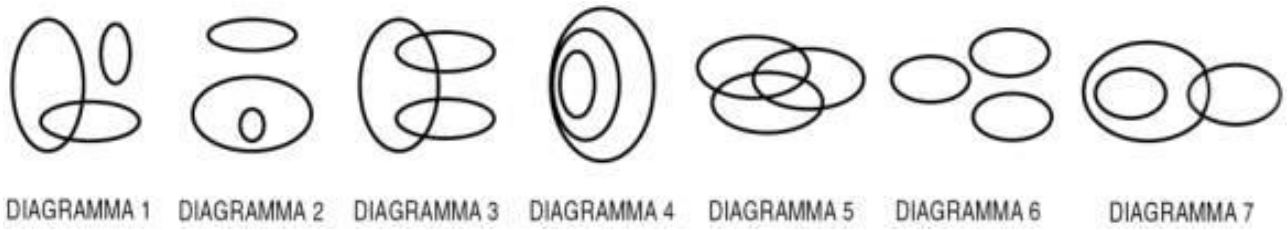

A Diagramma 6
B Diagramma 2
C Diagramma 5

1177) Se tela = 8; telefono = 16; televisore = 20; telecomando = ?

A 22
B 18
C 14

1178) Un oggetto di antiquariato ha un prezzo di listino pari a 9.000 euro e viene venduto con uno sconto del 30%. A quanto è ammontato lo sconto?

A 2700 euro
B 630 euro
C 1270 euro

1179) Nel rivolgerci al nostro interlocutore, se da un lato è utile ascoltare chi ci parla, anche se ci annoia, dall'altro è ancora meglio evitare di parlare troppo di noi stessi, di quanto siamo bravi o di quanto siamo sfortunati, a meno che non ci venga richiesto. L'estremo piacere che proviamo nel parlare di noi stessi deve farci temere di non darne affatto a chi ci ascolta diceva La Rochefoucauld. Se ci vantiamo dei nostri successi gli altri non ci ammireranno, non ci considereranno degli eroi, anzi, ci prenderanno in antipatia. Cosa fare, allora, se devi parlare di te stesso? Be', tanto per cominciare, parla in modo piano, normale, senza indulgere in toni enfatici. Devono essere i tuoi risultati a farti fare bella figura, non il modo con cui li esponi. Un consiglio, per esempio, è quello di ricorrere alla tecnica dell'"anch'io", tutti noi, infatti, proviamo simpatia per chi ci somiglia. Un proverbio inglese recita: "Birds of a feather flock together" (Gente dello stesso stampo sta insieme/Dimmi con chi vai, ti dirò chi sei) e anche all'epoca dei Romani Seneca asseriva: "L'amicizia tra due persone è tanto più forte quanto più sono le cose che hanno in comune"". Qual è l'intento dell'autore del brano?"

A Indicare il modo migliore per parlare di se stessi.
B Spiegare come in una conversazione la cosa più piacevole sia ascoltare.
C Convincere che non bisogna parlare mai di se stessi.

1180) Individuare il termine da scartare:

A romanticismo
B decadentismo
C islamismo

1181) Completare la seguente successione numerica: 10; 30; 19; 57; 46; 138; ?; ?

A 127; 381
B 126; 254
C 414; 403

1182) Individuare l'alternativa che riporta una successione di elementi in ordine inverso rispetto alla sequenza KBKBKKBK.

A BKKKBBKK
B KBKKBKBK
C KBKBKKBK

1183) Individuare tra le alternative proposte quella che contiene una differenza rispetto alle righe seguenti: 1234-67G5-DF56-4567 345F-SD34-7890-76TG 2345-DFT5-S345-2346

A 1234-67G5-DF56-4567
B 345F-SD34-7890-76TG
C 2345-DeT5-S345-2346

1184) La mamma dice a Pierino: Se vai a nuotare sugli scogli, non fare tuffi se non c'è anche tuo fratello". In quale dei seguenti casi Pierino le disobbedisce?"

A Pierino va sugli scogli da solo e non si tuffa.
B Pierino va senza il fratello sugli scogli e si tuffa da sei metri
C Pierino e suo fratello vanno sugli scogli e si tuffano da otto metri.

1185) Individuare l'alternativa che riporta una successione di elementi identica alla sequenza AOIOIOOIKOIO.

A AOIKOOOIOIO
B AOIOKIOIOIIO
C AOIOIOOIKOIO

1186) La garanzia per vizi è un rimedio a tutela del compratore, per l'ipotesi che la cosa acquistata presenti dei difetti materiali o funzionali: l'auto ha il motore fuso, o è gravemente sottosterzante; il cavallo da corsa ha una malattia ossea che lo rende zoppo; il computer non riesce a memorizzare i dati immessi, ecc. Perché la garanzia operi, i vizi" (cioè i difetti della cosa) devono presentare alcuni requisiti. Devono essere vizi rilevanti, e cioè abbastanza gravi da rendere la cosa inidonea all'uso cui è destinata, o diminuirne in modo apprezzabile il valore e vizi occulti, e cioè non conosciuti dal compratore al momento del contratto (perché in tal caso si deve pensare che egli li abbia accettati, e la cosa lo soddisfi ugualmente), né facilmente conoscibili (perché consentire la successiva doglianza del compratore significherebbe premiare la sua negligenza, e deludere l'affidamento di controparte) in quest'ultimo caso, però, il compratore ha diritto alla garanzia se il venditore gli ha dichiarato che la cosa è esente da vizi . Ammesso che il vizio presenti tali requisiti, il compratore che vuole avvalersi della garanzia deve prima di tutto adempiere un onere: denunciare il vizio al venditore entro otto giorni dalla scoperta, o nel diverso termine stabilito dal contratto. La garanzia per vizi è un rimedio:"

A se la cosa acquistata non esiste
B se la cosa acquistata presenta difetti materiali o funzionali
C se la cosa comprata non appartiene al venditore

1187) In un mazzo di carte francesi, la possibilità di estrarre un asso di picche è:

A 1/13
B 1/26
C 1/52

1188) Paolo va a sciare se e solo se Aldo gli presta gli sci. Se la precedente affermazione è vera, quale delle seguenti NON è necessariamente vera?

A Se Aldo non va a sciare, allora non ha prestato gli sci a Paolo.
B Se Aldo non gli presta gli sci, allora Paolo non gioca a tennis.
C Se Aldo va a sciare, allora Fabio gli ha prestato gli sci.

1189) Individuare l'abbinamento errato.

A Napoleone Bonaparte - XVIII secolo.
B Carlo Magno - XX secolo.
C Ottaviano Augusto - I secolo a. C.

1190) Se Marta non telefona a Chiara, allora il loro appuntamento avrà luogo in Via Verdi alle 20:00. Se la precedente affermazione è vera, si può concludere che:

A se le due amiche si incontrano in Via Verdi alle 19:00 allora Marta ha telefonato a Chiara.
B se le due amiche si incontrano in Via Verdi alle 20:00, allora Marta non ha telefonato a Chiara.
C condizione necessaria affinché l'appuntamento sia fissato in via Verdi alle 20:00 è che Marta non telefoni a Chiara.

1191) Ricomporre correttamente la frase che è stata divisa in 5 parti, successivamente mescolate e proposte in ordine casuale: - 1) che ogni parte abbia soltanto \ 2) non si dividono mai \ 3) dell'uno e dell'altro \ 4) con un taglio così netto \ 5) la ragione e il torto.

A 1; 3; 4; 5; 2.
B 5; 2; 4;1;3.
C 3; 5; 1;4;2.

1192) Quanti numeri di tre cifre si possono formare con 2, 3, 4, 5, 7 ammettendo le ripetizioni?

A 150
B 20
C 125

1193) Si vuole sapere quanti studenti di un corso universitario hanno ricevuto un voto minore della media in una sessione d'esami. Si hanno le seguenti due informazioni: (A) il punteggio medio è stato 25,6 (B) 135 studenti hanno sostenuto l'esame nella sessione. Quale delle seguenti affermazioni è corretta?

A La coppia di informazioni non è sufficiente.
B L'informazione (B) è sufficiente.
C L'informazione (A) è sufficiente.

1194) A seguito di un'accurata indagine, l'ispettore ha riconosciuto che non è falsa la teoria secondo la quale il maggiordomo non è l'assassino. Sulla base di tale affermazione quale delle seguenti alternative è vera?

A Le indagini hanno portato alla conclusione che il maggiordomo è l'assassino.
B È possibile che il maggiordomo sia l'assassino.
C Dalle indagini è emerso che il maggiordomo non è l'assassino.

1195) A una gara partecipano 16 concorrenti, due per ogni squadra. Vengono assegnati 8 punti al primo, 7 al secondo e così via fino all'ottavo che riceve un punto. Gli altri non hanno punteggio. La squadra C supera di 10 punti la squadra D che ha ottenuto almeno un punto, la squadra E ha ottenuto 2 punti, la squadra F ha ottenuto 3 punti, G ed H non ottengono punteggio. Sapendo che A ha vinto con il punteggio totale di 13 punti, quanti punti ha realizzato la squadra B?

A 9
B 6
C 8

1196) Data la proporzione: x: 120 = 150 : 200, qual è il valore di x?

A 60
B 100
C 90

1197) La percentuale 2,5% equivale al numero decimale:

A 0,25
B 2,50
C 0,025

1198) Una pallina da tennis, dopo ogni rimbalzo sul terreno, raggiunge i 2/5 dell'altezza precedente. Da quale altezza è stata fatta cadere se dopo 4 rimbalzi arriva a 32 centimetri?

A 8,5 metri
B 12,5 metri
C 25 metri

1199) Indicare il termine da scartare:

A Puritano.
B Moralista.
C Disinibito

1200) Il valore di un prodotto finanziario diminuisce del 20% ogni anno. Dopo 3 anni quanto si è svalutato il prodotto rispetto al valore iniziale?

A 51,25%
B 40%
C 59,50%

1201) Relativamente alla sua funzione grammaticale il vocabolo "perché" può essere inserito:

A Nel gruppo formato da: forte - sensato - rosso.
B Nel gruppo formato da: essere, avere, dovere.
C Nel gruppo formato da: sebbene - quando - affinché.

1202) In un condominio vivono 33 famiglie, ognuna delle quali possiede almeno 1 o 2 o 3 biciclette. Sapendo che il numero delle famiglie che possiede 1 bicicletta è uguale al numero delle famiglie che ne possiedono 3, il numero totale di biciclette sono:

A 66
B 15
C 33

1203) Completare la seguente successione numerica: 128; 48; ?; ?; 32; 192; 16

A 96; 72
B 64; 96
C 64; 102

1204) Indicare quali valori devono avere le incognite x e y per completare correttamente la seguente successione: F; 19; S; 25; Q; 31; E; 37; x; y

A x = D; y = 43
B x = C; y = 43
C x = C; y = 40

1205) I proprietari di automobili con la stessa potenza (kW) pagano il medesimo importo di bollo auto, indipendentemente dai chilometri percorsi. Non è giusto che chi percorre solo 1.000 km all'anno paghi quanto chi ne percorre 20.000. Il bollo dovrebbe essere abolito e questa entrata fiscale andrebbe sostituita con un incremento dell'imposta sul carburante. In tal modo, gli automobilisti che percorrono più chilometri pagherebbero di più. Si otterrebbe così non solo un sistema più equo, ma anche un probabile aumento delle entrate fiscali. Quale delle seguenti affermazioni esprime il messaggio principale del brano precedente?

A Il bollo auto andrebbe sostituito con un incremento dell'imposta sul carburante.
B L'aumento dell'imposta sul carburante farebbe in modo che gli automobilisti che percorrono più chilometri paghino di più.
C Tutti dovrebbero continuare a pagare lo stesso importo di bollo auto a parità di kW.

1206) L'espressione Non sono poi così certo che egli abbia omesso di dire la verità" equivale a:"

A ha certamente detto la verità.
B ha certamente mentito.
C potrebbe aver detto la verità.

1207) A rigore di logica quali lettera deve seguire: B; E; H; M ? S ?

A Q; T
B P; V
C R; Z.

1208) Nessun cane è alato. Alcuni animali sono alati. Indicare la conclusione che consegue alle affermazioni: nessun cane è alato" e alcuni animali sono alati".

A alcuni cani sono animali.
B nessun essere alato è un cane.
C alcuni animali non sono cani.

1209) Tre scatole contenenti matite sono chiuse da un coperchio. Su un coperchio è scritto Matite rosse, su un altro è scritto Matite nere e sul terzo è scritto Matite rosse e penne nere. Per un errore, però, nessuno dei coperchi corrisponde al reale contenuto delle scatole. Quante matite è sufficiente estrarre per mettere il coperchio al posto giusto su ogni scatola?

A 1
B 3
C 2

1210) Un pensionato ha passato la sua vita per un quarto da ragazzo, per un ottavo da giovane, per metà al lavoro. Da 9 anni non lavora più. Quanti anni ha adesso?

A 72
B 66
C 74

1211) Chi non rispetta il Codice della strada viene sanzionato amministrativamente. In base a questa affermazione è certamente vero che:

A Il Codice della strada e rispettato da tutti.
B chi viene sanzionato amministrativamente non ha rispettato il Codice della strada.
C chi non viene sanzionato amministrativamente ha rispettato il Codice della strada.

1212) Completare la seguente successione ...,6,18,72,360""

A 2
B 3
C 4

1213) Negli scaffali di una libreria ci sono n libri di matematica e di chimica. Se negli scaffali dove ci sono almeno due libri ce n'è almeno uno di chimica, è vero allora che:

A il numero dei libri di matematica in uno scaffale è sempre inferiore al numero di libri di chimica
B uno scaffale che contiene 3 libri ne ha sempre due di matematica.
C in uno scaffale che contiene 2 libri potrebbero non esserci libri di matematica.

1214) La probabilità che, lanciando due dadi, il prodotto dei numeri usciti sia un multiplo di 5 è:

A 11/36
B 1/4
C 1/3

1215) Se l'affermazione nessun contadino è sereno" è falsa, quale delle seguenti alternative è necessariamente vera?"

A Tutti i contadini sono sereni.
B Nessun contadino è agitato.
C Almeno un contadino è sereno.

1216) Completare la seguente successione: 254, 126, 62 ? 14

A 23.
B 56.
C 30.

1217) Se 3 è B", 12 è "E", 21e'"H", come si scrive "Giocare" usando numeri invece di lettere?"

A 18-24-36-6-0-45-12
B 18-24-33-6-1-45-12
C 18-20 4-36-6-1-45-12

1218) Tra le seguenti parole trovare quella che abbia lo stesso significato sia di abbandono" che di "rimborso"."

A Indennizzo.
B Resa
C Rifusione

1219) Paola è più bassa di Giorgia. Lucia è più alta di Ada. Lucia è più bassa di Giorgia. Chi tra le seguenti è la più bassa?

A Gli elementi forniti dal problema non consentono di stabilirlo con certezza
B Giorgia
C Lucia

1220) Completare la seguente successione: X,7,V,11,T,15,R,19,...,..."'"

A U, 23
B P, 23
C V, 25

1221) Ci sono 6 stati confinanti: A confina con B e con C, C confina anche con D ed E , B confina solamente con A mentre D confina anche con F. Qual è il numero di confini da attraversare per recarsi da B a F?

A 6
B 4
C 5

1222) Se il padre di Luigi è fratello della madre di Ugo, in che rapporto di parentela è Ugo con la madre di Luigi?

A Fratello
B Cugino
C Nipote

1223) Individuare l'abbinamento errato:

A Al Pacino - Il Padrino
B Federico Fellini - I vitelloni
C Steven Spielberg - Jurassic Park

1224) Completa la seguente successione:...,90,79,67,54,40"'"

A 94
B 100
C 90

1225) Qual è il numero il cui quadruplo meno 2 è uguale a 26?

A 30
B 7
C 14

1226) Completa la seguente successione:1-4-4-16-64-..."'"

A 1444
B 1024
C 256

1227) Individuare l'abbinamento errato:

A Enrico IV - Un cavallo, Il mio regno per un cavallo!""
B Giulio Cesare - Il dado è tratto""
C Garibaldi - Obbedisco""

1228) Quanti anagrammi distinti è possibile ottenere con le lettere della parola CASA"?"

A 15
B 12
C 8

1229) Completare la seguente successione: 25-37-46-...-55""

A 52
B 45
C 48

1230) Se ieri era il dopodomani di giovedì, quale giorno sarà l'ieri di dopodomani?

A Lunedì
B Domenica
C Venerdì

1231) Completa la seguente successione:8,18,56,138,..."

A 31
B 23
C 4

1232) Tra le seguenti parole trovare quella che abbia lo stesso significato di insensibile"e "secco":"

A arido
B inerte
C chiuso

1233) completa la seguente successione: 33,17,9,5,..."

A 3
B 2
C 1

1234) Sostituire a ogni lettera una cifra in modo che il risultato della moltiplicazione sia esatto.A8×77=B7CD". Quanto vale la più alta delle cifre inserite?"

A 9
B 8
C 6

1235) Completare la seguente serie numerica: 27 25 64 62 83 ?

A 81
B 34
C 28

1236) Indicare il termine da scartare.

A Ammantare.
B Avvolgere.
C Assommare.

1237) Anteponendo S a T, posizionando V dopo T, interponendo U tra T e V, e facendo precedere R a S si ottiene:

A R - S - T - V - U
B l'ordine alfabetico
C S - R - T - V - U

1238) Qual è il maggiore tra i seguenti numeri?

A 2 elevato alla quarta
B 144/12
C la radice quadrata di 442

1239) Completare correttamente la seguente successione numerica: 60; 95; 52; ?; ?; 78; 112; 147

A 82; 119
B 89; 123
C 86; 121

1240) A una tavolata di 9 commensali quanti bicchieri si incroceranno per un brindisi, se ognuno lo fa con ciascun altro?

A 45
B 40
C 36

1241) In un cestino ci sono cartoncini fogli di carta numerati da 1 a 10, che due persone, A e B, estraggono a turno. Al primo giro A estrae il 9 e B il 2. Al secondo giro A estrae il 7 e B il 5. Se continuano fino al termine dei foglietti, qual è la massima differenza tra il totale dei numeri estratti da B e di quelli estratti da A?

A 6
B 7
C 5

1242) Taumaturgico ha un significato simile a:

A energico
B miracoloso
C cattedratico

1243) Completare la seguente successione: 8 4 16 12 ?

A 48
B 25
C 76

1244) I Celti erano popolazioni appartenenti a un gruppo linguistico di famiglia indoeuropea che, provenienti dall'Asia, nel primo millennio a.C. arrivarono in Europa e si stanziarono nelle regioni danubiane e renane. Il periodo della loro massima diffusione fu tra il VI e il IV secolo avanti Cristo, quando, attraverso la Francia, raggiunsero Spagna e Portogallo e poi le isole britanniche e l'Irlanda, mentre in Italia occuparono la Valle del Po, la Puglia e la Sicilia giungendo infine in Grecia, dove nel 279 a.C. saccheggiarono Delfisi spinsero fino all'Asia Minore. Il termine Celti aveva per gli antichi differenti significati, in quanto queste popolazioni, durante la loro espansione, diedero vita a gruppi etnici differenti tra loro: per i Romani erano i Galli, per i Greci erano i popoli dell'Anatolia. I Celti conoscevano la scrittura, ma ne facevano uso solo a fini pratici per dediche alle divinità, iscrizioni funerarie o per indicare limiti e confini. Tutta la loro conoscenza veniva tramandata oralmente dai druidi, che costituivano la casta preposta a conservare le tradizioni e, oltre che di sacerdoti, avevano funzione di educatori e di giudici. Il termine druido che deriva da dru (completamente) e vid (conoscere) definisce chi ha una conoscenza profonda. Erano infatti esperti in ogni ramo del sapere, conoscevano i segreti della natura, avevano scuole proprie dove poteva accedere chi volesse entrare a far parte della loro categoria". Secondo quanto è riportato nel testo, in quali regioni italiane si stanziarono Celti?"

A La valle del Po, le Alpi e la Sicilia.
B La valle del Po, la Puglia e la Sicilia
C La Sicilia e la Magna Grecia.

1245) Un punto di partenza pratico per la nostra ricerca negli oceani è di chiederci perché il mare è salato. La risposta che in passato veniva data era più o meno questa: il mare diventò salato perché la pioggia e i fiumi costantemente dilavavano le superfici emerse portando piccole quantità di sale dalla terra al mare. Le acque superficiali degli oceani evaporano e poi ricadono sulle terre sotto forma di pioggia, ma il sale, una sostanza non volatile, viene lasciato nel mare dove si accumula. Perciò gli oceani diventano più salati con il passare del tempo. Questa teoria dell'accumulo dei sali, se corretta, dovrebbe consentirci di calcolare l'età degli oceani. Non vi è difficoltà per valutare il loro attuale contenuto salino totale, e se noi ipotizziamo che la quantità annua di sali che la pioggia dilava dal terreno e porta ai fiumi, i quali la convogliano al mare, sia rimasta più o meno immutata nel tempo, una semplice divisione dovrebbe darci la risposta corretta; l'apporto di sale al mare è di circa 540 megaton ogni anno; il volume totale dell'acqua degli oceani è di 1,2 miliardi di chilometri cubici; la salinità media è del 3,4%. Perciò il tempo necessario per raggiungere il presente livello di salinità sarebbe di circa 80 milioni di anni, che dovrebbe essere l'età degli oceani. Tuttavia, questa risposta è apertamente in contrasto con tutta la paleontologia. Recentemente è stato sottolineato che il dilavamento delle rocce e delle terre non è la sola fonte di sali del mare. Noi sappiamo che il magma che sta nel nucleo della Terra a volte si spinge verso la crosta e protrude dai fondali oceanici, i quali di conseguenza si espandono. Tale processo, che è parte del meccanismo che causa la deriva dei continenti, apporta anche sali agli oceani. (J. Lovelock, Gaia. Nuove idee sull'ecologia, Boringhieri) Perché, secondo l'autore del testo, la giustificazione della salinità del mare non può essere attribuita esclusivamente all'accumulo di sali causato dai processi di dilavamento delle terre emerse da parte delle piogge?

A Perché è stato accertato che anche processi geologici su larga scala contribuiscono ad aumentare il contenuto dei sali negli oceani.
B Perché i processi di evaporazione dell'acqua rimuovono anche i sali in essa disciolti.
C Perché i sali sono sostanze non volatili.

1246) È sinonimo di cocchio":"

A carrozza
B cavalcatura
C cavallo

1247) Completare la seguente serie numerica: 52 6 ? 18 13 54

A 26
B 36
C 20

1248) Completare la seguente serie numerica. 29 31 43 ? 57 59

A 56
B 45
C 47

1249) Completare la seguente serie numerica: 41, ?, 78, 41, 17, 78, ?, 17

A 41, 78
B 17, 41
C 78, 41

1250) Indicare il termine che ha significato diverso dagli altri.

A Reintegrare.
B Eliminare.
C Abrogare.

1251) Quali tra i termini proposti completano correttamente la seguente proporzione? Arrendersi : X = arrampicarsi : Y

A X = soccombere; Y = scalare
B X = lottare; Y = cadere
C X = arrangiarsi; Y = scendere

1252) È sinonimo di DISORIENTARE

A confondere
B decidere
C incoraggiare

1253) Qual è l'anagramma della parola STRANO

A stremo
B nostro
C nastro

1254) Il contrario di inclinare" è:"

A raddrizzare
B curvare
C declinare

1255) Quali tra i termini proposti completano correttamente la seguente proporzione? Levigare : X = guadagnare : Y

A X = lisciare; Y = meritare
B X = vincere; Y = perdere
C X = sgrassare; Y = conquistare

1256) Solo se ha messo a letto i bambini, Maria guarda la televisione. In base alla precedente informazione, quale delle seguenti affermazioni è certamente vera?

A A volte, anche se ha messo a letto i bambini, Maria non guarda la televisione
B Maria guarda la televisione solo prima di andare a dormire
C Se Maria guarda la televisione significa che ho messo a letto i bambini

1257) Quale verbo ha attinenza con la parola serra"?"

A coltivare
B comandare
C stringere

1258) Quale tra i termini proposti completa correttamente la seguente proporzione? caotico : X = subdolo : sincero

A X = confuso
B X = ambiguo
C X = ordinato

1259) Se AA, C>B, quale delle seguenti affermazioni è sicuramente vera?

A C>A
B D>B
C D

1260) È contrario di collerico":"

A tranquillo
B irascibile
C rabbioso

1261) Ha significato contrario di contrario di irredento":"

A riscattato
B inaspettato
C sottomesso

1262) Completare la seguente serie numerica: 59 50 43 38 ? ?

A 29, 26
B 35, 32
C 46, 44

1263) Solo se nevica, costruisco un pupazzo di neve. In base alla precedente informazione, quale delle seguenti affermazioni è certamente vera?

A A volte, anche se nevica, non costruisco pupazzi di neve.
B Quando costruisco un pupazzo di neve non è detto che stia nevicando.
C Se costruisco un pupazzo di neve significa che nevica.

1264) La visita ortopedica non ha consentito di dimostrare l'impossibilità che il legamento del ginocchio sia rotto. Qual è il corretto significato della precedente affermazione?

A La visita ortopedica ha dimostrato che il legamento del ginocchio non può essere rotto
B La visita ortopedica ha dimostrato che il legamento del ginocchio è rotto
C La visita ortopedica non ha dimostrato che il legamento del ginocchio non è rotto

---

1265) Se l'affermazione Tutti i mari italiani sono inquinati è falsa, quale delle seguenti proposizioni è necessariamente vera?

A Nessun mare italiano è inquinato.
B Alcuni mari tedeschi sono inquinati.
C Almeno un mare italiano non è inquinato.

1266) Completare la seguente analogia: X : loquace = attuale : Y

A X = garrulo; Y = superato
B X = comunicativo; Y = odierno
C X = conciso; Y = recente

1267) Completare la seguente serie numerica: ? 6 9 ? 15 18

A 4, 12
B 1, 15
C 3, 12

1268) Quali tra i termini proposti completano correttamente la seguente proporzione? Mortificare : X = scolorire : Y

A X = gratificare; Y = sfumare
B X = umiliare; Y = sbiadire
C X = ringraziare; Y = scollare

1269) Indicare la lettera da inserire nella serie: H, G, F, E, ?

A D
B H
C M

1270) Completare la seguente serie numerica: 18 9 ? 20 1 19

A 9
B 18
C 24

1271) Se B = 15, C = 14, ... Z = 0, quanto vale N?

A 7
B 6
C 8

1272) Completare la seguente serie numerica: 1, 2, 5, 10, 17, ?, 37

A 28
B 26
C 27

1273) Completare la seguente serie numerica: 40 51 62 73 ?

A 90
B 92
C 84

1274) Indicare il termine da escludere:

A sparpagliare.
B spargere.
C dissentire.

1275) Se l'affermazione "tutti gli stilisti di alta moda sono antipatici" è falsa, quale delle seguenti proposizioni è necessariamente vera?

A Nessuno stilista di alta moda è simpatico.
B Almeno uno stilista di alta moda non è simpatico.
C Almeno uno stilista di alta moda è simpatico.

1276) Completare la seguente serie numerica: 30, 31, 33, 36, 40, 45, 51, ?, ?

A 59, 68
B 60, 71
C 58, 66

1277) Un illustre critico d'arte ha escluso la possibilità che il quadro non sia opera di van Gogh. In base alla precedente argomentazione:

A non si può dire se quadro è opera di van Gogh.
B il quadro non è stato dipinto da van Gogh.
C il quadro è opera di van Gogh.

1278) Completare la seguente serie numerica: 79, 80, 82 ? 94

A 91
B 88
C 86

1279) Marco ama i dolci; chi è magro non ama i dolci; chi è attivo è magro. Se le precedenti affermazioni sono vere, allora è certamente FALSO che:

A Marco è attivo.
B le persone che amano i dolci non sono magre
C non tutte le persone magre sono attive

1280) Indicare la sillaba che, preposta al primo e aggiunta al secondo gruppo di lettere forma due parole di senso compiuto: -LO; TEM.

A po
B co
C bo

1281) Completare correttamente la seguente successione, utilizzando l'alfabeto italiano: H; 111; L; 93; N; 75; ?; 57; R; ?

A O; 41
B P; 39
C Q; 35

1282) In una fabbrica viene ridotto del 25% il numero degli operai; successivamente, il nuovo numero di dipendenti viene incrementato di un terzo. Come è cambiato globalmente il numero dei dipendenti?

A Non si può stabilire perché non è noto il numero iniziale dei dipendenti
B È rimasto inalterato
C È diminuito di un dodicesimo

1283) Completare correttamente la seguente successione numerica: 8; 17; 15; 13; 22; 9; ?; ?

A 28; 5
B 6; 29
C 29; 5

1284) Indicare il termine da scartare:

A inquinato.
B puro.
C incontaminato.

1285) Se: X + Y - Z = X - Y + Z, Y = 6 allora Z è uguale a:

A 6
B 3
C 2

1286) Completare la seguente successione numerica: 95 ? 69 56 43 ?

A 82, 30
B 42, 81
C 40, 31

1287) Uno studente ha avuto una media di 6 e 1/2 nei primi quattro compiti. Quale voto deve prendere nel quinto per ottenere la media del 7?

A 10
B 8 e 1/2
C 9

1288) Completare la seguente serie numerica: 60; 49; ?; 27; 16

A 38
B 37
C 35

1289) Un frigorifero, in offerta al 35% di sconto, costa 520 euro. Qual è il suo prezzo di listino?

A 760 euro
B 800 euro
C 720 euro

1290) Individuare il numero che completa la serie: 56, 17, 28, 34 ? 68

A 10
B 18
C 14

1291) Individuare il numero che completa la serie: 40, ?, 79, 40, 16, 79, ?, 16

A 40, 79
B 16, 40
C 79, 40

1292) Posti A = {e, i} e B = insieme delle vocali, l'insieme complementare di A rispetto a B è:

A {a, u, o}
B l'insieme delle consonanti
C {e, i}

1293) Individuare il numero che completa la serie: 13 ? 24 48 46

A 26
B 33
C 19

1294) Indicare il termine da scartare.

A Esaminare.
B Disseminare.
C Disputare.

1295) Individuare il numero che completa la serie:142 ? 82 52

A 30
B 112
C 71

1296) Individuare il numero che completa la serie: 3; 7; 15, ?, 63

A 33
B 31
C 21

1297) Delle 12 sfere di metallo contenute in una scatola 4 hanno una massa di 8 grammi ciascuna e 8 hanno una massa di 11 grammi ciascuna. Qual è la massa media delle sfere?

A 14 grammi
B 13 grammi
C 10 grammi

1298) Qual è il numero logicamente mancante nella seguente serie: V, VIII, XI, ____, XVII, XX

A IX
B XII
C XIV

1299) Indicare il termine che non è sinonimo degli altri due:

A mansueto.
B innegabile.
C innocuo.

1300) 71, 72, 70, 72, 73, 71, 73, ?

A 76
B 77
C 74

1301) Il termine arzigogolo" è sinonimo di:"

A cavillo
B orpello
C discorso

1302) Individuare il numero che completa la serie: 4; ?; 27; 135; 142

A 17
B 20
C 5

1303) Il termine sillogismo" indica:"

A un movimento artistico del Novecento
B una figura giuridica
C una argomentazione logica

1304) Individuare il numero che completa la serie: 4 ? 27 135 142

A 10
B 20
C 5

1305) **Al contrario dei sensi della vista e dell'udito, che catturano informazioni indirettamente attraverso onde elettromagnetiche o sonore, l'olfatto e il gusto ricevono informazioni direttamente dal contatto con l'oggetto rilevato (una molecola), portandoci messaggi da una realtà materiale. Entrambi sembrano funzionare tramite principi molto simili. Le molecole che rilevano sono disciolte nella saliva o galleggiano nell'aria e sono raccolte da recettori che si trovano sulla lingua (nel caso del gusto) o nell'epitelio olfattivo all'interno delle narici (nel caso dell'olfatto). La volatilità implica che gran parte delle molecole odorose siano molto piccole e leggere. Il naso non ha un ruolo diretto nell'odorare, eccetto quello di incanalare l'aria verso l'epitelio olfattivo, che è più arretrato. Questo tessuto è piuttosto piccolo, misura solo tre centimetri quadrati (più o meno come un francobollo) negli umani, ed è rivestito di ghiandole che secernono muco e anche di milioni di neuroni olfattivi, un tipo di cellule nervose che stanno all'olfatto come i coni e i bastoncelli sulla retina stanno al senso della vista. La parte frontale del neurone olfattivo è fatta un po'come una scopa, con una testa a forma di spazzola in cui la membrana cellulare si ripiega a formare moltissime ciglia, sottili come capelli. Questa spazzola con le sue ciglia spunta fuori dallo strato cellulare, dove può catturare le molecole odorose che passano. La parte posteriore della cellula è come il manico della scopa; si tratta dell'assone, il nervo che attraversa un piccolo osso sul retro della cavità nasale ed entra nel cervello, dove si collega con una regione chiamata bulbo olfattivo. (da Jim Al-Khalili e Johnjoe McFadden. La fisica della vita, Bollati-Boringhieri). Secondo gli autori del testo, a che cosa può essere paragonata la parte frontale del neurone olfattivo?**

A Ad una scopa in cui la parte anteriore del neurone costituisce una testa a forma di spazzola e l'assone è il manico
B Ad un cono gelato
C Alle ciglia degli occhi

1306) **Completare correttamente la seguente successione di lettere, utilizzando l'alfabeto italiano: G; P; D; R; B; O; ?; ?**

A E; N
B D; M
C M; P

1307) **Indicare in quale delle seguenti alternative viene rispettata la regola di alternanza vocale - consonante"."**

A UVIUEFOMOAPIDICLDIC
B UVIKEFOMOROSAZQPIDIC
C UVIKEFOMOROSAZAPILIC

1308) **Tutte le volte che Anna non arriva in orario al lavoro trova il capoufficio alla sua scrivania. Data la precedente affermazione, quale conclusione è certamente vera?**

A È possibile che Anna non incontri il capoufficio alla scrivania anche quando arriva in ritardo al lavoro.
B Se Anna non incontra il capoufficio alla scrivania allora è arrivata in orario al lavoro.
C Se Anna incontro il capoufficio alla sua scrivania allora non è arrivata in orario al lavoro.

1309) **Indicare il termine da scartare.**

A Inconsistente.
B Insignificante.
C Eccellente.

1310) **In un'enoteca, per evitare grossi furti, dalle ore 18 all'ora di chiusura, quando il locale è molto affollato, se un vino costa più di 50 euro viene riposto nello scaffale dietro la cassa dove lavora il proprietario dell'enoteca. Se le precedenti informazioni sono vere, quale delle seguenti affermazioni è necessariamente corretta?**

A Se un vino che costa 70 euro alla bottiglia, si trova sullo scaffale dietro alla cassa, allora sono passate le 18 e il locale è ancora aperto.
B Tra le 18 e l'ora di chiusura se un prodotto ha un costo compreso tra 80 e 100 euro allora si trova nello scaffale dietro la cassa.
C Sullo scaffale alle spalle del proprietario non è possibile che vi siano prodotti che costano 30 euro.

1311) **Individuare il diagramma che soddisfa la relazione insiemistica esistente tra i termini dati: TELEVISIONI, GIORNALI, EVENTI SPORTIVI**

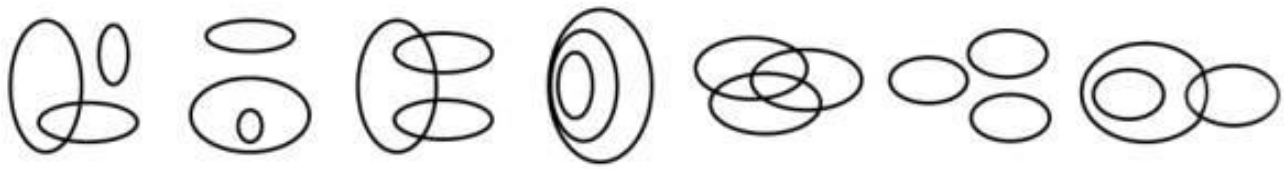

DIAGRAMMA 1 DIAGRAMMA 2 DIAGRAMMA 3 DIAGRAMMA 4 DIAGRAMMA 5 DIAGRAMMA 6 DIAGRAMMA 7

A Diagramma 1
B Diagramma 6
C Diagramma 3

1312) Indicare il termine da escludere:

A preciso
B negligente
C svagato.

1313) Data la sequenza F67FGSTSCFV89DTHS individuare l'alternativa che la riproduce fedelmente se aggiunta di seguito alla seguente: F67FGST

A SCFV89DTHS
B SCTV89DTHS
C 2SCFV89DTHS

1314) Individuare la frase che NON contiene errori.

A Se vincessi alla lotteria mi comprerei una barca
B Hai ragione che, guardato attentamente, quel ragazzo assomiglierebbe proprio a lui
C Sono certo che non l'ho deluso, se gli darei fiducia

1315) Completare la seguente successione numerica: 13; 21; 14; 23; 31; 24; ?

A 17
B 32
C 33

1316) Su una nave da crociera sono imbarcate 400 persone di cui 160 sono donne. Qual è la percentuale di uomini?

A 40%
B 60%
C 30%

1317) Supponiamo di estrarre 3 palline, una alla volta con reinserimento, da una scatola che ne contiene 15 rosse, 10 bianche e 5 nere. Qual è la probabilità di estrarne 1 rossa e 2 nere?

A 1/72
B 5/406
C 5/130

1318) Il capufficio sarà rilassato se e solo se si concederà una vacanza. In base alla precedente affermazione, quale delle seguenti NON è necessariamente vera?

A È necessario che il capufficio si conceda una vacanza per essere rilassato
B Anche se il capufficio si concederà una vacanza, potrà non essere rilassato
C È sufficiente che il capufficio si conceda una vacanza per essere rilassato

---

1319) Silvia è sincera. Tutte le insegnanti sono sincere. Tutte le persone sincere sono oneste. Se le precedenti affermazioni sono vere, quale delle seguenti è necessariamente vera?

A Tutte le persone oneste sono sincere.
B Silva è onesta.
C Silvia è un'insegnante.

1320) Qual è la differenza tra i 2 risultati delle operazioni seguenti? 4614 / 2 e 4610 / 2

A 2
B 0.5
C 1

1321) Tre amici leggono un libro ciascuno rispettivamente ogni sei, otto e nove giorni. Quanto tempo impiegano per leggere complessivamente 29 libri?

A 72 giorni
B 68 giorni
C 76 giorni

1322) Completare correttamente la seguente successione numerica: 20; 18; 22; 21; 24; 24; 26; ?; ?

A 26; 29
B 27; 28
C 28; 26

1323) Quale delle seguenti frasi è logicamente equivalente a: i militari sono sempre alti"?"

A I militari non sono mai bassi
B Le persone basse, a volte, sono militari
C È possibile che esista un militare che non sia alto

1324) Individuare l'alternativa che riporta una successione di elementi in ordine inverso rispetto alla sequenza AKAWAKAWA.

A WAKAWKAWA
B AKAWAKAWA.
C AWAKAWAKA

1325) Solo se conservati nel congelatore, i surgelati non si deteriorano. In base alla precedente affermazione, quale delle seguenti NON è necessariamente vera?

A I surgelati deteriorati non sono stati conservati nel congelatore
B I surgelati non deteriorati sono stati conservati nel congelatore
C Condizione necessaria perché i surgelati non si deteriorino è che vengano conservati nel congelatore

---

1326) Indicare in quale delle seguenti alternative la lettera R è presente un numero maggiore di volte.

A TTRTTGRRTTRTRTR
B TTRRTGRRTTRTRTR
C TRTTRTRRTRTTTGG

1327) Se Giorgio va a passeggiare, allora è contento. Da quale delle seguenti affermazioni può essere logicamente dedotta l'affermazione precedente?

A Nessuno va a passeggiare se non è contento.
B Non ci sono persone contente che passeggiano.
C Tutte le persone contente vanno a passeggiare.

1328) Completare la seguente serie numerica: 1378 88, 67 ? 25, 4

A 20
B 46
C 2

1329) Indicare il termine da escludere:

A minimizzare.
B ridimensionare.
C enfantizzare.

1330) Completare la serie numerica: 23 27 ? 35 39

A 29
B 33
C 31

1331) Tre scatole piene di penne sono chiuse da coperchi. Su un coperchio è scritto penne rosse, su un altro è scritto penne nere e sul terzo è scritto penne rosse e penne nere. Per un errore, però, nessuno dei coperchi corrisponde al reale contenuto delle scatole. Quante penne è sufficiente estrarre per mettere il coperchio al posto giusto su ogni scatola?

A 2
B 3
C 1

1332) Completare correttamente la seguente successione numerica: 1; 3; 6; 10; 15; 21; ?

A 26
B 28
C 27

1333) Indicare l'aggettivo che ha significato opposto agli altri:

A taciturno.
B laconico.
C logorroico.

1334) Completare la seguente serie numerica: ? 31 39 47

A 29
B 25
C 23

1335) Indicare il termine da scartare.

A Silenzioso.
B Tacito.
C Rumoroso.

1336) Completare la seguente serie numerica: 25 ? 34 7 41

A 14
B 9
C 18

1337) Nella cultura occidentale l'interesse per la creatività si risvegliò nell'Ottocento grazie al movimento (1)_____, che esaltò la creatività in generale, ponendola in relazione non soltanto con l'intuizione poetica, ma anche con il tormento interiore e l'inquietudine spirituale e contrapponendola sia alla compostezza classica, sia alla (2) _____ pratica propugnata dai filosofi illuministi. Per lungo tempo questo tipo di concezione della creatività ha lasciato un'impronta su gran parte della cultura europea. Nel frattempo lo sviluppo della scienza e della tecnica, facendo leva sull'idea di (3) _____, mise l'accento sul valore dell'intelligenza innovativa del singolo nel processo dell'invenzione e nella scoperta, sottolineando il ruolo fortemente creativo della razionalità di scienziati e inventori. Reintegrare nel testo le areole omesse.

A (1) politico (2) nazionalità (3) tradizione
B (1) romantico (2) razionalità (3) progresso
C (1) filosofico (2) razionalità (3) potere

1338) Completare la seguente serie numerica: 128 64 16 ? 2

A 10
B 9
C 8

1339) Indicare il termine da scartare:

A sconosciuto.
B illustre.
C insigne.

1340) Indicare le tre lettere che, anteposte a -ORO formano parole di senso compiuto.

A D - R - S
B C - F - T
C G- L - Z

1341) Indicare il termine da scartare.

A Avanzare
B Ritirarsi.
C Retrocedere.

1342) Indicare le lettere che, anteposte a -ENTE formano parole di senso compiuto.

A F - L - N
B D - G - M
C P - R - T

1343) Completare la seguente serie numerica: 53, ?, 66, 53, 21, 66, ?, 21

A 21, 53
B 21, 66
C 66, 53

1344) Indicare le lettere che, anteposte a -OLO formano parole di senso compiuto.

A F - L - Z
B F - R - T
C D -M - V

1345) Indicare il termine da scartare:

A insulso.
B comprensibile.
C intellegibile.

1346) Indicare le lettere che, anteposte a -ASO formano parole di senso compiuto.

A C - R - V
B F - R - T
C F - L - Z

1347) Completare la seguente serie numerica: ? 134 130 127 125

A 139
B 137
C 141

1348) Se ANTRO = 1; CAVERNA= 3; DIRUPO = 4; GROTTA = ?

A 6
B 7
C 4

1349) Completare la seguente serie numerica: 12 17 14 19 ? 21

A 25
B 21
C 16

1350) Indicare le lettere che, anteposte a -ODA formano parole di senso compiuto.

A F - L - Z
B C - M - S
C N - R - T

1351) Indicare il verbo che ha significato diverso dagli altri:

A Aumentare.
B Ridurre.
C Incrementare.

1352) Completare la seguente serie numerica: 25 38 18 ? 11 24

A 31
B 34
C 19

1353) Indicare le lettere che, anteposte a -ETTA formano parole di senso compiuto.

A F - S - V
B B - L - Z
C C - M - P

1354) Indicare il verbo da scartare:

A intasare.
B elogiare.
C ingorgare.

1355) Indicare i gruppi di lettere che, anteposte a -ORIA, formano parole di senso compiuto.

A CR- PR - TR
B GL - SC - ST
C FL - PL - SP

1356) La frazione 90/45 corrisponde a:

A 1.5
B 1
C 2

1357) Completare la serie: 45 36 ? 21 15 ? 6

A 22, 9
B 18; 10
C 21; 10

1358) Indicare le lettere che, anteposte a -ORTO formano parole di senso compiuto.

A F - L - Z
B D - R - V
C C - P - T

1359) Indicare il termine da scartare.

A Raffinato.
B Elegante.
C Grossolano.

1360) Tutti i tifosi la domenica vanno allo stadio. Se la precedente affermazione è vera, allora è necessariamente vero che:

A se Luigi non è un tifoso, non va allo stadio la domenica.
B se Luigi è allo stadio domenica, allora sicuramente è un tifoso.
C anche se Luigi non è un tifoso, può andare allo stadio la domenica.

1361) In un cassetto ci sono 5 sciarpe di cotone e 6 di seta. Quante sciarpe si devono estrarre (a occhi bendati) per esser sicuri di averne estratte tre dello stesso tessuto?

A 4
B 5
C 3

1362) In base all'informazione tutti i grattacieli di Singapore sono molto alti", quale delle seguenti affermazioni è necessariamente vera?"

A I grattacieli di Singapore sono più alti di quelli americani.
B È impossibile negare che a Singapore esista almeno un grattacielo basso.
C Non esistono grattacieli bassi a Singapore.

1363) Quale valore si ottiene dal prodotto fra i 2 risultati delle operazioni seguenti? 660 / 330 e 720 / 360?

A 4
B 8
C 6

1364) Carla, Federica e Maria si sono sfidate in una gara di nuoto. Se Carla ha vinto la gara, Maria è arrivata seconda o Federica è arrivata terza". "Federica non è arrivata terza". "Se Maria non è arrivata seconda, allora Federica non ha vinto la gara". Quale ordine di arrivo è compatibile con le precedenti affermazioni?"

A Carla, Maria, Federica.
B Carla, Federica, Maria.
C Maria, Carla, Federica.

1365) Indicare il termine da scartare.

A Riscuotere.
B Insorgere.
C Intascare.

1366) Quale valore si ottiene dal prodotto fra i 2 risultati delle operazioni seguenti? 820 / 410 e 480 / 240

A 6
B 4
C 8

1367) Cinque treni, A, B, C, D ed E, partono dalla stessa stazione con cinque destinazioni differenti. Si sa che: I) C è più veloce di B ma arriva dopo di questo che è, invece, il primo ad arrivare; II) A è l'ultimo ad arrivare anche se è più veloce di D e meno veloce di B; III) E, il secondo treno ad arrivare a destinazione, è più veloce di D, ma meno veloce di A. In base alle precedenti informazioni il treno ad arrivare è:

A C
B D
C B

1368) Indicare la sillaba che, posposta ai gruppi di lettere, fornisce a ciascuno un significato compiuto: AN..; MEN..; PUN...

A LA
B TO
C MO

1369) Analizzando l'ingaggio di un noto campione di Formula 1 nell'arco di tre anni, si nota che è passato da 600.000 euro nell'Anno 1 a 720.000 euro nell'Anno 2. Nell'Anno 3 il suo contratto prevede un aumento del 15% rispetto all'ingaggio dell'anno precedente. Qual è l'incremento percentuale dell'ingaggio tra l'Anno 1 e l'Anno 3?

A 30%
B 38%
C 20%

1370) Completare la seguente successione numerica: 22; 44; 26; 38; 30; 32; ?; ?

A 36; 28
B 34; 26
C 26; 33

1371) Completare correttamente la seguente successione numerica: 5; 14; 32; 68; 140; 284; ?

A 571
B 576
C 572

1372) Indicare il termine da scartare:

A Flessuoso
B Agile.
C Rigido.

1373) Una frase è stata divisa in 4 parti, che successivamente sono state mescolate e che di seguito sono proposte in ordine casuale: - 1) una più certa e più grande \ 2) se non per prepararne loro \ 3) la gioia dei suoi figli \ 4) Dio non turba mai. Ricomporre correttamente la frase.

A 2;1;3;4;
B 3;4;1;2.
C 4;3;2;1;

1374) Indicare il termine da scartare:

A desideroso.
B benestante.
C ingordo.

1375) Se: 3X + 8 = 5X - 6 allora X è uguale a:

A 1
B 9
C 7

1376) Una frase è stata divisa in 4 parti, che successivamente sono state mescolate e che di seguito sono proposte in ordine casuale: - 1) servire ad altro \ 2) non rivangare \ 3) quello che non può \ 4) che a inquietarti inutilmente. Ricomporre correttamente la frase.

A 2;3;1;4.
B 4;1;2;3.
C 2;4;1;3.

1377) Data la sequenza AWS467SSCIHS78DC0 individuare l'alternativa che la riproduce fedelmente se aggiunta di seguito alla seguente: AWS467S

A SCNHS78DC0
B 6SCIHS78DC0
C SCIHS78DC0

1378) Completare la seguente successione: 44,?,34,29""

A 43
B 39
C 38

1379) L'obiettivo del quesito è quello di individuare la sequenza corretta sulla base di una serie di indizi forniti. Per ogni sequenza errata viene indicato se sono presenti caratteri BP (numero di caratteri corretti nella posizione corretta, ovvero ben piazzati") o MP (numero di caratteri corretti, ma nella posizione sbagliata, ovvero "mal piazzati"). ZYEE: 1 BP / 1 MP ZEKB: 2 BP / 1 MP ZYYB: 1 BP KEEE: 3 BP"

A ZEEK
B ZEEE
C KEEB

1380) Quali tra i termini proposti completano la seguente proporzione? Cuoco: coltello = x : y""

A x = cacciavite; y= bullone
B x = chirurgo; y = bisturi
C x= geometra; y= fiore

1381) Carlo ha percorso i 4/7 del suo tragitto abituale per andare a scuola. Sapendo che ha percorso 120 metri, quanto è lungo l'intero tragitto?

A 210 metri
B 250 metri
C 180 metri

1382) La frazione 41023/10000 corrisponde a:

A 140.23
B 41.032
C 4.1023

1383) Completare la seguente proporzione: 6 : x = 2 : 5

A 45
B 30
C 15

1384) Individuare, tra le alternative proposte, il termine da scartare.

A Roma - Partenone
B Ferrara - Palazzo dei Diamanti
C Micene - Porta dei Leoni

1385) Una frase è stata divisa in 5 parti, che successivamente sono state mescolate e che di seguito sono proposte in ordine casuale: - 1) che riceve acqua da tutte le parti \ 2) perché noi siamo \ 3) e la torna a distribuire \ 4) come il mar \ 5) a tutti i fiumi. Ricomporre correttamente la frase.

A 2;4;1;3;5.
B 1;3;5;4;2.
C 4;5;2;1;3.

1386) La frazione 19/4 corrisponde a:

A 0.475
B 4.75
C 47.5

1387) Una lampada accesa per 2h e 30m consuma energia elettrica per una spesa di euro 18, quale sarà la spesa se la si tiene accesa per 5h e 50m?

A 24
B 42
C 32

1388) Una frase è stata divisa in 5 parti, che successivamente sono state mescolate e che di seguito sono proposte in ordine casuale: - 1) quella cosa troppo frequente nel bene \ 2) per grazia del cielo \ 3) accade talvolta \ 4) divengano un impedimento \ 5) che i fautori più ardenti. icomporre correttamente la frase.

A 2;3;1:5;4.
B 5;3;2;1;4.
C 3;2;5;1;4.

1389) Completare la seguente proporzione: 30 : 15 = 40 : x

A 20
B 40
C 80

1390) Se la ruota di un veicolo compie 7.200 giri all'ora a velocità costante, quanti giri compie in un minuto e mezzo?

A 45
B 360
C 180

1391) Completare la seguente successione: 3,6,9,15,24,? ,63""

A 59
B 39
C 29

1392) Una frase è stata divisa in 5 parti, che successivamente sono state mescolate e che di seguito sono proposte in ordine casuale: - 1) le cose chiare \ 2) a noi tocca \ 3) poi a imbrogliarle \ 4) all'avvocato \ 5) bisogna raccontar. Ricomporre correttamente la frase.

A 2;3;1;4;5.
B 1;5;2;4;3.
C 4;5;1;2;3.

1393) Completare la seguente successione: 2,97,4,89,8,83,14,79, ?, ? ""

A 16.77
B 22.77
C 20.75

1394) Sapendo che Q viene prima di P; 0 viene prima di P; P viene prima di R; O viene prima di Q, quale tra queste affermazioni è corretta?

A La P è a fianco della R.
B L'ordine è alfabetico.
C La P è l'ultima della serie.

1395) Indicare il termine da scartare.

A Afferrare.
B Germogliare.
C Ghermire.

1396) Una frase è stata divisa in 5 parti, che successivamente sono state mescolate e che di seguito sono proposte in ordine casuale: - 1) né delle leggi \ 2) non sono né pazzo né maniaco \ 3) senza curarmi delle convenzioni \ 4) ho deciso di vivere come più mi garba \ 5) so che a quarant'anni. Ricomporre correttamente la frase.

A 4; 1; 3; 2;5.
B 5; 3;1;2;4.
C 2; 5;4;3;1.

1397) Individuare, tra le alternative proposte, il termine da scartare.

A discreto
B invadente
C sfacciato

1398) Una frase è stata divisa in 5 parti, che successivamente sono state mescolate e che di seguito sono proposte in ordine casuale: - 1) che non si è in grado \ 2) trattare alla stregua \ 3) torna comodo \ 4) di pazzi coloro \ 5) di comprendere. Ricomporre correttamente la frase.

A 3;1; 2; 5; 4.
B 2; 5;1; 3; 4.
C 3; 2; 4;1; 5.

1399) Individuare, tra le alternative proposte, il termine da scartare.

A Fisso
B Movibile
C Trasportabile

1400) Non tutti i giornalisti escludono il fatto che i giornali elettronici abbiano evitato la riduzione del numero di lettori. Basandosi sulla precedente affermazione, individuare quale delle seguenti alternative è necessariamente vera?

A Nessun giornalista sostiene che i giornali elettronici abbiano evitato la riduzione del numero di lettori
B Secondo molti giornalisti i lettori stanno diminuendo nonostante lo sviluppo dei giornali elettronici
C Almeno un giornalista ritiene possibile che i giornali elettronici abbiano evitato la riduzione del numero di lettori

1401) Quale dei seguenti termini integra la serie: virtù - farò - così - là.?

A Onore
B Dignità
C Bellezza

1402) Una frase è stata divisa in 5 parti, che successivamente sono state mescolate e che di seguito sono proposte in ordine casuale: - 1) che siamo tutti uomini, tutti destinati, \ 2) il minimo sforzo per capirci a vicenda \ 3) un cielo sconosciuto e che non vogliamo fare \ 4) è terribile pensare \ 5) chi più chi meno, a portare il nostro fardello sotto. Ricomporre correttamente la frase.

A 4;1; 5; 3; 2.
B 1; 2; 5; 3; 4.
C 5; 3;1;4; 2.

1403) completa la seguente successione: 3,5,97,33,21,..."

A 3
B 34
C 74

1404) **In una scuola il 60% degli studenti è di sesso maschile, il 90% è minorenne e il 60% ha i capelli castani. Quale delle seguenti affermazioni è necessariamente vera ?**

A almeno una ragazza ha i capelli castani
B almeno una ragazza è maggiorenne
C almeno un ragazzo minorenne è castano

1405) **Se l'affermazione non tutti i giorni del mese di agosto vado al mare" è vera, allora necessariamente:"**

A luglio generalmente non vado al mare
B non esiste un giorno del mese di agosto in cui non vado al mare
C almeno un giorno del mese di agosto non vado al mare

1406) **Completare la seguente successione:16,64,...,256,400""**

A 154
B 144
C 195

1407) **In una classe di 33 studenti, 18 di essi giocano a calcio, 17 giocano a basket e 4 non praticano nèilcalciomnè il basket. Quanti sono gli studenti che giocano sia a calcio che a basket ?**

A 6
B 1
C nessuno

1408) **Completare la seguente successione : (5,10,13) (12,24,27) (14,...,...)""**

A 38
B 30
C 28.31

1409) **Individuare tra le alternative proposte, il termine da scartare.**

A Ordinario.
B Straordinario.
C Estemporaneo.

1410) **Una frase è stata divisa in 4 parti, che successivamente sono state mescolate e che di seguito sono proposte in ordine casuale: - 1) per un tratto più o meno lungo \ 2) esistono nella vita \ 3) persone che ci accompagnano \ 4) di ognuno di noi. Ricomporre correttamente la frase.**

A 2; 4; 3; 1.
B 4; 1; 3; 2.
C 1; 3; 4; 2.

1411) **Individuare, tra le alternative proposte, il termine da scartare.**

A Bicicletta.
B Automobile.
C Motocicletta.

1412) **I problemi se l'universo abbia avuto inizio nel tempo e se sia limitato nello spazio furono esaminati diffusamente dal filosofo Immanuel Kant nella monumentale Critica della ragion pura, la cui prima edizione uscì nel 1781. Kant chiamò questi problemi "antinomie" (ossia contraddizioni) della pura ragione, convinto com'era che esistessero argomenti altrettanto convincenti a sostegno della tesi che l'universo avesse avuto un inizio nel tempo e dell'antitesi che esso esistesse da sempre. Il suo argomento a favore della tesi era che, se l'universo non avesse avuto un inizio, ci sarebbe stato un periodo di tempo infinito prima di ogni evento, cosa che egli considerava assurda. L'argomento a favore dell'antitesi era che, se l'universo avesse avuto un inizio, ci sarebbe stato un periodo di tempo infinito prima della sua esistenza, cosicché ci si potrebbe chiedere perché mai l'universo avrebbe dovuto avere inizio in un qualsiasi tempo particolare piuttosto che in un altro. In realtà le due argomentazioni, a favore sia della tesi sia dell'antitesi, si innestano sullo stesso ragionamento. Entrambe si fondano sull'assunto inespresso che il tempo continui a ritroso per sempre, tanto nel caso che l'universo fosse o non fosse esistito dall'eternità. [...] Quando la maggior parte delle persone credeva in un universo essenzialmente statico o immutabile, il problema se esso avesse o no avuto un inizio era in realtà una questione di competenza della metafisica o della teologia. Si poteva spiegare altrettanto bene ciò che si osservava sia con la teoria che l'universo esistesse da sempre sia con la teoria alternativa che esso fosse stato messo in movimento in un qualche tempo finito in passato, in modo tale da dare l'impressione che esso esistesse da sempre. (Stephen Hawking, Dal Big Bang ai buchi neri)". Secondo quanto riportato nel brano, quando era dominante l'idea della staticità dell'universo, il problema del suo inizio era indagato:"**

A da metafisica e matematica.
B da metafisica e teologia
C dalla ragione pura

1413) **Una frase è stata divisa in 5 parti, che successivamente sono state mescolate e che di seguito sono proposte in ordine casuale: - 1) perché pensino \ 2) gli altri \ 3) la fatica che ci si dà \ 4) non valgono \ 5) bene di noi. Ricomporre correttamente la frase.**

A 1; 5; 2; 3; 4.
B 4; 3;1; 2; 5.
C 2; 4; 3;1; 5.

1414) **Individuare, tra le alternative proposte, il termine da scartare.**

A Equilibrato
B Scapestrato
C Sfrenato

1415) **Completare correttamente la seguente proporzione.**

A caotico : X = subdolo : sincero
B X = ordinato
C X = confuso

1416) **Individuare, tra le alternative proposte, il termine da scartare.**

A Sapiente
B Ignorante
C Saggio

1417) **Se 11 pagine di un manoscritto equivalgono a 9 pagine stampate, quante pagine manoscritte occorrono per stamparne 162?**

A 198
B 298
C 188

1418) **Individuare, tra le alternative proposte, il termine da scartare.**

A Intrepido
B Pavido
C Coraggioso

1419) **Individuare, tra le alternative proposte, il termine da scartare.**

A Luminoso
B Tetro
C Fosco

1420) **Individuare, tra le alternative proposte, il termine da scartare.**

A Illegale
B Legale
C Illecito

1421) **Un ciclista ha compiuto i 2/3 del suo percorso abituale di allenamento. Sapendo che ha percorso 40 chilometri, quanto è lungo l'intero tragitto?**

A 100 km
B 80 km
C 60 km

1422) **Individuare, tra le alternative proposte, il termine grammaticalmente difforme.**

A violazione
B abietto
C infrazione

1423) **Completare la seguente successione: G8,K12,S20,..."'**

A N8
B F7
C R20

1424) **Individuare, tra le alternative proposte, il termine da scartare.**

A Risaputo
B Notorio
C Segreto

1425) **La tipografia Gutenberg" ha deciso di stampare il nuovo elenco telefonico in caratteri più piccoli per risparmiare carta. Di conseguenza, ora si possono stampare 4 colonne per pagina invece di 3. Ogni colonna contiene, inoltre, il 25% in più di nominativi rispetto al vecchio elenco che aveva 750 pagine. Quante pagine ha il nuovo elenco telefonico?"**

A 300 pagine
B 250 pagine
C 450 pagine

1426) **Individuare, tra le alternative proposte, il termine da scartare.**

A Telegrafico
B Prolisso
C Sintetico

1427) **Completare la seguente successione: 1,15,16,31,...,78""**

A 47
B 40
C 45

1428) **Trasformare in frazione il seguente numero decimale 1,27**

A 127/1000
B 127/10
C 127/100

1429) **Individuare, tra le alternative proposte, il termine da scartare.**

A Impietoso
B Clemente
C Crudele

1430) **Ugo sistema 368 francobolli nell'album in modo che su ogni pag. ve ne siano 23. Quante pagine riempie?**

A 18 pagine
B 14 pagine
C 16 pagine

1431) **Qual è il 39% di 1.250.000?**

A 487500
B 496500
C 497000

1432) **Individuare, tra le alternative proposte, il termine da scartare.**

A Endemico
B Esterno
C Esogeno

1433) **Completare la seguente successione: ? ,6,18,72,360""**

A 2
B 4
C 3

1434) **Alcuni stranieri sono alti. Tutti gli stranieri alti hanno gli occhiali". Quindi:"**

A alcuni stranieri hanno gli occhiali.
B nessuno straniero basso ha gli occhiali.
C tutti gli stranieri hanno gli occhiali.

1435) **Completare la seguente successione: 18,12,39,24,27,..."**

A 32
B 36
C 34

1436) **Completare la seguente serie numerica: 7 13 ? 22 25 27**

A 18
B 15
C 20

1437) Indicare il termine da scartare:

A Infausto.
B Avverso.
C Fortunato.

1438) Un traghetto ha compiuto i 7/8 del suo tragitto. Se ha navigato per 14 chilometri, quanti chilometri è lungo l'intero tragitto?

A 15
B 16
C 56

1439) Claudio ha letto i 6/7 del suo libro preferito. Sapendo che ha letto 150 pagine, di quante pagine è composto il libro?

A 195
B 175
C 140

1440) Quale tra i seguenti numeri è divisibile per 3?

A 770633
B 1694468
C 2999664

1441) Una confezione di una merendina costa euro. 3 ed ha il peso netto di g 30. Calcolare il suo costo al chilogrammo:

A euro. 100
B euro. 10
C euro. 150

1442) A quale numero corrisponde la frazione 1/4?

A 5
B 0.4
C 0.25

1443) Quale tra i seguenti numeri è divisibile per 3?

A 3107428
B 1769338
C 4417749

1444) Qual è il risultato della differenza 0,29 - 0,032?

A 0.258
B 0.322
C -0.03

1445) A quale frazione corrisponde il numero decimale 0,3?

A 3/100
B 3/10
C 0,3/10

1446) 50 decametri corrispondono a:

A 5.000 cm
B 50.000 cm
C 0,050 km

1447) La somma 30 + 90 + 75 è divisibile per il numero:

A 9
B 5
C 6

1448) Quale tra i seguenti numeri è divisibile per 2?

A 236
B 17
C 81

1449) Il prodotto 34 x 17 x 22 x 2 x 10 è divisibile per il numero:

A 9
B 43
C 44

1450) La somma 36 + 144 + 96 è divisibile per il numero:

A 9
B 12
C 5

1451) Quale gruppo alfanumerico è simmetrico come il gruppo MC2P6 (A) 6P2CM?

A YGV1TF5C (A) C5F71VGY
B YGV1TF5C (A) C5FT1VGY
C YGV1TE5C (A) C5FT1VGY

1452) Il 12% di 123.000 equivale a:

A 14760
B 15670
C 4680

1453) Qual è il 14% di 138.000?

A 19300
B 19320
C 19334

1454) Quale tra i seguenti numeri è divisibile per 3?

A 19766
B 25223
C 25647

1455) Indicare il termine che grammaticalmente non è affine agli altri.

A Disordinato.
B Negligente.
C Precisione.

1456) Quale tra i seguenti numeri è divisibile per 3?

A 187062
B 257438
C 255367

1457) 72 vasi acquistati per euro 5, 00 cadauno vengono rivenduti a euro 11, 00 cadauno. Durante il trasporto se ne rompono 18. Quant'è il guadagno?

A 234
B 230
C 222

1458) Quale tra i seguenti è un multiplo del numero 9?

A 288
B 286
C 283

1459) Quale tra i seguenti è un multiplo del numero 5?

A 310
B 316
C 324

1460) Quale tra i seguenti numeri è divisibile per 3?

A 1962
B 2563
C 2624

1461) Qual è il 5% di 172000.

A 163000
B 8500
C 8600

1462) Quale tra i seguenti numeri è divisibile per 3?

A 3376
B 13538
C 1569

1463) Trasformare in numero decimale limitato la frazione 98/100

A 9.8
B 0.009
C 0.98

1464) Indicare il termine che grammaticalmente non è affine agli altri.

A Ammissibile.
B Accettabile.
C Affiliare.

1465) Indicare il termine che grammaticalmente non è affine agli altri.

A Limitato
B Lealtà.
C Fedeltà.

1466) La somma 18 + 72 + 48 è divisibile per il numero:

A 9
B 5
C 6

1467) In una proporzione gli estremi sono 3 e 10 e i medi 6 e 5. Come va scritta la proporzione?

A 3 : 5 = 6 : 10
B 5 : 3 = 10 : 6
C 3 : 6 = 5 : 10

1468) Arrotondando al decimo il numero 5,642 si ottiene:

A 5.6
B 5.64
C 5.7

1469) La somma delle frazioni 3/2 + 2/5 è uguale a:

A 19/10
B 32/25
C 8/5

1470) 4/5 + 1/3 è uguale a:

A 3/7
B 17/15
C 5/8

1471) La somma di 3/4 e 2/5 è pari a:

A 5/9
B 5/20
C 23/20

1472) Quanto vale la somma 5/9 + 1/2?

A 19/18
B 91/52
C 6/11

1473) Indicare il termine che grammaticalmente non è affine agli altri.

A Abulico.
B Inerte.
C Inedia.

1474) Quale verbo ha significato simile ad aizzare"?"

A Fomentare
B Strillare
C Scoraggiare

1475) Ricomporre correttamente la frase che è stata divisa in 5 parti, mescolate e proposte in ordine casuale: - 1) che uno può accendere quando vuole \ 2) obbligare gli altri a vedere \ 3) il raziocinio è un lume \ 4) e può soffiarci sopra \ 5) quando non vuole più vedere lui.

A 5;3;1;4;2.
B 2;5;1;4;3.
C 3;1;2;4;5.

1476) Trasformare in frazione il seguente numero misto: 4 + 4/13

A 50/12
B 8/13
C 56/13

1477) La somma di 2/3 + 3/4 è uguale a:

A 23/34
B 3/8
C 17/12

1478) Una moto da cross ha percorso i 6/7 di un certo tragitto. Sapendo che ha percorso 36 chilometri, quanto è lungo l'intero tragitto?

A 42 chilometri
B 36 chilometri
C 54 chilometri

1479) Gli antichi vivevano con gli animali un rapporto stretto. Ne notavano le straordinarie somiglianze con gli umani, ma anche le grandi differenze. Ammiravano i loro poteri perfetti e misteriosi, considerandoli manifestazioni divine. Questa vicinanza li ha portati a identificare ogni animale con una qualità morale: come modelli da imitare o da evitare. Il serpente era la più astuta di tutte le bestie selvatiche fatte dal Signore, dice il libro biblico della Genesi, raccontando poi di come il rettile riuscì, con parole suadenti, a far cadere Adamo ed Eva nel peccato originale. Gli animali, infatti, sono perfetti come modelli perché il loro comportamento è prevedibile: il leone è coraggioso, il cervo codardo e così via. Possiamo identificare noi stessi o gli altri attraverso un animale: così sono nati i totem. Poi le loro caratteristiche divine hanno ceduto il passo ad altre più prosaiche. Nelle favole del greco Esopo (VI secolo a. C.: "La volpe e l'uva", "La cicala e la formica") e in quelle latine di Fedro (I secolo a. C.: "Il lupo e l'agnello", "La volpe e il corvo") gli animali sono la personificazione di sentimenti o caratteri umani. Da queste favole sono nati gli stereotipi (non sempre veritieri) sugli animali: la volpe è furba, la lepre è sventata e la tartaruga saggia. E il lupo sarà per sempre cattivo (vedi "Cappuccetto rosso" e" I tre porcellini") per motivi reali: le sue incursioni nelle fattorie. (Da: M. Ferrari, "Focus")". Secondo l'autore del brano gli animali sono modelli perfetti perché:"

A si comportano in maniera prevedibile.
B ognuno può essere identificato con una qualità morale.
C impersonano divinità.

1480) Un elicottero ha percorso i 3/5 del proprio tragitto. Sapendo che ha volato per 21 chilometri, quanto è lungo l'intero percorso?

A 35 km
B 26 km
C 27 km

1481) Quale dei seguenti numeri rappresenta il corretto arrotondamento al millesimo di 285,3324?

A 285.333
B 285.332
C 285.3

1482) Un traghetto ha compiuto i 7/8 del suo tragitto. Se ha navigato per 14 chilometri, quanti chilometri è lungo l'intero tragitto?

A 56
B 16
C 40

1483) Quale delle seguenti è una frazione decimale?

A 7/100
B 10/7
C 100/7

1484) **Arturo ha percorso i 5/8 del suo tragitto abituale per andare al lavoro. Sapendo che ha percorso 400 metri, quanto è lungo l'intero tragitto?**

A 640 metri
B 850 metri
C 500 metri

1485) **Data l'equazione 7x + 10 = 2x, quale valore può assumere x per soddisfare l'equazione?**

A -4
B -1
C -2

1486) **Si considerino le seguenti affermazioni: Rongfeldt non si trova più a nord di Sgybo Sgybo si trova più a sud di Rongfeldt. Sgybo si trova a nord almeno quanto Rongfeldt". Che cosa si evince da queste tre affermazioni?"**

A Tutte e tre sono logicamente equivalenti
B La prima è logicamente equivalente alla terza, ma non alla seconda
C La seconda è logicamente equivalente alla terza, ma non alla prima

1487) **Completare la seguente successione : (5,10,13) (12,24,27) (14,...,...)""**

A 30
B 28.31
C 38

1488) **Trasformare in numero decimale la frazione 10/8**

A 1.25
B 0.8
C 12.5

1489) **L'equazione: x - 3 = - x + 1 ha come soluzione:**

A x = 3
B x = 2
C x = 1

1490) **2/3 + 1/6 è uguale a:**

A 7/6
B 21/36
C 5/6

1491) **Trasformare in frazione il seguente numero decimale 0,107**

A 1,07/100
B 107/10000
C 107/1000

1492) **Individuare, tra le alternative proposte, il termine da scartare.**

A Triste
B Malinconico
C Gaudioso

1493) **Completare la seguente successione: ? ,6,18,72,360""**

A 3
B 4
C 2

1494) **Completa la seguente successione: 18,12, 39, 24, 27, ? ""**

A 34
B 36
C 32

1495) **Completare la seguente successione: 1,15,16, 31, ?, 78""**

A 47
B 40
C 45

1496) **Completare la seguente successione:16, 64, ?, 256, 400""**

A 144
B 195
C 154

1497) **Completa la seguente successione: G8,K12,S20,...""**

A N8
B F7
C R20

1498) **Completare la seguente successione: 2,97,4,89,8,83,14,79,? ,? ""**

A 20.75
B 16.77
C 22.77

1499) **Quale tra i termini proposti completa correttamente la proporzione seguente ? Sud ovest sta a nord come nord ovest sta a ?**

A est
B sud
C nord est

1500) **Completa la seguente successione: 44, ? , 34, 29""**

A 43
B 39
C 38

1501) **Data l'equazione 13x + 16 = 5x, qual è il valore di x?**

A -1
B -2
C -3

1502) **Trasformare in frazione il seguente numero decimale 1,04**

A 26/25
B 104/10
C 104/1000

1503) **Indicare il termine che grammaticalmente non è affine agli altri.**

A infrazione.
B Violazione.
C Infrangere.

1504) **Un aereo ha percorso i 2/3 del suo tragitto. Se ha percorso 1.200 chilometri, quanti chilometri è lungo l'intero tragitto?**

A 1800
B 3600
C 2400

1505) **Quanto vale la somma 1/2 + 1/6?**

A 2/3
B 11/26
C 2/8

1506) **Qual è la differenza fra i numeri 2,96 e 0,017?**

A 2.943
B 2.942
C 2.944

1507) **Nell'equazione: 2x - 6 = 0, X è uguale a:**

A -2
B 3
C 6

1508) **Quale delle seguenti è una frazione decimale?**

A 7,3/6,5
B 3/10
C 5/8,9

1509) **Per Delacroix, capo riconosciuto della scuola romantica, la storia non è esempio o guida dell'agire umano, è un dramma che è cominciato con l'umanità e dura nel presente. La storia contemporanea è lotta politica per la libertà. "La libertà guida il popolo" è il primo quadro politico nella storia della pittura moderna: esalta l'insurrezione che, nel luglio del 1830, ha posto fine al terrore bianco della restaurata monarchia borbonica. Nel quadro che esalta le giornate di luglio c'è un entusiasmo sincero e un significato politico ambiguo. Per Delacroix e in genere per i romantici libertà è indipendenza nazionale. Nella vasta tela del 1830 la donna che sventola il tricolore sulle barricate è, allo stesso tempo, la Libertà e la Francia. E chi combatte per la libertà? Popolani e intellettuali borghesi: nel nome della Libertà-Patria si suggella la "union sacrée" dei popolani scamiciati e dei borghesi in cilindro. Non è un quadro storico: non rappresenta un fatto o una situazione. Non è un quadro allegorico: di allegorico non c'è che la figura della Libertà-Patria. È un quadro realistico, che culmina con una tirata retorica. Persino la figura allegorica è un misto di realismo e retorica: una figura "ideale" che, per l'occasione, s'è vestita con gli stracci della popolana e, invece della simbolica spada, impugna un fucile d'ordinanza. Nelle note realistiche si scende alla caratterizzazione sociale delle figure per dimostrare che ragazzi, giovani, adulti, operai, contadini, intellettuali, soldati legittimisti e soldati ribelli, tutti sono popolo e tutti affratella il tricolore. È proprio con il romanticismo di Delacroix che l'arte comincia a proporsi di essere, a tutti i costi, del proprio tempo. (G. C. Argan, L'arte moderna 1770/1970)". Come è definito il quadro di Delacroix?"**

A Realistico
B Globalmente retorico
C Allegorico

1510) **Tutti gli Italiani sono amanti della buon tavola. Nessun amante della buona tavola è un maleducato Quindi:**

A tutti gli amanti della buona tavola sono italiani.
B nessun italiano è maleducato.
C qualche persona maleducata è un italiano.

1511) **Qual è il termine da scartare?**

A Plumbeo.
B Grigio.
C Roseo.

1512) **Qual è il termine da scartare?**

A Lenire.
B Esacerbare.
C Placare.

1513) **Non è un sinonimo di cospicuo":"**

A copioso
B scarso
C abbondante

1514) **Tutti gli studenti di ingegneria hanno frequentato il liceo scientifico. Quale delle seguenti condizioni è necessario si verifichi affinché l'affermazione risulti FALSA?**

A Nessuno studente di ingegneria deve aver frequentato il liceo scientifico
B Almeno uno studente ha frequentato il liceo scientifico ma non è iscritto a ingegneria
C Almeno uno studente di ingegneria non ha frequentato il liceo scientifico

1515) **Individuare la riga che contiene il minor numero di lettere U.**

A VVVVUVVUVVVVVVV
B VVVVVUUVVVVVVVV
C VVVVVVVUVVVVVVVV

1516) **Completare la seguente successione, utilizzando l'alfabeto italiano: F; 80; S; 68; G; 56; T; 44; ?; ?**

A F; 68
B H; 32
C F; 32

1517) **Se in una certa zona la piovosità media è di 360 millimetri all'anno, quanto piove mediamente in un anno e mezzo?**

A 840 millimetri.
B 540 millimetri.
C 720 millimetri.

1518) **La somma 30 + 90 + 75 è divisibile per il numero:**

A 7
B 5
C 6

1519) Qual è il contrario di allietare"?"

A Affliggere
B Alimentare
C Alludere

1520) È un sinonimo di incaricato":"

A appesantito
B sovraccarico
C addetto

1521) È sinonimo di accattonaggio":"

A mendicità
B ricettazione
C stoccaggio

1522) Quale verbo è il sinonimo di acclamare"?"

A Adempiere
B Arringare
C Applaudire

1523) Quali tra i termini proposti completano correttamente la seguente proporzione? Esecrabile : X = deplorevole: Y

A X = antico; Y = moderno
B X = vetusto; Y = antiquato
C X = razionale; Y = incoerente

1524) Qual è il contrario di virulento"?"

A Incorrotto
B Blando
C Irreprensibile

1525) Un treno, che viaggia a velocità costante, percorre 30 km in mezz'ora. In quanto tempo percorrerà 210 km?

A 3 ore e mezza
B 7 ore
C 5 ore e mezza

1526) L'aggettivo autoctono" è sinonimo di:"

A etnico
B straniero
C indigeno

1527) Quale dei seguenti è un sinonimo di addensarsi"?"

A Rarefarsi
B Inclinarsi
C Infittirsi

1528) Non è errato non negare la non-esistenza del destino. Quale tra le seguenti proposizioni ha significato equivalente alla precedente?

A è corretto affermare l'esistenza del destino.
B è corretto negare l'esistenza del destino.
C Il destino esiste.

1529) Un viaggiatore deve spostarsi da A a B facendo una sola sosta. Percorre la prima parte del viaggio in 2 ore con una velocità media di 70 km/h e la seconda parte del viaggio in 3 ore e 30 minuti con una velocità media di 90 km/h. Quanto dista A da B?

A 475 km
B 455 km
C 435 km

1530) Nel passaggio da stato liquido a stato solido il volume di una massa di acqua aumenta di 1/11. Di quanto diminuisce il volume della stessa massa di ghiaccio nel passaggio da stato solido a stato liquido?

A 1/10
B 1/11
C 1/12

1531) Qual è il sinonimo di rancoroso"?"

A Livoroso
B Famelico
C Ansimante

1532) Individuare la riga che contiene il maggior numero di lettere K.

A QRKAQRAQRADA
B QRADHQWADRA
C ADKFKOFDAKAD

1533) Individuare la riga che contiene il minor numero di Q.

A ASDFGQAQDFP
B ASQFGQASDQP
C ASDFGQASDFP

1534) In un periodo di crisi a l'utile X della ditta Delta diminuisce del 40%. Trascorso il periodo di difficoltà, la ditta Delta registra un aumento del proprio utile del 40%. Si può concludere che l'utile finale Y è:

A uguale a X
B minore di X
C maggiore di X

1535) Tre amici leggono un libro ciascuno rispettivamente ogni sei, otto e nove giorni. Quanto tempo impiegano per leggere complessivamente 29 libri?

A 72 giorni
B 144 giorni
C 60 giorni

1536) Individuare l'alternativa che riporta una successione di elementi in ordine inverso rispetto alla sequenza WAHKWAHKWAHK KHAWKHAWKHAW

A KHAWKHAWKHAW
B KHWAKHAWKAHW
C KAHWKAHWKHAW

1537) La differenza tra i 2 risultati delle operazioni seguenti? 4614 / 2 e 4610 / 2 è:

A 4
B 0.5
C 2

1538) Se il tasso di inflazione scende sotto il 2%, allora il governatore della Banca Centrale europea abbassa il Tasso Ufficiale di Sconto. Se l'argomentazione precedente è vera, quale delle seguenti è certamente vera?

A Se il governatore della Banca Centrale europea alza il Tasso Ufficiale di Sconto, allora il tasso di inflazione sale
B Se il tasso di inflazione resta al 2%, allora il governatore della Banca Centrale europea non modifica il Tasso Ufficiale di Sconto
C Se il governatore della Banca Centrale europea non ha abbassato il Tasso Ufficiale di Sconto, vuol dire che il tasso di inflazione non è sceso sotto il 2%

1539) Cinque misurini di una sostanza pesano complessivamente 100 gr, mentre un solo misurino di una seconda sostanza pesa 25 g. Se le due sostanze vengono mescolate in rapporto 2|1, quanti grammi pesa un misurino di miscela?

A 21
B 23.33
C 21.66

1540) Individuare, tra le alternative proposte, il termine da scartare.

A Motocicletta
B Automobile
C Autocarro

1541) Individuare, tra le alternative proposte, il termine da scartare.

A Florido
B Arido
C Fertile

1542) Individuare, tra le alternative proposte, il termine da scartare.

A Flessibile
B Arrendevole
C Ostinato

1543) Individuare, tra le alternative proposte, il termine da scartare.

A Ampio
B Spazioso
C Angusto

1544) Il laboratorio teatrale è il luogo in cui si tende a stimolare:

A la comunicazione non verbale
B il contatto fisico
C il silenzio

1545) Quali tra i termini proposti completano la seguente proporzione ? Cuoco : mestolo = x : y""

A X = forbici; cucina.
B X = sarto; y = ago
C X = geometra; y = fiore

1546) Completare correttamente la seguente proporzione. Impudente : X = impraticabile : agibile

A X = discreto
B X = aspro
C X = inalterabile

1547) Quale delle seguenti frasi non contiene errori ortografici?

A Oggi grazie alla scienza sono state debellate molte malattie.
B Oggi grazie alla scienza sono state debelate molte malatie.
C Oggi grazie alla scienza sono state debelate molte malattie.

1548) Quale delle seguenti frasi non contiene errori ortografici?

A Tutta la zona era controlata dalla Polizia fin dalle prime ore del mattino
B Tutta la zona era controllata dalla Polizia fin dalle prime ore del mattino.
C Tutta la zona era controllata dalla Polizzia fin dalle prime ore del mattino.

1549) Se e solo se c'è lo sciopero dei mezzi pubblici, Luigi prende l'automobile. In base alla precedente informazione, quale delle seguenti affermazioni è certamente vera?

A Quando Luigi prende l'automobile non è detto che ci sia sciopero dei mezzi pubblici
B Se Luigi prende l'automobile significa che c'è lo sciopero dei mezzi pubblici
C A volte, anche se c'è sciopero dei mezzi pubblici, Luigi non prende l'automobile

1550) Quale dei seguenti termini è sinonimo di abrogare"?"

A rimpiazzare
B invalidare
C sostituire

1551) Quale dei seguenti sostantivi non ha lo stesso significato degli altri?

A Debolezza
B Tracotanza
C Arroganza

1552) Se tutti i fotografi di moda sono molto noti, quale delle seguenti affermazioni è necessariamente vera?

A È impossibile negare che esista almeno un fotografo di moda poco noto.
B Non esistono fotografi di moda poco noti.
C Non esistono fotografi più famosi di quelli di moda.

1553) Se l'affermazione tutte le spiagge italiane sono sabbiose è falsa, quale delle seguenti proposizioni è necessariamente vera?

A Almeno una spiaggia italiana non è sabbiosa.
B Nessuna spiaggia italiana è sabbiosa.
C Almeno una spiaggia italiana è sabbiosa.

1554) Individuare il termine che completa logicamente la proporzione: luna : fuga = pero sta a ?

A pera
B lupo
C melo

1555) Quale tra i termini proposti completa correttamente la seguente proporzione?

A X = difficile
B X = rilassato
C contratto : X = controverso : indiscusso

1556) Individuare il termine da scartare.

A Maestoso.
B Modesto.
C Imponente.

1557) Quale delle seguenti parole non ha significato contrario rispetto alle altre?

A Ponderato
B Oculato
C Avventato

1558) Quale tra i termini proposti completa correttamente la seguente proporzione? Basilico : pianta = quarzo : X

A X = metallo
B X = pietra
C X = frutto

1559) Completare la successione: 3 , ? ,1 8, 72, 360"."

A 2
B 6
C 4

1560) Completare correttamente la seguente proporzione: Sgarbato : X = scrupoloso : superficiale

A X = serio
B X = insolente
C X = cortese

1561) Completare correttamente la seguente proporzione: Biologo : microscopio = X : Y

A X = marinaio; Y = bussola
B X = meccanico; Y = dogana
C X = televisore; Y = telecomando

1562) Quale termine ha attinenza con la parola suora"?"

A Badessa
B Abate
C Priore

1563) Quale termine ha attinenza con la parola vitalizio"?"

A Rendita
B Contratto
C Vizio

1564) Quali tra i termini proposti completano correttamente la seguente proporzione? Otturare : X = dissipare : Y

A X = sgorgare; Y = logorare
B X = chiudere; Y = disperdere
C X = ottundere; Y = risolvere

1565) Quali tra i termini proposti completano correttamente la seguente proporzione?

A X = ginnasta; Y = parallele
B iclista : bicicletta = X : Y
C X = autista; Y = passeggero

1566) Se l'affermazione "Tutti i brani jazz hanno ritmo" è FALSA, quale delle seguenti proposizioni è necessariamente vera?

A Almeno un brano jazz ha ritmo.
B Almeno un brano jazz non ha ritmo.
C Alcuni brani jazz hanno ritmo.

1567) Gli anagrammi delle seguenti parole derivano dai nomi di fiumi europei, eccetto uno: quale?

A NERO
B LIMANO
C MITIGA

1568) Quale delle seguenti parole non ha lo stesso significato delle altre?

A Recondito
B Segreto
C Manifesto

1569) Completare correttamente la seguente proporzione. Imbianchino : pennellessa = X : Y

A X = stampante; Y = elaboratore
B X = erborista; Y = cliente
C X = tipografo; Y = stampatrice

1570) Completare la seguente analogia: X : allegria = codardia : Y

A X = tristezza; Y = coraggio
B X = gioia; Y = ignavia
C X = collera; Y = ira

1571) Completare correttamente la seguente proporzione: Elena : Iliade = X : Y

A X = Jacopo Ortis; Y = Il giovane Werther
B X = Penelope; Y = Odissea
C X = Italo Svevo; Y = La coscienza di Zeno

1572) Completare la seguente proporzione: largo : stretto = X : Y.

A X = bianco; Y = rosso
B X = basso; Y = alto
C X = forte; Y = grande

1573) Se e solo se il gatto mangia, vado a comprare altri croccantini. In base alla precedente informazione, quale delle seguenti affermazioni è certamente vera?

A Quando compro altri croccantini non è detto che il gatto abbia mangiato.
B Ogni tanto vado a comprare altri croccantini per non trovare la dispensa vuota.
C Se vado a comprare altri croccantini significa che il gatto mangia.

1574) Completare la seguente successione: 120, 116, 112, 108, ...9 27 ? 125 1 1

A 5
B 13
C 25

1575) Completare la seguente successione: 8 10 ? 32 96

A 30
B 35
C 15

1576) Completare la seguente successione: 500 ? 200 100 50

A 100
B 250
C 200

1577) Completare la seguente successione: 6 3 9 6 18 ?

A 17
B 15
C 16

1578) I due terzi degli avvistamenti di UFO sono attribuibili ad aeroplani e tre quarti della rimanenza sono attribuibili a palloni meteorologici. Se in un anno vi sono stati 108 avvistamenti di UFO, quanti di questi non sono attribuibili né ad aeroplani, né a palloni meteorologici?

A 24 avvistamenti
B 9 avvistamenti
C 11 avvistamenti

1579) Un camion ha percorso i 3/5 del suo tragitto abituale. Sapendo che ha percorso 12 chilometri, quanto è lungo l'intero tragitto?

A 20 chilometri
B 30 chilometri
C 25 chilometri

1580) Completare la seguente successione: 9; 45; 13; ? ; 2; 10

A 19
B 27
C 65

1581) Completare la seguente successione: 4; 10; 14; ?; 24; ?

A 16; 22
B 20; 30
C 18; 21

1582) Individuare la corretta negazione della seguente proposizione: Nessun mammifero depone le uova"."

A Qualche mammifero non depone le uova.
B Tutti i mammiferi depongono le uova.
C Qualche mammifero depone le uova.

1583) Quale tra i termini proposti completa correttamente la seguente proporzione? Urgente : X = sbadato : accorto

A X = differibile
B X = insensibile
C X = frenetico

1584) Se e solo se piove, indosso l'impermeabile. In base alla precedente informazione, quale delle seguenti affermazioni è certamente vera?

A A volte, anche se piove, non indosso l'impermeabile.
B Se indosso l'impermeabile significa che piove.
C Quando indosso l'impermeabile non sempre piove.

1585) Qual è la differenza fra i numeri 1,98 e 0,059?

A 1.922
B 1.29
C 1.921

1586) Un impiegato ha ottenuto un aumento pari a 1/13 del suo stipendio. Sapendo che l'aumento è di 200 euro, a quanto ammontava lo stipendio?

A 2.600 euro
B 2.000 euro
C 1.300 euro

1587) Completare la seguente successione: 4 ? 2 14 28 1

A 5
B 7
C 2

1588) Completare la seguente successione: 36 45 55 66 ?

A 78
B 75
C 74

1589) Completare la seguente successione: 12 36 ? 324

A 88
B 201
C 108

1590) Completare la seguente successione: T2Z - 3S4. TS4 - ? . SZ3 - 24T

A 32Z
B 24Z
C 23T

1591) Se la sequenza prevede la successione di consonante vocale consonante", quale gruppo di lettere è corretto?"

A POCCUJNASIOKOLU
B RETPIGBILCAWQU
C QESRADAJJIQOHOL

1592) Se la sequenza è "dispari pari dispari", quale gruppo di numeri è corretto?

A 741123567589412658745325541845
B 987741123369945143147965127745
C 547543521749583215418749 54962

1593) Qual è la negazione logica dell'affermazione "Ogni numero pari è la somma di due numeri primi"?

A Esistono alcuni numeri primi aventi somma pari
B Non tutte le somme di due numeri primi sono pari
C Esiste almeno un numero pari che non si possa esprimere come somma di due numeri primi

1594) In quale, tra le seguenti sequenze di lettere, è presente, almeno una volta, la stringa alfabetica KKAJAUH"?"

A JASBKDSDSAJBDSLASANDBKSAJBKJS
B BZSDKSJBADSDNSKNCJASBKADKLDS
C NAMSBASSDBLANMKKAJAUHDNASKJ

1595) Tutti i corridori sono persone determinate. Giovanni è un neolaureato. I neolaureati sono persone determinate. In base alle precedenti affermazioni, quale delle seguenti è necessariamente vera?

A Giovanni è un corridore determinato .
B Giovanni è una persona determinata.
C Giovanni è un corridore.

1596) Completare la seguente successione: 49, ?, 67, 76, 85

A 59
B 60
C 58

1597) Luisa non ha sorelle. Chi è la sorella del figlio del nonno materno della figlia di Luisa?

A cugina di Luisa
B mamma di Luisa
C Luisa

1598) Individuare la corretta negazione della seguente proposizione: Tutti i felini sono carnivori""

A Tutti i felini non sono carnivori.
B Almeno un felino non è carnivoro.
C Qualche felino è carnivoro.

1599) Completare correttamente la seguente successione, utilizzando l'alfabeto italiano: Q; 38; S; 35; V; 33; A; 30; ?; ?

A D; 28
B D; 27
C C; 27

1600) Una lattina piena di una bibita pesa 500 grammi. Sapendo che la lattina rappresenta il 4% del peso lordo, qual è il peso della bibita?

A 20 grammi
B 480 grammi
C 460 grammi

1601) Solo se vado in bici a scuola, arrivo in orario. Se la precedente affermazione è vera, allora è possibile dedurre che:

A Arrivo in orario anche se vado in autobus a scuola.
B Se non vado in bici a scuola allora non arrivo in orario.
C Se arrivo a scuola in orario, allora non sono andato in bici.

1602) Completare la seguente successione: 7 47 70 45 ? 43

A 700
B 600
C 670

1603) Completare la seguente successione: 1250; 250; ?; 10 2

A 50
B 70
C 60

1604) Completare la seguente successione: 24; 27; 31; ?; 42 ?

A 33; 47
B 35; 39
C 36; 49

1605) Il supermercato frequentato da Martina e Giorgio offre un gadget per ogni 30 euro di spesa. Sapendo che in totale i gadget offerti sono 24, che a Giorgio manca il doppio dei gadget rispetto a Martina per completare la collezione, e che Martina ha 4 gadget più di Giorgio, quanti gadget ha Martina?

A 20
B 22
C 18

1606) Indicare il termine da scartare.

A Fecondo
B Improduttivo
C Prolifico.

1607) Giulio ha in programma di svolgere 30 diverse commissioni. Sapendo che a mezzogiorno ha già svolto 8 incarichi, che percentuale di commissioni gli resta ancora da fare?

A 78%
B 65,30%
C 73,40%

1608) I supporti moderni sembrano mirare più alla diffusione dell'informazione che alla sua (1) _____. Il libro invece è stato strumento principe della diffusione (si pensi al ruolo che ha avuto la Bibbia a stampa per la riforma protestante) ma al tempo stesso anche della conservazione. È possibile che tra qualche secolo l'unico modo per avere notizie sul passato, smagnetizzatisi tutti i supporti elettronici, sia ancora un bell'(2)_____. E, fra i libri moderni, sopravviveranno i molti fatti in carta pregiata, o quelli che ora vengono proposti da molti editori in 'free acid paper'. Non sono un passatista. Su un (3) _____ portatile da 250 giga ho registrato i massimi capolavori della letteratura universale e della storia della filosofia: è molto più comodo ricuperare da lì in pochi secondi una citazione da Dante o dalla 'Summa Theologica'che non alzarsi e andare a prelevare un volume pesante da scaffali troppo alti. Ma sono lieto che quei libri rimangano nei miei scaffali, garanzia di memoria per quando gli strumenti elettronici andranno in tilt. (U. Eco, Sulla labilità dei supporti, "Il Sole24ore",2009).

A diffusione; stampa; volume.
B conservazione; incunabolo; hard disk.
C registrazione; edizione; manoscritto

1609) In quale delle seguenti alternative la lettera W è ripetuta esattamente sei volte?

A WYWTWHIWGHWMLW
B WYTTWHIWGHTMLW
C WYWTYHIWGHRMLW

1610) In quale, tra le seguenti sequenze di numeri, è presente almeno una volta, la stringa 263758?

A 37628558627337258256
B 26735885627337268562
C 78563226375885732663

1611) Qual è la corretta negazione della proposizione: Nessun medico è malato"?"

A Tutti i medici non sono malati.
B Qualche medico non è malato.
C Almeno un medico è malato.

1612) Se è vero che tutti i fiori sono esseri viventi" e "tutte le rose sono fiori", allora:"

A alcune rose non sono fiori.
B tutti gli esseri viventi sono fiori.
C tutte le rose sono esseri viventi.

1613) Quale dei seguenti termini è sinonimo di sedizioso"?"

A Traditore
B Agitatore
C Malizioso

1614) Individuare il termine la cui etimologia non segue la stessa logica" degli altri:"

A Omofonia
B Antonomasia
C Omonimia

1615) Se la frase Tutti i martedì vado in palestra e vado in piscina" è FALSA, se ne deduce necessariamente che:"

A tutti i giovedì non vado in palestra o non vado in piscina.
B qualche giovedì o non vado in palestra o non vado in piscina.
C qualche giovedì non vado in palestra e non vado in piscina.

1616) Una banda musicale marcia formando un quadrato di 6 x 6 elementi. Arrivata in piazza, si dispone su 3 file, formando un rettangolo, per suonare. Di quanti elementi è composta ciascuna fila?

A 15
B 12
C 16

1617) Una squadra di 15 operai edifica un palazzo in 30 giorni. Quanti giorni avrebbe impiegato una squadra di 9 operai per eseguire lo stesso lavoro?

A 50
B 40
C 60

1618) Per preparare 12 pancake occorrono 240 grammi di farina. Se si decide di prepararne solo otto, di quanti grammi di farina si ha bisogno?

A 180
B 160
C 220

1619) Indicare la sillaba che, preposta ai gruppi di lettere -RA, -DUTA e -DANO, attribuisce forma tre parole di significato compiuto:

A ro
B ta
C se

1620) Individuare il diagramma che soddisfa la relazione insiemistica esistente tra i termini dati: PESCI, ORATE, LAGHI

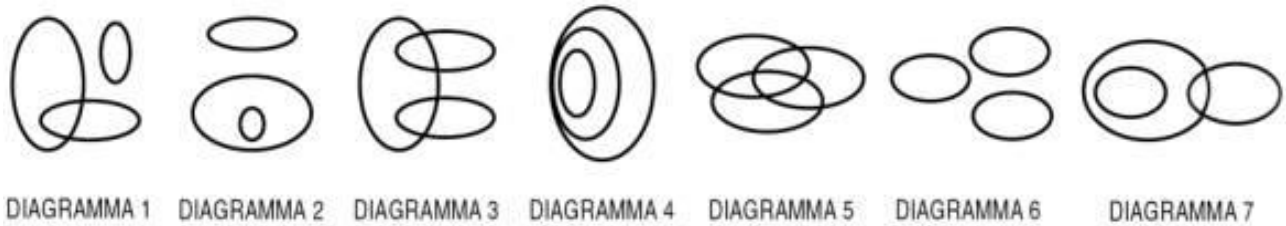

A Diagramma 4
B Diagramma 2
C Diagramma 6

1621) Tra le alternative proposte, scegliere quella che completa correttamente la frase "Mio figlio, _____ , dimostra in ogni occasione una certa maturità."

A sebbene avrebbe avuto solo sedici anni
B sebbene abbia solo sedici anni
C sebbene avesse solo sedici ann

1622) Se le lancette di un orologio segnano le 12.30 di lunedì, tra 45 ore e 45 minuti saranno:

A le 22.15 di giovedì
B le 10.15 di mercoledì
C le 6.15 di martedì

1623) Un cartello stradale reca la scritta: Strada scivolosa in caso di pioggia". Da tale affermazione è possibile dedurre che:"

A se piove la strada non è scivolosa
B se piove la strada è scivolosa
C se non piove la strada è scivolosa

1624) Indicare l'affermazione corretta.

A 2x è maggiore di x tutte le volte che x è una frazione
B 2x è maggiore di x per tutti i valori di x, tranne x = 0
C 2x è minore di x per valori negativi di x, ma maggiore per valori positivi

1625) Scegliere l'alternativa che completa correttamente la frase: Ti direi che hai un magnifico aspetto:

A se solo sapessi mentire.
B se solo avessi mentito.
C se solo avrei saputo mentire.

1626) La domenica mattina Marco va in piscina e deve portarsi monete a sufficienza per pagare la tariffa del parcheggio adiacente alla piscina. Le tariffe dei giorni festivi sono le seguenti: Tariffe domenicali dalle 10.00 alle 18.00.....euro 0,80 l'ora Tariffe domenicali al di fuori degli orari elencati.....euro 0,50 l'ora Tutte le tariffe sono per ora o per frazione di un'ora Se Marco utilizzerà il parcheggio dalle 9.15 alle 10.45, quanto spenderà per parcheggiare la macchina?

A 2
B 1.3
C 1.6

1627) La somma di tre numeri è 1.000. Il primo è due terzi del secondo e il secondo è tre quinti del terzo. I tre numeri sono:

A 200; 300; 500
B 500; 200; 300
C 200; 200; 600

1628) Individuare il plurale non corretto:

A spiaggia - spiagge
B provincia -province
C pioggia - pioggie

1629) Il costo di una libreria è di 350 euro, IVA esclusa. Se l'IVA da applicare è del 22%, quanto costa la libreria IVA compresa?

A 470 euro
B 377 euro
C 427 euro

1630) L'unione degli insiemi A e B contiene 51 elementi. L'insieme A contiene 29 elementi, l'insieme B contiene 42 elementi. Quanti sono gli elementi dell'intersezione di A e B?

A 13
B 15
C 20

1631) La somma delle cifre di quale dei seguenti gruppi numerici determina il risultato maggiore?

A 2-3-6-8-7-0
B 4-2-2-1-0-7-3
C 3-2-1-4-3-4-0-3

1632) Per andare da A a B, Lucia deve percorrere 840 chilometri. Percorre in treno gli 11/12 del tragitto, in taxi i 4/5 della restante parte e decide di percorrere a piedi gli ultimi chilometri. Quanti chilometri percorrerà camminando?

A 17
B 24
C 14

1633) Le stature in centimetri di un campione di 5 persone sono le seguenti: 172 , 171 , 165 , 166 , 181. Qual è la media delle stature?

A 172
B 175
C 171

1634) Il costo di un infisso in alluminio è di 450 euro, IVA esclusa. Se l'IVA da applicare è del 22%, quanto costa un infisso IVA compresa?

A 549 euro
B 530 euro
C 559 euro

1635) Un autobus sosta alla fermata ABC ogni 270 minuti, un secondo autobus ogni 180 minuti e un terzo autobus ogni 60 minuti. Se i tre autobus sono partiti dalla fermata contemporaneamente alle 7:00, dopo quanti minuti si ritroveranno alla fermata ABC?

A 320
B 540
C 230

1636) Dividere il numero 276 in parti inversamente proporzionali ai numeri 1/2, 1/4, 1/6.

A 65, 50, 106
B 46, 92, 138
C 57, 60, 120

1637) La differenza di due segmenti misura 25 metri. Il primo segmento è i 9/4 del secondo. Quanto misura il segmento più corto?

A 25 metri
B 30 metri
C 20 metri

1638) Per andare da X a Z bisogna viaggiare in autobus fino a Y e poi prendere il treno fino a Z. Se l'autobus, viaggiando ad una velocità media di 80 km/h impiega 1 ora e 30 minuti, e il treno, viaggiando a una velocità media di 200 km/h impiega 2 ore e 30 minuti, quanto dista X da Z?

A 590 km
B 620 km
C 570 km

1639) Quante parole (cioè sequenze di lettere, non necessariamente di senso compiuto) di 5 lettere si possono scrivere utilizzando tutte e solo le lettere D, M, P, A, O?

A 120.
B 50.
C 80.

1640) Completare la seguente successione: AD, ?EH,FG,IN,LM""

A AB.
B BC.
C DE.

1641) Non esiste torta senza ciliegina. Se la precedente affermazione è falsa, quale delle seguenti è necessariamente vera?

A Esiste almeno una torta senza ciliegina.
B Non vi sono ciliegine senza torta.
C Nessuna torta ha la ciliegina.

1642) Federica ha lanciato 4 volte di seguito una moneta ed ha ottenuto sempre croce. Se lanciasse la moneta una quinta volta:

A la probabilità che ottenga testa sarebbe minore alla probabilità che ottenga croce.
B la probabilità che ottenga testa sarebbe pari alla probabilità che ottenga croce.
C la probabilità che ottenga testa sarebbe pari a 1.

1643) Completa la seguente successione 16,81,? 625""

A 256.
B 169.
C 225.

1644) Se aumentiamo il numero di 175 unità e poi lo riduciamo di 77 unità, otteniamo 376. Che numero è?

A 278.
B 276.
C 277.

1645) Completare la seguente successione: 9,10, 8,11, 7, 12,?

A 13.
B 6.
C 5.

1646) Completare la seguente successione: (2,12), (4, 6), (1,24), (6,?),(3, 8)""

A 3.
B 4.
C 2.

1647) Quali tra i termini proposti completano correttamente la seguente proporzione? Messina: Sicilia =x: y""

A X = Sardegna; y= Sassari
B X = Trieste; y = Veneto
C X = Brindisi; y = Puglia

1648) Individuare il diagramma che soddisfa la relazione insiemistica esistente tra i termini dati: SPETTACOLI, ATTORI, COMMEDIE TEATRALI.

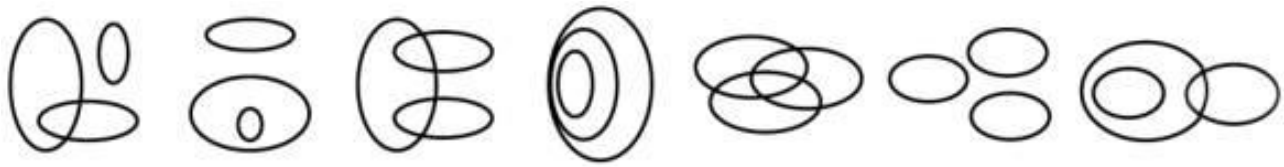

DIAGRAMMA 1 DIAGRAMMA 2 DIAGRAMMA 3 DIAGRAMMA 4 DIAGRAMMA 5 DIAGRAMMA 6 DIAGRAMMA 7

A Diagramma 3
B Diagramma 4
C Diagramma 2

1649) Completare la seguente successione: 3; 6; 9; 15; 24; ?; 63

A 29.
B 59.
C 39.

1650) Qual è la probabilità di estrarre da un'urna con 40 palline, numerate da 1 a 40, una pallina di numero divisibile per 6 o maggiore di 23?

A 3/10.
B 3/5.
C 1/2.

1651) Nel lancio di un dado qual è la probabilità che esca un numero dispari o maggiore di 4?

A 1/2.
B 2/3.
C 1/4.

1652) Completare la seguente successione: 25-37-46-?-55

A 50.
B 45.
C 52.

1653) Indicare tra le alternative proposte il termine da scartare.

A Spilorcio.
B Munifico.
C Avaro.

1654) Completare la seguente successione: 121; ?; 961; 1681; 2601

A 441.
B 381.
C 324.

1655) Completare correttamente la seguente proporzione: Sassari: Sardegna = X : Y

A X = Trieste; Y = Veneto
B X = Calabria; Y = Matera
C X = Pistoia; Y = Toscana

1656) Completare correttamente la seguente successione numerica: 19; 176; 38; 88; 76; 44; 152; ?; ?

A 76; 88
B 304; 21
C 22; 304

1657) Gli iscritti a una scuola di lingue straniere sono passati da 250 a 350 unità. Quanto vale l'incremento percentuale delle iscrizioni?

A 35%
B 40%
C 30%

1658) Quale delle seguenti alternative contiene una lettera ripetuta esattamente cinque volte?

A CCBDDBBCDDCB
B XCIICXXCIXXIO
C JJWIVWWVJTJT

1659) Completare correttamente la seguente proporzione: Torino: Juventus= X: Y

A X = calcio; Y = Sampdoria
B X = Genova; Y = Inter
C X = Bergamo; Y = Atalanta

1660) Completare correttamente la seguente successione numerica: 48; 71; 102; ?; ?; 134; 112; 135

A 80; 111
B 83; 105
C 80; 103

1661) Almeno una delle case di Roma ha le tegole rosse. Negare questa affermazione significa affermare che:

A Roma è l'unica città senza una casa con le tegole rosse
B a Roma tutte le case hanno le tegole rosse
C a Roma nessuna casa ha le tegole rosse

1662) Completare correttamente la seguente successione di lettere: C; F; M; B; E; L; ?; ?

A I; M
B A; D
C D; H

1663) Se SIEPE = 2; RADICE = 3; ARBUSTO = 4; SOTTOBOSCO = ?

A 5
B 9
C 6

1664) Completare la serie numerica: 2, 5, 15, 18, 54, 57, 171 ___

A 174
B 179
C 210

1665) Completare la seguente successione di numeri e lettere: H, 111, L, 93, N, 75, ?, 57, R, ...

A P, 39
B O, 41
C Q, 35

1666) Indicare il numero che completa la serie: 24; 19; 14; 9; ?

A 7
B 10
C 4

1667) Completare la seguente serie numerica: 1; 3; 8; 19; 32; 51; ?

A 74
B 55
C 93

1668) Quale delle seguenti coppie di termini presenta elementi di disomogeneità rispetto alle altre?

A Ridondanza - scarsità.
B Terso - Pulito
C Alterigia - umiltà.

1669) Quale dei seguenti termini ha significato contrario di "cristallino"?

A opaco
B chiaro
C Trasparente

1670) Completare correttamente la seguente successione numerica: ?; 6; 5; 11; 6; 5; 11; ?

A 14; 5
B 11; 6
C 12; 6

1671) Se tutti gli esami del primo anno di ingegneria sono molto impegnativi, nessun esame molto impegnativo ha meno di sei crediti, quale delle seguenti affermazioni è sicuramente vera?

A Tutti gli esami del primo anno di ingegneria valgono almeno sei crediti
B Alla facoltà di ingegneria solo gli esami del secondo anno valgono almeno sei crediti
C Nessun esame che non sia del primo anno vale almeno sei crediti

---

1672) Un manager deve raggiungere alcuni colleghi che si trovano a un meeting in una località inglese. Giunto all'aeroporto di Londra decide di prendere una macchina a noleggio. La benzina in Inghilterra costa 3 sterline al gallone. Londra e la località da raggiungere distano 240 miglia; ogni gallone equivale a circa 3,75 litri di benzina; una sterlina vale 1,25 euro; l'auto consuma 1 litro di benzina ogni 20 km. Sapendo che un chilometro equivale a 0,60 miglia, quale sarà la spesa (in euro) per la benzina sostenuta dal manager per raggiungere i colleghi da Londra e per tornare all'aeroporto?

A 40 euro
B 20 euro
C 32 euro

1673) Durante l'ultimo week-end, Erica, Paola, Giuseppe e Bianca hanno guadagnato insieme 405 Euro. Erica ha lavorato il doppio del tempo di Paola; Paola ha lavorato la metà del tempo di Giuseppe; Bianca ha lavorato il doppio del tempo di Erica. Essi decidono di dividere i loro guadagni in modo imparziale. Quanti euro avrà Giuseppe?

A La metà della somma percepita da Bianca.
B La metà della somma percepita da Paola.
C Il quadruplo della somma percepita da Paola.

1674) Completare la seguente successione: ?, A, R, C, A

A Q
B H
C B

1675) Completa la seguente successione: V, R, N, H, ?

A T
B D
C U

1676) Scegliendo a caso due allievi di una classe composta da 21 allievi, una volta su due gli studenti scelti portano gli occhiali. Qual è il numero di allievi della classe prima che portano gli occhiali?

A 13
B 15
C 11

1677) Quale dei seguenti gruppi alfanumerici, ripropone in senso inverso, la sequenza ABBBABABABAB"?"

A BABABABABBBA
B BABAABBABBBA
C BABABBABABBA

1678) Individuare, tra le alternative proposte, il termine da scartare.

A Incidentale
B Dentellato
C Tridente

1679) Completare la seguente successione: 254, 126, 62, 30, ..."'"

A 17
B 12
C 13

1680) Se dalla seguente sequenza AGSLMENMEAETCACTNICENETE" si escludessero le lettere dei termini "AGILMENTE" e "SACCENTE", si otterrebbe la sequenza..."

A NTECMEA
B MECEANM
C CENTECA

1681) Completare la seguente successione 22-33-44?"'"

A 165
B 132
C 144

1682) L'angoscia dell'epoca fu espressa, nel XIX secolo, da artisti come Van Gogh, in particolare nei suoi autoritratti, nei suoi paesaggi tormentati e angosciosi e nell'Urlo di Munch del 1893. Quasi un secolo prima Goya dipinse il suo 3 maggio 1808. Nei "Disastri della guerra" e nelle "Pitture nere" dell'ultima fase della sua vita egli presenta la guerra e ogni sorta di malvagità in un modo completamente diverso dal classicismo accademico. Un altro secolo dovette trascorrere prima che il crudele spreco e la mutilazione di giovani vite giungesse alla coscienza pubblica nei terribili anni che seguirono le entusiasmanti aspettative dell'agosto 1914. Goya, tuttavia, aveva già ritratto gli effetti della guerra negando l'umanità tra corpi in decomposizione, donne stuprate e i gemiti dei loro figli. La sete di sangue, il male sadico è rappresentato nelle "Follie" e nei volti lascivi e nel mostruoso satanismo del "Sabba delle streghe" e in altre raffigurazioni del lato oscuro dell'esistenza umana. Anche Johann Heinrich Füssli guarda alle forze occulte che prendono potere, ma la completa visione di questa minaccia con cui il XIX secolo si è aperto è lasciata a Goya: l'inizio sinistro di una fase della storia, con tutte le sue torture, olocausti e massacri di soldati, il suo terrore e inumanità, comincia a rivaleggiare, nelle vite e nelle morti di milioni di individui, con le miserie dell'ultimo secolo a.C.". L "angoscia" del XIX secolo è espressa in pittura:"

A nell'Urlo" di Munch."
B negli autoritratti di Van Gogh.
C nei Disastri della guerra" di Goya."

1683) Completare la seguente successione :6, 12, 18, ?, 30, 36

A 22
B 24
C 26

1684) Completa la seguente successione : 63, 9,7,-72,18,4-90,5,?"'"

A 22
B 18
C 20

1685) determinare quel numero il cui quadrato diviso a metà è uguale a 50:

A 10
B 20
C 7

1686) Quali tra i numeri proposti completa correttamente la proporzione tappo sta a toppa: come 32664 sta a?

A 36642
B 32466
C 34662

1687) Quante cinquine si possono formare con 90 numeri differenti?

A 43949268
B 22356421
C 27244528

1688) Un parallelepipedo di legno misura 5 x 7 x 9 cm ed è dipinto di blu sulla superficie esterna. Se viene suddiviso in 315 cubetti di un cm di lato ciascuno, quanti di questi avranno almeno una faccia dipinta di blu?

A 210
B 190
C 126

1689) La Rivoluzione industriale fu anche una rivoluzione energetica, perché il carbone soppiantò la legna come principale fonte di energia. Grazie alla combustione del carbone e al perfezionamento della macchina a vapore si produsse energia meccanica capace di fare funzionare le prime macchine industriali e, successivamente, i primi mezzi di trasporto a vapore". In base alle precedenti affermazioni:"

A la Rivoluzione industriale fu soprattutto una rivoluzione energetica grazie all'uso del carbone come fonte di energia e all'invenzione della macchina a vapore.
B la Rivoluzione industriale è legata all'utilizzo di nuove fonti di energia, la legna e il carbone, senza le quali non sarebbe stata possibile alcuna meccanizzazione delle industrie.
C la Rivoluzione industriale sostituì alla legna, come fonte di energia, il carbone, il cui uso nella macchina a vapore consentì di produrre l'energia meccanica in grado di azionare le prime macchine industriali.

1690) Se AZZURRO = 1; BLU = 2; GIALLO= 7; CELESTE =?

A 3
B 10
C 6

1691) Indicare l'abbinamento errato.

A Cervantes - Don Chisciotte
B Goethe - Faust
C Shakespeare - Cyrano

1692) Un sinonimo di costernato" è:"

A incline.
B costoso.
C afflitto.

1693) In un'azienda che confeziona mascherine un macchinario ne assembla un pezzo ogni 30 secondi. Quante mascherine si possono produrre in 2 ore e un quarto?

A 240
B 270
C 360

1694) Quali consonanti, anteposte al gruppo di lettere ESTO, formano parole di senso compiuto?

A D - N - V - Z
B B - F - N - V
C C - G - M - P

1695) Indicare l'alternativa da scartare:

A Terni
B Pesaro
C Macerata

1696) Quale dei seguenti non è l'anagramma del nome di uno stato?

A Voragine
B Niopalo
C Diriatoca

1697) Completare la seguente successione: 4,13,22,31, ? , ?

A 39.49
B 39.47
C 40.49

1698) Ha significato contrario di concentrazione:

A concertazione.
B distrazione.
C concentramento.

1699) Individuare la città da scartare:

A Strasburgo
B Parigi
C Berlino

1700) Data la sequenza ASDFGHDGGHHttjjpghjkl individuare l'alternativa che la riproduce fedelmente se inserita al posto dei puntini: ASDFGH...ghjkl

A DGGHHttjjp
B GHHDGttjjp
C DGHjjHDGpp

1701) Aldo ha più denaro di Bruno, il quale ne ha meno di Carlo, che a sua volta ne possiede più di Gianni. Questo significa che?

A Bruno possiede meno denaro di Aldo e di Carlo.
B Bruno non ha denaro.
C Gianni è il più ricco dei tre.

1702) Indicare in quale delle seguenti alternative viene rispettata la regola di alternanza vocaleconsonante"."

A ABIXEFOMOROSAZAPIC
B ABIXEFOMOROSAZQPIC
C ABIXEFOMROSAZQPIDIC

1703) Se K viene prima di C; Y viene prima di C; C viene prima di J; K viene prima di Y; qual è l'ordine corretto delle lettere?

A C - J - Y - K
B K - C - J - Y
C K - Y - C - J

1704) Un triangolo rettangolo, ruotando intorno all'ipotenusa, genera:

A un prisma
B due coni uniti per la base
C una piramide

1705) Un litro di liquido equivale a:

A un miliardo di millimetri cubi
B un millesimo di metro cubo
C un milione di centimetri cubi

1706) La democrazia non può compiutamente caratterizzarsi solo come governo della maggioranza, benché l'istituzione delle elezioni generali sia della massima importanza. Infatti una democrazia può governare in maniera tirannica. (La maggioranza di coloro che hanno una statura inferiore a sei piedi può decidere che sia la minoranza di coloro che hanno statura superiore a sei piedi a pagare tutte le tasse). In una democrazia i poteri dei governanti devono essere limitati ed il criterio di una democrazia e' questo: in una democrazia i governanti possono essere licenziati dai governati senza spargimento di sangue. Quindi se gli uomini al potere non salvaguardano quelle istituzioni che assicurano alla minoranza la possibilità di lavorare per un cambiamento pacifico, il loro governo e' una tirannia. (Karl Popper). Nel testo di Popper quale delle seguenti prerogative NON e' indicata come essenziale alla democrazia:

A il diritto del popolo di cambiare i propri governanti senza dover far ricorso alla violenza.
B il diritto delle minoranze di collaborare attivamente alla gestione del governo.
C il dovere dei governanti di accettare limitazioni del proprio potere.

1707) Un numero è sempre divisibile per 4 se:

A il numero formato dalle sue due ultime cifre è divisibile per 4.
B il numero formato dalle sue due prime cifre è divisibile per 4.
C la sua ultima cifra è pari.

1708) Ogni animale vola. "L'asino è un animale". Se tali affermazioni sono vere, ne deriverebbe che:

A l'asino non può volare
B l'asino vola
C non tutti gli asini volano

1709) Quale tra i seguenti numeri romani esprime il valore più alto?

A LXXIV
B CCLVIII
C DCLXXIV

1710) Se gli 8 studenti che partecipano a una festa complessivamente possiedono 17 cellulari, quale delle seguenti affermazioni è sicuramente vera.

A Nessun ragazzo possiede più di 3 cellulari.
B Almeno un ragazzo possiede almeno 3 cellulari.
C C'è un unico ragazzo che possiede almeno 3 cellulari.

1711) Per "stereotipo" si intende:

A una persona che ha molta cura per il proprio aspetto.
B un'eccessiva generalizzazione.
C un impianto per l'ascolto di musica.

1712) Quali tra i termini proposti completano correttamente la seguente proporzione? cubo : buco = X : Y

A X = mela; Y = tela
B X = arco Y = orca
C X = pesce; Y = mare

1713) Indicare l'abbinamento errato.

A Catalogna - Spagna
B Bretagna - Francia
C Scozia - Irlanda

1714) Le meteoriti sono corpi solidi provenienti dallo spazio caduti sulla superficie terrestre. La loro origine è legata a comete o a piccoli pianeti (asteroidi) la cui orbita si localizza tra Giove e Marte. Con il nome di meteora gli scienziati indicano la scia luminosa prodotta dal passaggio di porzioni di materiale meteoritico nelle parti superiori dell'atmosfera. Generalmente queste masse si consumano prima di arrivare sulla terra e sono chiamate popolarmente "stelle cadenti". Alcune meteore particolarmente luminose vengono chiamate "bolidi" e talora precipitano sul nostro pianeta dando origine ai cosiddetti crateri di impatto. Le meteoriti non sono altro che frammenti di bolidi dispersi sulla superficie terrestre in seguito a queste collisioni. Quale delle seguenti affermazioni una sola è FALSA?

A L' origine delle meteoriti è legata agli asteroidi
B I bolidi sono meteoriti
C Il materiale meteoritico produce una scia luminosa

1715) Individuare l'abbinamento errato.

A Biella - Lombardia
B Pesaro - Marche
C Belluno - Veneto

1716) In un esame il punteggio finale può essere un qualunque numero intero compreso tra 0 e 180 (estremi compresi). Per essere promossi bisogna ottenere almeno il 45% del punteggio massimo ammissibile. Qual è il punteggio massimo che può aver ottenuto un alunno bocciato?

A 40
B 90
C 80

1717) Un vecchio orologio analogico con quadrante a 12 ore si è fermato e segna l'una e 36 minuti. L'ampiezza del più piccolo degli angoli tra la lancetta delle ore e quella dei minuti è

A 168°
B 172°
C 174°

1718) Per i suoi 7 nipoti, 2 maschi e 5 femmine, Giorgio ha comperato 5 regali di uno stesso tipo per le femmine e 2 regali di un altro tipo per i maschi. Se distribuisce a caso i regali, qual è la probabilità che entrambi i maschi ricevano il regalo per loro pensato?

A 1/42
B 1/21
C 4/49

1719) Il distributore automatico di un ufficio permette di selezionare tra una vasta gamma di caffè a partire da due miscele: caffè normale o caffè decaffeinato. Il distributore propone caffè di due tipi: ristretto o macchiato con uno di tre tipi di latte (intero, parzialmente scremato, scremato); e, per coloro che lo vogliono zuccherato, permette di selezionare l'aggiunta automatica di uno o due cucchiaini di zucchero oppure uno o due cucchiaini di dolcificante. Quanti tipi diversi di caffè è possibile selezionare nel distributore automatico?

A 40
B 32
C 48

1720) Un cane è legato, mediante una catena lunga 13 m, a un palo che dista 5 m da un sentiero rettilineo. Determinare la lunghezza del tratto di sentiero accessibile al cane.

A 24 m
B 18 m
C 20 m

1721) Premessa a) Secondo Machiavelli il Principe deve spesso impegnare la sua parola in promesse che lo vincolano a nemici o alleati, Premessa b) ma, quando mantenere la parola può costituire un danno per lo Stato, il Principe deve venir meno ai patti. Una sola delle affermazioni sotto elencate consegue rigorosamente dalle premesse A e B:

A non è bene, per Machiavelli, che il principe impegni la sua parola in promesse.
B il tradimento non è sempre riprovevole dal punto di vista etico.
C i princìpi morali non sempre possono accordarsi con la ragion di Stato.

1722) Quali tra i termini proposti completano correttamente la seguente proporzione verbale? Granello : X = goccia : Y

A X = sabbia; Y = acqua
B X = sale; Y = pepe
C X = vento; Y = aria

1723) Una palestra ha venduto 400 abbonamenti in ottobre e 480 in novembre. In dicembre si è registrato un decremento del 15% rispetto al mese precedente. A quanto ammonta la variazione percentuale degli abbonamenti venduti nel mese di dicembre rispetto a quelli di ottobre?

A 1%
B 2%
C 5%

1724) Un sinonimo di "abbrivio" è:

A certezza
B spinta
C salto

1725) Individuare quale diagramma soddisfa la relazione insiemistica esistente fra i tre termini seguenti: MEDICI, APPASSIONATI DI FORMULA 1, GENITORI.

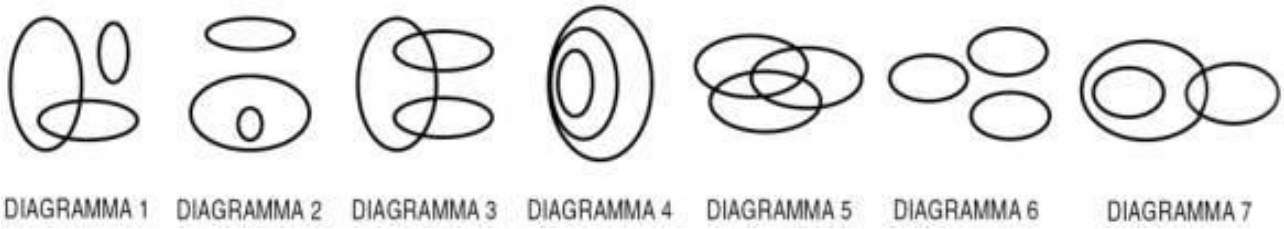

A Diagramma 6
B Diagramma 5
C Diagramma 2

1726) Quali tra i termini proposti completano correttamente la seguente proporzione? ballerina : danza = X : Y

A X = cigno; Y = scarpette
B X = attrice Y = cinema
C X = teatro; Y = pubblico

1727) Ogni volta che strillo sento male alla gola, ma strillare è per me necessario per sfogare la rabbia. Se la precedente affermazione è vera, allora è certamente vero che:

A anche se non ho sfogato la mia rabbia, potrei avere il mal di gola.
B sfogare la mia rabbia è condizione necessaria per strillare.
C se ho male alla gola, ho sicuramente sfogato la mia rabbia.

1728) Se non metti le grate di sicurezza, i ladri non fanno fatica a entrare. Se la precedente affermazione è vera, allora è certamente vero che:

A se i ladri hanno fatto fatica a entrare è perché hai messo le grate di sicurezza
B se i ladri non fanno fatica a entrare è perché non hai messo le grate di sicurezza
C è necessario mettere le grate di sicurezza per far sì che i ladri facciano fatica a entrare

1729) Solo se M e N allora P, ma se M allora T e C. Se la precedente affermazione è vera, allora NON è necessariamente vero che:

A se non M allora non P
B se C e N allora P
C se P allora C

1730) Completare correttamente la seguente successione numerica: 87; 94; 105; 119; 126; 137; ?

A 151
B 153
C 155

1731) Quale numero si ottiene sottraendo 2615 da 6324?

A 3219
B 3709
C 3329

1732) La somma dell'età di 3 fratelli è di 18 anni. Quale sarà la somma della loro età fra 5 anni?

A 31
B 39
C 29

1733) Individuare il valore di X nella seguente proporzione: mossa : messa= 15442: X

A X = 12624
B X = 16442
C X = 14642

1734) Gianni andrà in spiaggia se e solo se comprerà gli occhiali da sole. In base alla precedente affermazione, quale delle seguenti è necessariamente FALSA?

A Anche se Gianni comprerà gli occhiali da sole, potrebbe non andare in spiaggia.
B Se Gianni non comprerà gli occhiali da sole allora non andrà in spiaggia.
C Se Gianni è andato in spiaggia allora ha comprato gli occhiali da sole.

1735) Tutti i mammiferi hanno le unghie, alcuni mammiferi sono felini. Quale, tra le seguenti conclusioni, NON è corretta?

A Alcuni animali con le unghie sono felini.
B Alcuni felini non hanno le unghie.
C Tutti i felini hanno le unghie.

1736) Qual è il numero il cui triplo meno uno è uguale a 50?

A 18
B 17
C 19

1737) Completare correttamente la seguente successione numerica: 10; 19; 17; 26; ?; ?; 31, 40

A 24; 33
B 27; 39
C 30; 32

1738) Individuare quale delle cinque serie di lettere è identica alla seguente: ZSSZSSZZZSZ

A ZSSZSZZZZSZ
B ZZSZSSZZZSZ
C ZSSZSSZZZSS

1739) Un tassista addebita euro 1,00 al chilometro per i primi 3 chilometri di un viaggio e 70 cent per chilometro per il resto del viaggio. Se la corsa viene pagata euro10,00 comprensivi di una mancia di 70 centesimi, quanti chilometri ha percorso il taxi?

A 9
B 11
C 12

1740) Individuare il diagramma che soddisfa la relazione insiemistica esistente tra i termini dati: FUNIVIE, FONDISTI, SCIATORI

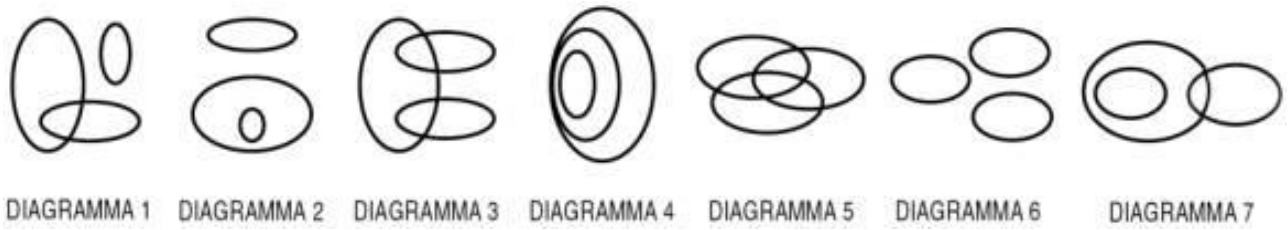

A Diagramma 4
B Diagramma 1
C Diagramma 3

1741) Completare la seguente successione numerica: 20; 22; 42; 64; 106 ? 276

A 170
B 156
C 180

1742) Quale è l'ordine decrescente dei seguenti numeri? a = 3-10; b = 10/3; c = -103; d = -310; e = -3/10; f = 10-3

A f, b, a, d, c, e
B a, f, b, d, c, e
C b, f, a, e, c, d

1743) In un contenitore ci sono 2 litri di liquido, di cui il 75% è vino ed il restante 25% è acqua. Determinare quanti centimetri cubi di vino bisogna aggiungere per portare la percentuale di vino all'80%.

A 300
B 500
C 100

1744) Quale delle seguenti frasi è logicamente deducibile da: "non tutte le fortezze sono medievali"?

A Almeno una fortezza non è medievale.
B Almeno la metà delle fortezze non sono medievali.
C Esistono molte fortezze medievali.

1745) Individuare l'alternativa che riporta una successione di elementi identica alla sequenza HPBPBBBPBBPPH.

A HBBPBBBPBBPBH
B HPBPBBPPBBPHB
C HPBPBBBPBBPPH

1746) Individuare il diagramma che soddisfa la relazione insiemistica esistente tra i termini dati: VULCANI, VULCANI ATTIVI, LAPILLI

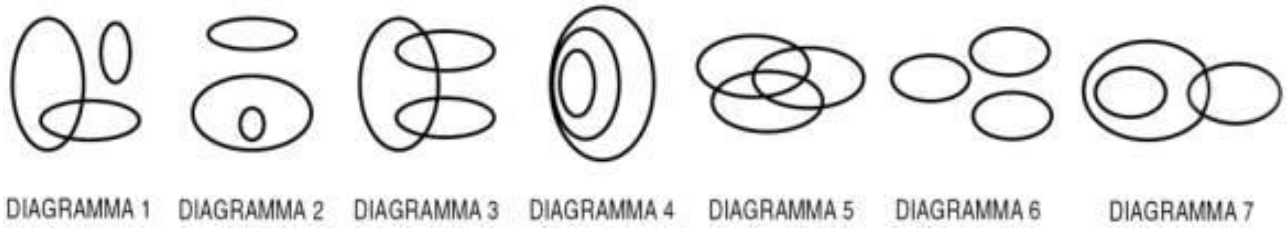

A Diagramma 6
B Diagramma 4
C Diagramma 2

1747) Individuare l'abbinamento errato.

A Fratelli Lumiére - cinema
B James Watt - macchina a vapore
C Guglielmo Marconi - televisione

1748) Quale dei seguenti termini integra la serie: colapasta - battipanni - buttafuori?

A astuccio
B portapenne
C cartella

1749) Tutti gli uomini sono attivi, tutti gli uomini attivi sono sportivi e chi è sportivo possiede una moto. Quale delle seguenti affermazioni è quindi corretta?

A Tutti gli uomini hanno una moto.
B Solo alcuni uomini hanno una moto
C Alcuni uomini attivi non hanno una moto.

1750) Individuare l'alternativa che riporta una successione di elementi identica alla sequenza WOHJEWYOKJEWYOK

A WOHJEWYOKJEYWOK
B WOHJWEYOKEJWYOK
C WOHJEWYOKJEWYOK

1751) Completare correttamente la seguente successione numerica: 42; 86; 74; 32; ?; ?; 22; 66

A 81; 62
B 76; 68
C 76; 64

1752) Quale fra i seguenti non è un numero primo:

A 91
B 71
C 31

1753) Una scatola dal perimetro di 144 cm. è suddivisa in cinque scomparti rettangolari uguali disposti in modo tale che un lato maggiore di un solo scomparto sia a contatto con il lato minore degli altri quattro. Quali sono, in centimetri, le dimensioni di uno scomparto?

A 8 x 32
B 9 x 45
C 10 x 50

1754) Quando l'area di un cerchio aumenta del 44%, di quanto aumenta, in percentuale, la lunghezza della sua circonferenza?

A 20%
B 66%
C 88%

1755) Indicare la sequenza che contiene un numero di lettere minuscole maggiore rispetto al numero di lettere maiuscole.

A VNplacFPctSLVMaRO
B nbaTplacFPutSLVMRO
C abLnutSMaTlaPRLVbcO

1756) Se BUE = 9; CAPRA = 25 , GALLINA = 49; CONIGLIO =?

A 64
B 81
C 100

1757) Indicare quale alternativa riporta una successione di elementi identica alla sequenza 3472ABC4ACB4BCA4

A 3472ABC4ACB4BCA4
B 3472ABC3ACB4CCA4
C 3472ABC3ACB4BBA4

1758) Se MARGHERITA = 6; GIGLIO = 3; PAPAVERO = 4 ; ORCHIDEA =?

A 4
B 7
C 9

1759) Una palla, rimbalzando sul terreno, raggiunge ogni volta i 2/5 dell'altezza precedente. Da quale altezza è stata fatta cadere se dopo 4 rimbalzi arriva a 32 centimetri?

A 10 metri
B 18,5 metri
C 12,5 metri

1760) Solo se la rappresentazione teatrale è in atto, gli spettatori non tengono acceso il cellulare. In base alla precedente affermazione, non è necessariamente vero che:

A Non è sufficiente che la rappresentazione teatrale sia in atto perché gli spettatori tengano spento il cellulare.
B Se gli spettatori tengono spento il cellulare significa che la rappresentazione teatrale non è in atto.
C Se la rappresentazione teatrale non è in atto, gli spettatori tengono acceso il cellulare.

1761) Completare la seguente successione numerica: 15; 18; 27; 54; ?

A 63
B 162
C 135

1762) Indicare in quale delle seguenti alternative la lettera R è presente un numero maggiore di volte.

A RAARAAGRRAARARAR
B RRRTARARARAAGATG
C RAARRGRRTARARAR

1763) Nel XVIII secolo l'avvio del capitalismo agrario, in certe regioni europee - soprattutto l'Inghilterra e poi la Francia - fu il primo passo verso l'affermarsi dell'economia industriale. All'ampliamento dei terreni coltivati e al perfezionamento delle tecniche produttive si affiancò lo sviluppo di colture particolarmente robuste, sicure e redditizie: quelle stesse che avevano trovato una prima timida diffusione (in ambiti localmente limitati) fra Quattro e Cinquecento, e che vengono ora "riscoperte" come soluzione a basso costo di pressanti esigenze alimentari. Il riso, dopo un certo declino nel XVII secolo, legato anche alle polemiche sull'opportunità igienica e ambientale di far ristagnare l'acqua nei campi, torna in auge nel Settecento come alternativa ai cereali tradizionali: in certe zone esso viene introdotto per la prima volta; in altre viene per così dire reintrodotto. Analoga destinazione sociale ha il grano saraceno, anch'esso "riscoperto" nel Settecento oppure, in certe regioni, introdotto per la prima volta. Ma sono soprattutto il mais e la patata a conquistare un ruolo di assoluto primo piano, sbarazzando il campo da molti antichi concorrenti: fra XVIII e XIX secolo, la tradizionale varietà di cereali inferiori - base millenaria della dieta popolare - viene progressivamente riducendosi a favore dei nuovi protagonisti. Da quanto riportato nel brano, si può dedurre che nel XVIII secolo:

A l'economia industriale ricevette un impulso dal capitalismo agrario.
B si accentuò la separazione tra allevamento e agricoltura.
C il commercio dei cereali favorì l'accumulo di capitali.

1764) Quali sono i due numeri tali che la loro somma è uguale a 17/4 e il loro prodotto è uguale a 1?

A 3/8, 8/3
B 16/4, 1
C 3/4, 4/3

1765) Jack, Hans e Johnny, fermati perché sospettati di un furto, fanno rispettivamente le seguenti dichiarazioni: "Io non ho rubato"; "Il ladro è Johnny"; "Il colpevole è Jack". L'ispettore sa per certo che due di essi mentono, mentre il terzo ha detto il vero. A quale conclusione giunge l'ispettore?

A Johnny è innocente.
B Non è possibile stabilire chi dei tre sia colpevole o innocente.
C Johnny è colpevole.

1766) Se l'altezza di un rettangolo viene ridotta del 20% e la base incrementata del 20%, l'area del nuovo rettangolo rispetto all'area del rettangolo iniziale sarà:

A diminuita del 4%
B invariata
C aumentata del 20%

1767) Se: JW - 1 + WK = AX - 6 JW = 3 + AX allora JK è uguale a:

A -8
B -5
C 4

1768) Un vestito che costava 60 euro, con i saldi viene venduto un prezzo pari ai 3/4 del prezzo iniziale. A quanto ammonta lo sconto applicato?

A 15 euro
B 10 euro
C 20 euro

1769) Ciò che colpì subito gli interpreti della poesia pascoliana fu l'ottica totalmente rovesciata della rappresentazione oggettiva: sono cancellate radicalmente le norme tradizionali di ordine, regolarità, prospettiva, rispetto dei rapporti e delle proporzioni, ed è loro sostituito uno sguardo inquieto e irregolare, che privilegia nella situazione i particolari senza una motivazione ragionevole e una logica che intenda esattamente rendere il quadro e anche senza che si riesca immediatamente a comprendere il movente di tale scelta. Di colpo, appaiono in primo piano oggetti e dati, senza preparazione e senza effettiva presentazione, in una sorta di continua dichiarazione di esistenza, dove l'infinitamente piccolo e l'infinitamente grande, il filo di paglia e il sole, gli astri o il sasso, si presentano l'uno dopo l'altro, senza gerarchie di valore o di significato o d'importanza. In questo modo, si assiste a una dissoluzione totale del quadro, scomposto nei particolari e nei singoli elementi che lo costituiscono: e Pascoli appare decisamente al di fuori sia della regola tradizionale, sia delle istanze positiviste di una composizione chiara e distinta e oggettivamente scrupolosa e giustificata nell'elencazione degli oggetti (Giorgio Barberi Squarotti, Pascoli). Secondo l'autore del brano:

A sasso, astri, filo di paglia sono gli oggetti fondamentali della poetica pascoliana.
B Pascoli rispetta decisamente la regola tradizionale.
C in Pascoli non c'è una logica che spieghi la scelta di privilegiare certi particolari di una situazione.

1770) Completare correttamente la seguente successione numerica: 40; 22; 20; 18; 10; 14; 5; ?

A 12
B 10
C 11

1771) Quali tra i termini proposti completano correttamente la seguente proporzione? Stampa : X = telefono : Y

A X = Gutenberg; Y = Meucci
B X = Volta; Y = Fermi
C X = Einstein; Y = Galileo

1772) Individuare l'abbinamento errato:

A Verdi - Turandot
B Mascagni - Cavalleria rusticana.
C Rossini - Il Barbiere di Siviglia

1773) Se al doppio di un numero si aggiunge 4, si ottiene il triplo del numero considerato diminuito di 4. Di quale numero si tratta?

A 8
B 6
C 10

1774) Tutti i poeti sono sognatori. Giacomo è distratto. Tutte le persone distratte sono sognatori. In base alle precedenti affermazioni, quale delle seguenti è necessariamente vera?

A Tutte le persone distratte sono poeti.
B Giacomo è distratto.
C Tutti i poeti sono distratti.

1775) In base all'assunto che "tutti i motorini prodotti in Cina sono molto leggeri", quale delle seguenti affermazioni è necessariamente vera?

A Solo i motorini prodotti in Cina sono leggeri.
B Non esistono motorini prodotti in Cina che siano pesanti.
C È impossibile negare che esista almeno un motorino prodotto in Cina pesante.

1776) Individuare il diagramma che soddisfa la relazione insiemistica esistente tra i termini dati: INSEGNANTI, DONNE, DIVORZIATE

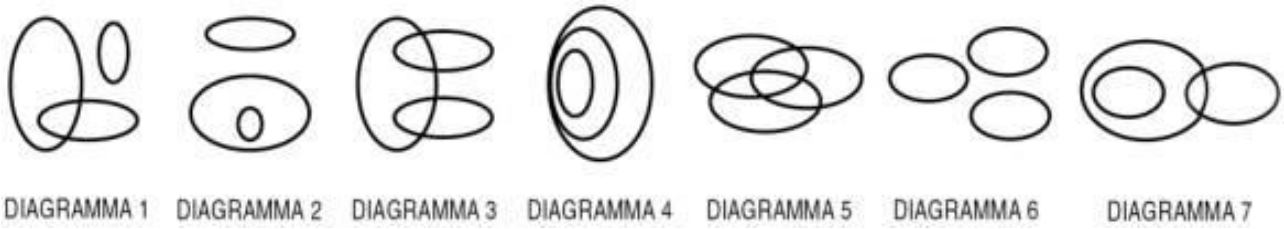

A Diagramma 1
B Diagramma 4
C Diagramma 5

1777) Tutte le pattinatrici sono giovani. Chi è giovane ama ballare. Chi ama ballare non è timido. Se le precedenti informazioni sono vere, quale delle seguenti affermazioni è necessariamente FALSA?

A Chi non ama ballare potrebbe non essere timido.
B Chi è giovane potrebbe essere una pattinatrice.
C Alcune pattinatrici sono timide.

1778) Qual è il maggior numero di piccoli gruppi in cui possano essere suddivisi 90 studenti e 24 insegnanti in modo che in ciascun gruppo vi sia lo stesso numero di insegnanti e studenti?

A 6
B 8
C 5

1779) Un'eredità di 180 000 euro è divisa in tre parti proporzionali ai numeri 2, 3 e 4. A quanto ammonta la porzione più ingente dell'eredità?

A 90 000 euro
B 100 000 euro
C 80 000 euro

1780) È sinonimo di "consono ":

A ambiguo
B adeguato
C conciso

1781) Quale/i dei seguenti sillogismi è/sono vero/i? S1 qualche X è Y, ogni Z è X, allora ogni Z è Y, S2 ogni X è Y, qualche Z non è Y, allora ogni Z non è X, S3 nessun X è Y, qualche X è Z, allora ogni Z non è Y.

A nessuno
B solo S1
C tutti

1782) Quale dei gruppi di lettere che seguono non è l'anagramma del nome di un monte:

A dersanga
B verinoc
C vomison

1783) Un sinonimo di "blandire" è:

A lusingare
B rimproverare
C screditare

1784) Indicare in quale delle seguenti alternative viene rispettata la regola dell'alternanza consonante vocale.

A SIVELAMOLINADIS
B SIVELAMOLINDAIS
C SIVELAMLINADIS

1785) Tre amici stanno passando le vacanze insieme. La mattina ognuno dei tre scende a un orario diverso per fare colazione. Il primo a fare colazione è sempre Riccardo. Una mattina sul tavolo ci sono cinque frutti, una mela, due albicocche, una banana e una pesca. Alberto e Luca mangiano solo albicocche e pesche. Riccardo invece mangia tutti i frutti. Si può dedurre con certezza che:

A se Riccardo decide di mangiare due frutti presenti sul tavolino, uno degli altri due amici potrà mangiare due frutti rimanenti
B se Riccardo decide di mangiare due frutti presenti sul tavolino, almeno uno degli altri due amici potrà mangiare almeno uno dei frutti rimanenti
C se Riccardo decide di mangiare due frutti presenti sul tavolino, entrambi gli altri due amici potranno mangiare uno dei frutti rimanenti a testa

---

1786) Sottraendo 1234 da 5055 quale risultato si ottiene?

A 3720
B 3821
C 3619

1787) Indicare la coppia di termini che completa logicamente la seguente proporzione verbale: x : teorico = concreto : y

A x = apocrifo y = ipocrita
B x = tangibile y = intangibile
C x = empirico y = astratto

1788) Se il 35% di x è uguale a 140, quanto vale il 20% di x?

A 160
B 320
C 80

1789) Si dice che "prende lucciole per lanterne" una persona che:

A Perde inutilmente il suo tempo affannandosi per fare cose di nessuna importanza.
B Inganna abitualmente il suo prossimo per tornaconto personale.
C Confonde una cosa con un'altra rimanendo vittima di un vistoso abbaglio.

1790) Tendenzioso significa:

A non obiettivo
B incomprensibile
C controcorrente

1791) Tre tappezzieri realizzano un divano rispettivamente in quattro, cinque e dieci giorni. Quanto tempo impiegano a realizzare 11 divani lavorando insieme?

A 10 giorni
B 30 giorni
C 20 giorni

1792) Indicare la sillaba che, posposta al primo e anteposta al secondo gruppo di lettere forma due parole di significato compiuto. ere (...) sco

A li
B ta
C di

1793) Un'espressione che indica l'esimersi da ogni responsabilità a riguardo di qualcosa è:

A voltare pagina
B andare a Canossa
C lavarsene le mani

1794) Un noto gioco consiste nell'inserire nove numeri nelle caselle di un quadrato 3x3, in modo che la somma dei tre numeri che si trovano su ciascuna riga, ciascuna colonna e lungo le due diagonali sia la stessa. Si dica quanto deve essere questa somma se i numeri da inserire sono: 3, 6, 9, 12, 15, 18, 21 ,24, 27.

A 36
B 45
C 40

1795) Se l'affermazione "Tutte i monopattini elettrici sono leggeri" è falsa, quale delle seguenti affermazioni è vera?

A Non esistono monopattini elettrici leggeri.
B Almeno un monopattino elettrico non è leggero.
C Almeno un monopattino elettrico è leggero.

1796) I 900 seggi di un parlamento sono ripartiti fra 10 partiti politici. Non ci sono due partiti con uno stesso numero di seggi e il 10°, quello con il minor numero di seggi, ne ha 25.. Collocando i partiti in ordine decrescente per numero di seggi, qual è il più alto numero di seggi che il quinto partito può avere?

A 151
B 155
C 153

1797) Completare correttamente la seguente successione numerica: 80; 32; 40; 28; 20; 24; 10; ?; ?

A 20; 5
B 16; 8
C 18; 8

1798) Se un pappagallo mangi la stessa quantità di cibo ogni giorno e che lo stesso avviene per ogni canarino, ogni giorno con 14 grammi di becchime si sfamano 4 pappagalli e 3 canarini, mentre con 18 grammi dello stesso mangime si sfamano 4 pappagalli e 5 canarini. Quale delle seguenti affermazioni NON è vera?

A Un pappagallo ogni giorno mangia quanto un canarino.
B Un canarino viene sfamato per 2 giorni con 4 grammi di becchime.
C Due pappagalli e sei canarini richiedono ogni giorno lo stesso becchime di cinque pappagalli.

1799) Se: X + Y + 3 = 2X - 3, Y = 3 allora X è uguale a:

A -9
B 9
C -3

1800) Sottraendo 4216 da 8432 quale risultato si ottiene?

A 4216
B 4218
C 4214

CAPACITÀ LOGICO-DEDUTTIVA E RAG. LOGICO-MATEMATICO
RISPOSTE CORRETTE

1 **A**	2 **C**	3 **B**	4 **C**	5 **B**
6 **C**	7 **A**	8 **C**	9 **A**	10 **B**
11 **C**	12 **C**	13 **A**	14 **B**	15 **A**
16 **B**	17 **A**	18 **A**	19 **A**	20 **A**
21 **A**	22 **C**	23 **A**	24 **A**	25 **C**
26 **A**	27 **A**	28 **B**	29 **C**	30 **A**
31 **B**	32 **C**	33 **C**	34 **B**	35 **C**
36 **C**	37 **C**	38 **A**	39 **B**	40 **A**
41 **A**	42 **B**	43 **C**	44 **C**	45 **C**
46 **C**	47 **A**	48 **A**	49 **B**	50 **A**
51 **C**	52 **C**	53 **C**	54 **C**	55 **B**
56 **C**	57 **C**	58 **C**	59 **A**	60 **B**
61 **B**	62 **C**	63 **C**	64 **B**	65 **C**
66 **B**	67 **B**	68 **C**	69 **B**	70 **B**
71 **A**	72 **B**	73 **C**	74 **C**	75 **B**
76 **A**	77 **B**	78 **C**	79 **A**	80 **C**
81 **B**	82 **C**	83 **C**	84 **C**	85 **B**
86 **A**	87 **C**	88 **B**	89 **C**	90 **C**
91 **C**	92 **C**	93 **A**	94 **B**	95 **C**
96 **A**	97 **A**	98 **A**	99 **C**	100 **A**
101 **B**	102 **A**	103 **B**	104 **C**	105 **B**
106 **B**	107 **C**	108 **B**	109 **C**	110 **B**
111 **C**	112 **B**	113 **A**	114 **C**	115 **A**
116 **B**	117 **C**	118 **A**	119 **B**	120 **B**
121 **B**	122 **C**	123 **A**	124 **B**	125 **B**
126 **A**	127 **A**	128 **A**	129 **B**	130 **B**
131 **B**	132 **B**	133 **B**	134 **C**	135 **C**
136 **A**	137 **C**	138 **B**	139 **C**	140 **A**
141 **A**	142 **A**	143 **C**	144 **C**	145 **C**
146 **A**	147 **A**	148 **C**	149 **C**	150 **C**
151 **A**	152 **C**	153 **B**	154 **C**	155 **C**
156 **B**	157 **C**	158 **B**	159 **B**	160 **B**
161 **B**	162 **C**	163 **A**	164 **A**	165 **B**
166 **A**	167 **A**	168 **B**	169 **B**	170 **A**
171 **A**	172 **B**	173 **C**	174 **A**	175 **A**
176 **A**	177 **B**	178 **A**	179 **B**	180 **C**
181 **C**	182 **C**	183 **C**	184 **C**	185 **B**
186 **A**	187 **A**	188 **C**	189 **B**	190 **A**
191 **B**	192 **B**	193 **C**	194 **A**	195 **C**
196 **B**	197 **A**	198 **C**	199 **C**	200 **B**
201 **C**	202 **C**	203 **C**	204 **B**	205 **A**
206 **B**	207 **A**	208 **B**	209 **C**	210 **A**
211 **C**	212 **A**	213 **A**	214 **A**	215 **A**
216 **C**	217 **C**	218 **A**	219 **B**	220 **C**
221 **C**	222 **A**	223 **A**	224 **A**	225 **C**
226 **A**	227 **C**	228 **A**	229 **B**	230 **B**
231 **B**	232 **C**	233 **A**	234 **C**	235 **B**

236 **C**	237 **A**	238 **C**	239 **B**	240 **C**
241 **A**	242 **B**	243 **A**	244 **B**	245 **B**
246 **C**	247 **C**	248 **C**	249 **A**	250 **B**
251 **A**	252 **B**	253 **A**	254 **B**	255 **B**
256 **A**	257 **A**	258 **A**	259 **A**	260 **B**
261 **B**	262 **A**	263 **B**	264 **B**	265 **B**
266 **B**	267 **C**	268 **A**	269 **C**	270 **A**
271 **B**	272 **A**	273 **A**	274 **B**	275 **C**
276 **A**	277 **B**	278 **B**	279 **C**	280 **A**
281 **A**	282 **C**	283 **B**	284 **C**	285 **A**
286 **A**	287 **C**	288 **B**	289 **A**	290 **C**
291 **C**	292 **B**	293 **C**	294 **C**	295 **C**
296 **A**	297 **C**	298 **A**	299 **B**	300 **C**
301 **A**	302 **A**	303 **B**	304 **C**	305 **C**
306 **C**	307 **A**	308 **A**	309 **A**	310 **C**
311 **C**	312 **A**	313 **C**	314 **C**	315 **B**
316 **A**	317 **B**	318 **A**	319 **C**	320 **B**
321 **A**	322 **A**	323 **C**	324 **C**	325 **C**
326 **A**	327 **C**	328 **C**	329 **C**	330 **B**
331 **C**	332 **A**	333 **C**	334 **B**	335 **A**
336 **B**	337 **B**	338 **A**	339 **A**	340 **C**
341 **A**	342 **C**	343 **B**	344 **C**	345 **C**
346 **C**	347 **C**	348 **B**	349 **A**	350 **C**
351 **A**	352 **C**	353 **C**	354 **B**	355 **B**
356 **A**	357 **C**	358 **A**	359 **A**	360 **C**
361 **B**	362 **A**	363 **A**	364 **B**	365 **B**
366 **A**	367 **C**	368 **C**	369 **B**	370 **B**
371 **A**	372 **A**	373 **A**	374 **A**	375 **B**
376 **A**	377 **A**	378 **B**	379 **B**	380 **C**
381 **C**	382 **C**	383 **C**	384 **A**	385 **A**
386 **A**	387 **C**	388 **B**	389 **B**	390 **A**
391 **C**	392 **B**	393 **C**	394 **A**	395 **B**
396 **C**	397 **C**	398 **B**	399 **B**	400 **B**
401 **C**	402 **A**	403 **C**	404 **C**	405 **C**
406 **B**	407 **B**	408 **C**	409 **A**	410 **B**
411 **A**	412 **C**	413 **B**	414 **A**	415 **B**
416 **A**	417 **A**	418 **A**	419 **C**	420 **A**
421 **A**	422 **C**	423 **B**	424 **B**	425 **B**
426 **A**	427 **C**	428 **A**	429 **A**	430 **A**
431 **A**	432 **A**	433 **C**	434 **A**	435 **C**
436 **C**	437 **C**	438 **A**	439 **A**	440 **A**
441 **A**	442 **B**	443 **C**	444 **B**	445 **C**
446 **B**	447 **B**	448 **C**	449 **C**	450 **B**
451 **B**	452 **A**	453 **A**	454 **B**	455 **B**
456 **C**	457 **A**	458 **A**	459 **B**	460 **B**
461 **A**	462 **B**	463 **A**	464 **A**	465 **A**
466 **A**	467 **B**	468 **B**	469 **B**	470 **B**
471 **C**	472 **B**	473 **C**	474 **A**	475 **C**
476 **C**	477 **A**	478 **A**	479 **B**	480 **A**
481 **B**	482 **C**	483 **C**	484 **B**	485 **B**
486 **C**	487 **C**	488 **A**	489 **B**	490 **B**
491 **B**	492 **B**	493 **A**	494 **C**	495 **A**
496 **C**	497 **B**	498 **A**	499 **A**	500 **B**
501 **C**	502 **B**	503 **A**	504 **B**	505 **A**
506 **B**	507 **C**	508 **B**	509 **C**	510 **C**

511 **C**	512 **C**	513 **A**	514 **B**	515 **A**
516 **A**	517 **A**	518 **B**	519 **C**	520 **C**
521 **A**	522 **B**	523 **A**	524 **C**	525 **A**
526 **B**	527 **B**	528 **C**	529 **B**	530 **B**
531 **A**	532 **B**	533 **C**	534 **B**	535 **C**
536 **B**	537 **B**	538 **A**	539 **A**	540 **C**
541 **B**	542 **B**	543 **A**	544 **A**	545 **B**
546 **A**	547 **C**	548 **A**	549 **A**	550 **A**
551 **A**	552 **A**	553 **A**	554 **C**	555 **A**
556 **B**	557 **A**	558 **C**	559 **C**	560 **B**
561 **C**	562 **A**	563 **B**	564 **A**	565 **B**
566 **C**	567 **A**	568 **C**	569 **B**	570 **C**
571 **B**	572 **A**	573 **B**	574 **B**	575 **B**
576 **A**	577 **A**	578 **A**	579 **C**	580 **C**
581 **A**	582 **C**	583 **B**	584 **A**	585 **C**
586 **C**	587 **A**	588 **A**	589 **A**	590 **C**
591 **B**	592 **C**	593 **C**	594 **B**	595 **C**
596 **B**	597 **A**	598 **C**	599 **C**	600 **B**
601 **C**	602 **B**	603 **B**	604 **A**	605 **A**
606 **A**	607 **A**	608 **A**	609 **A**	610 **C**
611 **C**	612 **A**	613 **C**	614 **A**	615 **A**
616 **C**	617 **B**	618 **C**	619 **A**	620 **A**
621 **B**	622 **A**	623 **A**	624 **B**	625 **A**
626 **C**	627 **A**	628 **C**	629 **C**	630 **A**
631 **C**	632 **A**	633 **B**	634 **B**	635 **A**
636 **B**	637 **A**	638 **B**	639 **A**	640 **C**
641 **A**	642 **C**	643 **A**	644 **B**	645 **A**
646 **A**	647 **C**	648 **A**	649 **A**	650 **C**
651 **A**	652 **A**	653 **B**	654 **C**	655 **A**
656 **C**	657 **B**	658 **C**	659 **A**	660 **A**
661 **C**	662 **B**	663 **B**	664 **B**	665 **B**
666 **A**	667 **A**	668 **B**	669 **C**	670 **B**
671 **C**	672 **B**	673 **A**	674 **C**	675 **C**
676 **B**	677 **A**	678 **A**	679 **B**	680 **B**
681 **A**	682 **B**	683 **B**	684 **A**	685 **C**
686 **A**	687 **C**	688 **A**	689 **B**	690 **A**
691 **A**	692 **B**	693 **A**	694 **B**	695 **B**
696 **C**	697 **A**	698 **C**	699 **B**	700 **B**
701 **C**	702 **A**	703 **C**	704 **C**	705 **B**
706 **C**	707 **A**	708 **B**	709 **A**	710 **C**
711 **B**	712 **A**	713 **C**	714 **B**	715 **C**
716 **B**	717 **B**	718 **C**	719 **B**	720 **A**
721 **B**	722 **B**	723 **C**	724 **C**	725 **A**
726 **C**	727 **C**	728 **C**	729 **C**	730 **B**
731 **A**	732 **A**	733 **C**	734 **B**	735 **C**
736 **A**	737 **B**	738 **A**	739 **C**	740 **A**
741 **B**	742 **B**	743 **C**	744 **A**	745 **C**
746 **C**	747 **B**	748 **A**	749 **A**	750 **A**
751 **A**	752 **B**	753 **A**	754 **C**	755 **A**
756 **C**	757 **A**	758 **B**	759 **C**	760 **C**
761 **B**	762 **C**	763 **C**	764 **B**	765 **B**
766 **B**	767 **A**	768 **C**	769 **A**	770 **B**
771 **B**	772 **B**	773 **B**	774 **A**	775 **C**
776 **A**	777 **B**	778 **A**	779 **B**	780 **C**
781 **B**	782 **C**	783 **B**	784 **C**	785 **B**

786 **C**	787 **C**	788 **A**	789 **A**	790 **A**
791 **A**	792 **A**	793 **C**	794 **A**	795 **A**
796 **A**	797 **B**	798 **A**	799 **B**	800 **C**
801 **A**	802 **B**	803 **C**	804 **A**	805 **B**
806 **C**	807 **C**	808 **B**	809 **A**	810 **A**
811 **A**	812 **A**	813 **A**	814 **C**	815 **C**
816 **A**	817 **C**	818 **C**	819 **B**	820 **C**
821 **C**	822 **B**	823 **B**	824 **C**	825 **C**
826 **C**	827 **B**	828 **A**	829 **C**	830 **B**
831 **B**	832 **A**	833 **C**	834 **C**	835 **B**
836 **A**	837 **B**	838 **C**	839 **C**	840 **B**
841 **A**	842 **B**	843 **C**	844 **B**	845 **A**
846 **B**	847 **C**	848 **A**	849 **C**	850 **A**
851 **C**	852 **A**	853 **A**	854 **B**	855 **A**
856 **C**	857 **C**	858 **C**	859 **A**	860 **A**
861 **A**	862 **B**	863 **C**	864 **A**	865 **B**
866 **A**	867 **B**	868 **C**	869 **B**	870 **B**
871 **B**	872 **B**	873 **B**	874 **C**	875 **A**
876 **A**	877 **C**	878 **B**	879 **B**	880 **A**
881 **B**	882 **C**	883 **C**	884 **A**	885 **C**
886 **A**	887 **C**	888 **B**	889 **A**	890 **A**
891 **C**	892 **A**	893 **C**	894 **C**	895 **A**
896 **A**	897 **B**	898 **C**	899 **A**	900 **B**
901 **B**	902 **B**	903 **C**	904 **A**	905 **A**
906 **C**	907 **C**	908 **C**	909 **B**	910 **C**
911 **C**	912 **C**	913 **C**	914 **A**	915 **C**
916 **B**	917 **C**	918 **C**	919 **C**	920 **B**
921 **B**	922 **B**	923 **A**	924 **A**	925 **A**
926 **A**	927 **A**	928 **A**	929 **C**	930 **A**
931 **B**	932 **C**	933 **B**	934 **A**	935 **B**
936 **C**	937 **A**	938 **C**	939 **A**	940 **C**
941 **A**	942 **C**	943 **B**	944 **C**	945 **A**
946 **B**	947 **A**	948 **A**	949 **B**	950 **B**
951 **C**	952 **A**	953 **A**	954 **C**	955 **C**
956 **A**	957 **B**	958 **B**	959 **A**	960 **B**
961 **C**	962 **A**	963 **C**	964 **A**	965 **B**
966 **A**	967 **A**	968 **C**	969 **C**	970 **B**
971 **A**	972 **A**	973 **A**	974 **A**	975 **A**
976 **C**	977 **B**	978 **A**	979 **B**	980 **A**
981 **A**	982 **A**	983 **C**	984 **A**	985 **A**
986 **A**	987 **A**	988 **C**	989 **A**	990 **A**
991 **B**	992 **A**	993 **B**	994 **B**	995 **B**
996 **A**	997 **A**	998 **A**	999 **C**	1000 **A**
1001 **A**	1002 **B**	1003 **B**	1004 **B**	1005 **A**
1006 **A**	1007 **B**	1008 **B**	1009 **C**	1010 **B**
1011 **A**	1012 **A**	1013 **B**	1014 **C**	1015 **C**
1016 **B**	1017 **B**	1018 **B**	1019 **B**	1020 **C**
1021 **B**	1022 **A**	1023 **A**	1024 **A**	1025 **C**
1026 **B**	1027 **A**	1028 **C**	1029 **C**	1030 **C**
1031 **B**	1032 **C**	1033 **B**	1034 **A**	1035 **A**
1036 **C**	1037 **B**	1038 **A**	1039 **B**	1040 **B**
1041 **C**	1042 **C**	1043 **A**	1044 **A**	1045 **B**
1046 **A**	1047 **C**	1048 **C**	1049 **A**	1050 **B**
1051 **A**	1052 **A**	1053 **C**	1054 **C**	1055 **A**
1056 **C**	1057 **B**	1058 **B**	1059 **C**	1060 **A**

1061 **B**	1062 **B**	1063 **A**	1064 **A**	1065 **C**
1066 **C**	1067 **C**	1068 **B**	1069 **B**	1070 **A**
1071 **A**	1072 **B**	1073 **C**	1074 **A**	1075 **C**
1076 **A**	1077 **B**	1078 **C**	1079 **C**	1080 **B**
1081 **A**	1082 **C**	1083 **C**	1084 **A**	1085 **B**
1086 **A**	1087 **A**	1088 **C**	1089 **B**	1090 **C**
1091 **A**	1092 **C**	1093 **A**	1094 **C**	1095 **B**
1096 **C**	1097 **A**	1098 **A**	1099 **C**	1100 **B**
1101 **A**	1102 **A**	1103 **B**	1104 **A**	1105 **A**
1106 **C**	1107 **B**	1108 **A**	1109 **B**	1110 **A**
1111 **C**	1112 **A**	1113 **A**	1114 **B**	1115 **C**
1116 **B**	1117 **B**	1118 **C**	1119 **B**	1120 **C**
1121 **B**	1122 **A**	1123 **A**	1124 **C**	1125 **B**
1126 **B**	1127 **B**	1128 **A**	1129 **A**	1130 **A**
1131 **C**	1132 **B**	1133 **B**	1134 **B**	1135 **A**
1136 **B**	1137 **C**	1138 **C**	1139 **A**	1140 **C**
1141 **B**	1142 **A**	1143 **A**	1144 **C**	1145 **B**
1146 **A**	1147 **A**	1148 **B**	1149 **C**	1150 **C**
1151 **A**	1152 **C**	1153 **C**	1154 **A**	1155 **A**
1156 **B**	1157 **A**	1158 **B**	1159 **C**	1160 **A**
1161 **A**	1162 **A**	1163 **A**	1164 **B**	1165 **C**
1166 **C**	1167 **B**	1168 **C**	1169 **A**	1170 **A**
1171 **C**	1172 **B**	1173 **A**	1174 **A**	1175 **C**
1176 **B**	1177 **A**	1178 **A**	1179 **A**	1180 **C**
1181 **A**	1182 **B**	1183 **C**	1184 **B**	1185 **C**
1186 **B**	1187 **C**	1188 **A**	1189 **B**	1190 **A**
1191 **B**	1192 **C**	1193 **A**	1194 **C**	1195 **B**
1196 **C**	1197 **C**	1198 **B**	1199 **C**	1200 **A**
1201 **C**	1202 **A**	1203 **B**	1204 **B**	1205 **A**
1206 **C**	1207 **B**	1208 **B**	1209 **A**	1210 **A**
1211 **C**	1212 **B**	1213 **C**	1214 **A**	1215 **C**
1216 **C**	1217 **A**	1218 **B**	1219 **A**	1220 **B**
1221 **B**	1222 **C**	1223 **A**	1224 **B**	1225 **B**
1226 **B**	1227 **A**	1228 **B**	1229 **A**	1230 **A**
1231 **C**	1232 **A**	1233 **A**	1234 **B**	1235 **A**
1236 **C**	1237 **B**	1238 **A**	1239 **C**	1240 **C**
1241 **B**	1242 **B**	1243 **A**	1244 **B**	1245 **A**
1246 **A**	1247 **A**	1248 **B**	1249 **B**	1250 **A**
1251 **A**	1252 **A**	1253 **C**	1254 **A**	1255 **A**
1256 **C**	1257 **A**	1258 **C**	1259 **A**	1260 **A**
1261 **A**	1262 **B**	1263 **C**	1264 **C**	1265 **C**
1266 **B**	1267 **C**	1268 **B**	1269 **A**	1270 **A**
1271 **A**	1272 **B**	1273 **C**	1274 **C**	1275 **B**
1276 **C**	1277 **C**	1278 **C**	1279 **A**	1280 **A**
1281 **B**	1282 **B**	1283 **C**	1284 **A**	1285 **A**
1286 **A**	1287 **C**	1288 **A**	1289 **B**	1290 **C**
1291 **B**	1292 **A**	1293 **A**	1294 **B**	1295 **B**
1296 **B**	1297 **C**	1298 **C**	1299 **B**	1300 **C**
1301 **A**	1302 **B**	1303 **C**	1304 **B**	1305 **A**
1306 **B**	1307 **C**	1308 **B**	1309 **C**	1310 **B**
1311 **B**	1312 **A**	1313 **A**	1314 **A**	1315 **C**
1316 **B**	1317 **A**	1318 **B**	1319 **B**	1320 **A**
1321 **A**	1322 **B**	1323 **A**	1324 **C**	1325 **A**
1326 **B**	1327 **A**	1328 **B**	1329 **C**	1330 **C**
1331 **C**	1332 **B**	1333 **C**	1334 **C**	1335 **C**

1336 **B**	1337 **B**	1338 **C**	1339 **A**	1340 **B**
1341 **A**	1342 **B**	1343 **A**	1344 **C**	1345 **A**
1346 **A**	1347 **A**	1348 **B**	1349 **C**	1350 **B**
1351 **B**	1352 **A**	1353 **A**	1354 **B**	1355 **B**
1356 **C**	1357 **C**	1358 **C**	1359 **C**	1360 **C**
1361 **B**	1362 **C**	1363 **A**	1364 **B**	1365 **B**
1366 **B**	1367 **C**	1368 **B**	1369 **B**	1370 **B**
1371 **C**	1372 **C**	1373 **C**	1374 **B**	1375 **C**
1376 **A**	1377 **C**	1378 **B**	1379 **C**	1380 **B**
1381 **A**	1382 **C**	1383 **C**	1384 **A**	1385 **A**
1386 **B**	1387 **B**	1388 **A**	1389 **A**	1390 **C**
1391 **B**	1392 **C**	1393 **B**	1394 **A**	1395 **B**
1396 **C**	1397 **A**	1398 **C**	1399 **A**	1400 **C**
1401 **B**	1402 **A**	1403 **A**	1404 **C**	1405 **C**
1406 **B**	1407 **A**	1408 **C**	1409 **A**	1410 **A**
1411 **A**	1412 **B**	1413 **C**	1414 **A**	1415 **A**
1416 **B**	1417 **A**	1418 **B**	1419 **A**	1420 **B**
1421 **C**	1422 **B**	1423 **B**	1424 **C**	1425 **C**
1426 **B**	1427 **A**	1428 **C**	1429 **B**	1430 **C**
1431 **A**	1432 **A**	1433 **C**	1434 **A**	1435 **B**
1436 **A**	1437 **C**	1438 **B**	1439 **B**	1440 **C**
1441 **A**	1442 **C**	1443 **C**	1444 **A**	1445 **B**
1446 **B**	1447 **B**	1448 **A**	1449 **C**	1450 **B**
1451 **B**	1452 **A**	1453 **B**	1454 **C**	1455 **C**
1456 **A**	1457 **A**	1458 **A**	1459 **A**	1460 **A**
1461 **C**	1462 **C**	1463 **C**	1464 **C**	1465 **A**
1466 **C**	1467 **C**	1468 **A**	1469 **A**	1470 **B**
1471 **C**	1472 **A**	1473 **C**	1474 **A**	1475 **C**
1476 **C**	1477 **C**	1478 **A**	1479 **A**	1480 **A**
1481 **B**	1482 **B**	1483 **A**	1484 **A**	1485 **C**
1486 **B**	1487 **B**	1488 **A**	1489 **B**	1490 **C**
1491 **C**	1492 **C**	1493 **A**	1494 **B**	1495 **A**
1496 **A**	1497 **B**	1498 **C**	1499 **A**	1500 **B**
1501 **B**	1502 **A**	1503 **C**	1504 **A**	1505 **A**
1506 **A**	1507 **B**	1508 **B**	1509 **A**	1510 **B**
1511 **C**	1512 **B**	1513 **B**	1514 **C**	1515 **C**
1516 **B**	1517 **B**	1518 **B**	1519 **A**	1520 **C**
1521 **A**	1522 **C**	1523 **B**	1524 **B**	1525 **A**
1526 **C**	1527 **C**	1528 **B**	1529 **B**	1530 **C**
1531 **A**	1532 **C**	1533 **C**	1534 **B**	1535 **A**
1536 **A**	1537 **C**	1538 **C**	1539 **C**	1540 **A**
1541 **B**	1542 **C**	1543 **C**	1544 **A**	1545 **B**
1546 **A**	1547 **A**	1548 **B**	1549 **B**	1550 **B**
1551 **A**	1552 **B**	1553 **A**	1554 **C**	1555 **C**
1556 **B**	1557 **C**	1558 **B**	1559 **B**	1560 **C**
1561 **A**	1562 **A**	1563 **A**	1564 **B**	1565 **B**
1566 **B**	1567 **B**	1568 **C**	1569 **C**	1570 **A**
1571 **B**	1572 **B**	1573 **C**	1574 **C**	1575 **A**
1576 **B**	1577 **B**	1578 **B**	1579 **A**	1580 **C**
1581 **B**	1582 **C**	1583 **A**	1584 **B**	1585 **C**
1586 **A**	1587 **B**	1588 **A**	1589 **C**	1590 **A**
1591 **B**	1592 **B**	1593 **C**	1594 **C**	1595 **B**
1596 **C**	1597 **C**	1598 **B**	1599 **A**	1600 **B**
1601 **C**	1602 **A**	1603 **A**	1604 **C**	1605 **A**
1606 **B**	1607 **C**	1608 **B**	1609 **A**	1610 **C**

1611 **C**	1612 **C**	1613 **B**	1614 **A**	1615 **B**
1616 **B**	1617 **A**	1618 **B**	1619 **C**	1620 **A**
1621 **B**	1622 **B**	1623 **B**	1624 **C**	1625 **A**
1626 **B**	1627 **A**	1628 **C**	1629 **C**	1630 **C**
1631 **A**	1632 **C**	1633 **C**	1634 **A**	1635 **B**
1636 **B**	1637 **C**	1638 **B**	1639 **A**	1640 **B**
1641 **A**	1642 **B**	1643 **A**	1644 **A**	1645 **B**
1646 **B**	1647 **C**	1648 **C**	1649 **C**	1650 **C**
1651 **B**	1652 **C**	1653 **B**	1654 **A**	1655 **C**
1656 **C**	1657 **B**	1658 **B**	1659 **C**	1660 **C**
1661 **C**	1662 **B**	1663 **C**	1664 **A**	1665 **A**
1666 **C**	1667 **A**	1668 **B**	1669 **A**	1670 **B**
1671 **A**	1672 **A**	1673 **A**	1674 **C**	1675 **B**
1676 **B**	1677 **A**	1678 **A**	1679 **C**	1680 **A**
1681 **B**	1682 **C**	1683 **B**	1684 **B**	1685 **A**
1686 **C**	1687 **A**	1688 **A**	1689 **C**	1690 **A**
1691 **C**	1692 **C**	1693 **B**	1694 **C**	1695 **A**
1696 **C**	1697 **C**	1698 **B**	1699 **A**	1700 **A**
1701 **A**	1702 **A**	1703 **C**	1704 **B**	1705 **B**
1706 **B**	1707 **A**	1708 **B**	1709 **C**	1710 **B**
1711 **B**	1712 **B**	1713 **C**	1714 **B**	1715 **A**
1716 **C**	1717 **A**	1718 **B**	1719 **A**	1720 **A**
1721 **C**	1722 **A**	1723 **B**	1724 **B**	1725 **B**
1726 **B**	1727 **A**	1728 **A**	1729 **B**	1730 **A**
1731 **B**	1732 **A**	1733 **B**	1734 **A**	1735 **B**
1736 **B**	1737 **A**	1738 **A**	1739 **C**	1740 **B**
1741 **A**	1742 **C**	1743 **B**	1744 **A**	1745 **C**
1746 **C**	1747 **C**	1748 **B**	1749 **A**	1750 **C**
1751 **C**	1752 **A**	1753 **A**	1754 **A**	1755 **C**
1756 **A**	1757 **A**	1758 **A**	1759 **C**	1760 **B**
1761 **C**	1762 **C**	1763 **A**	1764 **B**	1765 **A**
1766 **A**	1767 **A**	1768 **A**	1769 **C**	1770 **B**
1771 **A**	1772 **A**	1773 **A**	1774 **B**	1775 **B**
1776 **C**	1777 **C**	1778 **A**	1779 **C**	1780 **B**
1781 **A**	1782 **A**	1783 **A**	1784 **A**	1785 **B**
1786 **B**	1787 **C**	1788 **C**	1789 **C**	1790 **A**
1791 **C**	1792 **C**	1793 **C**	1794 **B**	1795 **B**
1796 **A**	1797 **A**	1798 **C**	1799 **B**	1800 **A**

ELEMENTI DI DIRITTO PENALE E FUNZIONI POLIZIA GIUDIZIARIA
DOMANDE

1) Il consenso della persona offesa all'intervento degli enti e associazioni rappresentativi di interessi lesi dal reato deve risultare:

A solo da scrittura privata autenticata.
B da atto pubblico o scrittura privata autenticata.
C solo da atto pubblico.

2) La persona danneggiata dal reato:

A può costituirsi parte civile solo dopo l'accertamento della regolare costituzione delle parti in dibattimento.
B può costituirsi parte civile subito dopo l'accertamento sulla regolare costituzione delle parti in dibattimento solo quando sia stata esclusa nel corso dell'udienza preliminare .
C può costituirsi parte civile fino a che non siano compiuti gli adempimenti per l'accertamento sulla regolare costituzione delle parti in dibattimento.

3) Qual è la definizione della sospensione condizionale della pena?

A È una causa di estinzione del reato, ricorrendo le condizioni previste dalla legge.
B È una causa di estinzione della pena, ricorrendo le condizioni previste dalla legge.
C È una sanzione sostitutiva di talune pene detentive

4) Le circostanze previste dagli artt. 61 e 62 c.p. sono:

A elementi accidentali che incidono sulla pena, aumentandola o diminuendola.
B elementi essenziali che incidono sulla natura del reato.
C elementi accidentali che risultano irrilevanti rispetto alle conseguenze penali del fatto

5) L'espulsione dello straniero dallo Stato, quale misura di sicurezza personale non detentiva, viene ordinata:

A dal questore.
B dal prefetto.
C dal giudice.

6) Il caso fortuito è:

A un accadimento eccezionale e non prevedibile.
B una causa personale di estinzione dalla pena.
C una causa di esclusione dell'imputabilità

7) Se taluno fa uso di un atto pubblico falso, pur non essendo concorso nel reato di falso:

A non è mai punibile.
B non è punibile, salvo che il fatto arrechi ad altri un danno.
C è comunque punibile.

8) Si configura il reato di attentato alla sicurezza delle pubbliche comunicazioni laddove taluno attenti alla sicurezza delle pubbliche comunicazioni telefoniche, qualora dal fatto derivi l'interruzione parziale del funzionamento dell'impianto?

A No, perché per la sussistenza del reato di attentato alla sicurezza delle pubbliche comunicazioni, occorre che dal fatto derivi pericolo alla pubblica incolumità.
B No, perché per la sussistenza del reato di attentato alla sicurezza delle pubbliche comunicazioni, occorre che dal fatto derivi la morte di alcuno.
C No, perché per la sussistenza del reato di attentato alla sicurezza delle pubbliche comunicazioni, occorre che dal fatto derivi un nocumento all'industria nazionale.

9) La pena detentiva prevista per il delitto di "frode informatica", in assenza di circostanze aggravanti o attenuanti, è della reclusione:

A da 6 mesi a 3 anni.
B da 1 mese a 1 anno e 6 mesi.
C da 3 mesi a 2 anni.

10) La pena dell'arresto per i recidivi si estingue per prescrizione?

A Sì, in 5 anni nei casi di recidiva semplice, in 10 anni nelle ipotesi di recidiva aggravata.
B Sì, sempre in 5 anni.
C Sì, sempre in 10 anni.

11) Il delitto di "danneggiamento di animali altrui" è compreso:

A tra i delitti contro la pubblica amministrazione.
B tra i delitti contro la persona.
C tra i delitti contro il patrimonio.

12) L'amnistia è applicabile ai delinquenti professionali?

A Sì, senza eccezioni.
B No, senza eccezioni.
C No, salvo che sia diversamente disposto.

13) Non è punibile il pubblico ufficiale che, al fine di adempiere un dovere del proprio ufficio, ordini di far uso delle armi quando vi è costretto dalla necessità di impedire la consumazione del delitto di:

A spaccio di sostanze stupefacenti.
B strage.
C lesioni personali gravi.

14) Se una persona usa violenza contro il complice per impossessarsi della metà del prezzo del reato in precedenza commesso a danni di terzi commette il reato di:

A rapina.
B esercizio arbitrario delle proprie ragioni.
C violenza privata.

15) Per il reato di partecipazione a giochi d'azzardo:

A la pena è diminuita in caso di sorpresa in un pubblico esercizio.
B la pena è aumentata in caso di sorpresa in un circolo privato.
C la pena è aumentata in caso di sorpresa in un pubblico esercizio.

16) All'incaricato di un pubblico servizio che, per l'esercizio delle sue funzioni, indebitamente accetta la promessa di denaro si applica:

A la pena stabilita per il delitto di corruzione per l'esercizio della funzione, commesso da pubblico ufficiale, ma in misura ridotta.
B la stessa pena stabilita per il delitto di corruzione per l'esercizio della funzione, commesso da pubblico ufficiale.
C la pena stabilita per il delitto di rifiuto di atti d'ufficio.

17) Chi commette un reato in stato di piena ubriachezza e di conseguente totale incapacità di intendere o di volere:

A non è imputabile se l'ubriachezza è colposa.
B non è imputabile se l'ubriachezza è volontaria.
C non è imputabile se l'ubriachezza è derivata da caso fortuito o da forza maggiore.

18) Se il reato è stato commesso da un minore degli anni diciotto, l'esecuzione della pena può rimanere sospesa quando il giudice pronuncia sentenza di condanna:

A alla pena dell'arresto o della reclusione per un tempo non superiore a tre anni, anche se congiunta a qualsiasi pena pecuniaria.
B all'arresto per un tempo non superiore a tre anni, o alla reclusione per un tempo non superiore a due anni e sei mesi.
C all'arresto o alla reclusione per un tempo non superiore a tre anni, ovvero a pena pecuniaria che, sola o congiunta alla pena detentiva e ragguagliata a questa, sia equivalente a una pena privativa della libertà personale per un tempo non superiore, nel complesso, a tre anni.

19) Abusando della sua qualità di esercente un servizio di pubblica necessità, Caio induce Tizio, dipendente comunale, a dargli indebitamente una somma di denaro. Commette il delitto di concussione?

A No, perché per la configurabilità del delitto di concussione è necessario che il soggetto indotto a dare o promettere indebitamente sia estraneo alla pubblica amministrazione.
B No.
C Sì, lo commette.

20) Il delitto di "Introduzione di animali nel fondo altrui" è punibile:

A sempre d'ufficio.
B sempre a querela.
C a querela della persona offesa, salve le eccezioni stabilite dalla legge.

21) La pena edittale per il delitto di "oltraggio a un magistrato in udienza", in assenza di circostanze aggravanti o attenuanti, è della reclusione:

A fino a 2 anni.
B fino a 1 anno.
C fino a 3 anni.

---

22) È prevista una durata minima del ricovero in un riformatorio giudiziario del minore che sia delinquente abituale?

A Sì, 1 anno.
B No, perché i minori non possono essere dichiarati delinquenti abituali.
C Sì, 3 anni.

---

23) Il reato di "rapina" è aggravato se:

A la violenza consiste nel porre taluno in stato d'incapacità di volere o di agire.
B il colpevole è un incaricato di pubblico servizio.
C si adopera violenza immediatamente dopo la sottrazione per assicurarsi il possesso della cosa

---

24) Il reato di "estorsione" è aggravato se:

A il fatto è commesso all'interno di mezzi di pubblico trasporto.
B il colpevole, per commettere il fatto, s'introduce in un luogo destinato ad abitazione.
C il colpevole è un incaricato di pubblico servizio.

---

25) È punibile il soggetto che commette un reato impossibile o un reato supposto?

A No, salvo che abbia agito con dolo.
B No, salvo che concorrano nel fatto gli elementi costitutivi di un reato diverso.
C No, salvo che abbia agito con colpa.

---

26) Il medico che consente l'uso del proprio nome e posizione fiscale ai fini dell'esercizio abusivo della professione da parte di un soggetto non abilitato può essere interdetto in perpetuo dalla professione?

A Sì, consegue di diritto alla condanna per delitti commessi con l'abuso della professione.
B No, l'interdizione è sempre temporanea.
C No, perché è un semplice partecipe al reato commesso dalla persona non abilitata.

---

27) Tizio e Caio fanno parte di un gruppo terroristico internazionale che sta progettando un attentato all'Europarlamento. Scoperta la loro base, viene sequestrato il materiale destinato agli attentati. Dato che non vi è stato alcun evento lesivo, è applicabile la fattispecie del tentativo al reato di associazione con finalità di terrorismo internazionale?

A Sì, perché l'azione non è stata compiuta.
B No, si applica la fattispecie del tentativo all'atto di terrorismo con ordigni micidiali.
C No, poiché il requisito minimo per la sussistenza del tentativo è già sufficiente per ritenere integrata l'ipotesi consumata.

---

28) Quando si consuma il reato di vendita di sostanze alimentari non genuine come genuine?

A Quando le sostanze alimentari vengono commercializzate.
B Quando le sostanze alimentari sono prodotte e stanno per essere messe in commercio.
C Quando le sostanze alimentari vengono prodotte.

---

29) L'autocalunnia è un delitto:

A contro l'ordine pubblico.
B contro l'attività giudiziaria:
C contro l'autorità delle decisioni giudiziarie .

---

30) La condanna per il reato di corruzione in atti giudiziari (ex art. 319ter c.p.) comporta l'irrogazione della sanzione accessoria dell'interdizione dai pubblici uffici?

A No, mai.
B Sì, perpetua o temporanea.
C Sì, ma solo temporanea.

---

31) Quale pena viene irrogata se chi commette oltraggio a pubblico ufficiale prova la verità del fatto attribuito?

A La reclusione fino a cinque anni.
B Nessuna.
C La reclusione fino a due anni.

---

32) Il consulente tecnico del Pubblico Ministero che accetta denaro dall'imputato per modificare il parere:

A commette il reato di truffa.
B non commette alcun reato essendo cessata la sua carica.
C commette il reato di corruzione in atti giudiziari.

---

33) Quale sanzione accessoria viene irrogata a colui che commette il delitto di custodia di mezzo di trasporto pericoloso?

A La sospensione per un periodo massimo di 3 mesi del titolo che legittima l'attività.
B Nessuna sanzione accessoria.
C La revoca del titolo che legittima l'attività.

---

34) La premeditazione è:

A elemento essenziale di tutti i delitti dolosi.
B un'aggravante specifica esclusivamente di taluni delitti.
C una circostanza aggravante prevista per qualsiasi delitto.

---

35) Cosa si intende per "suitas"?

A La coscienza e volontà della condotta da parte del soggetto attivo.
B La condizione obiettiva di punibilità.
C L'esistenza della condizione di procedibilità a carico del soggetto attivo.

---

36) Il delitto che, per errore nell'uso dei mezzi di esecuzione, cagiona offesa a una persona diversa da quella che si voleva offendere integra:

A un'aberratio ictus.
B un delitto colposo.
C un'aberratio delicti.

---

37) Quale, tra i seguenti, può essere definito reato abituale?

A Rapina.
B Sequestro di persona a scopo di estorsione.
C Relazione incestuosa.

---

38) Se la legge considera come elementi costitutivi di un solo reato fatti che per sé stessi costituiscono reato, si procede d'ufficio?

A Sì, se per uno dei reati che sono elementi costituitivi si deve procedere d'ufficio .
B Sì, se ricorrono circostanze aggravanti del reato.
C Sì, se per ciascuno dei reati che sono elementi costitutivi si deve procedere di ufficio.

---

39) Non è punibile chi ha commesso il reato di danneggiamento, di cui al comma secondo dell'art. 635, in danno:

A del fratello, non convivente.
B del coniuge, legalmente separato.
C di un affine in linea retta.

---

40) Quale differenza esiste tra l'attenuante della provocazione e l'eccesso colposo in legittima difesa?

A Sono circostanze diverse ma non incompatibili poiché il giudice può applicarle entrambe al caso di specie.
B La prima riguarda il fatto commesso in stato d'ira mentre il secondo riguarda i limiti della scriminante.
C Sono circostanze necessariamente legate, poiché il fatto commesso eccedendo i limiti della legittima difesa viene commesso in stato d'ira.

---

41) La sospensione dall'esercizio degli uffici direttivi delle persone giuridiche e delle imprese ha una durata:

A minima di un mese e massima di un anno.
B minima di quindici giorni e massima di due anni.
C minima di tre mesi e massima di tre anni.

---

42) Chiunque opera una contraffazione o comunque altera indicazioni geografiche o denominazioni di origine di prodotti agroalimentari è punito:

A con la reclusione da due a cinque anni.
B con la reclusione fino a cinque anni.
C con la reclusione fino a due anni e con la multa fino a euro 20.000.

---

43) Nel reato di alterazione di prodotti industriali è punito:

A chiunque, avendo concorso nella contraffazione o alterazione, fa uso di marchi o segni contraffatti.
B chiunque, avendo concorso nella contraffazione o alterazione, fa uso di marchi alterati.
C chiunque, potendo conoscere dell'esistenza del titolo di proprietà industriale, contraffà o altera marchi o segni distintivi, nazionali o esteri di prodotti industriali.

44) Quale pena si applica a chi contraffà sostanze medicinali?

A La pena del reato di adulterazione di sostanze alimentari aumentata sino a un terzo.
B La pena del reato di contraffazione di sostanze alimentari aumentata di un terzo
C La pena del reato di contraffazione di sostanze alimentari aumentata di due terzi.

45) Chi è il soggetto passivo del delitto di turbativa violenta del possesso di cose immobili, previsto dall'art. 634 c.p.?

A Chiunque sia possessore qualificato del bene.
B Chiunque sia proprietario del bene.
C Chiunque possiede pacificamente l'immobile.

46) L'intercettazione del flusso di comunicazioni relativo a sistemi informatici o telematici è disciplinata:

A dal codice di procedura penale.
B da leggi speciali.
C dal codice di procedura civile.

47) Quale dei seguenti non è un procedimento speciale previsto dal libro VI del codice di procedura penale?

A L'appello.
B Procedimento per decreto.
C Giudizio abbreviato.

48) A norma del Codice di Procedura penale, le prove possono essere ammesse:

A a richiesta di parte o d'ufficio.
B solo d'ufficio
C solo a richiesta di chi vi abbia interesse.

49) L'esercizio dell'azione penale può essere sospeso o interrotto:

A ogni qual volta il Pubblico Ministero lo ritenga necessario.
B soltanto nei casi espressamente previsti dalla legge.
C su richiesta del difensore previo parere del Pubblico Ministero.

50) Il reato di omicidio colposo è di competenza:

A della corte d'assise.
B del tribunale monocratico.
C del tribunale in composizione collegiale.

51) Si ha connessione di procedimenti se una persona è imputata di più reati commessi con più azioni od omissioni esecutive del medesimo disegno criminoso?

A No.
B No, salvo la contestualità spazio - temporale dei reati.
C Sì.

52) L'osservanza delle disposizioni concernenti le condizioni di capacità del giudice è sempre prescritta a pena di:

A inammissibilità.
B inutilizzabilità.
C nullità.

53) Quale, tra i seguenti elementi, deve essere contenuto, a pena di nullità, nell'ordinanza che impone il prelievo di capelli dell'indagato?

A Il nome e le generalità della persona sottoposta alle indagini.
B L'indicazione specifica del prelievo o dell'accertamento da effettuare e delle ragioni che lo rendono assolutamente indispensabile per la prova dei fatti.
C L'Autorità a cui rivolgersi per il riesame dell'atto.

54) Come procede, in caso di perquisizione, il Pubblico Ministero?

A Assegna un difensore d'ufficio alla persona presente, anche se questa è assistita da un difensore di fiducia.
B Chiede alla persona sottoposta alle indagini, che sia presente, di nominare quale difensore di fiducia il difensore proposto dall'ufficio.
C Chiede alla persona sottoposta alle indagini, che sia presente, se è assistita da un difensore di fiducia.

55) Quando è necessario per l'immediata prosecuzione delle indagini, il Pubblico Ministero:

A procede all'individuazione di persone, di cose o di quanto altro può essere oggetto di percezione sensoriale.
B procede esclusivamente all'individuazione di persone.
C non può comunque procedere all'individuazione di fonti di percezione sensoriale che non siano esseri umani.

56) Sulla dichiarazione di astensione o ricusazione del perito, il giudice decide:

A su istanza di parte, con sentenza.
B con ordinanza.
C d'ufficio con sentenza.

57) A norma dell'art. 460 c.p.p., il decreto penale di condanna emesso dal giudice:

A non comporta la condanna al pagamento delle spese del procedimento né l'applicazione di pene accessorie.
B comporta la condanna al pagamento delle spese del procedimento e l'eventuale applicazione di pene accessorie.
C comporta la condanna al pagamento delle spese del procedimento, ma non l'applicazione di pene accessorie.

58) Il consulente tecnico del Pubblico Ministero in un procedimento può assumere l'incarico di perito del Tribunale in un procedimento connesso?

A No, è un caso di incompatibilità.
B Sì, non vi sono preclusioni.
C Sì, purché gli incarichi non si svolgano contemporaneamente.

59) La Polizia Giudiziaria può, di propria iniziativa, ricercare fonti di prova?

A No, quando la notizia di reato è iscritta nel registro e vi è un Pubblico Ministero che procede, la Polizia Giudiziaria agisce sempre su delega del Pubblico Ministero.
B Sì, ma solo nei casi di urgenza e necessità.
C Sì, senza la necessità della delega del Pubblico Ministero.

60) . Tra i seguenti procedimenti speciali ve ne è uno in cui vengono saltate l'udienza preliminare e il dibattimento. Si tratta del:

A patteggiamento.
B giudizio immediato.
C procedimento per decreto.

61) Durante la fase delle indagini preliminari Pubblico Ministero e polizia giudiziaria eseguono accertamenti volti ad acquisire:

A Gli elementi per il proseguimento delle indagini.
B le fonti di prova.
C Le prove stesse.

62) Precedentemente all'intervento del Pubblico Ministero:

A solo l'ufficiale di polizia giudiziaria delegato può curare che le tracce e le cose pertinenti al reato siano conservate e che lo stato dei luoghi e delle cose non venga mutato.
B sia gli ufficiali che gli agenti di polizia giudiziaria curano che le tracce e le cose pertinenti al reato siano conservate e che lo stato dei luoghi e delle cose non venga modificato.
C solo gli ufficiali e non gli agenti di polizia giudiziaria curano che le tracce e le cose pertinenti al reato siano conservate e che lo stato dei luoghi e delle cose non venga mutato.

63) In caso di ricezione di delazioni o denunce anonime, la notizia di reato si intende acquisita dalla polizia giudiziaria:

A dopo 24 ore dalla ricezione della denuncia o violazione.
B dal momento in cui la polizia giudiziaria abbia effettuato qualche accertamento idoneo a concretizzare la sostanza di una notizia di reato.
C dal momento in cui e'cessata la ricezione della denuncia o delazione.

64) Le fotografie eseguite dalla polizia giudiziaria:

A sono atti irripetibili utilizzabili nel fascicolo dibattimentale.
B non costituiscono atti irripetibili.
C si considerano irripetibili solo se realizzati con macchine speciali.

65) Quale autorità autorizza le intercettazioni ambientali?

A Il giudice per l'udienza preliminare.
B Il giudice per le indagini preliminari.
C Il Pubblico Ministero.

---

66) Il giudice dell'udienza preliminare disponendo il giudizio provvede con:

A ordinanza.
B decreto.
C sentenza.

---

67) Indicare il termine ordinario di durata delle indagini preliminari:

A 9 mesi.
B 6 mesi.
C 12 mesi.

---

68) Può il legale rappresentante presentare la querela?

A No.
B Si sempre.
C Sì solo nel caso in cui sia stato nominato procuratore speciale.

---

69) Esiste un atto obbligatorio che deve necessariamente seguire la notifica dell'avviso di garanzia al minore. Esso è:

A l'accertamento sulla imputabilità.
B la comunicazione al difensore di fiducia.
C la notifica dell'atto all' esercente la potestà genitoriale.

---

70) Per corpo del reato si intende:

A esclusivamente le cose che costituiscono il prodotto o il prezzo del reato.
B le cose sulle quali o mediante le quali il reato è stato commesso nonche' le cose che ne costituiscono il prodotto, il profitto o il prezzo.
C esclusivamente le armi o gli strumenti mediante le quali il reato è stato commesso.

---

71) Da parte della polizia giudiziaria l'arresto in flagranza di reato è sempre obbligatorio?

A E' obbligatorio solo se disposto dal Pubblico Ministero.
B Può essere obbligatorio o facoltativo a seconda del tipo di reato.
C E' obbligatorio solo se vi è pericolo per la pubblica incolumità.

---

72) Allorquando il Pubblico Ministero richieda l'archiviazione, tale richiesta è vincolante per il giudice per le indagini preliminari?

A Sì ma solo per le contravvenzioni.
B No.
C Sempre .

---

73) Nel rito penale del patteggiamento la pena può essere ridotta:

A alla metà.
B ad un terzo.
C fino ad un terzo.

---

74) Può proporre querela:

A la persona offesa dal reato e qualsiasi pubblico ufficiale che sia venuto a conoscenza di una notizia di reato non perseguibile d'ufficio.
B la persona offesa dal reato.
C il responsabile civile.

---

75) Gli agenti di polizia giudiziaria possono:

A effettuare la perquisizione personale sempre.
B effettuare la perquisizione personale solo su delega del Pubblico Ministero.
C effettuare la perquisizione personale solo nei casi di particolare necessità ed urgenza.

---

76) Può la persona offesa dal reato chiedere al giudice di procedere con incidente probatorio?

A No mai .
B No ma può chiedere al Pubblico Ministero di promuoverlo.
C Sì In tutti i casi in cui la richiesta appare ammissibile.

---

77) L'informazione di garanzia viene inviata:

A alla persona sottoposta alle indagini preliminari e alla persona offesa.
B solo alla persona sottoposta alle indagini preliminari.
C alla persona sottoposta alle indagini preliminari, alla persona offesa dal reato e alle altre persone che possono riferire di circostanze utili ai fini delle indagini.

---

78) Nel reato di peculato, in primo grado è competente a giudicare :

A la Corte d'Assise.
B il tribunale monocratico.
C il tribunale collegiale.

---

79) La polizia giudiziaria può procedere all'accompagnamento presso il proprio ufficio di un minorenne colto in flagranza di un delitto del tipo:

A delitto non colposo consumato o tentato per il quale la legge stabilisce la pena della reclusione non inferiore nel massimo a quattro anni.
B delitti per i quali la legge stabilisce la pena dell'ergastolo.
C delitto non colposo per il quale la legge stabilisce la pena dell'ergastolo o della reclusione non inferiore nel massimo a cinque anni.

---

80) Il diritto a proporre querela si estingue:

A perché risarciti del danno.
B per decadenza, per decorso del termine.
C per fuga dell'autore del reato.

---

81) Se il giudice non emette ordinanza di convalida del sequestro preventivo nei termini previsti:

A il sequestro preventivo perde efficacia.
B il sequestro preventivo è annullabile.
C il sequestro preventivo non perde mai efficacia.

---

82) La querela è:

A una informativa di reato per i quali si debba procedere con uno qualsiasi dei procedimenti speciali.
B un presupposto necessario del procedimento di applicazione della pena su richiesta delle parti.
C una condizione di procedibilità.

---

83) Sono ordinari mezzi di impugnazione in materia penale:

A l'appello e il ricorso per Cassazione.
B l'appello, la revisione, il ricorso per Cassazione.
C il ricorso gerarchico, il ricorso per Cassazione.

---

84) La comunicazione della notizia dei reati di competenza del tribunale deve essere data:

A senza ritardo.
B entro 12 ore.
C entro 24 ore.

---

85) È sempre consentito il fermo di un minorenne indiziato di delitto?

A Nella flagranza di un delitto perseguibile d'ufficio.
B Nei casi in cui può essere disposta la misura della custodia cautelare, purché la pena non sia inferiore nel minimo a 2 anni.
C Su disposizione del Pubblico Ministero.

---

86) In caso di arresto è dovere della polizia giudiziaria:

A dare notizia solo ai familiari.
B dare notizia entro 12 ore al Pubblico Ministero.
C dare immediatamente notizia al Pubblico Ministero e al difensore.

---

87) Le guardie delle province e dei comuni sono:

A agenti di polizia giudiziaria a competenza generale.
B agenti di polizia giudiziaria a competenza generale solo mediante atto del prefetto che conferisce tale qualità.
C agenti di polizia giudiziaria a competenza settoriale:

---

88) La Corte di Assise è competente tra l'altro:

A per tutti delitti dolosi o colposi se dal fatto sia derivata la morte di almeno 10 persone.
B per i delitti di tentato omicidio, rapina ed estorsione.
C per tutti i delitti dolosi se dal fatto sia derivata la morte di uno più persone.

---

89) Il giudice delle indagini preliminari:

A è titolare insieme al Pubblico Ministero del potere di direzione delle indagini.
B e' il giudice competente a coordinare l'attività della polizia giudiziaria durante la fase delle indagini preliminari.
C provvede nei casi previsti dalla legge sulle richieste del Pubblico Ministero, delle parti e della persona offesa dal reato.

---

90) Nel caso in cui il testimone renda dichiarazioni diverse da quelle rese durante le indagini preliminari:

A si possono muovere contestazioni ma il giudice deve tenere conto solo di ciò che il testimone ha dichiarato nelle indagini.
B non si possono muovere contestazioni.
C le parti possono muovere contestazioni.

---

91) Quali dichiarazioni può assumere o ricevere l'ufficiale di polizia giudiziaria sul luogo o nell'immediatezza del fatto, dall' arrestato in flagranza?

A solo sommarie informazioni.
B solo notizie ed indicazioni utili ai fini dell'immediata prosecuzione delle indagini.
C solo notizie e indicazioni utili per il futuro.

---

92) Il GIP e':

A il giudice delle inchieste penali.
B il garante delle inchieste penali
C il giudice delle indagini preliminari.

---

93) Quando può essere richiesto il giudizio direttissimo?

A quando una persona è stata arrestata in flagranza di reato.
B quando la prova appare evidente.
C quando c'è accordo tra accusa e difesa.

---

94) I marescialli dei carabinieri:

A sono ufficiali di polizia giudiziaria solo quando sono in servizio.
B sono agenti di polizia giudiziaria.
C sono ufficiali di polizia.

---

95) Tra i seguenti atti di indagine non può essere svolto dalla polizia giudiziaria:

A interrogatorio dell'indagato in stato di libertà, a meno che non vi sia la delega del Pubblico Ministero.
B acquisizione di plichi e corrispondenza.
C assunzione di sommarie informazioni dalle persone informate sui fatti.

---

96) La comunicazione della nomina del difensore di ufficio alla persona sottoposta alle indagini deve essere fatta ai sensi dell'articolo 369 bis del Codice di procedura penale:

A a pena di nullità degli atti successivi.
B a pena di decadenza degli atti successivi.
C a pena di annullamento degli atti successivi.

---

97) Il difensore dell'indagato può procedere ad indagini difensive:

A mediante qualsiasi persona reputata a tal fine idonea dal difensore.
B solo personalmente.
C personalmente o anche ad opera dei suoi sostituti, consulenti ed investigatori privati autorizzati.

---

98) La comunicazione della nomina del difensore di ufficio alla persona sottoposta alle indagini ai sensi dell'articolo 369 bis del codice di procedura penale, deve contenere tra l'altro:

A l'informazione della obbligatorietà della difesa tecnica nel processo penale con l'indicazione della facoltà e dei diritti attribuiti dalla legge alla persona sottoposta alle indagini.
B il nome del Pubblico Ministero.
C il termine iniziale delle indagini preliminari.

---

99) La notizia di reato può essere comunicata:

A sempre, in ogni caso, in forma scritta.
B in forma orale su preventiva autorizzazione del tribunale di sorveglianza.
C in forma scritta, preceduta dalla forma orale, solo quando sussistono ragioni di urgenza.

---

100) Chi è il soggetto passivo del reato di rifiuto o ritardo nell'obbedienza commesso da un militare?

A La Pubblica Amministrazione.
B Il ministero degli Interni.
C Il superiore gerarchico.

101) Tizio contraffà sostanze alimentari, in modo pericoloso per la salute, e le affida a Caio perché siano vendute al pubblico. Caio risponderà:

A del reato di adulterazione e contraffazione di sostanze alimentari.
B del reato di commercio di sostanze alimentari contraffatte o adulterate.
C del reato di commercio di sostanze alimentari nocive.

102) Ai sensi dell'art. 20 della legge n. 689/81, può essere disposta la confisca amministrativa delle cose che servirono o furono destinate a commettere la violazione?

A Sì, anche se le cose appartengano a persone cui non è ingiunto il pagamento.
B No, in nessun caso.
C Sì, purché le cose appartengano a una delle persone cui è ingiunto il pagamento.

103) Cosa si intende nel Codice penale per adulterazione e contraffazione di sostanze alimentari?

A L'adulterazione o la corruzione di acque o sostanze destinate all'alimentazione , dopo che siano attinte o distribuite per il consumo, che le rende pericolose alla salute pubblica.
B L'adulterazione o la corruzione di acque o sostanze destinate all'alimentazione , prima che siano attinte o distribuite per il consumo, che le rende pericolose alla salute pubblica.
C La sola corruzione di sostanze destinate all'alimentazione , dopo che siano attinte o distribuite per il consumo.

104) Una persona viene condannata per il reato di adulterazione di sostanze alimentari. La confisca delle cose che costituiscono il profitto del suo reato è ordinata:

A solo se dal fatto è derivata la morte di una persona.
B se dal fatto è derivata una lesione grave a una persona.
C in ogni caso.

105) Se i fatti hanno a oggetto alimenti o bevande la cui denominazione di origine o geografica o le cui specificità sono protette dalle norme vigenti, le pene stabilite per il reato di frode nell'esercizio del commercio sono:

A sempre aumentate della metà.
B aumentate.
C diminuite.

106) Quale tra i seguenti elementi non è menzionato dal Codice penale come caratterizzante il delitto di concussione?

A L'abuso dei poteri del reo.
B L'indebito arricchimento del reo.
C L'abuso della qualità del reo.

107) Nella commissione di un reato, l'agente ritiene erroneamente che esistano circostanze aggravanti. Queste ultime:

A non saranno valutate a suo carico.
B saranno valutate a suo carico.
C saranno valutate a suo carico, quando si tratti di circostanze soggettive.

108) L'ubriachezza preordinata a commettere un reato è considerata:

A una circostanza aggravante.
B una circostanza attenuante, perché manca in ogni caso la capacità d'intendere.
C un motivo di non imputabilità, ma di applicazione della misura di sicurezza.

109) Nel caso in cui più leggi penali o più disposizioni della medesima legge penale regolino la stessa materia, il Codice penale prevede che:

A la legge o la disposizione di legge generale prevalga sulla legge o disposizione di legge speciale, salvo che sia altrimenti stabilito.
B si applichi la legge più favorevole al reo, salvo che sia altrimenti stabilito.
C la legge o la disposizione di legge speciale deroghi alla legge o alla disposizione di legge generale, salvo che sia altrimenti stabilito.

110) Chi trova una persona incapace di provvedere a se stessa per malattia di mente o di corpo, per vecchiaia o per altra causa, commette reato se:

A non ne dà immediato avviso all'Autorità.
B gli presta le prime cure prima dell'arrivo di personale medico.
C lo assiste prima di aver avvisato l'autorità.

111) In base al Codice penale, è recidivo chi:

A dopo essere stato condannato per un delitto non colposo, ne commette un altro.
B commette reati della stessa indole.
C è condannato per reati della stessa indole.

---

112) Chi compie atti idonei diretti in modo non equivoco a commettere violenza o minaccia a un pubblico ufficiale, risponde, se l'evento non si verifica:

A di nessun reato.
B di interruzione di pubblico servizio.
C di tentata violenza o minaccia a un pubblico ufficiale.

---

113) Tizio fa uso di un marchio nazionale contraffatto da Caio. Commette reato di contraffazione di marchio?

A Sì, se ne ha tratto profitto.
B Sì, lo commette.
C No, questo reato è commesso solo da Caio.

---

114) Se Tizio acquista all'estero e introduce in Italia un prodotto con marchio contraffatto al fine di trarne profitto:

A incorre nel reato di uso di segni d'istintivi di prodotti industriali.
B incorre nel reato di introduzione nello Stato di prodotti con segni falsi, ma solo se il marchio è italiano.
C incorre nel reato di introduzione nello Stato di prodotti con segni falsi, sia che il marchio sia estero sia che il marchio sia italiano.

---

115) Tizio, in Italia, commette reato di contraffazione del marchio di un prodotto industriale francese. Egli sarà punito:

A con la reclusione da sei mesi a tre anni e con la multa da euro 2.500 a euro 25.000.
B in Italia in base alla legge francese.
C con la reclusione da sei mesi a un anno e con la multa da euro 2.500 a euro 12.500.

---

116) La contraffazione di marchi o segni distintivi è un reato contro:

A l'incolumità pubblica.
B la fede pubblica.
C il patrimonio.

---

117) Secondo il codice penale, qual è la durata minima e massima della pena della reclusione?

A Da quindici giorni a ventiquattro anni.
B Da un giorno a trent'anni.
C Dipende dalla pena edittale prevista per le singole fattispecie di reato.

---

118) Nel reato di falsa testimonianza, la ritrattazione esclude la punibilità?

A Sì, se la ritrattazione avviene non oltre la chiusura del dibattimento.
B Sì, se non ha avuto conseguenze perché il falso non era credibile.
C No, poiché si tratta di reato istantaneo.

---

119) La condanna per un reato successivamente abrogato può essere ostativa alla concessione del beneficio della sospensione condizionale della pena?

A No, non può essere considerata formalmente ostativa.
B Sì, è sempre ostativa poiché dimostra la capacità a delinquere del reo.
C No, ma il giudice può decidere di revocare il beneficio in caso di terza condanna.

---

120) Nel reato di calunnia, l'agente deve conoscere l'innocenza della persona offesa alla quale attribuisce il reato?

A No, è sufficiente attribuire un reato a una persona, che successivamente viene assolta in sede processuale.
B Sì, ciò è un elemento essenziale della fattispecie.
C No, ma nel caso conosca l'innocenza della persona il reato è aggravato.

---

121) È ammissibile l'estradizione di straniero accusato nel Paese d'origine di adulterio?

A No, poiché tale reato non è previsto dalla legge italiana.
B Solo se è presentata la querela della parte offesa.
C Sì, poiché si tratta di straniero sottoposto alla legge del Paese di origine.

---

122) Non è un illecito amministrativo, ma un reato contro la P.A.:

A la vendita di stampati dei quali è stato ordinato il sequestro.
B l'inadempimento di contratti di pubbliche forniture.
C l'offesa all'autorità mediante danneggiamento di affissioni.

123) Tizio, emotivamente alterato, provoca la morte di Caio: è punibile?

A Sì, ma la pena è diminuita.
B Sì, sempre.
C Sì, e la pena è aumentata.

124) Quale tra i seguenti reati non è un delitto dei privati contro la pubblica amministrazione ?

A Rivelazione e utilizzazione di segreti di ufficio.
B Occultamento, custodia o alterazione di mezzi di trasporto.
C Interruzione di un servizio pubblico o di un servizio di pubblica necessità.

125) La scriminante della legittima difesa per trovare applicazione richiede necessariamente che il soggetto agisca:

A costretto dalla necessità di difendere un diritto proprio o altrui contro il pericolo attuale di un'offesa ingiusta.
B costretto dalla necessità di difendere solo un diritto altrui contro il pericolo anche non attuale ma probabile di un'offesa ingiusta.
C costretto dalla necessità di difendere solo un diritto proprio contro il pericolo attuale di un'offesa non necessariamente ingiusta.

126) Al soggetto che interviene a difesa di un terzo aggredito è riconoscibile la scriminante della legittima difesa?

A Sì, ma solo se il terzo ha richiesto il soccorso.
B No, mai.
C Sì, purché il terzo non abbia manifestato un consenso scriminante l'offesa.

127) Quando l'errore sul fatto che costituisce reato è determinato dall'altrui inganno, chi risponde del reato stesso?

A Colui che ha determinato l'inganno.
B Nessuno, se si tratta di delitto colposo.
C Sia colui che ha commesso il fatto sia colui che ha determinato l'inganno.

128) Si tiene conto, agli effetti della recidiva, delle condanne per le quali è intervenuta una causa di estinzione della pena?

A Sì, sempre.
B Sì, tranne quando la causa di estinzione estingua anche gli effetti penali.
C No, mai.

129) È un'aggravante specifica del delitto di "Invasione di terreni o edifici":

A la commissione del fatto da più di 2 persone, di cui almeno una palesemente armata, o da più di 3 persone, anche senza armi.
B la commissione del fatto da più di 3 persone, di cui almeno una palesemente armata, o da più di 5 persone, anche senza armi.
C la commissione del fatto da più di 5 persone, di cui almeno una palesemente armata, o da più di 10 persone, anche senza armi.

130) Il codice penale dispone che il corso della prescrizione del reato sia interrotto:

A dall'iscrizione nel registro degli indagati.
B dalla confessione del colpevole.
C dall'interrogatorio reso davanti al Pubblico Ministero.

131) Chi, per colpa, agevola la distruzione di un'opera adibita al servizio delle Forze armate dello Stato, di cui aveva la custodia, commette:

A un delitto previsto dal codice penale tra i delitti contro la personalità dello Stato.
B un delitto previsto dal codice penale tra i delitti contro la pubblica amministrazione.
C un delitto previsto dal codice penale tra i delitti contro l'economia pubblica, l'industria ed il commercio.

132) Il delitto di pubblica intimidazione si configura in capo a:

A chiunque minacci di commettere delitti contro la pubblica incolumità, ovvero fatti di devastazione o di saccheggio, in modo da incutere pubblico timore.
B chiunque minacci ad altri un ingiusto danno, in modo da incutere pubblico timore.
C chiunque commetta delitti contro la pubblica incolumità, ovvero fatti di devastazione o di saccheggio, in modo da incutere pubblico timore.

133) In quale caso, per il reato di interruzione illecita di comunicazioni informatiche, si procede d'ufficio?

A Se il fatto è commesso con l'uso di armi.
B Se il fatto è commesso in danno di un sistema informatico utilizzato dallo Stato.
C Se il fatto è commesso con violenza sulle persone.

---

134) Il reato di danneggiamento al patrimonio archeologico, storico o artistico nazionale è commesso da:

A chiunque distrugge, deteriora o comunque danneggia un monumento o una altra cosa propria di cui gli sia noto il rilevante pregio, anche se dal fatto non deriva un nocumento al patrimonio archeologico, storico o artistico nazionale.
B chiunque distrugge o deturpa un monumento.
C chiunque distrugge, deteriora o comunque danneggia un monumento o una altra cosa propria di cui gli sia noto il rilevante pregio, se dal fatto deriva un nocumento al patrimonio archeologico, storico o artistico nazionale.

---

135) Il reato di accensioni ed esplosioni pericolose è punito più gravemente se il fatto è commesso:

A in luogo di privata abitazione.
B in un luogo ove sia adunanza o concorso di persone.
C in luogo pubblico.

---

136) Il codice penale dispone che per "pubblico servizio" deve intendersi un'attività disciplinata nelle stesse forme della pubblica funzione, ma caratterizzata:

A dalla mancanza di un rapporto diretto con i privati.
B dalla mancanza dei poteri tipici della pubblica funzione.
C dalla mancanza dei soli poteri autoritativi della pubblica funzione.

---

137) Chiunque, con collusioni o altri mezzi fraudolenti, impedisce o turba la gara nei pubblici incanti o nelle licitazioni private per conto di pubbliche amministrazioni è punito con:

A la sanzione amministrativa pecuniaria da euro 658 a euro 3.590.
B una multa fino a 1.516 euro.
C la reclusione da sei mesi a cinque anni e la multa da euro 103 a euro 1.032.

---

138) Chiunque, non adempiendo gli obblighi che gli derivano da un contratto di fornitura concluso con lo Stato, fa mancare, in tutto o in parte, cose od opere che siano necessarie ad un pubblico servizio, è punito:

A con la reclusione da sei mesi a tre anni e con la multa non inferiore a euro 103.
B con la reclusione da tre mesi a due anni e con la multa non inferiore a euro 503.
C con la sanzione amministrativa pecuniaria da euro 538 a euro 990.

---

139) Il privato che destina il finanziamento della Comunità europea non ancora erogato ma già deliberato a finalità diverse da quelle indicate, commette il reato di malversazione a danno dello Stato?

A No, il reato è concussione.
B No, occorre che il finanziamento sia stato materialmente erogato.
C Sì.

---

140) A quale reato, tra l'altro, si applica la circostanza aggravante dell'utilizzo della forza intimidatrice derivante da segrete associazioni, di cui all'art. 339 c.p.?

A Resistenza a pubblico ufficiale.
B Turbata libertà degli incanti.
C Oltraggio a pubblico ufficiale.

---

141) In base al codice penale, è ammessa la confisca dei beni che costituiscono il prezzo del reato di corruzione?

A Sì, anche se appartengano a persona estranea al reato.
B No, mai
C Sì, salvo che appartengano a persona estranea al reato.

---

142) La pena minima prevista dal Codice penale per il delitto di corruzione in atti giudiziari è di:

A 6 mesi di reclusione.
B 4 anni di reclusione.
C 2 anni di reclusione.

---

143) Se dalla commissione del delitto di corruzione in atti giudiziari deriva l'ingiusta condanna di taluno alla reclusione superiore a cinque anni, la pena per il reo è della reclusione:

A di 5 anni.
B da 8 a 20 anni.
C pari al doppio di quella comminata alla vittima.

144) Come si definisce, nei reati colposi, la condotta di chi ha agito in modo trascurato, senza l'accortezza e l'attenzione necessarie?

A Imprudenza.
B Negligenza.
C Imperizia.

145) In caso di concorso formale eterogeneo di reato commesso da persona che non sia recidiva, si applica:

A la pena che dovrebbe infliggersi per il reato più grave aumentata sino a due terzi.
B la pena che dovrebbe infliggersi per il reato più grave aumentata sino ad un terzo.
C la pena che dovrebbe infliggersi per il reato più grave aumentata sino al triplo.

146) Quando il soggetto agisce nonostante la concreta previsione che dalla sua azione potrà derivare l'evento di reato ma è convinto che lo stesso non si verificherà, di modo che egli non accetta il rischio del suo verificarsi, e quindi non lo vuole, in quanto è sicuro di riuscire ad evitarlo, si parla di:

A colpa cosciente.
B colpa impropria.
C colpa incosciente.

147) Costituisce aggravante specifica del delitto di abuso d'ufficio:

A la circostanza che il soggetto attivo abbia agito in violazione di norme di legge o di regolamenti.
B la circostanza che il soggetto attivo abbia conseguito esclusivamente un vantaggio patrimoniale.
C la circostanza che il soggetto attivo abbia conseguito un vantaggio o provocato un danno di rilevante gravità.

148) Chi si introduce in un luogo di privata dimora contro la volontà espressa o tacita di chi ha diritto di escluderlo commette il reato di:

A interferenze illecite nella vita privata.
B furto.
C violazione di domicilio.

149) . I delitti di apologia o istigazione:

A tutelano l'autorità delle decisioni giudiziarie e l'interesse dello Stato a che l'attività giudiziaria sia svolta esclusivamente dagli organi a ciò preposti.
B comprendono tutti quei fatti che offendono gli interessi politici dello Stato.
C si concretizzano in discorsi che esaltano la commissione di uno o più delitti o che mirano ad eccitare, determinare, rafforzare il proposito criminoso di più persone.

150) Nell'ambito dell'art. 56 c.p. la volontà di desistere deve:

A dipendere da fattori esterni interruttivi della condotta criminosa.
B imposta dai propri complici.
C formarsi in maniera del tutto libera.

151) Il soggetto attivo risponde a titolo di colpa specifica quando:

A non osserva norme o regole di condotta scritte.
B prevede l'evento e agisce ugualmente.
C agisce con negligenza, imprudenza o imperizia.

152) La circostanza del reato si dice attenuante:

A quando importa una diminuzione della pena o da un punto di vista quantitativo o da quello qualitativo.
B quando importa una diminuzione della pena superiore ad un terzo.
C quando importa una diminuzione della pena solo da un punto di vista quantitativo.

153) Dispone la legge che la persona alla quale è stato fatto l'avviso orale può chiederne la revoca al Questore che provvede nei sessanta giorni successivi. Qualora la richiesta sia rigettata a quale organo è proponibile ricorso?

A A nessun organo; qualora la richiesta di revoca sia rigettata non è più possibile ricorrere.
B Al Prefetto.
C Al Ministro dell'interno.

154) . Dalla valutazione della disciplina generale delle cause di giustificazione contenuta nel codice penale è dato rilevare che:

A la ritenuta esistenza di una causa di giustificazione, per errore non determinato da colpa, è equiparata alla sua esistenza effettiva (scriminante putativa)
B perché l'erronea supposizione della ricorrenza di una scriminante possa equipararsi alla sua effettiva esistenza l'errore non deve cadere sui presupposti di fatto della scriminante.
C nel caso di erronea supposizione di una causa di giustificazione dovuta a colpa dell'agente, a precipitazione, a carente ponderazione della situazione, la punibilità è esclusa anche se il fatto è previsto dalla legge come delitto colposo.

---

155) Quando si parla di reato speciale si intende:

A il tipo di reato che può ledere la posizione giuridica di qualsivoglia persona fisica.
B il tipo di reato che può essere commesso soltanto da una categoria di soggetti dotati di una qualifica particolare.
C il tipo di reato che può avere ad oggetto qualsiasi bene giuridico.

---

156) Rientra tra le pene accessorie previste per le contravvenzioni:

A l'incapacità di contrattare con la pubblica amministrazione.
B la sospensione dall'esercizio della potestà dei genitori.
C la pubblicazione della sentenza di condanna.

---

157) Quali norme si applicano all'interdizione legale per ciò che concerne la disponibilità e l'amministrazione dei beni nonché la rappresentanza negli atti ad esse relativi?

A Si applicano le disposizioni impartite dal giudice con la sentenza di condanna.
B Si applicano le disposizioni impartite di volta in volta dal tribunale per i minorenni.
C Si applicano le norme della legge civile sull'interdizione giudiziale.

---

158) . Gli incaricati di pubblico servizio possono invocare la legittima difesa e l'uso legittimo delle armi?

A Possono invocare la legittima difesa, negli stessi casi previsti per qualsiasi privato cittadino, e l'uso legittimo delle armi solo quando hanno commesso il fatto nell'esercizio delle loro funzioni.
B Possono invocare solo la legittima difesa e solo negli stessi casi previsti per qualsiasi privato cittadino.
C No, nessuna delle due.

---

159) L'autore di un reato determinato dall'altrui violenza fisica a cui non poteva sottrarsi può invocare lo stato di necessità?

A No, può invocare la legittima difesa.
B No, può invocare eventualmente una circostanza attenuante.
C No, deve invocare l'ipotesi del costringimento fisico prevista dall'art. 46 C.P.

---

160) Nell'adempimento di un dovere, il dovere deve:

A essere imposto da una norma giuridica.
B essere imposto da un atto ministeriale.
C derivare da un contratto.

---

161) L'art. 2, comma 4, c.p. prevede:

A l'irretroattività della legge più sfavorevole.
B la retroattività della legge più favorevole.
C l'abolitiocriminis.

---

162) Quale pena accessoria consegue alla condanna per delitti commessi con violazione dei doveri inerenti ad una pubblica funzione?

A L'interdizione temporanea dai pubblici uffici, se il condannato ha superato l'età di anni ventuno.
B L'interdizione temporanea dai pubblici uffici.
C L'interdizione perpetua dai pubblici uffici.

---

163) Secondo quanto dispone la legge 689/1981, il soggetto che al momento in cui ha commesso il fatto non aveva compiuto i diciotto anni, può essere assoggettato a sanzione amministrativa?

A Si, il compimento della maggiore età è richiesto solo ai fini delle sanzioni penali.
B No, in alcun caso.
C Si, se aveva compiuto i sedici anni.

---

164) Il delitto di infanticidio di cui all'art. 578 c.p. si configura:

A quando la madre viene indotta da una situazione di abbandono morale o materiale ad uccidere il neonato immediatamente dopo il parto.
B quando la madre per causa d'onore cagiona la morte del neonato dopo il parto.
C quando la madre cagiona per pietà la morte del figlio minore di anni 10.

---

165) **. Lo straniero che commette in territorio estero un delitto politico, diverso da quelli contro la personalità dello Stato, per il quale è prevista la querela della persona offesa è punito secondo la legge italiana:**

A a richiesta del Ministro della giustizia, su querela della persona offesa.
B su querela della persona offesa.
C su querela della persona offesa, se si trova nel territorio dello Stato.

---

166) **Se un ladro porta via un quadro credendolo di ingente valore mentre non ne ha alcuno:**

A si applicherà l'aggravante di cui all'art. 61 n. 7 c.p. perché il proposito criminoso prevale sul fatto.
B potrà beneficiare dell'attenuante dell'art. 62 n. 4 c.p. anche se non ne conosce l'esistenza.
C si applicherà sempre l'aggravante di cui all'art. 61 n. 7 c.p. perché è evidente un'indole delinquenziale.

---

167) **Se Tizio consuma un furto utilizzando per l'apertura della serratura una chiave falsa risponderà di:**

A furto con destrezza.
B furto aggravato dall'uso del mezzo fraudolento.
C furto aggravato dall'uso della violenza sulle cose.

---

168) **Se il furto ha ad oggetto cose di tenue valore e il fatto è commesso per provvedere ad un grave ed urgente bisogno, esso è punibile:**

A a querela della persona offesa.
B d'ufficio.
C su istanza della persona offesa.

---

169) **La querela presentata nei confronti di chi ha determinato altri a commettere un reato si estende ai concorrenti?**

A Sì.
B No.
C Sì, se i concorrenti erano tutti maggiorenni.

---

170) **In materia di misure di sicurezza detentive, i condannati per delitto non colposo ad una pena diminuita a causa di infermità psichica o di cronica intossicazione da alcool, da sostanze stupefacenti ovvero per sordomutismo (art. 219, comma 1 c.p.), sono assegnati:**

A ad una colonia agricola ovvero ad una casa di lavoro.
B ad una casa di cura e custodia.
C ad una casa di lavoro.

---

171) **Le ipotesi di delitto preterintenzionale espressamente previste dal codice penale sono:**

A una.
B quattro.
C due.

---

172) **Sono considerati come territorio dello Stato le navi e gli aeromobili italiani?**

A No, in nessun caso.
B Sì, ovunque si trovino, salvo che siano soggetti, secondo il diritto internazionale, a una legge territoriale straniera.
C Sì, sempre.

---

173) **Qual è la differenza sostanziale tra i reati di ingiuria e di diffamazione?**

A L'ingiuria consiste in un'offesa alla reputazione, la diffamazione consiste in un'offesa all'onore o al decoro.
B Il contenuto dell'ingiuria è generico, la diffamazione, invece, consiste nell'attribuzione di un fatto determinato.
C Si ha l'ingiuria quando l'offesa è fatta in presenza dell'offeso o mediante comunicazione telegrafica o telefonica, o con scritti o disegni, diretti alla persona offesa; la diffamazione quando l'offesa alla reputazione è comunicata a più persone.

---

174) **Chi ha commesso il reato in stato di necessità:**

A è punibile.
B non è imputabile.
C non è punibile.

---

175) **Il notaio che si appropria della somma versatagli da un cliente per la registrazione di un atto commette il reato di:**

A concussione.
B peculato.
C furto.

176) Quale istituto è concesso con atto di clemenza del Capo dello Stato?

A Indulto.
B Riabilitazione.
C Grazia.

177) Il reato commesso su un aeromobile italiano si considera commesso nel territorio dello Stato italiano:

A solo se l'aeromobile si trova in un aeroporto italiano.
B solo se si tratta di aeromobile da guerra.
C ovunque l'aeromobile si trovi, salvo che sia soggetto, secondo il diritto internazionale, a una legge territoriale straniera.

178) Sono reati plurioffensivi:

A i reati che offendono necessariamente più beni giuridici (ad esempio, omicidio, lesioni, ingiuria, danneggiamento).
B i reati che offendono necessariamente più beni giuridici.
C i reati nei quali si incrimina non l'offesa di un bene giuridico, ma la realizzazione di certe situazioni che lo Stato ha interesse a che non si realizzino.

179) La legge penale italiana si applica anche ai cittadini e agli stranieri che si trovano all'estero?

A Sì, ma limitatamente ai casi stabiliti dalla legge medesima o dal diritto internazionale.
B Sì, se si tratta di delitti.
C Sì, se al momento del giudizio si trovano in Italia.

180) Il giudice può ordinare che l'imputato prosciolto sia sottoposto a misura di sicurezza:

A in caso di reato impossibile.
B in caso di reato erroneamente supposto.
C in caso di errore sul fatto che costituisce il reato.

181) Quando l'evento dannoso è impossibile per l'inesistenza dell'oggetto dell'azione:

A non è esclusa la punibilità, ma la pena è ridotta.
B è esclusa la punibilità.
C è esclusa l'imputabilità.

182) L'errore su una legge diversa dalla legge penale esclude la punibilità quando:

A si tratta di reato colposo.
B si tratta di reato doloso.
C ha cagionato un errore sul fatto che costituisce reato.

183) Quale delle seguenti pene è classificata dal nostro codice penale come pena principale stabilita per i delitti?

A Semidetenzione.
B Liberazione anticipata.
C Multa.

184) In virtù del divieto di interpretazione analogica delle norme penali, si può essere assoggettati a pene che non siano espressamente previste dalla legge? (art. 1 c.p. E art. 25 Costituzione)

A Si, purché la pena sia prevista in una norma regolamentare.
B No, mai.
C Solo nei casi espressamente previsti dalle leggi regionali o dagli statuti comunali.

185) Tra le seguenti, sono cause di estinzione del reato:

A l'oblazione e la liberazione condizionale.
B l'oblazione e la remissione di querela.
C l'oblazione e l'indulto.

186) Il principio secondo cui la responsabilità penale è personale, è sancito:

A dalle disposizioni sulla legge in generale.
B dalla Costituzione.
C dal Codice penale.

187) Indicare quale tra le seguenti pene consegue di diritto alla condanna, come effetto penale della stessa.

A pena accessoria.
B reclusione.
C ammenda.

188) Il reato di peculato può essere commesso da un privato cittadino?

A Si, il reato di peculato può essere commesso sia dal privato che dall'esercente un servizio di pubblica necessità.
B No, il reato di peculato può essere commesso solo dal pubblico ufficiale o dall'incaricato di pubblico servizio.
C No, il reato di peculato può essere commesso solo dall'incaricato di pubblico servizio o dall'esercente un servizio di pubblica necessità.

189) Quale, tra le seguenti, costituisce una causa di estinzione della pena?

A La morte del reo prima della sentenza.
B L'oblazione.
C L'indulto.

190) In materia di misure di sicurezza detentive, i condannati alla reclusione per i delitti commessi in stato di ubriachezza, qualora sia abituale, o sotto l'azione di stupefacenti all'uso dei quali siano dediti, quando non debba essere ordinata altra misura di sicurezza detentiva o non possa essere applicata la libertà vigilata (art. 221 c.p.), vengono assegnati:

A ad una colonia agricola ovvero ad una casa di lavoro.
B sempre ad un ospedale psichiatrico giudiziario.
C ad una casa di cura e custodia.

191) Il pubblico ufficiale o l'incaricato di un pubblico servizio, che impiega, a proprio o altrui profitto, invenzioni o scoperte scientifiche, o nuove applicazioni industriali, che egli conosca per ragione dell'ufficio o servizio, e che debbano rimanere segrete, commette il reato di:

A utilizzazione d'invenzioni o scoperte conosciute per ragione d'ufficio.
B violazione colposa.
C rivelazione ed utilizzazione di segreti d'ufficio.

192) Quale tra le seguenti è una circostanza del reato attenuante comune?

A L'aver agito per motivi di particolare valore morale o sociale.
B L'aver commesso il fatto contro una persona incaricata di pubblico servizio.
C L'aver agito per motivi abietti o futili.

193) Il divieto di analogia è proprio del:

A diritto penale.
B diritto amministrativo.
C diritto civile.

194) La misura di sicurezza si applica ai:

A ai soli soggetti recidivi.
B ai delinquenti plurirecidivi.
C soggetti imputabili ed a quelli non imputabili.

195) Che cosa caratterizza il dolo?

A La volontà di realizzare comunque un fatto costituente reato.
B La previsione e la volontà dell'evento.
C La sola previsione dell'evento.

196) Costruirsi una chiave falsa per aprire una serratura configura:

A niente di penalmente rilevante.
B possesso ingiustificato di chiavi.
C tentativo di violazione di domicilio.

197) L'adempimento di un dovere imposto da un ordine legittimo della pubblica Autorità:

A non esclude la punibilità, ma la pena è ridotta.
B esclude la punibilità.
C non esclude la punibilità.

198) Destinatari delle misure di sicurezza possono essere i soggetti "imputabili" socialmente pericolosi, i soggetti semi-imputabili ed i soggetti non imputabili. Quando il giudice dispone l'assegnazione a una colonia agricola o casa di lavoro applica:

A una misura di sicurezza personale detentiva.
B una misura di prevenzione non personale correlata alla commissione di un reato.
C una misura di sicurezza patrimoniale.

199) Al fatto previsto come reato da un decreto-legge e commesso durante il suo vigore si applica il predetto decreto se, al momento del giudizio, non è stato convertito in legge?

A No, in nessun caso.
B Sì, in ogni caso.
C Sì, ma solo se è prevista la pena della reclusione.

200) Tra le seguenti ipotesi quale costituisce circostanza aggravante specifica del furto?

A Se il fatto è commesso su cose appartenenti a chi lavora con materie esplodenti.
B Se il fatto è commesso su tre o più capi di bestiame raccolti in gregge o in mandria.
C Se il colpevole, per commettere il fatto, offende il soggetto passivo.

201) Ai sensi dell'art. 2, comma 2, c.p., nel caso di disposizione penale che abroga una precedente legge penale incriminatrice, se vi è stata condanna:

A ne cessa esclusivamente l'esecuzione, fatti salvi gli effetti penali.
B ne cessano gli effetti penali, salva restando l'esecuzione della pena.
C ne cessano l'esecuzione e gli effetti penali.

202) L'assegnazione a una colonia agricola o ad una casa di lavoro, salvo che il giudice non ritenga che la pericolosità sociale sia venuta meno prima della scadenza del termine, ha di norma una durata minima di un anno. Per quali dei seguenti soggetti la durata è di tre anni?

A Per i delinquenti per tendenza.
B Per i delinquenti abituali.
C Per i delinquenti professionali.

203) Lo straniero che, a danno di uno Stato estero o di uno straniero, commette all'estero un delitto comune per il quale è stabilita la pena della reclusione non inferiore nel minimo a tre anni, è punito secondo la legge italiana:

A se si trova nel territorio dello Stato, vi è richiesta del Capo dello Stato estero offeso e l'estradizione non sia accordata ovvero non accettata dal Governo dello Stato in cui il delitto è stato commesso o da quello dello Stato cui lo straniero appartiene.
B se si trova nel territorio dello Stato, vi è richiesta del Ministro della giustizia e l'estradizione non sia accordata ovvero non sia accettata dal Governo dello Stato in cui il delitto è stato commesso o da quello dello Stato cui lo straniero appartiene.
C se si trova nel territorio dello Stato, vi è richiesta del Governo dello Stato estero o dello straniero offesi e l'estradizione non sia accordata ovvero non accettata dal Governo dello Stato in cui il delitto è stato commesso o da quello dello Stato cui lo straniero appartiene.

204) Può applicarsi all'agente una legge che prevede come reato il fatto da lui commesso e che sia entrata in vigore dopo la commissione del fatto?

A No, in nessun caso.
B Sì, a condizione che il responsabile conoscesse la prossima emanazione della legge.
C Sì, se si tratta di contravvenzione.

205) Risponde di delitto tentato, se l'azione non si compie, chi compie:

A atti oggettivamente idonei, anche se non univocamente diretti a commettere un delitto
B atti anche inidonei, ma diretti in modo non equivoco a commettere un delitto.
C atti idonei diretti in modo non equivoco a commettere un delitto.

206) La desistenza si ha:

A quando l'agente viene colto in flagranza ed oppone resistenza.
B quando, dopo aver iniziato l'azione, muta il proposito criminoso dell'agente.
C quando l'agente ha portato a termine l'attività delittuosa.

207) Chi ha svolto atti di polizia giudiziaria può nello stesso procedimento esercitare l'ufficio di giudice:

A no,mai.
B si sempre che siano trascorsi almeno sei mesi.
C solo se decorso un certo periodo di tempo.

208) Gli atti che può compiere la polizia giudiziaria dopo l'intervento del Pubblico Ministero sono:

A tutte le altre attività di indagine di iniziativa per accertare i reati.
B le intercettazioni telefoniche e le intercettazioni ambientali.
C nessuna altra attività di indagine volta ad accertare i reati.

209) Indicare i tipi di perquisizioni:

A urgenti, evasive e locali.
B personali, collettive e urgenti.
C personali, veicolari, locali e domiciliari.

210) La polizia giudiziaria può prendere notizia dei reati di propria iniziativa:

A si, è il suo compito.
B si ma solo su segnalazione del Pubblico Ministero.
C no,mai se non vi è delega.

211) L'indagato può sempre rendere dichiarazioni spontanee alla polizia giudiziaria:

A si, purché l'indagato abbia scelto di renderle liberamente.
B sempre in ogni caso anche senza l'assistenza del difensore.
C no mai.

212) Qualora sia necessario procedere alla identificazione della persona indagata si può procedere a rilievi fotografici :

A si sempre.
B solo in alcuni casi espressamente determinati dalla legge.
C no per motivi di privacy.

213) In caso di arresto di un minore gli ufficiali o agenti di polizia giudiziaria ne danno notizia al Pubblico Ministero:

A entro 24 ore.
B immediatamente.
C Entro 12 ore.

214) Alcune delle seguenti attività non spetta alla polizia giudiziaria:

A perquisizione personale o locale.
B acquisizione di plichi e corrispondenza.
C convalida del sequestro.

215) L'imputato è interrogato il più delle volte:

A da un ufficiale di polizia giudiziaria delegato dal Pubblico Ministero.
B mai dal Pubblico Ministero.
C sempre dal Pubblico ministero.

216) Le direttive impartite alla polizia giudiziaria provengono dal:

A Commissario.
B Giudice delegato.
C Pubblico Ministero.

217) L'imputato ha diritto di nominare:

A un solo difensore di fiducia .
B anche più di due in casi eccezionali.
C Non più di due difensori di fiducia.

218) Le persone informate o i possibili testimoni di un reato hanno:

A su di essi non grava l'obbligo di dire la verità.
B posizione analoga a quella dei testimoni.
C posizione in parte diversa.

219) Il prelievo del materiale biologico dell'indagato da parte della polizia giudiziaria può avvenire:

A coattivamente.
B sempre e solo col suo consenso.
C il consenso necessita solo in casi eccezionali.

220) Il sequestro probatorio è compiuto dalla polizia giudiziaria:

A allorquando il P.M. non abbia ancora assunto la direzione delle indagini.
B su autorizzazione del giudice tutelare.
C in caso di impedimento del P.M..

221) Ricercare gli autori del reato:

A Rientra tra le funzioni della polizia giudiziaria.
B vi rientra solo in alcuni casi espressamente determinati da leggi speciali.
C non rientra tra le funzioni della polizia giudiziaria.

222) L'espressione " dipendenza funzionale della polizia giudiziaria"sta ad indicare:

A che essa è autonoma in base alle funzioni.
B che essa svolge le proprie funzioni sotto la direzione del Pubblico Ministero.
C che essa è autonoma.

---

223) Cosa si intende con l'espressione "soggetti del processo penale"?

A coloro che abbiano ricevuto un danno.
B le persone offese del reato ed i responsabili civili.
C I titolari del potere di iniziativa nel procedimento.

---

224) Sono agenti di polizia giudiziaria:

A le guardie di finanza.
B gli addetti al coordinamento della polizia municipale.
C gli addetti al controllo della polizia municipale.

---

225) L'attività della Polizia giudiziaria tesa ad impedire che i reati vengano portati a conseguenze ulteriori viene indicata come:

A attività investigativa- preventiva
B attività socio-educativa.
C attività repressiva.

---

226) Le sezioni della Polizia giudiziaria sono istituite presso:

A ogni comando dei carabinieri.
B ogni questura.
C ogni procura della Repubblica.

---

227) Le norme che regolano il diritto penale si trovano:

A nel codice penale, nella Costituzione e nell'ambito delle leggi speciali.
B nel codice penale e nella Costituzione.
C solo nel codice penale.

---

228) Gli elementi costitutivi della norma penale sono:

A l'intenzione criminosa.
B il precetto e la sanzione.
C la sanzione,la multa e la reclusione.

---

229) L'oggetto giuridico del reato è:

A il bene giuridico tutelato dalla norma
B il patrimonio.
C la persona offesa.

---

230) Tra i seguenti, è un elemento essenziale del reato:

A coscienza e volontà del fatto.
B imputabilità.
C querela.

---

231) Colui che, comunicando con più persone, offende la reputazione di un pubblico impiegato assente risponde del reato di :

A ingiuria.
B oltraggio a un pubblico impiegato.
C diffamazione.

---

232) Delle seguenti affermazioni quale è sancita dal Codice penale:

A Ai fini del calcolo della pena, le circostanze generiche sono sempre valutate come una sola circostanza.
B Le attenuanti generiche sono tassativamente indicate dalla legge.
C Ai fini del calcolo della pena le circostanze non incidono su di essa.

---

233) Quale, tra le seguenti, non costituisce una circostanza soggettiva del reato:

A l'intensità del dolo.
B le modalità dell'azione.
C i rapporti fra il colpevole e l'offeso.

---

234) Nell'ipotesi del concorso formale omogeneo di reati qual è la pena prevista generalmente:

A la pena che dovrebbe infliggersi per il reato più grave aumentata sino al triplo.
B la somma delle pene previste per i singoli reati.
C la pena che dovrebbe infliggersi per il reato più grave aumentata sino ad un terzo.

235) In quali casi la causa di giustificazione dell'uso legittimo delle armi si applica a favore degli incaricati di pubblico servizio?

A solo quando rivestono anche la qualifica di pubblico impiegato.
B mai.
C solo quando hanno commesso il fatto nell'esercizio delle loro funzioni.

236) In base al principio di legalità:

A il Giudice distingue tra ciò che è giusto e ciò che è sbagliato.
B nessuno può essere punito per un fatto che non sia previsto dalla legge come reato.
C la legge penale è irretroattiva.

237) Nell'ambito del diritto penale, il termine "circostanza" di cui agli art. 61 e 62 del Codice Penale indica:

A un elemento essenziale che incide sulla natura del reato.
B un elemento accidentale che incide sulla quantificazione della pena e, in talune ipotesi, può far venire meno la responsabilità penale dell'autore.
C un elemento accidentale che incide sulla pena, aggravandola o attenuandola.

238) La morte del reo dopo la condanna:

A estingue la pena e le obbligazioni civili nascenti dal reato.
B estingue la pena ma non le obbligazioni civili nascenti dal reato.
C estingue la pena.

239) Chi commette un reato per "forza maggiore":

A rimane impunito.
B deve pagare solo una multa.
C la pena è aumentata.

240) Il principio di tassatività riguarda:

A solo le contravvenzioni.
B solo i delitti.
C delitti e contravvenzioni.

241) Reato di furto (Art. 624 c.p.) e reato di rapina (Art.628 c.p.) sono delitti contro:

A il buon andamento della pubblica amministrazione.
B la persona.
C il patrimonio.

242) Viene esattamente definita quale conseguenza giuridica della violazione di una norma penale è:

A la pena.
B un richiamo da parte dell'Autorità Giudiziaria.
C l'estradizione.

243) L'amnistia costituisce:

A un atto di clemenza da parte del Capo dello Stato.
B un atto di clemenza da parte del giudice.
C la rinuncia da parte dello Stato alla punibilità di soggetti che hanno commesso reati in un determinato periodo.

244) Non costituisce una fonte del diritto penale:

A la consuetudine.
B l'atto avente forza di legge.
C la Costituzione.

245) La detenzione domiciliare può essere concessa:

A a chi deve espiare una pena che non superi i 4 anni.
B a chi ha una buona condotta.
C ai malati terminali.

246) Il Sindaco può essere ufficiale di polizia giudiziaria:

A no mai neanche qual ora sia un comune di piccole dimensioni.
B si sempre.
C si se in quel Comune non vi sia un ufficio della Polizia di Stato ovvero un comando dei Carabinieri o della Guardia di Finanza.

247) Un agente di Polizia giudiziaria può ricevere una querela:

A no mai.
B si purchè sia successivamente trasmessa all'autorità giudiziaria da un ufficiale di polizia giudiziaria.
C si sempre senza alcuna condizione ostativa.

248) I carabinieri:

A sono funzionari di polizia giudiziaria.
B possono rivestire il doppio ruolo in alcune situazioni
C sono agenti di polizia giudiziaria.

249) Acquisita la notizia di reato la polizia giudiziaria riferisce al Pubblico Ministero:

A in qualsiasi modo.
B qualche volta per iscritto, se e vi sia espressa richiesta.
C per iscritto, sempre.

250) Acquisita la notizia di reato i tempi per riferire al Pubblico Ministero da parte della polizia giudiziaria devono essere:

A dipende da caso a caso.
B i tempi necessari.
C senza ritardi.

251) Con la comunicazione di reato la polizia giudiziaria indica:

A il giorno e l'ora in cui ha acquisito la notizia.
B il giorno, l'ora e l'anno.
C il giorno in cui ha acquisito la notizia.

252) L'attività esecutiva della polizia giudiziaria :

A impedisce che i reati vengano portati a conseguenze ulteriori.
B si sostanzia nell'attività di notificazione ed esecuzione di ordinanze ed atti.
C ricostruisce il fatto costituente reato.

253) Le perquisizioni personali sono consentite solo agli ufficiali di polizia giudiziaria:

A no anche agli agenti.
B dipende dall'importanza del caso.
C si sempre.E' la legge che lo prescrive.

254) L'attività della polizia giudiziaria :

A è autonoma ed agisce in autonomia.
B dipende dai singoli casi.
C è sempre sotto la dipendenza e la direzione dell'autorità giudiziaria.

255) L'attività di perquisizione della polizia giudiziaria è più ampia di quella del Pubblico Ministero:

A dipende dalle circostanze concrete.
B vero.
C falso. Questa affermazione non è corretta.

256) Da cosa dipende l'obbligo da parte degli ufficiali di polizia di redigere la relazione di servizio:

A dal fatto che essi ricoprono anche la funzione di pubblica sicurezza.
B dalla necessità di osservare i regolamenti.
C dalla necessità di un atto a rilevanza esterna.

257) La responsabilità penale è, in base alla Costituzione:

A dipende dai reati.
B sempre personale.
C mai personale.

258) Le pene devono tendere:

A alla riabilitazione ed alla educazione.
B alla educazione ed al sostegno psicologico.
C alla rieducazione del condannato.

259) La rieducazione del condannato consente allo stesso:

A La possibilità di contrarre matrimonio.
B Il reinserimento nella società.
C La ricerca di un lavoro all'interno del carcere o in un comune limitrofo.

---

260) Gli organi delle notificazioni sono:

A Il cancelliere o l'assistente giudiziario.
B Il questore e il prefetto.
C L'ufficiale giudiziario.

---

261) I termini di notifica dell'atto di citazione dinanzi al Giudice di pace penale sono:

A trenta giorni prima.
B sessanta giorni prima dell'udienza.
C venti giorni prima.

---

262) E' sempre applicabile il giudizio direttissimo.

A in caso di straniero.
B in caso di minorenne.
C in caso di arresto in flagranza.

---

263) Le notificazioni possono essere eseguite dalla polizia penitenziaria:

A mai.
B in alcuni casi espressamente determinati.
C per motivi di urgenza.

---

264) Il verbale di perquisizione eseguita dalla polizia giudiziaria è trasmesso al Pubblico Ministero:

A entro 24 ore.
B entro 48 ore.
C entro 36 ore.

---

265) La durata del sequestro probatorio persiste:

A fin quando vi siano esigenze di tutela della prova.
B 30 giorni dal provvedimento di sequestro.
C 60 giorni dal provvedimento di sequestro.

---

266) Chi, chiamato a fornire informazioni ai fini delle indagini, renda nel corso di un procedimento penale false dichiarazioni può essere punito con la reclusione:

A fino a 4 anni.
B no, mai.
C si fino a 6 anni.

---

267) Colui che interroga i sospettati di un reato è:

A un agente di polizia tributaria.
B sempre il Pubblico Ministero.
C quasi sempre un ufficiale di polizia giudiziaria su delega del Pubblico Ministero.

---

268) Le indagini preliminari sono finalizzate secondo il Codice di procedura penale a:

A acquisire prove e creare il fascicolo di parte.
B creare il fascicolo d'ufficio.
C acquisire determinazioni inerenti l'esercizio dell'azione penale.

---

269) In base all'art. 381c.p.c.gli ufficiali e gli agenti di polizia giudiziaria hanno facoltà di arrestare chiunque sia colto in flagranza di un delitto:

A colposo se consumato.
B non colposo consumato o tentato.
C colposo consumato o tentato.

---

270) La legge prevede la facoltà dell'arresto di chiunque sia colto in flagranza del reato di peculato mediante profitto dell'errore altrui:

A deve essere una forma aggravata.
B no, può trattarsi anche di semplice peculato.
C si espressamente.

---

271) L'ordine per essere legittimo deve provenire:

A da chiunque.
B dal Pubblico Ufficiale o dalla persona incaricata di un pubblico servizio.
C dal Pubblico Ufficiale.

272) La tendenza o inclinazione dell'individuo a commettere fatti in contrasto con la legge penale viene indicata come:

A capacità a delinquere.
B imputabilità.
C capacità di agire.

273) Il reato di furto costituisce un delitto contro:

A l'ordine pubblico.
B la pubblica amministrazione ed il patrimonio.
C il patrimonio.

274) Nel nostro ordinamento è previsto il reato di maltrattamento di animali. La pena per esso prevista è quella della reclusione:

A da un anno a tre anni.
B da tre mesi a diciotto mesi.
C da sei mesi a ventiquattro mesi.

275) La somministrazione di sostanze stupefacenti o vietate agli animali:

A e' prevista nel nostro ordinamento e ad essa si applica la stessa pena prevista per il maltrattamento.
B è prevista con una pena diversa.
C non è prevista nel nostro ordinamento.

276) Se non diversamente disposto quando va iniziata una perquisizione domiciliare:

A non prima delle ore sette fino alle ore ventiquattro.
B non prima delle ore sette e non dopo le venti.
C in qualsiasi orario del giorno e della notte.

277) In difetto di una condizione di procedibilità la Polizia Giudiziaria può svolgere attività di indagine diretta ad assicurare fonti di prova:

A solo quando non vi è pericolo nel ritardo.
B si sempre.
C no mai.

278) Può la Polizia Giudiziaria sequestrare il corpo del reato:

A no, vi provvede il giudice per le indagini preliminari.
B anche senza che vi sia la richiesta.
C si sempre su richiesta del Pubblico Ministero.

279) La polizia giudiziaria, che abbia redatto verbale di perquisizione di sua iniziativa, deve trasmetterlo al Pubblico Ministero:

A entro 24 ore.
B entro 48 ore.
C entro 36 ore.

280) Può un ufficiale di polizia giudiziaria di sesso femminile eseguire una perquisizione nella casa di un indagato di sesso maschile:

A solo se autorizzato dal Pubblico Ministero.
B no.
C si.

281) L'obbligo di presentazione alla Polizia Giudiziaria prevede:

A che l'imputato si presenti presso un determinato ufficio giudiziario a cadenze prestabilite.
B che l'imputato si presenti presso l' ufficio giudiziario più vicino alla propria abitazione.
C che l'imputato si presenti presso qualsiasi ufficio giudiziario ma due volte al giorno.

282) Può la Polizia Giudiziaria acquisire sommarie informazioni dalla persona sottoposta ad indagini:

A si ma il Pubblico Ministero può disporre la presenza del difensore.
B si anche senza la presenza del difensore.
C si ma è necessaria la presenza del difensore.

283) Successivamente alla scadenza del termine di durata delle indagini preliminari che valore avranno gli atti eseguiti:

A sono inutilizzabili.
B sono validi ed efficaci.
C sono utilizzabili solo a favore dell'imputato.

284) **Nell'esecuzione di una perquisizione personale, può la persona da perquisire, essere invitata alla consegna della cosa:**

A solo a condizione che non costituisca pericolo per l'incolumità pubblica.
B si ma se la cosa viene consegnata non si dovrebbe più procedere alla perquisizione, tranne che non lo si ritenga comunque utile.
C no mai.

285) **Può l'arrestato rifiutarsi di rispondere alla polizia giudiziaria:**

A no.
B se è in presenza del difensore di fiducia.
C è una sua facoltà.

286) **L'identificazione della persona nei cui confronti vengono svolte le indagini ai sensi dell'art.349 cpp è:**

A non costituisce un atto tipico.
B un atto di investigazione indiretta.
C un atto tipico di investigazione diretta.

287) **Il pubblico ministero nel procedere ad accertamenti, rilievi segnaletici,descrittivi o fotografici o altre operazioni tecniche può avvalersi di consulenti :**

A si salvo il rifiuto da parte dei consulenti.
B si e costoro non possono rifiutare la loro opera.
C mai.

288) **L'atto di indagine compiuto personalmente dal pubblico ministero viene definito :**

A atto urgente e necessario.
B atto diretto.
C atto delegato.

289) **In caso di presentazione spontanea dinanzi al pubblico ministero da parte della persona nei cui confronti sono svolte indagini, la dichiarazione resa circa ilfatto per cui si procede equivale :**

A pregiudica l'applicazione di misure cautelari.
B per ogni effetto all'interrogatorio.
C non equivale all'interrogatorio ma ha rilevanza interna.

290) **L'accompagnamento coattivo per procedere a interrogatorio o a confronto,è disposto :**

A dalla polizia giudiziaria con il consenso del giudice.
B dal Pubblico Ministero anche senza l'autorizzazione del giudice.
C dal pubblico ministero su autorizzazione del giudice.

291) **Nell'acquisizione di plichi sigillati o altrimenti chiusi l'ufficiale di polizia giudiziaria :**

A è un atto di iniziativa degli agenti di polizia giudiziaria.
B è un atto del Pubblico Ministero.
C li trasmette intatti al Pubblico Ministero per l'eventuale sequestro.

292) **Chi ha l'obbligo del referto deve farlo pervenire al Pubblico Ministero :**

A entro 48 ore o se vi è pericolo nel ritardo, immediatamente.
B entro 36 ore.
C entro 24 ore.

293) **Nel caso in cui più persone abbiano prestato la loro assistenza nella medesima occasione, sono tutti obbligati al referto :**

A sono obbligate al referto le persone più anziane.
B sono tutti obbligati al referto con obbligo di redigere più atti.
C sono tutti obbligati al referto con facoltà di redigere e sottoscrivere un unicoatto.

294) **Chiunque si avvalga di una persona minore di anni 14 per mendicare è punito :**

A con l'arresto da tre mesi ad un anno.
B con l'arresto da sei mesi ad un anno.
C con l'arresto da un mese ad un anno.

295) **Nel caso in cui debba fare dichiarazioni un muto,a costui vengono presentate le domande oralmente ed:**

A egli risponderà a gesti.
B egli risponderà per iscritto.
C egli si farà assistere da un familiare.

---

296) Se la persona sordomuta che debba rendere dichiarazioni non sa leggere o scrivere, l'autorità procedente:

A rinuncia alla dichiarazione.
B valuta discrezionalmente il linguaggio non verbale.
C nomina uno o più interpreti.

---

297) Allorquando venga disposta quale misura cautelare l'allontanamento dell'imputato dalla casa familiare, la prescrizione a suo carico di non potervi accedere senza autorizzazione può eventualmente consentire:

A le visite non sono mai consentite.
B determinate modalità di visita.
C sono necessarie due autorizzazioni.

---

298) Chiunque, in un luogo pubblico o aperto o esposto al pubblico, compie atticontrari alla pubblica decenza :

A è soggetto alla sanzione amministrativa da euro 2000 a euro 5000.
B è soggetto alla sanzione amministrativa da euro 5000 a euro 10000.
C è soggetto alla sanzione amministrativa da euro 1000 a euro 5000.

---

299) L'abbandono di animali domestici è punito :

A con l'arresto fino ad un anno e con l'ammenda da 1000 a 10000 euro.
B con l'arresto fino a 6 mesi e con l'ammenda di 1000 euro.
C solo con un'ammenda.

---

300) Allorquando si verifichi che "chiunque con artifizi o raggiri, inducendo taluni in errore procuri a sè o a altri un ingiusto profitto con altrui danno", viene a configurarsi il reato di :

A truffa.
B appropriazione indebita.
C peculato.

---

301) L'ispezione personale deve avvenire in presenza di certe condizioni :

A è eseguita nel rispetto della dignità e, nei limiti del possibile, del pudore di chi vi è sottoposto.
B sempre con l'assistenza di un medico.
C sempre obbligatoriamente con la presenza di una persona di fiducia.

---

302) Allorquando l'ispezione personale venga eseguita per mezzo di un medico, l'autorità giudiziaria :

A l'autorità giudiziaria deve essere, in ogni caso, presente.
B può astenersi dall'assistere alle operazioni.
C è sempre necessaria la presenza dell'autorità giudiziaria.

---

303) I reati propri sono quelli commessi da :

A coloro che occupano una carica politica.
B coloro cui la legge richiede una speciale qualifica.
C chiunque.

---

304) È configurabile, nei reati colposi, il concorso di persone?

A Si, anche se l'esatta denominazione è cooperazione nel delitto colposo.
B No, tranne le ipotesi espressamente previste dalla legge.
C No, nei reati colposi il concorso di persone non è configurabile.

---

305) Il furto con strappo prevede:

A l'arresto facoltativo.
B non prevede l'arresto.
C l'arresto obbligatorio in flagranza.

---

306) Il diritto penale è:

A un ramo del diritto pubblico.
B un ramo del diritto civile.
C un ramo del diritto privato.

---

307) Il rinvio facoltativo dell'esecuzione della misura di sicurezza personale non può essere adottato:

A se il condannato è recidivo.
B se sussiste il pericolo concreto della commissione di delitti.
C se sussiste il pericolo concreto della commissione di reati della stessa specie.

---

308) Qual è la durata dell'ergastolo?

A La pena dell'ergastolo è perpetua.
B La pena dell'ergastolo dura cinquanta anni.
C La pena dell'ergastolo dura trenta anni.

---

309) Commette il reato di falsità ideologica in atto pubblico il pubblico ufficiale che, ricevendo un atto, attesta falsamente fatti dei quali l'atto è destinato a provare la verità:

A solo se si tratta di un atto destinato ad essere prodotto all'Autorità giudiziaria.
B se agisce per trarne profitto.
C se agisce nell'esercizio delle sue funzioni.

---

310) Sono pene principali restrittive della libertà personale:

A l'arresto.
B la decadenza dall'esercizio della potestà di genitori.
C la permanenza domiciliare.

---

311) Quali sono le pene principali stabilite dalla legge per le contravvenzioni?

A L'arresto e l'ammenda.
B La reclusione e la multa.
C La libertà vigilata.

---

312) L'inescusabilità dell'ignoranza della legge penale:

A non prevede alcuna eccezione.
B non prevede eccezioni, salvo che l'ignoranza fosse inevitabile.
C concerne esclusivamente la mancanza di conoscenza della norma e non l'erronea interpretazione della norma stessa.

---

313) Il delitto è colposo se è:

A privo d'intenzione.
B secondo l'intenzione.
C contro l'intenzione.

---

314) In ambito penale come può essere definita la capacità di intendere?

A La capacità di rendersi conto almeno parzialmente del valore sociale dell'atto che si compie.
B La capacità di rendersi conto del valore sociale dell'atto che si compie.
C La capacità di contrarre con la P.A.

---

315) Una persona non recidiva che, con una sola azione od omissione, viola diverse disposizioni di legge è punita con:

A la somma delle pene previste per i singoli reati, ridotta fino ad un terzo.
B la somma delle pene previste per i singoli reati
C la pena che dovrebbe infliggersi per il reato più grave aumentata sino al triplo.

---

316) L'essere concorso a determinare l'evento, insieme alla condotta del colpevole, il fatto doloso della persona offesa costituisce:

A una causa di esclusione del reato.
B una circostanza attenuante comune.
C una circostanza attenuante speciale.

---

317) Il perdono giudiziale è concesso:

A al soggetto che ha compiuto i 18 anni da non più di tre anni.
B al soggetto compreso nella fascia di anni 60-70.
C al soggetto, che all'epoca in cui ha commesso il reato, non abbia superato i 18 anni.

---

318) Le modalità di esecuzione della semidetenzione e della libertà controllata sono demandate al:

A magistrato di sorveglianza.
B giudice dell'esecuzione.
C tribunale di sorveglianza.

---

319) In che consiste la sanzione:

A il divieto di tenere un determinato comportamento.
B la prima porzione di ogni norma penale.
C la conseguenza giuridica che segue l'infrazione del precetto.

---

320) Nel concorso di reati il giudice determina la pena secondo il principio del:

A cumulo materiale.
B cumulo formale.
C cumulo giuridico.

---

321) Non è punibile il pubblico ufficiale che adempiendo ad un dovere del proprio ufficio faccia uso delle armi nel caso in cui:

A vi è costretto per replicare ad un oltraggio ricevuto.
B vi è costretto per reagire ad un'ingiustizia.
C vi è costretto dalla necessità di respingere una violenza.

---

322) L'inclinazione del soggetto a commettere fatti contrari alla legge penale viene denominata:

A consuetudine.
B capacità a delinquere.
C cumulo giuridico.

---

323) Le norme penali proibiscono determinate condotte di natura:

A soltanto omissiva.
B soltanto commissiva.
C commissiva ed omissiva.

---

324) Il recesso attivo si verifica allorquando il soggetto:

A impedisce volontariamente il verificarsi dell'evento.
B impedisce involontariamente il verificarsi dell'evento.
C impedisce volontariamente l'evento e tenta la fuga.

---

325) Il precetto è:

A la conseguenza giuridica che deriva da una violazione.
B il divieto di tenere un determinato comportamento e l'indicazione della pena a cui andrà incontro il trasgressore.
C il comando o divieto imperativo da osservare.

---

326) Per norma penale in bianco si intende:

A una disposizione normativa non contenuta nel codice penale.
B la norma dove né il precetto né la sanzione sono determinati.
C la norma con precetto generico e sanzione determinata.

---

327) I destinatari delle norme penali sono:

A i consociati e gli organi dello Stato che vigilano sulla loro osservanza.
B tutti tranne i minori.
C solo gli organi dello Stato che vigilano sulla loro osservanza.

---

328) Il codice penale all'art. 39 prevede la seguente tipologia di reati:

A delitti, contravvenzioni ed illeciti amministrativi.
B solo contravvenzioni.
C delitti e contravvenzioni.

---

329) Le tipologie di pene previste per i delitti sono:

A solo ergastolo, reclusione e ammenda.
B ergastolo, reclusione, multa.
C ergastolo, arresto, multa.

---

330) Le norme integratrici sono:

A norme di primo grado che definiscono il precetto.
B norme di secondo grado che integrano la sanzione.
C norme di secondo grado che completano il precetto.

---

331) Non sono fonti del diritto penale:

A ordinanze d'urgenza.
B leggi ordinarie.
C decreti legge.

332) I delitti si distinguono dalle contravvenzioni per:

A le contravvenzioni costituiscono solo un pericolo per la pubblica utilità.
B i delitti producono lesioni giuridiche.
C la diversa specie delle pene previste.

333) Nel delitto di incendio di cosa propria il legislatore richiede la sussistenza del pericolo per la pubblica incolumità, configurandolo:

A come elemento qualificatore della condotta incriminata.
B come elemento soggettivo.
C come condizione obiettiva di punibilità.

334) Nel nostro ordinamento giuridico a quale titolo giuridico rileva l'ingiuria:

A a titolo di delitto.
B a titolo di contravvenzione.
C a titolo di illecito civile.

335) . Quale, tra le seguenti, è una misura di sicurezza personale non detentiva:

A ricovero in un ospedale psichiatrico giudiziario.
B assegnazione ad una casa di lavoro.
C libertà vigilata.

336) . Se il soggetto attivo, dopo aver dato inizio alla condotta criminale, desiste volontariamente dal completare l'azione:

A è punibile per il reato tentato.
B non è punibile in ogni caso.
C risponde solo degli atti compiuti se questi costituiscono reato.

337) Nella Costituzione quale delle seguenti locuzioni sancisce il principio di legalità:

A nessun può essere punito se non in forza di una legge che sia entrata in vigore prima del fatto commesso.
B nessuna prestazione personale o patrimoniale può essere imposta se non in base alla legge.
C la responsabilità penale è personale.

338) Per le contravvenzioni le tipologie di pene previste sono:

A Arresto, ammenda, permanenza domiciliare.
B Detenzione domiciliare, ammenda.
C Arresto, ammenda.

339) La Costituzione consacra il principio di legalità nell'ambito dell'articolo:

A 27.
B 25.
C 23 e 25.

340) . In virtù della previsione normativa, l'uso legittimo delle armi è riservato:

A esclusivamente agli ufficiali di Polizia Giudiziaria.
B esclusivamente all'agente ed all'ufficiale di Polizia Giudiziaria e di Pubblica Sicurezza.
C al Pubblico Ufficiale.

341) Cosa si intende per riserva di legge?

A La possibilità di punire un determinato fatto anche in assenza di una legge preesistente che lo configuri come reato.
B Che la legge penale non è retroattiva
C Solo la legge può indicare ciò che è reato e definire la relativa sanzione penale.

342) La Costituzione consacra il principio di colpevolezza nell'articolo:

A art. 32.
B art. 27
C art. 25.

343) Sono corollari del principio di legalità:

A la riserva di legge, la tassatività, la determinatezza, la irretroattività.
B la riserva di legge, la determinatezza, la retroattività.
C la riserva di legge e la determinatezza.

344) Il principio di legalità è previsto per le misure di sicurezza?

A | Sì, nell'art. 25 della Costituzione e nell'art. 199 del codice penale.
B Solo nel codice penale all'art.199.
C Solo per i soggetti minori degli anni 14.

345) La pronuncia della sentenza di primo grado determina:

A l'inizio di decorrenza della prescrizione.
B l'interruzione del corso della prescrizione e l'inizio di decorrenza della prescrizione.
C la sospensione del corso della prescrizione.

346) Commette il delitto di favoreggiamento personale:

A chi aiuta il reo a sottrarsi alle ricerche dell'autorità.
B chi aiuta il reo a trasportare la refurtiva.
C chi aiuta il reo ad assicurarsi il profitto del reato

347) A norma del Codice Penale, lo stato di necessità concretizza:

A una causa di esclusione del reato
B una causa di estinzione del reato
C una circostanza attenuante

348) In materia penale sono "circostanze speciali":

A solo quelle previste per singoli reati determinati.
B quelle previste nella parte speciale del Codice Penale e relative a tutti i reati in esso previsti.
C quelle che si applicano solo a reati commessi da "speciali" categorie di soggetti.

349) Il principio di legalità è previsto nel codice penale?

A Non è espressamente previsto ma si ricava dal principio di irretroattività.
B Si, nell'art.1.
C No, non è previsto ma lo si ricava dall'interpretazione delle altre norme.

350) La morte del reo comporta che :

A il reato e la pena si estinguono.
B non si estingue la pena.
C la punibilità del reato viene estesa agli eredi.

351) Può un decreto-legge legiferare in materia penale?

A | Solo nei casi straordinari di necessità ed urgenza.
B Mai, vige una riserva di legge formale e assoluta.
C Sempre se il governo lo ritiene opportuno e non necessita di conversione in legge.

352) In materia penale, le contravvenzioni ammettono il tentativo?

A Si, ma solo nell'ipotesi del tentativo compiuto.
B Sì, tranne i casi espressamente previsti dalla legge.
C No, in nessun caso.

353) Il reato è preterintenzionale quando dall'azione od omissione dell'agente deriva:

A un evento meno grave di quello voluto dall'agente.
B un evento protratto nel tempo.
C un evento più grave di quello voluto dall'agente.

354) Allorquando, con una sola azione od omissione, si violino diverse disposizioni di legge, si verifica l'ipotesi di:

A concorso formale omogeneo
B concorso materiale eterogeneo
C concorso formale eterogeneo

355) In materia penale, la colpa cosciente è la forma più o meno grave di colpa?

A È la forma più grave; essa, infatti, costituisce circostanza aggravante comune.
B Fra i due aspetti di colpa cosciente e colpa incosciente la legge non rileva sostanziali differenze ai fini della valutazione della gravità del fatto.
C È la forma meno grave, infatti comporta l'applicazione di attenuanti.

356) La legge prevede l'ammissibilità del tentativo nei delitti unisussistenti?

A Sì, ma solo se chi agisce è in buona fede.
B Sì, in ogni caso.
C No.

---

357) A norma del Codice Penale, per poter legittimamente invocare lo stato di necessità, l'oggetto del pericolo deve essere:

A un danno grave al patrimonio o alla persona del soggetto passivo del reato.
B un danno grave al patrimonio o alla persona che invoca lo stato di necessità o un suo stretto congiunto.
C un danno grave alla persona propria o altrui.

---

358) Quale delle seguenti ipotesi configura, agli effetti della legge penale, il tentativo incompiuto.

A il soggetto agente, per cause non dipendenti dalla sua volontà, cessa l'esecuzione del reato prima di completare la condotta.
B il soggetto agente decide spontaneamente di arrestarsi nell'attività criminosa prima di completare la condotta.
C non tutti gli atti compiuti dal soggetto attivo sono risultati idonei a determinare l'evento.

---

359) L'elemento soggettivo del delitto tentato è costituito:

A dalla volontà di realizzare un delitto perfetto in tutti i suoi elementi.
B dalla coscienza e volontà di compiere un tentativo di delitto.
C dalla semplice partecipazione ad azioni delittuose.

---

360) Chi lede il diritto alla integrità personale col consenso dell'interessato è punibile:

A Solo nel caso in cui ciò cagioni una diminuzione permanente della stessa o sia contrario alla legge, all'ordine pubblico o al buon costume.
B Sì, sempre.
C No.

---

361) Un delitto si definisce doloso quando:

A dall'azione od omissione deriva un evento dannoso o pericoloso più grave di quello voluto dall'agente.
B è dall'agente preveduto e voluto dall'agente come conseguenza della propria azione o omissione.
C l'evento dannoso o pericoloso non è voluto dall'agente e si verifica per negligenza,imprudenza o imperizia.

---

362) Il sequestro di persona a scopo di coazione costituisce:

A un'ipotesi autonoma di reato.
B un'ipotesi aggravata di sequestro comune.
C un'ipotesi aggravata di sequestro estorsivo.

---

363) Quale causa di esclusione del reato potrà invocarsi nella seguente circostanza: l'alpinista ha tagliato la corda con un coltello, provocando la caduta nel vuoto del compagno di cordata. Per non essere coinvolto dalla caduta di questi, quale sarà la causa che potrà invocare?

A Forza maggiore.
B Esercizio di un diritto.
C Stato di necessità.

---

364) Il delitto di violenza sessuale si consuma:

A nel momento in cui il soggetto agente trae in inganno la persona offesa rendendo possibile la condotta criminosa.
B nel momento in cui il soggetto agente adesca la vittima, essendo un reato di pericolo.
C con il compimento dell'atto sessuale.

---

365) Autore del delitto di falsa testimonianza, ai sensi dell'art. 372 c.p., è:

A il soggetto chiamato a ricoprire l'ufficio di testimone innanzi ad una Autorità giudiziaria civile, penale o amministrativa.
B la persona che può riferire circostanze utili ai fini delle indagini.
C il testimone nel procedimento penale.

---

366) Il delitto di falsa attestazione o dichiarazione a un pubblico ufficiale sulla idoneità o su qualità personali proprie o altrui, di cui all'art. 495 c.p., è punibile:

A d'ufficio.
B a querela della persona offesa.
C d'ufficio solo nel caso in cui la falsa dichiarazione sulla propria identità è resa di fronte all'autorità giudiziaria da un imputato o da una persona sottoposta alle indagini.

---

367) Soggetto passivo del delitto di violenza sessuale:

A può essere chiunque, ad esclusione della donna legata al soggetto attivo da un rapporto di coniugio o comunque convivente.
B può essere chiunque.
C può essere chiunque, ad esclusione del minore di anni quattordici.

---

368) L'errore sulla legge penale, il cd. errore di diritto, esclude la responsabilità?

A Sempre.
B Solo se si dimostra che l'ignoranza era inevitabile.
C Mai in ogni caso.

---

369) Quale tra le seguenti affermazioni sulla reclusione è corretta?

A L'art. 23 del c.p. stabilisce che la pena della reclusione si estende da quindici giorni a ventiquattro anni, ed è scontata in uno degli istituti a ciò destinati, con l'obbligo del lavoro e senza l'isolamento notturno.
B La reclusione è la pena temporanea per i delitti.
C Il c.p. prevede il differimento facoltativo della reclusione per la donna che ha partorito da meno di sei mesi.

---

370) L'istituto della riabilitazione del condannato:

A è una causa estintiva del reato, applicabile soltanto all'imputato che nel momento in cui lo ha commesso era minorenne.
B è finalizzato alla riabilitazione sociale del condannato che abbia scontato la pena inflittagli.
C è un atto di clemenza generale con cui lo Stato rinuncia all'applicazione della pena.

---

371) Chiunque, senza essere concorso nella falsità, fa uso di un atto falso, commette il reato di:

A uso di atto falso.
B falsità in foglio firmato in bianco.
C falsità ideologica in certificati o autorizzazioni amministrative.

---

372) Con riferimento alla disciplina del reato di corruzione contenuta nel codice penale è corretto affermare che:

A nella corruzione impropria susseguente è sufficiente la promessa della retribuzione come ricompensa dell'atto già compiuto e non occorre la dazione.
B nella corruzione impropria antecedente è comunque richiesta una competenza funzionale del P.U. o dell'incaricato di pubblico servizio e cioè una sua competenza esclusiva, non essendo sufficiente una sua competenza generica, quale quella derivante dall'appartenenza all'ufficio.
C nella corruzione propria susseguente il dolo è generico, non essendo richiesto alcun fine (l'atto di ufficio è già stato compiuto).

---

373) Quale tra le seguenti affermazioni è corretta con riguardo alla differenza di disciplina stabilita dalla legge tra delitti e contravvenzioni?

A Salvo che la legge espressamente preveda una contravvenzione dolosa, tutte le contravvenzioni sono punibili, sia se commesse con dolo, sia se commesse con colpa.
B Il tentativo è possibile per tutte le contravvenzioni ma non per tutti i delitti.
C Tutti i delitti sono punibili sia se commessi con dolo sia se commessi con colpa, le contravvenzioni sono punibili solo se commesse con dolo.

---

374) Nelle contravvenzioni per le quali la legge stabilisce la pena alternativa dell'arresto o dell'ammenda, il giudice può respingere con ordinanza la domanda di oblazione?

A No deve sempre prenderla in considerazione e valutare.
B Sì, ma solo nel caso in cui vi sia opposizione della parte offesa.
C Si, il giudice può respingere la domanda.

---

375) Un reato si definisce permanente:

A quando l'offesa al bene giuridico si protrae nel tempo.
B quando non è configurabile il tentativo.
C quando l'offesa al bene giuridico consiste nella sua irreversibile distruzione (ad es. omicidio).

---

376) Nessuno può essere punito per una azione od omissione prevista dalla legge come reato se al momento in cui lo ha commesso:

A non era imputabile.
B non era imputabile ed era in stato di ubriachezza.
C era affetto da vizio parziale di mente.

---

377) Per il peculato è consentito il fermo?

A È obbligatorio l'arresto in flagranza.
B Sì, fuorché nel caso di c.d. peculato d'uso.
C No.

378) Il medico che omette di curare il paziente lasciandolo morire:

A risponde di omicidio per omissione.
B risponde solo se lo fa intenzionalmente.
C risponde di abbandono di persona incapace.

379) Chi compie atti osceni all'interno o nelle immediate vicinanze di luoghi abitualmente frequentati da minori, risponde:

A di atti osceni aggravati, se da ciò deriva il pericolo che i minori vi assistano.
B di concorso materiale tra corruzione di minorenni e atti osceni.
C di corruzione di minorenni e di atti osceni.

380) Quando, per effetto della concessione della grazia, la pena dell'ergastolo è estinta, la pena detentiva temporanea inflitta per il reato concorrente:

A è comunque estinta
B è estinta se il condannato è stato detenuto per oltre 30 anni.
C non si estingue mai.

381) Le misure di sicurezza si dividono in detentive, non detentive e patrimoniali. É patrimoniale:

A l'ammenda.
B la confisca.
C la multa e la confisca.

382) La cauzione di buona condotta prevista dall'art. 237 del c.p.

A non può essere inferiore ad un anno, né superiore a cinque.
B si applica solo a coloro che abbiano trasgredito gli obblighi imposti con la libertà vigilata.
C consiste nel deposito, presso la Cassa delle ammende, di una somma non inferiore a euro 51 né superiore a euro 1032.

383) Le misure di sicurezza sono regolate dalla legge in vigore:

A al momento della commissione del reato se più favorevoli.
B al tempo della loro applicazione.
C al momento del passaggio in giudicato della sentenza.

384) L'abuso d'ufficio è un reato:

A collettivo, perché coinvolge più persone.
B proprio.
C improprio.

385) L'incaricato di pubblico servizio che, giovandosi dell'errore altrui, riceve indebitamente denaro, commette il reato di:

A concussione.
B Corruzione.
C Peculato.

386) Le circostanze nel reato sono:

A elementi accidentali del reato che incidono sulla gravità dello stesso variando la pena.
B pene accessorie
C elementi essenziali del reato senza le quali quest'ultimo non esiste.

387) Il soggetto attivo che, nel commettere il fatto in stato di necessità, ne ecceda colposamente i limiti, ne risponde:

A a titolo di colpa, se il fatto è previsto dalla legge come delitto colposo.
B a titolo di dolo e la pena non è diminuita.
C a titolo di dolo, ma la pena è ridotta.

388) Nel reato di atti persecutori (Art. 612 bis c.p.), la condotta si concretizza:

A nel pedinamento di una persona.
B nelle minacce e nelle molestie.
C nelle minacce e nelle molestie idonee a determinare un grave stato d'ansia.

389) Gli artifizi e i raggiri costituiscono presupposti necessari per il reato di:

A ricettazione (Art. 648 c.p.)
B rapina (Art. 628 c.p.) e ricettazione.
C truffa (Art. 640 c.p.)

390) A vigilare sull'esecuzione della pena è:

A il magistrato di sorveglianza e il tribunale di sorveglianza
B gli organi di polizia giudiziaria.
C il Pubblico Ministero.

391) A norma dell'art. 357 c.p. sono pubblici ufficiali coloro che esercitano:

A una pubblica funzione legislativa, giudiziaria o amministrativa.
B una pubblica funzione legislativa o politica.
C una funzione politica.

392) Un soggetto è imputabile:

A solo se ha raggiunto la maggiore età .
B se ha la capacità solo d'intendere e non di volere.
C se ha la capacità di intendere e di volere.

393) Una volta che sia stata presentata la querela, nel delitto di violenza sessuale, essa è:

A può essere revocata.
B irrevocabile.
C può essere revocata ma poi è consentito ripresentarla.

394) Ai sensi del codice penale lo spazio aereo può considerarsi territorio dello Stato?

A Sì, sia lo spazio aereo sovrastante il territorio sia il mare territoriale.
B No, solo la terraferma e il sottosuolo.
C No, solo la terraferma e lo spazio sovrastante il mare territoriale.

395) La sospensione condizionale della pena è sempre subordinata all'adempimento dell'obbligo delle restituzioni e al pagamento a titolo di risarcimento del danno?

A No, è a discrezione del giudice.
B Sì, ma solo per i reati contro il patrimonio.
C Sì, sempre.

396) Il reato di danneggiamento (art. 635 c.p.) è configurato quale:

A un delitto.
B un illecito amministrativo.
C una contravvenzione.

397) Il delitto di iniziative turistiche volte allo sfruttamento della prostituzione minorile punisce:

A Sia l'organizzatore sia chi fruisce dell'attività di prostituzione se l'attività sia protratta nel tempo.
B sia l'organizzatore che chi fruisce dell'attività di prostituzione.
C solo l'organizzatore dell'attività di prostituzione.

398) Se un ufficiale giudiziario omette volontariamente di registrare nel registro cronologico un protesto eseguito, risponde di:

A Non commette reato.
B Falso materiale commesso da pubblico ufficiale in atti pubblici.
C Falso ideologico commesso da pubblico ufficiale in atti pubblici.

399) Il giudizio direttissimo:

A è un procedimento penale speciale.
B è un procedimento penale ordinario con finalità premiali.
C un procedimento ordinario ad effetti speciali.

400) Il giudizio direttissimo:

A posticipa il processo.
B consente di anticipare il processo senza perseguire finalità premiali per l'imputato.
C anticipa il processo e persegue finalità premiali.

401) Se un ufficiale giudiziario omette volontariamente di registrare nel registro cronologico un protesto eseguito, risponde di:

A Falso ideologico commesso da pubblico ufficiale in atti pubblici.
B Non commette reato.
C Falso materiale commesso da pubblico ufficiale in atti pubblici.

402) Qualora vi sia una richiesta, gli uffici di vigilanza e di investigazione sono obbligati a prestare la propria opera a favore della pubblica sicurezza o della polizia giudiziaria?

A sì sempre.
B no mai.
C solo in occasione di gravi calamità.

---

403) La perquisizione personale è consentita:

A In tutti i casi in cui è necessario accertare le tracce del reato e si abbia motivo anche non fondato di ritenere che qualcuno occulti sulla propria persona il corpo del reato.
B in tutti i casi in cui è necessario accertare gli effetti materiali del reato.
C quando vi sia fondato motivo di ritenere che qualcuno occulti sulla persona il corpo del reato o cose pertinenti al reato.

---

404) Durante la fase delle indagini preliminari, gli accertamenti del Pubblico Ministero e della polizia giudiziaria sono finalizzati all'acquisizione:

A di elementi a supporto della difesa.
B delle fonti di prova.
C di elementi a supporto dell'accusa rendendo possibile l'esercizio dell'azione penale.

---

405) Le guardie giurate sono sottoposte alla vigilanza del:

A questore.
B comando generale dell'Arma dei carabinieri.
C prefetto.

---

406) La polizia giudiziaria è o meno obbligata alla redazione del verbale per le perquisizioni e i sequestri compiuti nel corso delle indagini?

A Non sempre.
B Sì sempre.
C Solo in caso di richiesta di carcerazione preventiva.

---

407) La comunicazione telefonica equivale alla notificazione con effetti dal momento in cui è avvenuta:

A Solo se fatta all'imputato a seguito della dichiarazione o elezione di domicilio e di essa ne venga data conferma tramite telegramma.
B sempre che della stessa sia data immediata conferma al destinatario mediante telegramma.
C sempre che sia seguita da una raccomandata dell' ufficiale giudiziario o della polizia giudiziaria al destinatario.

---

408) Qualora non sia stato notificato all'indagato l'avviso della conclusione delle indagini preliminari,una richiesta di rinvio a giudizio risulterebbe:

A valida ed efficace.
B nulla.
C inefficace.

---

409) E'ammesso l'uso di manette o simili strumenti di coercizione fisica sui minori?

A non è consentito mai.
B sì qualora ricorrano gravi esigenze di sicurezza.
C è sempre consentito senza alcun limite.

---

410) La polizia giudiziaria può o meno sequestrare il corpo del reato:

A no mai in quanto il sequestro è un atto tipico del Pubblico Ministero e di sua esclusiva competenza.
B sì sempre senza che sia necessaria la convalida da parte del Pubblico Ministero.
C sì ma il sequestro deve essere sempre convalidato dal Pubblico Ministero.

---

411) Il difensore dell'indagato ha facoltà di assistere al sequestro di cose e luoghi pertinenti al reato compiuto dalla polizia giudiziaria?

A sì se sia ritenuto opportuno dal Pubblico Ministero.
B sì ma non ha il diritto di essere preventivamente avvisato.
C Si e ha il diritto di essere preventivamente avvisato.

---

412) In caso di arresto in flagraza di reato, il relativo verbale viene trasmesso dalla polizia giudiziaria al:

A G.I.P..
B tribunale
C Pubblico Ministero

---

413) Successivamente all'intervento del Pubblico Ministero, la polizia giudiziaria può svolgere solo le intercettazioni telefoniche indispensabili all'accertamento dei reati?

A No, la polizia giudiziaria può svolgere tutte le altre attività di indagine di iniziativa per accertare i reati.
B no la polizia giudiziaria non può svolgere nessun'altra attività di indagine volta ad accertare i reati.
C sì, le altre attività di indagine di iniziativa può svolgerle solo prima.

---

414) La polizia giudiziaria è sempre tenuta a comunicare al difensore di fiducia o d'ufficio l'avvenuto arresto di una persona in flagranza di reato:

A no, dipende dalla gravità del reato e dalla previsione della misura della pena.
B sì, sempre.
C si in caso di arresto di un minore.

---

415) Il gestore di un garage che si appropri di un veicolo in deposito risponderà di:

A appropriazione indebita.
B danneggiamento.
C furto aggravato dalla propria qualifica.

---

416) Indicare la giusta locuzione che ponga in luce le differenze tra furto e appropriazione indebita:

A Nel furto la cosa è sempre mobile, nell'appropriazione indebita può essere anche un bene immobile.
B Il delitto di furto è doloso, l'appropriazione indebita è colposa.
C Nel furto il soggetto attivo non detiene né possiede la cosa mobile altrui, nella appropriazione indebita il soggetto attivo possiede la cosa mobile altrui.

---

417) Al termine di una relazione, un uomo, non rassegnandosi alla separazione, rivolge alla ex fidanzata continue minacce di morte che si protraggono per mesi costringendola, a causa della paura a non uscire più di sera con la propria autovettura. L'uomo risponderà:

A del delitto di "atti persecutori".
B di minaccia aggravata.
C di violenza privata.

---

418) In senso strettamente giuridico, l'evento è presente:

A in tutti i reati.
B nei reati omissivi impropri e nei reati commissivi.
C solo nei reati omissivi.

---

419) Indicare in quale dei seguenti casi all'omicidio commesso segue la pena dell'ergastolo:

A in occasione della commissione di un'istigazione per delinquere.
B in occasione della commissione di una violenza sessuale.
C in occasione della commissione del delitto di incendio.

---

420) Le attività investigative del difensore possono anche essere svolte da investigatori privati autorizzati e da consulenti tecnici:

A no mai.
B sì, se appositamente incaricati.
C no da investigatori privati autorizzati e dalla polizia giudiziaria su incarico del difensore.

---

421) Può il medesimo difensore assumere la difesa di più imputati?

A Si è sempre possibile ed è compito del difensore districarsi pur tra posizioni incompatibili.
B Sì purché le diverse posizioni non siano tra loro incompatibili.
C No in nessun caso.

---

422) L'elenco dei documenti d'identità, ai fini dell'identificazione, è tassativo:

A sì salvo previsione normativa complementare per documenti equipollenti.
B sì lo è.
C no basta qualsiasi mezzo che raggiunga lo scopo.

---

423) Nella propria attività di indagine la polizia giudiziaria è soggetta alle direttive del giudice per le indagini preliminari:

A no, è soggetta al Pubblico Ministero e ai giudici del tribunale.
B sì, è il giudice insieme al Pubblico Ministero
C no, le direttive le impartisce il Pubblico Ministero.

---

424) La querela è:

A solo una notizia di reato.
B sia una condizione di procedibilità che una notizia di reato.
C solo una condizione di procedibilità.

---

425) In materia di armi ed esplosivi, la perquisizione amministrativa con esito positivo deve essere convalidata:

A sulla base della quantità di armi.
B mai a meno che non siano rinvenute un certo numero di munizioni.
C sempre.

---

426) Qualora si ritenga che l'imputato sia minorenne, l'autorita' giudiziaria trasmette gli atti:

A al Procuratore della Repubblica presso il tribunale dei Minori.
B al Procuratore generale presso la Corte di Cassazione per gli ulteriori adempimenti.
C al Presidente del tribunale ordinario chiedendo l'intervento di uno psicologo.

---

427) Tra i seguenti atti di indagine ve ne è uno che non può essere svolto dalla polizia giudiziaria. Si tratta di:

A sequestro.
B perquisizione.
C consulenze tecniche.

---

428) Indicare la sanzione prevista dalla legge per gli atti di indagine assunti dalla polizia giudiziaria o dal Pubblico Ministero oltre il termine di durata delle indagini preliminari:

A sono inammissibili.
B sono inutilizzabili.
C sono decaduti.

---

429) Vengono definite armi improprie:

A qualsiasi strumento atto ad offendere la persona.
B le armi da guerra e le armi comuni da sparo.
C gli strumenti atti ad offendere che non hanno quale finalità principale l'offesa alla persona.

---

430) E' ammesso il sequestro probatorio di documenti depositati presso una banca?

A Sì quando l'autorità giudiziaria abbia fondato motivo di ritenere che siano pertinenti al reato anche qualora non appartengano all'imputato.
B Sì ma solo se appartengono all'imputato ed il motivo sia più che fondato.
C si ma non quelli depositati in cassette di sicurezza.

---

431) Possono essere raccolte prove durante la fase delle indagini preliminari?

A No in nessun caso.
B Sì salvo eccezioni.
C No durante la fase delle indagini preliminari si raccolgono solo fonti di prova a meno che non si proceda con un incidente probatorio.

---

432) L'autorità locale di pubblica sicurezza nel capoluogo di provincia è :

A il questore.
B il sindaco
C il prefetto.

---

433) A seguito dell'archiviazione del procedimento è possibile la riapertura delle indagini preliminari:

A sì ma solo se oltre l'assenso del GIP l'indagato vi acconsenta.
B no, una volta archiviato il procedimento è definitivamente concluso.
C sì il Pubblico Ministero, per esigenze di nuove investigazioni, può chiedere al giudice delle indagini preliminari la riapertura delle indagini.

---

434) Colui al quale siano state sequestrate le cose, può proporre richiesta di riesame nel merito contro il decreto di sequestro?

A Sì può farlo.
B No, solo la persona che ha diritto alla restituzione delle cose sequestrate può proporre la richiesta di riesame.
C No, il decreto di sequestro non è impugnabile.

---

435) Sono legittimati a richiedere la carta d'identità:

A Solo i cittadini italiani.
B I cittadini italiani, anche minorenni, i cittadini comunitari residenti, i cittadini extracomunitari in regola con il permesso di soggiorno.
C Solo le persone maggiorenni che risiedono nel comune.

---

436) Può la persona nei cui confronti vengono svolte le indagini, fornire dichiarazioni spontanee alla polizia giudiziaria?

A No mai.
B Solo per i reati gravi.
C Sì sempre.

---

437) L'arrestato in flagranza può essere perquisito?

A Sì sempre.
B Solo se l'arresto è avvenuto durante la giornata.
C Solo con decreto del Pubblico Ministero.

---

438) Qualora si tratti di perquisire il corpo di una donna:

A non incontra particolari limiti.
B va fatta esclusivamente da una donna apena di nullità.
C a procedere sarà un'altra donna, tranne i casi di impossibilità o urgenza assoluta.

---

439) Le funzioni di Pubblico Ministero, nelle indagini preliminari, sono esercitate da:

A dal giudice di pace.
B i magistrati della procura della Repubblica presso il tribunale.
C i magistrati della procura generale presso la corte d'Appello.

---

440) Ha l'ufficiale di polizia giudiziaria obbligo di rilasciare copia del verbale di interrogatorio delegato all'indagato?

A No.
B Alternativamente a lui o all'avvocato difensore.
C Sì sempre, in quanto l'indagato dovrà farlo pervenire al suo avvocato.

---

441) Quando si può procedere con una perquisizione su di un automezzo?

A Sempre.
B solo dalle 8 alle 20.
C Quando ne ricorrano le condizioni legittimanti.

---

442) Quanto dura il sequestro probatorio?

A dai 2 ai 4 mesi.
B 4 mesi.
C Fino a quando rimangono le esigenze di tutela della prova.

---

443) Quando al termine delle indagini preliminari la notizia di reato risulta infondata:

A il giudice per le indagini preliminari dispone l'archiviazione su richiesta del difensore dell'imputato.
B il Pubblico Ministero presenta al giudice richiesta di archiviazione.
C il Pubblico Ministero dispone direttamente l'archiviazione.

---

444) Agli adempimenti materiali conseguenti all'arresto provvede:

A Il Pubblico Ministero.
B solo l'ufficiale o l' agente di polizia giudiziaria che ha eseguito materialmente l'arresto.
C l'ufficiale o l'agente di polizia giudiziaria anche diversi da quelli che hanno eseguito l'arresto.

---

445) Possono gli agenti di polizia giudiziaria redigere l'annotazione?

A sì sempre.
B sì ma solo insieme ad un ufficiale di polizia giudiziaria.
C no mai.

---

446) Il consulente tecnico che risulti necessario per operazioni specifiche e competenze e che sia stato nominato dal Pubblico Ministero:

A non può rifiutare la propria opera.
B potrà rifiutare se l'incarico sia stato dato nei mesi estivi.
C Potrà sempre rifiutare.

---

447) Allorquando il Pubblico Ministero inviti la persona sottoposta alle indagini a presentarsi, quale dei seguenti elementi dovrà necessariamente essere contenuto nell'invito stesso:

A uno stato di famiglia della persona invitata.
B la richiesta delle ultime attività compiute della persona stessa.
C il tipo di atto per il quale l'invito è predisposto.

---

448) Qualora vi siano diversi uffici del Pubblico Ministero che procedono, indagini collegate:

A procederanno in ogni caso in autonomia.
B dipende dalle singole circostanze.
C si ordineranno tra di loro per speditezza, economia ed efficacia delle indagini stesse.

449) Nel caso in cui il Pubblico Ministero debba assumere atti nella circoscrizione di un altro tribunale:

A può delegare secondo la rispettiva competenza per materia il Pubblico Ministero presso il tribunale.
B può delegare solo se vi siano motivi di collegamento.
C non può delegare e deve sempre procedere personalmente.

450) L'attività assicurativa della polizia giudiziaria:

A mette al riparo da alterazioni, smarrimento e simili le prove.
B consiste nella ricerca dell'autore dell'illecito civile.
C consiste nella ricerca dell'autore della contravvenzione.

451) In Italia la funzione svolta dalla polizia giudiziaria è:

A una funzione privata.
B una funzione privata con il controllo dell'autorità pubblica.
C una funzione pubblica.

452) Allorquando la polizia giudiziaria come d'obbligo riferisca la notizia di reato al Pubblico Ministero, deve sempre farlo:

A è discrezionale.
B no può sempre procedere anche attraverso una comunicazione verbale non scritta seguita da una lettera raccomandata.
C per iscritto.

453) Il personale della ASL come medici e medici veterinari possono mai rivestire la qualifica di ufficiale o agente di polizia giudiziaria?

A Solo allorquando vi sia l'autorizzazione del giudice per le indagini preliminari.
B No in nessun caso.
C Sì se sono stati delegati dalle autorità competenti al fine di rilevare e denunciare la presenza di reati e pericoli per la salute umana e animale.

454) La persona nei cui confronti il Pubblico Ministero e la polizia giudiziaria svolgono attività di indagine viene definita:

A reo.
B indagato.
C imputato.

455) E' soggetta a convalida la perquisizione personale:

A sì sempre.
B dipende dalle singole circostanze.
C no mai tranne quando vi siano in gioco reati particolarmente gravi.

456) Le indagini preliminari sono dirette:

A dal giudice istruttore.
B dal Pubblico Ministero che dispone direttamente della polizia giudiziaria.
C dal giudice delle indagini preliminari e dal giudice di sorveglianza.

457) Il sequestro probatorio riguarda:

A il corpo del reato e le cose pertinenti al reato.
B qualsiasi oggetto di proprietà dell'agente.
C qualora non vi sia stato l'uso di armi, gli oggetti con i quali è stato commesso il reato.

458) I provvedimenti di polizia consistono in:

A ordini, provvedimenti di necessità ed urgenza,ordinanze e decreti.
B ordini, ordinanze, provvedimenti di necessità e di urgenza e autorizzazioni.
C autorizzazioni e licenze.

459) Il termine entro il quale l'arrestato o il fermato va posto a disposizione del Pubblico Ministero e condotto in istituto di custodia è:

A 48 ore.
B 36 ore.
C Subito e non oltre le 24 ore.

460) Durante la fase delle indagini preliminari, il Pubblico Ministero e la polizia giudiziaria svolgono accertamenti volti ad acquisire:

A elementi a supporto dell'accusa.
B elementi a supporto della difesa.
C fonti di prova.

---

461) Indicare il momento in cui il Pubblico Ministero esercita l'azione penale:

A con l'esecuzione della sentenza definitiva.
B al termine delle indagini preliminari con la richiesta di rinvio a giudizio.
C al termine del giudizio di primo grado prima del decorso del termine per l'impugnazione.

---

462) Può la polizia giudiziaria acquisire sommarie informazioni dalla persona sottoposta alle indagini:

A sì nei casi in cui ricorra l'urgenza.
B no mai.
C sì ma è necessaria la presenza del difensore.

---

463) Il reato di rissa è:

A a pluralità non necessaria.
B senza soggetti agenti.
C a pluralità necessaria.

---

464) In caso di arresto che obbligo ha la polizia giudiziaria?

A Darne immediatamente notizia al Pubblico Ministero e al difensore.
B Darne immediatamente notizia al Pubblico Ministero.
C Darne immediatamente notizia al difensore ed alla famiglia dell'arrestato.

---

465) La persona cui siano state sequestrate cose, può proporre richiesta di riesame nel merito contro il decreto di sequestro?

A No,in nessun caso.
B Si può farlo.
C Sì ma dipende dal tipo di cose sequestrate.

---

466) Nel nostro ordinamento giuridico l'organo di investigazione di azione penale con funzioni direttive della polizia giudiziaria è:

A Il Pubblico Ministero.
B Il giudice di pace.
C Il giudice per le indagini preliminari e il giudice di sorveglianza.

---

467) Deve essere rilasciato all'indagato da parte dell'ufficiale di polizia giudiziaria copia del verbale di interrogatorio delegato?

A Sì sempre.
B Sì o in alternativa all'avvocato difensore.
C No.

---

468) Se gli elementi acquisiti durante le indagini preliminari risultano contraddittori, il giudice dell'udienza preliminare:

A pronuncia sentenza di non luogo a procedere.
B pronuncia sentenza di non luogo a procedere, salvo che il Pubblico Ministero non vi si opponga.
C pronuncia comunque il decreto che dispone il giudizio.

---

469) Quando è ammesso il sequestro probatorio di pacchi presso gli uffici postali?

A Quando l'autorità giudiziaria li ritenga spediti dall'imputato o a lui diretti anche sotto nome diverso o per mezzo di persona diversa o che comunque possono avere relazione con il reato.
B Quando l'imputato sia il mittente dei pacchi e solo in questa circostanza.
C Solo successivamente al consenso dell'indagato.

---

470) La violenza sessuale è un delitto contro:

A la libertà personale.
B la libertà morale.
C il pudore e la libertà morale.

---

471) Il reato di rapina è aggravato se:

A il fatto è commesso durante la notte.
B il fatto è commesso in luogo pubblico ed in danno di un disabile.
C la minaccia è posta in essere da persona che fa parte di un'associazione di tipo mafioso.

---

472) Qualora nella commissione di un reato l'azione si verifichi sulla terraferma italiana e l'evento su una nave in navigazione nelle acque territoriali, può dirsi tale reato commesso nel territorio dello stato italiano?

A sì sempre che si tratti di nave straniera.
B Sì sempre che si tratti di nave italiana.
C Sì in ogni caso.

---

473) Alla persona in stato di libertà vigilata il giudice imporrà:

A limitazioni di spostamenti e di orari durante la notte.
B visite quotidiane ai servizi sociali.
C prescrizioni idonee ad evitare le occasioni di nuovi reati.

---

474) Nei procedimenti riguardanti minori :

A l'arresto è sempre facoltativo.
B l'arresto è facoltativo solo nei casi in cui la reclusione sia inferiore a 5 anni.
C l'arresto è sempre obbligatorio.

---

475) La polizia giudiziaria può, senza la presenza del difensore, acquisire sommarie informazioni dalla persona sottoposta alle indagini?

A Solo in casi determinati.
B No mai.
C Sempre in quanto l'interesse della collettività supera l'interesse individuale.

---

476) La legge all'art.511 del codice di procedura penale prevede la lettura dei verbali e degli altri atti di documentazione delle attività compiute dalla polizia giudiziaria. Al di fuori di questi casi essa è:

A è facoltativa.
B è vietata.
C è prevista.

---

477) Nella contravvenzione concernente la recita in pubblico di drammi o altre opere senza averne prima dato comunicazione all'autorità è previsto:

A l'arresto fino a 6 mesi.
B L'arresto fino a 3 mesi.
C non è previsto l'arresto

---

478) Le dichiarazioni spontanee rese dalla persona nei cui confronti vengono svolte le indagini possono essere assunte dalla polizia giudiziaria:

A anche senza la presenza del difensore.
B alla presenza di almeno un difensore.
C solo alla presenza di due difensori.

---

479) Nel procedimento contro un minore l'autorita' giudiziaria può avvalersi di strutture ausiliarie quali:

A i servizi minorili del comune.
B i servizi educativi e di formazione professionale.
C i servizi minorili dell'amministrazione della giustizia.

---

480) La polizia giudiziaria può procedere al sequestro del corpo del reato:

A no, il sequestro è un atto tipico del giudice per le indagini preliminari.
B sì anche senza convalida da parte del Pubblico Ministero.
C sì ma il sequestro deve essere sempre convalidato dal Pubblico Ministero.

---

481) Nell'ipotesi di rifiuto di esibire i documenti o di provare la propria identità l'autorità di P.S. ha:

A l'obbligo di procedere solo in caso di persone pericolose o sospette.
B la facoltà di procedere con rilievi segnaletici.
C l'obbligo di procedere con rilievi segnaletici e con qualsiasi altro mezzo.

---

482) A procedere all'interrogatorio della persona arrestata e/o fermata è:

A La polizia giudiziaria e/o il Pubblico Ministero.
B Il Pubblico Ministero.
C Il giudice e/o il Pubblico Ministero.

---

483) Indicare la tipologia di diritti che può esercitare la persona offesa dal reato:

A I diritti e le facoltà ad essa riconosciute dalla legge, può presentare memorie e indicare elementi di prova.
B I diritti ad essa riconosciuti dalla legge ma non può presentare memorie o indicare elementi di prova tranne le eccezioni previste dalla legge.
C I diritti e le facoltà ad essa riconosciute dalla legge ma non può presentare memorie e indicare elementi di prova.

---

484) Alla scadenza del termine di durata delle indagini preliminari vengono compiuti altri atti di indagine essi saranno:

A validi ed efficaci e, dunque, pienamente utilizzabili.
B inutilizzabili.
C validi ma inefficaci.

---

485) L'art. 55 del codice di procedura penale si occupa:

A dei vari tipi di pena.
B della distinzione tra delitti e contravvenzioni.
C delle funzioni della polizia giudiziaria.

---

486) L'attività svolta dalla polizia giudiziaria è di vario tipo. Essa è però:

A prevalentemente investigativa.
B prevalentemente operativa.
C prevalentemente consultiva.

---

487) La polizia giudiziaria ha facoltà di svolgere:

A sia atti tipici che atti atipici che, nel rispetto della legge, siano rivolti all'individuazione del responsabile e a ricostruire il fatto di reato.
B solo atti tipici e, dunque, espressamente previsti dalla legge.
C solo atti atipici che abbiano una giusta causa.

---

488) L'azione di vigilanza della polizia giudiziaria svolta al fine di impedire la commissione di illeciti riguarda:

A solo ed esclusivamente illeciti penali.
B solo illeciti amministrativi.
C sia illeciti penali che illeciti amministrativi.

---

489) La ricerca dell'autore del reato da parte della polizia giudiziaria rientra nell'attività:

A assicurativa-conservativa.
B informativa.
C investigativa.

---

490) In base alla legge, gli ufficiali superiori e inferiori e i sottufficiali dei carabinieri e della guardia di finanza sono:

A agenti del corpo forestale.
B agenti di polizia giudiziaria.
C ufficiali di polizia giudiziaria.

---

491) Può essere considerato ufficiale di polizia giudiziaria:

A il Sindaco dei comuni dove non abbia sede un ufficio della polizia di stato ovvero un comando dell'arma dei carabinieri o della guardia di finanza.
B No, in nessun caso è considerato tale.
C Il Sindaco lo è sempre indipendentemente da qualsiasi condizione.

---

492) La querela consiste:

A in una dichiarazione nella quale viene manifestata la volontà che si proceda in ordine a un fatto previsto dalla legge come reato.
B in un atto di autorizzazione della Pubblica amministrazione.
C in una denuncia informale del fatto.

---

493) Nel nostro ordinamento attuale, le indagini preliminari della polizia giudiziaria hanno valore probatorio?

A Sì sempre.
B No, salvo le disposizioni relative all'incidente probatorio.
C No, in nessun caso.

---

494) Il Pubblico Ministero, nell'ipotesi di reati comuni, può disporre la segretazione delle indagini:

A si ma per un periodo non superiore a un mese.
B per un periodo non superiore a sei mesi.
C si ma per un periodo non superiore a tre mesi.

495) La legge prevede che il difensore dell'indagato abbia il diritto di essere avvertito nei seguenti casi:

A ispezione e confronto.
B interrogatorio, ispezione e confronto.
C non vi è obbligo di avviso per nessun atto.

496) La polizia giudiziaria ha funzioni della seguente natura:

A natura e finalità certificative.
B natura e finalità repressive.
C natura e finalità probatorie-preventive.

497) Al termine dell'indagine nei suoi confronti la persona sospettata di un dato reato viene definita:

A fortemente sospettata ma comunque non colpevole.
B imputata.
C indagata.

498) Prima di assumere le sommarie informazioni, la polizia giudiziaria invita la persona nei cui confronti vengono svolte le indagini:

A a nominare un difensore di fiducia e in difetto provvede con quello d'ufficio.
B la polizia giudiziaria non ne ha alcun obbligo.
C ad ascoltare i consigli che lei stessa darà.

499) Può un medico di sesso maschile,nominato ausiliario di polizia giudiziaria, eseguire una perquisizione personale su una donna?

A Sì può farlo.
B Sì se autorizzato dal Pubblico Ministero.
C No, mai.

500) Il sequestro conservativo può essere disposto quando:

A quando vi sia fondato motivo di ritenere che manchino o si disperdano le garanzie per il pagamento della pena pecuniaria delle spese di procedimento.
B quando vi sia pericolo di fuga all'estero.
C quando vi sia pericolo di fuga.

501) Può l'interessato che debba essere sottoposto a perquisizione personale farsi assistere da persona di sua fiducia:

A solo se si tratta di persona dello stesso sesso di quella che deve essere perquisita.
B no, in nessun caso.
C si, purché questa sia prontamente reperibile e idonea a norma dell'articolo 120 del codice di procedura penale.

502) La polizia giudiziaria, ai fini dell'identificazione, invita la persona nei cui confronti vengono svolte le indagini a dichiarare o eleggere domicilio per le notificazioni:

A mai.
B non sempre dipende dalle circostanze.
C sì sempre.

503) Può la polizia giudiziaria , nel corso dell'indagine, interrogare l' indagato in stato di libertà?

A Anche senza necessità della delega se l'interrogatorio sia collegato ad una perquisizione.
B Si anche senza necessità della delega.
C No, tranne che vi sia una delega del Pubblico Ministero.

504) La polizia giudiziaria dovrà trasmettere il verbale di arresto al Pubblico Ministero:

A al più presto e comunque non oltre le 24 ore.
B non oltre le 12 ore.
C non oltre le 36 ore.

505) La denuncia va presentata:

A ad un ufficiale di polizia giudiziaria. Entro 48 ore dal fatto.
B al Pubblico Ministero o/a un ufficiale di polizia giudiziaria.
C al giudice per le indagini preliminari.

506) Può la polizia giudiziaria, ai fini della identificazione delle persone indagate, prendere le impronte digitali?

A Solo in caso di arresto in flagranza.
B sì, anche eseguendo, ove occorra, rilievi dattiloscopici, fotografici e antropometrici.
C No mai.

---

507) Il sequestro perdura fin quando rimangono le esigenze di tutela della prova:

A il sequestro dura 30 giorni e mai oltre.
B sì è vero.
C il sequestro dura 60 giorni e mai oltre.

---

508) Anche dopo l'archiviazione il Pubblico Ministero può chiedere, per esigenze di nuove investigazioni, al giudice delle indagini preliminari la riapertura delle indagini?

A No la riapertura delle indagini non è mai possibile.
B Sì può sempre farlo.
C Sì ma è necessario il consenso dell' indagato.

---

509) Qualora una banca si rifiuti di esibire documenti, chi potrà eseguire una perquisizione?

A Il Pubblico Ministero.
B Il cancelliere del tribunale.
C Un funzionario della Banca d'Italia.

---

510) Quando la polizia giudiziaria procede con atti non ripetibili, i relativi verbali sono raccolti nel fascicolo per il dibattimento:

A no, sono raccolti solo quelli degli atti ripetibili.
B è una scelta discrezionale.
C sì, sempre.

---

511) Il personale addetto a ciascuna sezione di polizia giudiziaria dipende:

A dai magistrati che dirigono gli uffici presso i quali è istituita la sezione.
B dal presidente del tribunale.
C dal prefetto.

---

512) Nella norma penale ritroviamo quali elementi costitutivi:

A l'elemento soggettivo.
B la sanzione.
C il precetto e la sanzione.

---

513) Il bene giuridico tutelato dalla norma penale è:

A dipende dalle circostanze.
B necessariamente il patrimonio.
C l'oggetto giuridico del reato.

---

514) Nella condotta penalmente rilevante non costituisce una circostanza soggettiva del reato:

A l'intensità del dolo.
B le modalità dell'azione.
C la gravità della colpa.

---

515) L'affermazione in base alla quale "nessuno può essere punito per un fatto che non sia previsto come reato dalla legge" incarna:

A il principio di eguaglianza e di equità.
B il principio di legalità.
C il principio di giustizia.

---

516) Se, successivamente alla condanna, il reo muore, quali saranno gli effetti della morte:

A estinzione della pena e delle obbligazioni civili nascenti dal reato.
B estinzione della pena ma non delle obbligazioni civili nascenti da reato.
C estinzione della pena.

---

517) Nel reato di truffa sono sempre presenti gli artifizi e raggiri:

A gli artifizi sì ma i raggiri no.
B dipende dalle circostanze concrete.
C sì è vero, ne costituiscono presupposto indispensabile.

---

518) Che cosa accade se si viola la norma penale?

A La conseguenza sarà il risarcimento del danno.
B La conseguenza sarà una sanzione disciplinare.
C La conseguenza sarà la pena.

519) Se il reato viene commesso a causa di forza maggiore:

A la conseguenza sarà solo una multa.
B esso rimarrà impunito.
C alla pena seguirà il pagamento di una ammenda.

520) L'atto di clemenza nei confronti dell'autore del reato da parte del Capo dello Stato viene definita:

A indulto.
B agevolazione
C amnistia.

521) La consuetudine è fonte di diritto penale:

A lo è a condizione che non sia troppo recente.
B sì lo è sempre.
C è falso, la consuetudine non è fonte del diritto penale.

522) Le ordinanze d'urgenza fonti del diritto penale?

A No non lo sono.
B lo sono solo se seguono una consuetudine.
C lo sono in ogni caso.

523) I delitti si distinguono dalle contravvenzioni per:

A la diversa specie delle pene previste.
B ai delitti segue, spesso, la morte.
C i delitti hanno sempre come conseguenza lesioni.

524) Alle contravvenzioni segue:

A arresto, ammenda.
B arresto, detenzione domiciliare.
C ammenda, un percorso in una comunità di recupero.

525) Qual è l'articolo della Costituzione in cui è indicato il principio di colpevolezza?

A articolo 32.
B articolo 22
C articolo 27.

526) Aiutare il reo a sottrarsi alle ricerche della autorità concretizza il delitto di:

A favoreggiamento personale.
B complicità.
C correità.

527) Durante le indagini preliminari, gli atti dell'attività investigativa del difensore vengono inseriti:

A nel fascicolo del difensore.
B nel fascicolo del dibattimento.
C nel fascicolo del Pubblico Ministero.

528) Il difensore dell'indagato,durante la perquisizione, ha facoltà di:

A essere preventivamente avvisato e necessariamente presente.
B assistere senza il diritto di essere preventivamente avvisato e la sua presenza non deve comportare ritardo nell'operazione.
C essere preventivamente avvisato.

529) La perquisizione locale presso lo studio del difensore è eseguita:

A alla presenza obbligatoria di almeno due ufficiali di polizia giudiziaria.
B alla presenza obbligatoria di almeno un ufficiale di polizia giudiziaria.
C alla presenza obbligatoria del Pubblico Ministero.

530) Allorquando l'imputato sia obbligato a presentarsi alla polizia giudiziaria, egli deve:

A presentarsi ogni tre giorni presso un qualunque ufficio di polizia giudiziaria.
B presentarsi presso un determinato ufficio di polizia giudiziaria alle scadenze prestabilite.
C presentarsi due volte al giorno presso un qualunque ufficio di polizia giudiziaria.

531) A chi viene inviata l'informazione di garanzia?

A Tanto alla persona sottoposta alle indagini preliminari quanto alla persona offesa.
B Solo alla persona sottoposta alle indagini preliminari.
C solo alla persona offesa dal reato.

---

532) Il verbale di arresto va trasmesso al Pubblico Ministero da parte della polizia giudiziaria:

A entro 24 ore dall'arresto salvo che il Pubblico Ministero autorizzi una dilazione maggiore.
B entro 12 ore dall'arresto.
C entro 48 ore dall'arresto salvo che il Pubblico Ministero autorizzi una dilazione maggiore.

---

533) Quale delle seguenti attività non può essere svolta dalla polizia giudiziaria?

A una perquisizione personale.
B l'interrogatorio dell'indagato a meno che non vi sia una delega del Pubblico Ministero.
C un sequestro a carico di persone non indagate.

---

534) La polizia giudiziaria non può svolgere senza la delega del Pubblico Ministero:

A la perquisizione personale dell'indagato.
B l'interrogatorio dell'indagato in stato di libertà.
C l'identificazione dell'indagato

---

535) Sono sempre coperti dal segreto gli atti di indagine compiuti dal Pubblico Ministero e dalla polizia giudiziaria?

A Sì ma non oltre la chiusura delle indagini preliminari.
B no è sempre possibile chiedere che vengano resi pubblici.
C si.

---

536) Le perquisizioni di iniziativa possono essere eseguite :

A nei casi previsti dalla legge e sussistendone i presupposti.
B solo nei confronti dell'arrestato
C solo se si cercano armi e munizioni.

---

537) Tra le seguenti circostanze quale è considerata circostanza aggravante comune?

A L'aver reagito in stato di ira determinato da altri.
B L'aver agito per motivi abietti o futili.
C l'aver agito per motivi di particolare valore morale o sociale.

---

538) Quale tra le seguenti è una circostanza attenuante comune?

A L'aver agito con crudeltà verso le persone.
B L' aver adoperato sevizie.
C l'aver agito per motivi di particolare valore morale o sociale.

---

539) Quale tra le seguenti è considerata circostanza attenuante comune?

A L'aver adoperato sevizie.
B L'essere concorso a determinare l'evento, insieme con l'azione o l'omissione del colpevole, il fatto doloso della persona offesa.
C L'aver commesso il fatto con abuso di poteri.

---

540) L'ignoranza della legge penale è invocabile:

A in alcune circostanze previste dalla legge.
B solo quando si tratta di ignoranza inevitabile.
C sempre.

---

541) L'arresto ha:

A finalità solo investigative.
B finalità solo preventive.
C finalità investigative e social- preventive.

---

542) Nel reato di inadempimento di contratti di pubbliche forniture, chi è il soggetto che può essere punito?

A Solo un pubblico ufficiale.
B Chiunque.
C Solo una persona incaricata di un pubblico servizio.

---

543) La sospensione condizionale della pena:

A non si estende alle pene accessorie.
B si applica solo alle pene principali del reato.
C si estende alle pene accessorie.

544) La nomina del difensore di fiducia della persona fermata arrestata in custodia cautelare può essere fatta:

A solo dall'interessato o da un affine.
B solo d'ufficio.
C da un prossimo congiunto finché la stessa non vi abbia provveduto.

545) Chi ha commesso il fatto per esservi stato costretto da altri, mediante violenza fisica alla quale non poteva resistere o comunque sottrarsi:

A non è punibile.
B è sempre punibile.
C è punibile solo se viene provata la violenza fisica.

546) Può il fermo di polizia giudiziaria essere eseguito fuori dai casi di flagranza?

A sì se il fermato non è cittadino di uno Stato dell'Unione Europea.
B no, il fermo necessita la flagranza.
C sì, per il fermo non è necessaria la flagranza.

547) Chi è titolare del diritto di querela?

A La persona offesa da un reato per cui non debba procedersi d'ufficio o dietro richiesta o istanza.
B Chi commette un illecito civile.
C L'autore del reato.

548) La resistenza a un pubblico ufficiale si verifica quando:

A chiunque usa violenza o minaccia per opporsi a un pubblico ufficiale o a un incaricato di pubblico servizio mentre compie un atto contrario al suo ufficio o servizio.
B chiunque usa violenza o minaccia per opporsi a un pubblico ufficiale o ad un incaricato di un pubblico servizio mentre compie un atto di ufficio o servizio, o a coloro che, richiesti, gli prestano assistenza.
C il pubblico ufficiale usi violenza o minaccia contro un altro pubblico ufficiale o incaricato di un pubblico servizio per costringerlo a fare un atto del proprio dovere.

549) Allorquando il reato commesso sia diverso da quello voluto da taluno dei concorrenti, ai sensi dell'articolo 116 del codice penale, ne risponde anche chi non lo voleva:

A se vi sia una violazione di diritti costituzionali.
B se l'evento è conseguenza della sua azione o omissione.
C non ne risponde mai.

550) Il diritto di querela può sempre essere esercitato:

A falso non può essere esercitato decorsi tre mesi dal giorno della notizia del fatto che costituisce reato.
B può essere esercitato in qualsiasi momento.
C può essere esercitato purché il reato non si sia prescritto.

551) Il difensore ha facoltà di svolgere investigazioni difensive?

A no, mai.
B sì, cercare di individuare elementi di prova a favore del proprio assistito, sin dal momento dell'incarico professionale risultante da atto scritto.
C sì anche se manchi l'incarico professionale.

552) Il reato consistente nella determinazione in altri dello stato di ubriachezza si verifica quando:

A chiunque in luogo pubblico o privato cagiona l'ubriachezza altrui somministrando bevande alcoliche.
B chiunque in luogo pubblico o aperto al pubblico cagiona la ubriachezza altrui somministrando bevande alcoliche.
C chiunque in luogo privato cagiona l'ubriachezza altrui somministrando bevande alcoliche.

553) La dichiarazione di abitualità, professionalità o tendenza a delinquere si estingue:

A per effetto della prescrizione.
B per effetto della riabilitazione.
C non si estingue mai.

554) A seguito della notifica dell'avviso della chiusura delle indagini preliminari, può l'indagato chiedere di essere sottoposto ad interrogatorio?

A Il Pubblico Ministero non è tenuto a procedere.
B Sì ed il Pubblico Ministero deve procedere.
C Il Pubblico Ministero può chiedere al giudice che lo faccia lui.

555) Quale tra le seguenti è una misura di sicurezza patrimoniale:

A la confisca.
B L'assegnazione ad una comunità di recupero.
C la libertà vigilata.

556) Il delitto é colposo o contro l'intenzione quando:

A quando è voluto dall'agente.
B quando nei derivi un evento dannoso o pericoloso più grave di quello voluto dall'agente.
C l'evento, anche se previsto, non è voluto dal'agente e si verifica a causa di negligenza o imprudenza o imperizia, o per inosservanza di leggi, regolamenti, ordini o discipline.

557) Tra le seguenti pene principali quale è quella prevista per le contravvenzioni?

A Multa
B Arresto
C Reclusione

558) In base alla legge penale sono pubblici ufficiali:

A coloro i quali esercitano esclusivamente una funzione amministrativa.
B coloro i quali esercitano una pubblica funzione legislativa, giudiziaria o amministrativa.
C coloro i quali esercitano esclusivamente una funzione giudiziaria.

559) Quale tra le seguenti pene non rientra tra quelle restrittive della libertà personale?

A La multa.
B la reclusione.
C l'arresto.

560) L'ispezione personale è disposta con:

A decreto motivato.
B ordinanza.
C decreto non motivato.

561) Il concorso di persone nel reato si verifica:

A una persona commette un reato attenuato.
B più persone concorrono nel medesimo reato.
C una persona commette un reato aggravato.

562) Può il giudice, in caso di concorso di persone nel reato, diminuire la pena ai sensi dell'articolo 114 del codice penale?

A No, in nessun caso.
B Sì, sempre che si tratti di delitto colposo.
C Sì quando ritenga che l'opera prestata da taluna delle persone che sono concorse nel reato abbia avuto minima importanza nella preparazione o nell'esecuzione del reato stesso.

563) Chi ha determinato a commettere un reato una persona non imputabile, ovvero non punibile a cagione di una condizione o qualità personale:

A risponde del reato da questa commesso e la pena è aumentata.
B non risponde mai del reato da questa commesso.
C risponde del reato da questa commesso senza aumento di pena.

564) Nessuno può essere punito per un fatto che non sia espressamente previsto come reato:

A dalla legge e dalla consuetudine
B dalla legge
C dalla legge e dai regolamenti.

565) L'assegnazione a Colonia agricola o ad una casa di lavoro è una misura di sicurezza:

A patrimoniale.
B non è una misura di sicurezza.
C detentiva.

566) L'oltraggio ad un pubblico ufficiale:

A costituisce un delitto.
B non è un reato.
C è solo una contravvenzione.

567) Nelle contravvenzioni l'oblazione è ammessa quando:

A sempre
B la legge stabilisce la sola pena dell'ammenda.
C la legge stabilisce la pena della multa.

---

568) In diritto penale la capacità di intendere indica:

A la capacità di agire.
B la capacità di essere titolare di diritti e doveri.
C la capacità di rendersi conto del valore morale dell' atto che si compie.

---

569) Le misure di sicurezza possono essere applicate:

A a tutte le persone.
B alle persone socialmente pericolose che siano ritenute tali dalle leggi civili.
C alle persone socialmente pericolose che abbiano commesso un fatto previsto dalla legge come reato.

---

570) Ai sensi della legge le misure di sicurezza sono ordinate dal giudice:

A dal giudice solo nella sentenza di proscioglimento.
B dal giudice solo nella sentenza di condanna.
C nella stessa sentenza di condanna o di proscioglimento.

---

571) E' punibile per ubriachezza colui che:

A in luogo pubblico o aperto al pubblico è colto in stato di manifesta ubriachezza.
B in luogo privato è colto in stato di ubriachezza anche non manifesta.
C in luogo privato è colto in stato di ubriachezza manifesta.

---

572) Nessuno può essere punito per un fatto che secondo la legge del tempo in cui fu commesso non costituiva:

A illecito amministrativo.
B contravvenzione.
C reato.

---

573) Allorquando si concludano le indagini preliminari si avvisa l'indagato del fatto che ha facoltà di essere sottoposto ad interrogatorio:

A entro il termine di 20 giorni.
B entro il termine di 10 giorni.
C entro il termine di 30 giorni.

---

574) La polizia giudiziaria rappresenta un corpo speciale?

A Sì, si tratta di un corpo speciale che riceve una formazione apposita.
B E'un corpo speciale con funzioni in materia di sanzioni amministrative.
C No, indica le forze dell'ordine che, alle strette dipendenze dell'autorità giudiziaria, si occupano della materia penale.

---

575) Quale delle seguenti attività non rientra nelle funzioni di polizia giudiziaria?

A Repressiva.
B Investigativa.
C Giurisdizionale.

---

576) Un dirigente appartenente alla polizia Penitenziaria, al quale l'ordinamento della singola Amministrazione abbia riconosciuto tale qualità,è:

A agente di pubblica sicurezza.
B ufficiale di polizia giudiziaria.
C agente di polizia giudiziaria.

---

577) Le guardie forestali sono:

A agenti di polizia giudiziaria.
B ufficiali di polizia giudiziaria.
C operatori della polizia municipale.

---

578) Le perquisizioni possono essere eseguite tanto dagli ufficiali di polizia giudiziaria quanto dagli agenti?

A No, le perquisizioni possono essere svolte solo dagli ufficiali di polizia giudiziaria.
B Possono essere svolte indifferentemente dagli uni o dagli altri basta che vi sia l'autorizzazione del Pubblico Ministero.
C Possono essere svolte anche dall'agente se risulta una particolare urgenza.

---

579) Nella prassi, il più delle volte chi procede alle perquisizioni?

A Pur potendo, il Pubblico Ministero delegare, la maggior parte delle volte è lui a procedere.
B Gli ufficiali giudiziari delegati dall'autorità procedente.
C Gli ufficiali di polizia giudiziaria delegati dall'autorità giudiziaria che dispone, quasi sempre, con decreto.

---

580) Il decreto che dispone la delega per le perquisizioni, è sempre necessario?

A Sì,è sempre necessario a pena di nullità.
B No. Nei casi di particolare urgenza gli ufficiali possono procedere a perquisizioni anche senza il decreto.
C Sì, è sempre necessario a pena di annullabilità.

---

581) Il pericolo di fuga dell'indagato integra una situazione di urgenza che giustifichi una perquisizione anche in assenza di decreto?

A No, solo quando sia già noto agli inquirenti il luogo nel quale l'indagato andrà a nascondersi.
B Il decreto risulta sempre necessario.
C Sì, sempre.

---

582) Presso ogni procura della Repubblica sono istituite le sezioni di polizia giudiziaria:

A No, presso le procure sono istituiti i servizi di polizia giudiziaria.
B Presso le procure non vi sono né sezioni né servizi di polizia giudiziaria.
C Sì, è così.

---

583) Come si entra a far parte della polizia giudiziaria?

A Per chiamata diretta da un apposito elenco.
B E' necessario dapprima diventare poliziotto attraverso un pubblico concorso.
C Per titoli ma senza concorso.

---

584) Il personale dell'agenzia delle dogane ha la qualifica di ufficiale di polizia giudiziaria?

A No,mai.
B Sì,nei limiti dell'esercizio cui è destinato.
C Solo in casi eccezionali.

---

585) Medici dirigenti e convenzionati in servizio presso i dipartimenti di prevenzione delle ASL, con funzioni di ispezione e vigilanza, possono svolgere attività di polizia giudiziaria?

A Svolgono solo attività di polizia amministrativa.
B sì, se delegati dall'autorità competente al fine di rilevare e denunciare la presenza di reati.
C No, mai.

---

586) I carabinieri sono:

A agenti di polizia giudiziaria.
B ufficiali di polizia giudiziaria.
C non hanno funzioni di polizia giudiziaria.

---

587) A dare l'autorizzazione per le intercettazioni ambientali è:

A Il giudice per l'udienza preliminare.
B Il Pubblico Ministero.
C il giudice per le indagini preliminari.

---

588) La polizia penitenziaria svolge funzioni di polizia giudiziaria:

A no le sue funzioni sono limitate alla gestione delle persone recluse.
B solo in caso di necessità ed urgenza
C si, oltre a compiti di pubblica sicurezza e gestione delle persone sottoposte a provvedimenti restrittivi.

---

589) La perquisizione, ai sensi della legge, viene disposta con:

A decreto motivato.
B sentenza.
C ordinanza motivata

---

590) Può un minorenne prestare ufficio di perito?

A Si' se vi sia l'autorizzazione del giudice tutelare.
B Si' se vi sia l' autorizzazione del tutore e del giudice tutelare.
C Ai sensi della legge ed a pena di nullità un minorenne non può prestare ufficio di perito.

---

591) Il reato di peculato prevede la seguente fattispecie:

A il pubblico ufficiale o l'incaricato di un pubblico servizio che si impossessa della cosa mobile altrui sottraendola a chi la detiene.
B il pubblico ufficiale o l'incaricato di un pubblico servizio che, avendo per ragione del suo ufficio o servizio il possesso o comunque la disponibilità di denaro o di altra cosa mobile altrui, se ne appropria.
C chiunque si impossessa della cosa mobile altrui sottraendola a chi la detiene.

---

592) Alle persone socialmente pericolose che abbiano commesso un fatto previsto dalla legge come reato, possono essere applicate:

A le misure di sicurezza.
B le misure patrimoniali.
C le misure sociali.

---

593) Cosa si intende per concorso formale di reati?

A Chi commette più azioni o omissioni esecutive di un medesimo disegno criminoso.
B Chi con una sola azione o omissione viola diverse disposizioni di legge, ovvero commette più violazioni della stessa disposizione di legge.
C Chi commette un reato aggravato.

---

594) Chi lede o pone in pericolo un diritto con il consenso della persona che può validamente disporne:

A è punibile ma la pena sarà ridotta nella misura di un terzo.
B è punibile e la pena sarà ridotta nella misura della metà.
C non è punibile.

---

595) Che cosa si intende per istigazione alla corruzione?

A Chiunque offre denaro o altra utilità non dovuti a un pubblico ufficiale o un incaricato di pubblico servizio che riveste la qualità di pubblico impiegato affinché quest'ultimo si impossessi di beni mobili altrui.
B Chiunque promette denaro o altra utilità non dovuti a un pubblico ufficiale o un incaricato di pubblico servizio che riveste la qualità di pubblico impiegato affinché quest'ultimo si impossessi di beni mobili altrui.
C La situazione di chiunque offra o prometta denaro o altra utilità non dovuti a un pubblico ufficiale o a un incaricato di un pubblico servizio che riveste la qualità di pubblico impiegato, per indurlo a compiere un atto del suo ufficio qualora l'offerta o la promessa non sia accettata.

---

596) Nel reato consumato la prescrizione decorre:

A dal giorno della consumazione.
B dalla notifica del decreto di citazione a giudizio.
C dalla richiesta di rinvio a giudizio.

---

597) Ai fini della valutazione della prova l'esistenza di un fatto:

A non può essere desunta da indizi che non siano univoci.
B non può essere desunta da indizi che non siano rilevanti e gravi.
C non può essere desunta da indizi ameno che questi siano gravi precisi e concordanti.

---

598) Nel reato di molestia o disturbo alle persone il fatto deve avvenire necessariamente in luogo pubblico o aperto al pubblico:

A si'deve necessariamente avvenire in luogo aperto al pubblico.
B si'deve necessariamente avvenire in luogo pubblico.
C La legge prevede che possa avvenire anche con il mezzo del telefono.

---

599) Quando dalla azione o omissione deriva un evento dannoso o pericoloso più grave di quello voluto dall'agente, il delitto si definisce:

A colposo.
B contro l'intenzione.
C preterintenzionale.

---

600) Nell'ipotesi in cui qualcuno abbia commesso il fatto per esservi stato costretto da altri, mediante violenza fisica alla quale non poteva resistere o comunque sottrarsi:

A non sarà punibile.
B sarà punibile e la pena sarà ridotta.
C sarà punibile se verrà dimostrata la violenza fisica.

---

601) Il reato di incesto è contemplato dal codice penale :

A nei delitti contro l'ordine pubblico.
B nei delitti contro la famiglia.
C nei delitti contro la fede pubblica.

602) La violazione di sigilli è un reato che rientra:

A nei delitti contro la personalità dello stato.
B nei delitti contro la pubblica amministrazione.
C nei delitti contro l'amministrazione della giustizia.

603) Qual è la differenza tra il delitto di corruzione e il delitto di concussione?

A Nella corruzione vi è un libero accordo tra il privato e il pubblico ufficiale.
B Nella concussione vi è un libero accordo tra il privato e il pubblico ufficiale.
C Nella corruzione i pubblici ufficiali approfittano del loro ruolo.

604) Le sanzioni penali possono essere previste da una legge regionale?

A Sì, sempre
B Solo su delega statale
C No, mai

605) La grazia è :

A una causa di estinzione del reato.
B una forma di commutazione della pena.
C una causa di estinzione totale o parziale della pena che riguarda una sola persona.

606) Sono circostanze oggettive del reato quelle che concernono :

A il luogo della azione.
B il grado della colpa e l'intensità del dolo.
C l'intensità del dolo.

607) Esiste l'obbligo di prestare il proprio aiuto in occasione di un pubblico infortunio ?

A Si, ma solo se l'aiuto è richiesto da un pubblico ufficiale o da persona incaricata di un pubblico servizio.
B No, tranne che si rivesta la qualifica di pubblico ufficiale o persona incaricata di pubblico servizio.
C Si, la legge penale punisce chi, senza giusto motivo, lo rifiuti.

608) L'elemento soggettivo che contraddistingue il delitto di abuso di ufficio è:

A Il dolo.
B Indifferentemente il dolo o la colpa.
C La colpa propria.

609) Costituisce l'amnistia una causa estintiva del reato ?

A Si, essa è una causa estintiva del reato.
B No, è una causa estintiva della pena.
C No, è una causa parzialmente estintiva del reato.

610) L'immunità personale costituisce una deroga al principio della obbligatorietà della legge penale ?

A L'immunità personale consente solo di applicare un'attenuante.
B L'immunità personale è solo una causa di esclusione del reato.
C Si, è vero; l'asserzione è giusta.

611) L'interdizione da una professione o da un' arte costituisce :

A una misura di sicurezza.
B una misura alternativa alla detenzione.
C una pena accessoria per i delitti.

612) Qualora la fattispecie astratta preveda la lesione di più beni giuridici, il reato è :

A aggravato.
B plurisoggettivo.
C plurioffensivo.

613) Il vizio totale di mente costituisce una causa di :

A esclusione dell'imputabilità.
B estinzione del reato.
C riduzione della pena.

614) L'omissione di referto costituisce un reato :

A improprio ma qualificato.
B proprio.
C diretto.

615) Il vigente codice penale italiano :

A è precedente alla Costituzione.
B è contemporaneo alla Costituzione.
C è successivo all'entrata in vigore della Costituzione.

616) Nei reati di pericolo ciò che li caratterizza è :

A Il pericolo di fuga del reo.
B Il pericolo di recidiva.
C La lesione soltanto potenziale del bene giuridico protetto.

617) In quale luogo può essere commesso il reato di somministrazione di bevande alcoliche a persona in stato di manifesta ubriachezza ?

A In qualunque luogo.
B Esclusivamente in un luogo pubblico o aperto al pubblico.
C Esclusivamente in una osteria o un ristorante.

618) Il pubblico ufficiale che rifiuta un atto del proprio ufficio commette :

A il reato di rifiuto di atti di ufficio, se rifiuta indebitamente.
B omissione di atti di ufficio qualora il rifiuto riguardi l'emanazione di un atto in materia di ordine pubblico.
C il reato di disobbedienza in ogni caso.

619) Quando si parla di reati aggravati dall'evento si intende:

A Reati in cui il verificarsi dell'evento integra una causa di giustificazione che lo rende non punibile.
B Reati in cui la pena è aumentata per il verificarsi di un evento ulteriore.
C Reati uniti dal vincolo della continuazione.

620) L' omessa denuncia di reato da parte del pubblico ufficiale è :

A un delitto contro l'amministrazione della giustizia.
B un delitto contro la pubblica amministrazione.
C un delitto contro l'incolumità pubblica.

621) Costituiscono scriminanti speciali :

A scriminanti previste solo per reati più gravi e che siano sempre delitti.
B le scriminanti previste nella parte speciale del codice penale o in leggi speciali solo per determinati reati.
C le misure di sicurezza speciali.

622) Nel reato di rifiuto di atti di ufficio, la condotta incriminata consiste :

A nell'indebito assenso di compiere atti d'ufficio qualificati.
B nel ritardare il compimento di atti di ufficio.
C nell'indebito rifiuto di compiere atti d'ufficio qualificati.

623) La colpa cosciente ricorre quando :

A l'agente prevede che la propria condotta possa cagionare l'evento dannoso ma agisce ugualmente con il convincimento di poterlo evitare.
B l'agente non si è rappresentato l'evento lesivo ed era convinto di poterlo evitare.
C l'agente si è rappresentato l'evento lesivo e lo ha voluto.

624) Per il delitto di violenza sessuale si procede d'ufficio se :

A il fatto è commesso nei confronti di persona minorenne con uso della forza.
B il fatto è commesso ai danni di un qualsiasi prossimo congiunto.
C il fatto è commesso dal genitore anche adottivo.

625) L'ingiuria costituisce un reato ?

A No, non è un reato.
B No, è un illecito amministrativo.
C Si, è un delitto come lo è sempre stato.

626) Il pubblico ufficiale che si appropria di denaro altrui di cui ha la disponibilità in ragione del suo ufficio commette :

A il reato di malversazione e il reato di peculato.
B il reato di peculato.
C il reato di corruzione per l'esercizio della funzione.

627) Ai fini della imputabilità è necessario :

A avere almeno la capacità di volere.
B avere almeno la capacità di intendere.
C avere la capacità di intendere e di volere.

---

628) Nel reato tentato, la prescrizione comincia a decorrere :

A dal giorno della sentenza di condanna.
B dal giorno in cui è cessata l'attività del colpevole.
C dal giorno in cui ha avuto inizio il tentativo anche se questo si protrae nel tempo.

---

629) Si definisce ubriaco abituale :

A chi sia dedito all'uso di bevande alcoliche e si trovi in stato di frequente ubriachezza.
B chi sia in stato di frequente ubriachezza per causa di forza maggiore e, dunque, non dipendente dalla sua volontà.
C chi sia in stato di ubriachezza non derivata da caso fortuito.

---

630) La norma penale in bianco è quella nella quale :

A è prevista la sanzione, mentre il precetto ha carattere generico, essendo la sua esatta determinazione affidata aduna fonte secondaria.
B è determinato il precetto ma non la sanzione.
C sono determinati sia il precetto sia la sanzione.

---

631) Il pubblico ufficiale, che per compiere un atto del suo ufficio, riceve da qualcuno una somma di denaro commette :

A un illecito amministrativo.
B delitto di peculato aggravato.
C delitto di corruzione per l'esercizio della funzione.

---

632) Il perdono giudiziale può essere concesso a :

A al minorenne per non più di tre volte.
B al minorenne per reati compiuti solo con pene pecuniarie.
C al minorenne.

---

633) Circostanze oggettive del reato sono quelle che concernono :

A l'intensità del dolo e il grado della colpa.
B la responsabilità oggettiva.
C la gravità del danno.

---

634) Esiste il reato di peculato mediante profitto dell'errore altrui ?

A Si, il codice penale lo prevede.
B No, il profitto dell'errore altrui darebbe luogo al delitto di concussione.
C No, la fattispecie delittuosa del peculato è unica.

---

635) Allorquando il soggetto colpevole di delitto tentato abbia volontariamente desistito dall'azione :

A non sarà punibile.
B soggiacerà alla pena stabilita per il delitto tentato diminuita fino ad un terzo.
C soggiacerà soltanto alla pena per gli atti compiuti,qualora questi costituiscano di per sé un reato diverso.

---

636) L'autore di un reato affetto da vizio totale di mente :

A non è mai imputabile.
B è comunque imputabile.
C è imputabile solo in caso di reato doloso.

---

637) Non costituisce un caso di estinzione del reato :

A la remissione della querela.
B l'oblazione.
C la morte del reo dopo la condanna.

---

638) La legge penale prevede che non sia punibile chi abbia commesso il fatto per legittima difesa :

A sempre che non abbia provocato danni permanenti alla persona.
B sempre che la difesa sia identica all'offesa.
C sempre che la difesa sia proporzionata all'offesa.

---

639) La capacità a delinquere del reo e la gravità del reato incidono :

A sulla abitualità del reato.
B sulla quantificazione della pena.
C sulla natura del reato e sulla sua qualificazione.

640) Quale reato si configura allorquando l'incaricato di pubblico servizio, violando i doveri inerenti alle funzioni o al servizio, riveli notizie d'ufficio segrete :

A abuso d'ufficio.
B rivelazione e utilizzazione di segreti di ufficio.
C omissione dei doveri di ufficio aggravato dalla qualifica.

641) Il soggetto attivo del reato di corruzione è :

A solo il privato.
B la pubblica amministrazione o il privato.
C il pubblico ufficiale.

642) Il nesso di casualità, nel codice penale :

A è previsto espressamente dalla Costituzione.
B è previsto dall'art 1 cp.
C è previsto espressamente dall'articolo 40 cp.

643) Il vincolo della continuazione può riguardare tanto i delitti quanto le contravvenzioni ?

A No la continuazione si applica solo ai delitti.
B No, la continuazione si applica solo alle contravvenzioni e ad alcuni delitti.
C Si in ogni caso.

644) Quando viene applicata ai sensi dell'art. 29 c.p. la pena accessoria della interdizione temporanea dai pubblici uffici :

A quando si è condannati alla reclusione superiore ai 5 anni.
B quando si è condannati alla reclusione inferiore ad un anno.
C quando si è condannati alla reclusione non inferiore ai tre anni.

645) Nel delitto di violenza o minaccia ad un pubblico ufficiale il soggetto passivo è:

A Chiunque.
B Un pubblico ufficiale o un incaricato di pubblico servizio.
C Solo un ufficiale o un agente di polizia giudiziaria.

646) Tra le seguenti quale affermazione è la corretta :

A l'evento di reato rappresenta l'oggetto materiale con cui il soggetto attivo commette il reato.
B l'evento di reato è conseguenza dell'azione o omissione.
C l'evento di reato costituisce un inadempimento contrattuale. Cui segue l'obbligo di risarcimento del danno.

647) Con la locuzione "effetti penali della condanna" si indicano :

A la sottoposizione del reo alle sole pene accessorie.
B la sottoposizione del reo alle sole pene principali.
C tutte le conseguenze giuridiche di carattere afflittivo che conseguono alla condanna penale.

648) Allorquando per la punibilità di un reato la legge richieda il verificarsi di una condizione, il colpevole risponde del reato :

A solo se l'evento da cui dipende l'avverarsi della condizione sia stato da lui voluto.
B anche se l'evento da cui dipende l'avverarsi della condizione non è da lui voluto.
C solo se l'evento da cui dipende l'avverarsi della condizione sia stato da lui previsto e voluto.

649) Il reato di furto si consuma nel momento:

A dell'impossessamento del bene altrui mediante sottrazione.
B della realizzazione del profitto.
C in cui inizia la detenzione della cosa da parte del reo.

650) E' recidivo chi :

A è condannato per reati della stessa indole.
B si sottrae volontariamente all'esecuzione della pena rendendosi latitante.
C dopo essere stato condannato per un delitto non colposo, ne commette un altro.

651) Appropriarsi di cose smarrite costituisce un reato ?

A No.
B Solo se le cose hanno un valore superiore ai mille euro e si trovino in un luogo pubblico.
C Solo se le cose hanno un valore superiore ai tremila euro.

652) Nella calunnia l'agente deve essere a conoscenza della innocenza della persona offesa alla quale attribuisce il reato ?

A No, è sufficiente il dubbio circa l'innocenza.
B Si, la conoscenza dell'innocenza costituisce un elemento essenziale della fattispecie.
C Si, ma solo per i delitti più gravi.

653) L' inadempimento nei contratti di pubbliche forniture costituisce :

A un illecito amministrativo.
B un reato contro la pubblica amministrazione.
C un illecito civile che dà luogo all'obbligo di risarcimento.

654) Il deposito in banca di denaro "sporco" da parte di Tizio che non ha concorso nel reato realizza la fattispecie di:

A ricettazione.
B favoreggiamento.
C riciclaggio.

655) Cosa occorre affinché vi sia l'imputabilità?

A La capacità di intendere e di volere.
B Solo la capacità di intendere.
C Solo la capacità di volere.

656) La violenza nel furto con strappo si esercita:

A indifferentemente sull'oggetto o sulla persona.
B né sull'oggetto né sulla persona.
C sull'oggetto.

657) La sospensione dagli uffici direttivi delle persone giuridiche e delle imprese è:

A pena accessoria per le contravvenzioni.
B pena principale per le contravvenzioni e per i delitti.
C pena per i soli delitti contro l'economia pubblica, l'industria e il commercio.

658) Se il colpevole volontariamente impedisce l'evento del reato:

A soggiace alla pena stabilita per il delitto consumato, ridotta fino alla metà.
B soggiace alla pena stabilita per il delitto tentato.
C soggiace alla pena stabilita per il delitto tentato, diminuita da un terzo alla metà.

659) Per i minori degli anni quattordici, il diritto di remissione della querela può essere esercitato:

A dal loro legale rappresentante.
B anche dal tutore, solo se la querela sia stata da questo proposta.
C dal minore, se questi la abbia proposta.

660) Quale pena accessoria consegue alla condanna per delitti commessi con l'abuso dei poteri inerenti ad un pubblico servizio?

A L'interdizione temporanea dai pubblici uffici.
B Nessuna pena accessoria.
C L'interdizione perpetua dai pubblici uffici.

661) Sotto la denominazione di pene pecuniarie, la legge comprende, tra le altre:

A l'ammenda.
B la sospensione dall'esercizio di una professione.
C la semidetenzione.

662) Il Pubblico Ufficiale che ecceda colposamente i limiti imposti dall'uso legittimo delle armi:

A ne risponde in ogni caso a titolo di colpa.
B risponde del fatto a titolo di dolo, ma la pena è ridotta.
C se il fatto è previsto dalla legge come delitto colposo, ne risponde a titolo di colpa.

663) Tizio, alla presenza di altre persone, offende l'onore di una persona presente. Tizio risponde:

A ingiuria semplice.
B di ingiuria aggravata di cui all'art. 594, co. 4, c.p.
C diffamazione di cui all'art. 595 c.p.

664) La dichiarazione di tendenza a delinquere importa l'applicazione al condannato della pena accessoria dell'interdizione dai pubblici uffici?

A Sì, importa l'applicazione della pena accessoria dell'interdizione temporanea dai pubblici uffici.
B No, non importa l'applicazione della pena accessoria dell'interdizione dai pubblici uffici.
C Sì, importa l'applicazione della pena accessoria dell'interdizione perpetua dai pubblici uffici.

---

665) L'incapacità a contrattare con la P.A. è:

A una sanzione sostitutiva delle pene detentive brevi.
B una pena accessoria
C una misura di sicurezza.

---

666) Si configura omicidio preterintenzionale quando:

A la morte è conseguenza non voluta di atti diretti a percuotere o a ledere.
B la morte è conseguenza non voluta di qualsiasi delitto che non riguarda la persona.
C la morte è conseguenza non voluta di una lesione gravissima dolosa.

---

667) I primi tre articoli del Codice Penale stabiliscono i principi:

A di legalità, irretroattività e di obbligatorietà della legge penale.
B di statualità, obbligatorietà e territorialità della legge penale.
C di legalità e di statualità della legge penale e della responsabilità personale.

---

668) Non è punibile chi esegue l'ordine illegittimo:

A quando la legge non gli consente alcun sindacato sulla legittimità dell'ordine.
B quando l'ordine gli è trasmesso per iscritto.
C quando l'Autorità ordinante gli vieta di sindacare la legittimità dell'ordine.

---

669) Quando l'agente cagiona un evento diverso da quello voluto e quindi realizza l'elemento obiettivo di una diversa fattispecie criminosa si parla di:

A aberratio ictus monolesiva.
B aberratiodelicti.
C aberratio ictus.

---

670) Chi determina le prescrizioni delle misure di prevenzione?

A Il tribunale ordinario, ed è il solo competente a disporne l'eventuale modificazione.
B Il magistrato o il tribunale di sorveglianza.
C Il Questore, ed è il solo competente a disporne l'eventuale modificazione.

---

671) In base al "principio di legalità", sancito dalla legge 689/1981:

A nessuno può essere assoggettato a sanzioni amministrative se non in forza di una legge che sia entrata in vigore prima della commissione della violazione.
B nessuno può essere assoggettato a sanzioni amministrative se non in forza di una legge che sia entrata in vigore dopo la commissione della violazione.
C nessuno può essere assoggettato a sanzioni amministrative se non in forza di un provvedimento adottato da un organo amministrativo dello Stato o da un ente pubblico territoriale.

---

672) La sospensione dall'esercizio di un'arte può avere una durata:

A non inferiore a due mesi né superiore a quattro anni.
B non inferiore a un mese né superiore a tre anni.
C non inferiore a quindici giorni né superiore a due anni.

---

673) Il reato di danneggiamento previsto dall'art. 635 c.p. è:

A un delitto.
B un illecito amministrativo.
C un reato proprio.

---

674) Se l'evento del delitto, non voluto dall'agente, si verifica a causa di imprudenza (art.43 co. 3 C)p.):

A il delitto è preterintenzionale.
B il delitto è colposo.
C il delitto non sussiste.

---

675) I reati puniti con l'ergastolo:

A si prescrivono in alcuni casi previsti dalla legge.
B si prescrivono sempre e comunque.
C non si prescrivono.

---

676) Allorquando il fatto sia stato commesso per caso fortuito, il soggetto agente:

A non è punibile.
B è punibile, ma la pena è ridotta.
C è punibile, se è capace di intendere e di volere.

---

677) Si rende responsabile del delitto di abuso d'ufficio il Pubblico Ufficiale che, nello svolgimento delle sue funzioni, violando norme di un regolamento, arreca intenzionalmente ad altri un danno ingiusto?

A Si, qualora il fatto non costituisca un più grave reato.
B No, perché ha violato norme di regolamento e non di legge.
C Solo se la commissione del delitto procura anche un ingiusto profitto per sè o per altri.

---

678) Il rinvio obbligatorio dell'esecuzione della misura di sicurezza personale, nei confronti di donna incinta, è revocato:

A se la gravidanza si interrompe, sempreché l'interruzione sia avvenuta da oltre due mesi.
B dal momento del parto.
C se la gravidanza si interrompe, sempreché l'interruzione sia avvenuta da oltre sei mesi.

---

679) Ai sensi dell'art. 5 del c.p. e della giurisprudenza costituzionale è corretto affermare che:

A l'ignoranza scusa nei delitti ma non nelle contravvenzioni.
B l'ignoranza della legge penale non può in alcun caso escludere la responsabilità.
C l'ignoranza della legge penale non scusa, tranne che si tratti di ignoranza inevitabile.

---

680) Quale durata può avere l'incapacità di contrattare la pubblica amministrazione?

A Non può avere durata inferiore a due anni né superiore a cinque anni.
B Non può avere durata inferiore ad un anno né superiore a tre anni.
C Non può avere durata inferiore a sei mesi né superiore ad un anno.

---

681) Il curatore dell'inabilitato può rimettere la querela proposta da lui:

A ma la remissione non ha effetto se l'inabilitato manifesta volontà contraria.
B anche se l'inabilitato manifesta volontà contraria.
C ma la remissione non ha effetto senza l'approvazione dell'inabilitato.

---

682) L'oblazione è:

A Una causa d'estinzione della pena.
B Una causa di estinzione del reato.
C Una sanzione amministrativa.

---

683) Tizio viene assunto come testimone, ma non viene avvertito della facoltà di astenersi dal rendere la testimonianza. Egli, se rende dichiarazioni false o reticenti, è punibile per il reato di falsa testimonianza?

A Sì
B Sì, se il fatto è commesso al fine di trarne profitto.
C No.

---

684) Il delitto di lesione personale è punibile a querela:

A se cagiona una malattia della durata non superiore ai 40 giorni.
B se provoca soltanto una sensazione dolorosa.
C se cagiona una malattia della durata non superiore ai 20 giorni.

---

685) Chi uccide volontariamente il proprio avversario in occasione di una rissa:

A risponde di omicidio doloso.
B risponde della morte come conseguenza di altro delitto.
C risponde di omicidio preterintenzionale.

---

686) Salvo che la legge disponga altrimenti, il diritto di querela non può essere esercitato:

A decorso un anno dal giorno della notizia del fatto che costituisce il reato.
B decorsi quattro mesi dal giorno della notizia del fatto che costituisce il reato.
C decorsi tre mesi dal giorno della notizia del fatto che costituisce il reato.

---

687) Lo stato di necessità ricorre quando vi è:

A un pericolo di offesa per un diritto proprio o altrui.
B un pericolo attuale di un danno grave al proprio patrimonio o a quello di un congiunto.
C un pericolo attuale di un danno grave alla propria o altrui persona.

---

688) L'art. 25 della Costituzione disponendo che "nessuno può essere sottoposto a misure di sicurezza se non nei casi previsti dalla legge" sancisce uno dei principi fondamentali in materia penale, cosiddetto:

A principio di offensività.
B principio di legalità.
C principio della funzione rieducativa della pena.

---

689) Costituisce aggravante specifica del delitto di ingiuria:

A il fatto commesso mediante scritti o disegni diretti alla persona offesa.
B il fatto commesso in un atto pubblico o in una scrittura privata autenticata.
C l'offesa che consiste nell'attribuzione di un fatto determinato.

---

690) In uno dei dei seguenti casi non si configura omicidio:

A soppressione di un embrione conservato in una provetta.
B soppressione di un neonato vivo ma gravemente malformato.
C soppressione di un feto durante il parto.

---

691) Chi, con una sola azione od omissione, viola diverse disposizione di legge risponde di:

A reato complesso o alle volte reato continuato.
B concorso materiale di reati.
C concorso formale di reati.

---

692) La libertà controllata:

A è pena principale sia per i delitti che per le contravvenzioni.
B è una sanzione sostitutiva delle pene detentive brevi.
C deriva sempre automaticamente dalla condanna.

---

693) Tizio ruba una borsetta e l'abbandona. Caio nota il fatto e se ne impossessa. Caio risponde di:

A sottrazione di cosa comune.
B appropriazione indebita.
C furto.

---

694) Ai sensi dell'art. 2, comma 3, c.p., se la legge del tempo in cui fu commesso il reato e le posteriori sono diverse, si applica quella:

A le cui disposizioni sono sfavorevoli al reo.
B le cui disposizioni sono più favorevoli al reo.
C ritenuta più idonea.

---

695) Se un tizio acquista un oggetto che il venditore dichiara essere di contrabbando risponde di:

A ricettazione.
B non risponde, il reato è già stato consumato.
C concorso in contrabbando.

---

696) In quali casi si applicano pene pecuniarie proporzionali?

A Nei casi tipicamente indicati dalla legge.
B Nei reati contro il patrimonio.
C Nei reati determinati da fini di lucro.

---

697) Ai sensi dell'art. 2, comma 3, c.p., se la legge del tempo in cui fu commesso il reato e le posteriori sono diverse, si applica quella le cui disposizioni sono più favorevoli al reo?

A Si, sempre.
B Si, salvo che sia stata pronunciata sentenza irrevocabile.
C Si, salvo che sia stata pronunciata sentenza revocabile.

---

698) In quale caso le cause sopravvenute rispetto all'azione od omissione anche se consistenti nel fatto illecito altrui, escludono il nesso di causalità(art. 41 co. 2 c.p.)?

A quando sono state da sole sufficienti a determinare l'evento.
B quando hanno aggravato i danni cagionati dall'evento.
C quando hanno agevolato la produzione dell'evento.

---

699) In caso di proscioglimento per vizio di mente sono applicabili:

A le misure di sicurezza.
B le pene pecuniarie.
C nulla.

700) Chiunque commette un reato nel territorio dello Stato è punito:

A secondo la legge italiana.
B secondo la legge più sfavorevole fra quella italiana e quella dello Stato di cui è cittadino.
C secondo la legge dello Stato di cui è cittadino.

701) Chiunque faccia figurare nei registri dello stato civile una nascita inesistente:

A è punito con la reclusione.
B è punito con l'arresto.
C è punito con una sanzione amministrativa.

702) Le autorizzazioni di polizia:

A sono personali e possono essere trasmesse, ma non dar luogo a rapporti di rappresentanza.
B sono personali, ma possono essere trasmesse e dar luogo a rapporti di rappresentanza nell'ambito della famiglia.
C sono personali e non possono in alcun modo essere trasmesse né dar luogo a rapporti di rappresentanza, salvi i casi espressamente previsti dalla legge.

703) Il Codice Penale disciplina tre forme qualificate di pericolosità sociale; esse sono:

A La cooperazione colposa, la recidiva, istigazione criminosa e la tendenza a delinquere.
B L'abitualità criminosa, la professionalità nel reato e la tendenza a delinquere.
C La recidività, l'abitualità criminosa, la professionalità nel reato e le circostanze aggravanti.

704) Il rinvio obbligatorio dell'esecuzione della misura di sicurezza personale, nei confronti di madre di infante di età inferiore ad un anno, è revocato:

A qualora la madre sia comunque in grado di accudire la prole.
B se il figlio può essere accudito dall'altro genitore, sempreché il parto sia avvenuto da oltre due mesi.
C se il figlio muore, sempreché il parto sia avvenuto da oltre due mesi.

705) Il vizio totale di mente:

A esclude l'imputabilità.
B è una causa di giustificazione.
C esclude l'imputabilità, salvo che la legge disponga altrimenti.

706) In base al principio della specialità sancito dalla legge n. 689/1981, quando uno stesso fatto è punito da una disposizione penale e da una disposizione che prevede una sanzione amministrativa, ovvero da una pluralità di disposizioni che prevedono sanzioni amministrative:

A si applica sempre la disposizione penale, e la pena può essere aumentata fino alla metà.
B si applica la disposizione speciale.
C si applicano entrambe le disposizioni.

707) Il Pubblico Ufficiale che, nell'esercizio delle sue funzioni, forma un atto falso in tutto o in parte, oppure altera un atto vero, è responsabile del reato di:

A falso in scrittura privata.
B falso in foglio firmato in bianco.
C falso materiale commesso dal pubblico ufficiale in atti pubblici.

708) Al fatto previsto come reato da un decreto legge e commesso durante il suo vigore si applica il predetto decreto se, al momento della sentenza, la sua conversione in legge è avvenuta con emendamenti soppressivi della previsione del predetto fatto come reato?

A Sì, ma solo se è prevista la pena della reclusione.
B Sì, in ogni caso.
C No, in nessun caso.

709) Se il reato, perseguibile a querela, è commesso in danno di più persone esso è punibile:

A anche se la querela è proposta da una soltanto di esse, purché si tratti di colui che ha subito il danno maggiore.
B anche se la querela è proposta da una soltanto di esse.
C solo se la querela è presentata da tutte.

710) L'errore su una legge diversa dalla legge penale esclude la punibilità:

A solo se incolpevole.
B solo quando sia stato inevitabile.
C quando ha cagionato un errore sul fatto che costituisce reato.

711) L'errore, determinato da colpa, sul fatto che costituisce il reato:

A non esclude in nessun caso la punibilità dell'agente.
B non esclude la punibilità dell'agente, quando il fatto è preveduto dalla legge come delitto colposo.
C esclude in ogni caso la punibilità dell'agente.

---

712) In base al «principio di legalità», sancito dalla legge 689/1981:

A nessuno può essere assoggettato a sanzioni amministrative se non in forza di un provvedimento adottato da un organo amministrativo dello Stato.
B nessuno può essere assoggettato a sanzioni amministrative se non in forza di una legge che sia entrata in vigore prima della commissione della violazione.
C nessuno può essere assoggettato a sanzioni amministrative se non in forza di un provvedimento adottato da un organo amministrativo dello Stato o da un ente pubblico territoriale.

---

713) Agli effetti della legge penale, sono persone che esercitano un servizio di pubblica necessità, tra l'altro:

A i privati che esercitano professioni forensi.
B i privati che, non esercitando una pubblica funzione, né prestando un pubblico servizio, adempiono un servizio dichiarato di pubblica necessità con legge della Repubblica.
C tutti i privati che esercitano professioni il cui esercizio sia per legge vietato senza una speciale abilitazione dello Stato, anche se dell'opera di essi il pubblico non è obbligato a valersi.

---

714) La vicenda costitutiva del rapporto di esecuzione di misure di sicurezza discende da fattispecie il cui atto giuridico terminale presenta diverso contenuto. Essa può derivare da provvedimento del magistrato di sorveglianza su richiesta del P.M.?

A No, può derivare solo da sentenza di condanna del giudice.
B No, essa può derivare solo da sentenza di proscioglimento ovvero di condanna del giudice.
C Si, essa può anche derivare da provvedimento del magistrato di sorveglianza su richiesta del P.M. ovvero d'ufficio quando sussistono determinate condizioni di legge.

---

715) Alla sospensione dall'esercizio della potestà dei genitori consegue anche:

A la incapacità di amministrare, durante la sospensione, i beni immobili dei figli minori.
B la incapacità di amministrare, durante la sospensione, i beni mobili dei figli minori.
C la incapacità di esercitare, durante la sospensione, qualsiasi diritto che al genitore spetti sui beni del figlio in base alle norme del codice civile.

---

716) In quali casi alla condanna consegue la decadenza dalla potestà dei genitori?

A I casi sono determinati dalla legge.
B I casi sono determinati dal tribunale per i minorenni in base alla sentenza di condanna.
C I casi sono determinati dal tribunale ordinario in base a richiesta del pubblico ministero.

---

717) Il cancelliere che si appropria delle somme ricevute per la registrazione di una sentenza commette il reato di:

A furto.
B corruzione in atti giudiziari.
C peculato.

---

718) Commette il reato di falso ideologico in atto pubblico il pubblico ufficiale che, formando un atto, altera dichiarazioni da lui ricevute:

A se agisce per recare ad altri un danno.
B se agisce nell'esercizio delle sue funzioni.
C solo se si tratta di un atto destinato ad essere prodotto all'Autorità giudiziari

---

719) Se l'agente ritiene per errore che esistano circostanze di esclusione della pena:

A queste non sono valutate a favore di lui.
B queste sono valutate a favore di lui, quando si tratti di circostanze soggettive.
C queste sono sempre valutate a favore di lui.

---

720) L'avere previsto l'evento senza averlo voluto, sotto il profilo soggettivo configura:

A colpa cosciente.
B sempre il dolo eventuale.
C sempre il dolo anche eventuale.

---

721) Il nesso di causalità è:

A il rapporto che lega il soggetto alla condotta.
B la suitas della condotta, cioè la condizione nella quale la condotta di un soggetto pienamente sua.
C il rapporto che deve sussistere tra condotta ed evento.

722) Non è punibile il pubblico ufficiale che, al fine di adempiere un dovere del proprio ufficio, ordini di far uso delle armi anche quando:

A vi è costretto dalla necessità di respingere una violenza.
B vi è indotto dall'opportunità di respingere una violenza.
C vi è costretto dalla necessità di replicare ad un'ingiuria.

723) Nel concorso di più persone nel reato, la rinuncia al diritto di querela da parte di colui al quale ne spetta l'esercizio, manifestata nei confronti di uno solo dei concorrenti, si estende anche agli altri?

A No dipende dal tipo di reato.
B Sì, purché si tratti di reato a concorso necessario.
C Sì.

724) Nel caso di violenza sessuale di gruppo la pena è diminuita per il partecipante:

A se ignora l'età della persona offesa.
B se il fatto è stato commesso nei confronti di persona maggiorenne.
C se la sua opera ha avuto la minima importanza nella preparazione o nell'esecuzione del reato.

725) Il termine della prescrizione decorre, nei reati punibili a querela:

A dal giorno in cui sono scaduti i termini per la presentazione della querela.
B dal giorno in cui è commesso il reato.
C dal giorno di presentazione della querela.

726) Il pubblico ufficiale che, per compiere un atto del suo ufficio, riceve, per sé o per un terzo, in denaro, una retribuzione che non gli è dovuta, commette il delitto di:

A occultamento di denaro.
B malversazione.
C corruzione per un atto di ufficio.

727) Le contravvenzioni sono imputate:

A con il minimo della colpa.
B oggettivamente.
C a titolo di dolo anche eventuale.

728) Quando l'autore della condotta criminosa si rappresenta e desidera un evento (art. 43 c.p.), ma agisce anche a costo di produrne uno diverso, agisce con:

A colpa.
B colpa grave.
C dolo, nella specie del dolo eventuale.

729) Se la pena stabilita dalla legge per il delitto consumato non è l'ergastolo, il colpevole di delitto tentato è punito:

A con la pena stabilita per il delitto, diminuita di un terzo.
B con la pena stabilita per il delitto, diminuita da un terzo a due terzi.
C con la pena stabilita per il delitto, diminuita della metà.

730) Il perdono giudiziale riguarda:

A qualsiasi soggetto purché il fatto sia di lieve entità.
B il minore di anni 18.
C chiunque colpevole lasci presume re il proprio pentimento.

731) La norma che prevede un fatto come reato (art. 1 c.p.):

A deve essere contenuta in una legge.
B deve essere contenuta in un'ordinanza amministrativa o in una legge regionale.
C deve essere contenuta in un regolamento.

732) Costituisce attenuante specifica del delitto di abuso d'ufficio:

A se l'agente non ha commesso il fatto nell'esercizio delle sue funzioni, salvo che la legge disponga altrimenti.
B se il fatto è commesso dall'incaricato di pubblico servizio e non dal Pubblico Ufficiale.
C se il fatto è di particolare tenuità.

733) Il reato di malversazione a danno dello Stato:

A non può essere commesso da un privato, tranne che maneggi denaro pubblico.
B può essere commesso da chiunque, estraneo alla pubblica amministrazione.
C è un reato proprio.

734) Può la misura di sicurezza essere inflitta in alternativa alla pena?

A Sì, al soggetto imputabile e pericoloso.
B Sì, al soggetto non imputabile ma pericoloso.
C No, in nessun caso.

735) Sono giuridicamente ammissibili le contravvenzioni colpose?

A Le contravvenzioni sono solo colpose.
B Solo se la legge lo prevede espressamente.
C Sì.

736) Quali effetti derivano dall'applicazione della interdizione temporanea dai pubblici uffici?

A La privazione temporanea della capacità di acquistare o di esercitare, durante l'interdizione, quei diritti, uffici, servizi, qualità, gradi, titoli e onorificenze di cui è prevista la perdita definitiva in caso di applicazione della pena accessoria dell'interdizione perpetua dai pubblici uffici.
B La incapacità temporanea di contrarre matrimonio.
C La privazione temporanea della capacità di gestire una impresa commerciale.

737) Il Presidente della Repubblica gode di un'immunità:

A incondizionata ed assoluta.
B relativa.
C processuale.

738) L'assegnazione a una colonia agricola o ad una casa di lavoro, salvo che il giudice non ritenga che la pericolosità sociale sia venuta meno prima della scadenza del termine, ha di norma una durata minima di un anno. Per quali dei seguenti soggetti la durata è di due anni?

A Per i delinquenti abituali e per i delinquenti professionali.
B Per i delinquenti abituali.
C Per i delinquenti professionali.

739) In materia penale, il concorso di cause preesistenti, simultanee o sopravvenute consistenti nel fatto illecito altrui esclude il rapporto di causalità fra condotta ed evento?

A No, senza alcuna eccezione.
B No, tranne l'ipotesi in cui le cause preesistenti consistenti nel fatto illecito altrui sono state da sole sufficienti a determinare l'evento.
C No, tranne l'ipotesi in cui le cause sopravvenute consistenti nel fatto illecito altrui sono state da sole sufficienti a determinare l'evento.

740) Il delitto di concussione prevede:

A costrizione o induzione.
B solo costrizione.
C solo induzione.

741) Il delitto è doloso se è:

A contro l'intenzione od oltre l'intenzione.
B privo d'intenzione.
C secondo l'intenzione.

742) Perché la pena della multa si estingua occorrono:

A 3 anni.
B 10 anni.
C 5 anni.

743) Oggetto del peculato d'uso:

A possono essere anche beni immobili.
B possono essere solo cose mobili di specie.
C può essere solo il denaro.

744) Chi, al fine di procurare a sé o ad altri un profitto, acquista un quadro che sa essere stato rubato, commette il reato di:

A ricettazione ex art. 648 c.p.
B incauto acquisto ex art. 712 c.p.
C riciclaggio ex art. 648 bis c.p.

745) Agli effetti della legge penale, è considerato ubriaco abituale:

A colui che si trova in stato di cronica intossicazione da alcool.
B colui che, essendo stato già condannato per il reato di ubriachezza, commette un nuovo reato sotto l'effetto dell'alcool in un luogo pubblico.
C chi è dedito all'uso di bevande alcoliche ed in stato frequente di ubriachezza.

---

746) Le pene accessorie si applicano:

A sia ai delitti che alle contravvenzioni.
B solo ai delitti.
C solo ai delitti aggravati dall'evento.

---

747) Chi esercita una professione sanitaria ed opera in casi che possono presentare i caratteri di un delitto procedibile di ufficio deve riferire all'autorità:

A mai.
B solo se ciò non espone la persona assistita a procedimento penale.
C sempre, se la procedibilità è d'ufficio.

---

748) Le pene comprese sotto la denominazione "pene detentive" o "restrittive della libertà personale"sono:

A L'ergastolo, la reclusione e l'arresto.
B Il soggiorno obbligato e l'obbligo di soggiorno.
C La detenzione domiciliare.

---

749) Non è punibile chi lede un diritto:

A con la successiva ratifica della persona che può validamente disporne.
B senza l'esplicita opposizione della persona che può validamente disporne.
C con il consenso della persona che può validamente disporne.

---

750) La privazione definitiva di ogni diritto onorifico inerente a qualunque ufficio o servizio pubblico, nonché la privazione definitiva di dignità e decorazioni pubbliche derivano:

A dalla pena accessoria dell'interdizione da una professione o da un'arte.
B dalla pena accessoria dell'interdizione temporanea dai pubblici uffici.
C dalla pena accessoria dell'interdizione perpetua dai pubblici uffici.

---

751) Non si applica alle misure di sicurezza:

A il principio di riserva di legge.
B il principio di irretroattività.
C il principio di determinatezza.

---

752) Per gli inabilitati il diritto di remissione della querela può essere esercitato:

A solo dal curatore, anche se la querela sia stata proposta dall'inabilitato.
B dagli stessi, salvo che la querela sia stata proposta dal curatore.
C dagli stessi anche quando la querela è stata proposta dal curatore, ma, in ogni caso, la remissione non ha effetto senza l'approvazione di questo.

---

753) Se per il delitto commesso è prevista la pena della reclusione in misura non inferiore nel minimo a dieci anni, il ricovero in ospedale psichiatrico giudiziario deve essere disposto per:

A almeno cinque anni.
B almeno sei anni.
C almeno due anni.

---

754) Ai fini del diritto penale, la desistenza costituisce:

A una circostanza attenuante ad effetto speciale.
B una causa di estinzione del reato tentato.
C una causa di estinzione della pena accessoria.

---

755) Nel caso di reato erroneamente supposto, se concorrono nel fatto gli elementi costitutivi di un reato diverso, si applica la pena stabilita per il reato:

A più grave tra quello commesso e quello voluto.
B meno grave tra quello commesso e quello voluto.
C effettivamente commesso.

---

756) Nella legittima difesa, quali caratteristiche deve avere il pericolo, ai sensi dell'art.52 del codice penale?

A Deve essere attuale.
B Deve essere attuale e deve essere stato causato volontariamente dall'agente.
C Può essere futuro o passato.

757) Il furto in abitazione configura:

A il reato di furto aggravato dalla violazione di domicilio.
B una fattispecie autonoma di reato.
C il reato di furto in concorso con il reato di violazione di domicilio.

758) Quale pena accessoria consegue alla condanna per delitti commessi con abuso di un'industria?

A L'interdizione perpetua dall'industria.
B Nessuna pena accessoria se non in casi particolari.
C L'interdizione temporanea dall'industria.

759) Il diritto penale complementare:

A è l'insieme delle norme penali temporanee o eccezionali.
B è contenuto in leggi penali diverse dal Codice Penale.
C è l'insieme delle norme penali che non prevedono una sanzione.

760) Il tentativo non è punibile (art. 56 co. 1 c.p.):

A nel delitto consumato.
B nel delitto di mera condotta.
C nelle contravvenzioni.

761) La sospensione dall'esercizio di una professione consegue anche ad ogni condanna:

A per contravvenzione, commessa con abuso della professione, quando la pena inflitta non sia inferiore a un anno di arresto.
B per contravvenzione, commessa con abuso della professione, quando la condanna non sia inferiore a tre mesi di arresto.
C per contravvenzione, commessa con abuso della professione, quando la pena inflitta non sia inferiore a due anni di arresto.

762) Nei casi di reati commessi all'estero, di delitti politici commessi all'estero, di delitti comuni del cittadino all'estero, il cittadino, già giudicato all'estero, è giudicato nuovamente nello Stato:

A a richiesta del Presidente del Consiglio dei ministri.
B a richiesta del Ministro della giustizia.
C a istanza della persona offesa.

763) Chiunque procura l'evasione di una persona assegnata ad una casa di lavoro:

A commette il delitto di favoreggiamento personale.
B commette il delitto di procurata inosservanza di misure di sicurezza detentive.
C commette il delitto di procurata inosservanza di pena.

764) Chi si trattiene con l'inganno in un luogo di privata dimora commette il reato di:

A invasione di terreni o edifici aggravata.
B violazione di domicilio.
C violenza privata e invasione di terreni.

765) Le circostanze comuni sono:

A Quelle non applicabili ai soli pubblici ufficiali.
B Quelle comuni a tutti i cittadini.
C Quelle applicabili, in linea generale, a tutti i reati previsti dal codice penale.

766) La privazione definitiva della capacità di assumere o di acquistare qualsiasi incarico non obbligatorio di pubblico servizio e della qualità ad esso inerente di incaricato di pubblico servizio deriva:

A dalla pena accessoria dell'interdizione da una professione o da un'arte.
B dalla pena accessoria dell'interdizione perpetua dai pubblici uffici.
C dalla pena accessoria dell'interdizione legale.

767) Uno dei caratteri fondamentali dell'attuale sistema penale italiano è certamente la sussidiarietà, nel senso che:

A il ricorso al diritto penale, in considerazione del carattere afflittivo delle sue sanzioni, deve costituire l'extrema ratio, cioè essere limitato alle sole ipotesi in cui il ricorso a sanzioni di altra natura appaia inadeguato a dissuadere i consociati dall'offendere determinati beni o interessi.
B l'intervento del diritto penale non è limitato soltanto alla sfera degli interessi di maggiore importanza per la collettività, ma anche alla repressione di offese di infima gravità.
C si tratta di complesso di norme originario e completo, dotate di proprie regole e propri principi.

768) Il furto previsto dall'art. 624 c.p. è:

A un reato necessariamente plurisoggettivo.
B un reato a dolo specifico.
C un reato proprio.

769) Agli effetti della legge penale, sono incaricati di un pubblico servizio coloro i quali:

A a qualunque titolo, prestano un pubblico servizio.
B esercitano una pubblica funzione legislativa.
C esercitano una pubblica funzione giudiziaria o amministrativa.

770) La durata di una pena accessoria temporanea quando la legge non la stabilisce espressamente deve essere:

A uguale al massimo stabilito dalla legge per la pena accessoria.
B uguale a quella della pena principale inflitta, ma essa non deve oltrepassare il limite minimo e quello massimo stabiliti dalla legge per la pena accessoria.
C stabilita dal giudice discrezionalmente entro i limiti minimo e massimo previsti dalla legge.

771) Quale causa di esclusione del reato può invocare l'automobilista che investe un pedone nel tentativo di evitare un camion?

A Forza maggiore.
B Stato di necessità.
C Legittima difesa.

772) In materia penale, cosa si intende per "circostanza" del reato?

A Elemento accidentale che incide sulla pena ma non sull'esistenza e sulla natura del reato.
B Elemento essenziale ai fini della sussistenza della responsabilità penale dell'autore.
C Elemento essenziale ai fini dell'esistenza del reato senza il quale esso non esiste.

773) Nel caso di reato impossibile il giudice può ordinare che l'imputato prosciolto sia sottoposto:

A a misura di prevenzione.
B alla pena alternativa della libertà controllata.
C a misura di sicurezza.

774) Classificando i reati in base alla struttura e al tipo di condotta previsto dalla singola norma incriminatrice, i reati che possono essere commessi soltanto mediante un'azione sono:

A reati a condotta mista.
B reati di azione o commissivi.
C sempre reati plurisussistenti.

775) Indicare quale tra le seguenti affermazioni afferenti l'assegnazione a una colonia agricola o ad una casa di lavoro è corretta:

A essa mira alla rieducazione e al reinserimento sociale del condannato attraverso un'attività lavorativa.
B sono assegnati a tale misura solo coloro che, essendo già stati dichiarati delinquenti abituali, professionali o per tendenza, e non essendo più sottoposti a misure di sicurezza, commettono un nuovo delitto, non colposo, che costituisca una nuova manifestazione della abitualità, professionalità o tendenza a delinquere.
C è un provvedimento contemplato fra le misure di sicurezza ed è applicato solo nei confronti di delinquenti professionali.

776) La riabilitazione:

A estingue solo le contravvenzioni.
B estingue le pene accessorie ed ogni altro effetto penale della condanna, salvo diversa disposizione.
C estingue il reato e di conseguenza le pene.

777) Se taluno mette altri nello stato d'incapacità d'intendere o di volere, al fine di fargli commettere un reato, di questo ne risponde:

A entrambi.
B chi ha cagionato lo stato d'incapacità.
C chi ha commesso il fatto.

778) Agli effetti della legge penale sono considerati "cittadini italiani" gli appartenenti per origine ai luoghi soggetti alla sovranità dello Stato italiano?

A No.
B Sì, solo se hanno commesso delitti.
C Sì.

779) La norma penale, in quanto norma di diritto pubblico attinente al processo punitivo dello Stato, è caratterizzata da statualità. Con tale espressione si intende:

A il monopolio della sua creazione è riservato allo Stato e soltanto allo Stato, con l'esclusione di qualsiasi altro soggetto.
B è obbligatoria per tutti e soli cittadini dello Stato emanante la norma.
C è concordata a livello internazionale tra vari Stati.

780) Quale conseguenza comporta una circostanza aggravante comune?

A Un aumento della pena stabilito dal giudice e l'applicazione di una o più pene accessorie.
B L'aumento superiore a un terzo della pena prevista per il reato commesso.
C L'aumento fino a un terzo della pena prevista per il reato commesso.

781) Non impedire un evento può equivalere al cagionarlo?

A Sì, sempre.
B No mai per nessun motivo.
C Sì, quando si ha l'obbligo giuridico di impedire l'evento.

782) La durata minima dell'assegnazione a colonia agricola o a casa di lavoro è di un anno; tuttavia essa per i delinquenti professionali è di:

A tre anni.
B due anni.
C diciotto mesi.

783) Tizio istiga a rubare un quadro, poi acquista il quadro rubato. Tizio risponde di:

A riciclaggio ex art. 648 bis c.p.
B ricettazione ex art. 648 c.p.
C concorso nel reato di furto ex art. 110 c.p.

784) Le misure di sicurezza si distinguono in detentive, non detentive e patrimoniali. Sono non detentive:

A la libertà vigilata; il divieto di soggiorno; il divieto di frequentare osterie e pubblici spacci di bevande alcoliche; l'espulsione o l'allontanamento dello straniero dallo Stato; l'assegnazione ad una casa circondariale.
B la libertà vigilata; il divieto di soggiorno; il divieto di frequentare osterie e pubblici spacci di bevande alcoliche; l'espulsione o l'allontanamento dello straniero dallo Stato.
C la libertà vigilata; il divieto di soggiorno; l'espulsione o l'allontanamento dello straniero dallo Stato; la confisca.

785) Il reato consumatosi definisce:

A Il reato in cui sono presenti, in concreto, tutti gli elementi costitutivi del reato stesso.
B Il reato che ha esaurito i suoi effetti.
C Il reato che ha prodotto un affievolimento della volontà colpevole che da dolo sia degradato a colpa.

786) Ai sensi dell'art. 109 del codice penale, la dichiarazione di abitualità e professionalità nel reato e quella di tendenza a delinquere:

A si estinguono per effetto della riabilitazione.
B non si estinguono mai.
C non si estinguono per effetto della riabilitazione.

787) A determinare le prescrizioni della sorveglianza speciale è:

A Il tribunale di sorveglianza.
B Il Questore, ed è il solo competente a disporne l'eventuale modificazione.
C Il tribunale ordinario, ed è il solo competente a disporne l'eventuale modificazione.

788) La remissione di querela può essere sottoposta a termini o a condizioni?

A Si, con il consenso del querelante, del querelato e del Pubblico Ministero.
B Si.
C No.

789) Il reato:

A è quel fatto giuridico volontario (cioè quell'atto giuridico) illecito al quale l'ordinamento ricollega come conseguenza una sanzione penale.
B è costituito da ogni fatto o atto considerato degno di sanzione secondo il buon senso.
C è costituito da ogni fatto considerato riprovevole secondo il buon senso e la morale comune.

790) Si parla di colpa cosciente:

A Quando l'evento è previsto e voluto dall'agente.
B Quando la condotta dell'agente è determinata con coscienza e volontà.
C Quando l'evento, anche se è previsto non è voluto dall'agente.

---

791) Chiunque nasconde una persona evasa da uno stabilimento nel quale si trovava sottoposta a misura di sicurezza detentiva:

A commette il delitto di favoreggiamento personale.
B commette il delitto di procurata inosservanza di misure di sicurezza detentive.
C commette il delitto di procurata evasione.

---

792) In base al soggetto passivo, i reati si distinguono in reati plurioffensivi, reati vaganti e reati senza vittime. I reati plurioffensivi sono:

A quei reati che offendono un numero indeterminato di individui.
B quei reati nei quali non è facile individuare un bene giuridico "afferrabile".
C quei reati che ledono o pongono in pericolo non un solo bene, ma più beni diversi con conseguente pluralità di soggetti passivi.

---

793) Il ravvedimento da parte del reo per eliminare gli effetti dannosi o pericolosi del reato configura:

A una scriminante.
B non ha rilevanza penale.
C una circostanza attenuante.

---

794) Se colui che commette un reato è in stato di intossicazione cronica da alcool:

A è sempre imputabile.
B non è imputabile o è semi-imputabile a seconda dei casi.
C non è mai imputabile.

---

795) La rissa si consuma:

A con la lesione personale di almeno uno dei corrissanti.
B con la morte di almeno uno dei corrissanti.
C con la semplice partecipazione alla rissa.

---

796) Ai sensi dell'art. 114 del codice penale, nel caso di concorso di persone nel reato, il giudice può diminuire la pena?

A Si, ma solo per colui che è stato indotto alla partecipazione per timore reverentialis.
B Si, a suo insindacabile giudizio.
C Si, qualora ritenga che l'opera prestata da taluna delle persone che sono concorse nel reato abbia avuto minima importanza nella preparazione o esecuzione del reato.

---

797) Non si applica il principio del "favor rei" (art. 2, comma 4, c.p.):

A Se si tratta di leggi temporanee, ma non nel caso di leggi eccezionali.
B Se si tratta di leggi eccezionali o temporanee.
C Esclusivamente se si tratta di leggi eccezionali.

---

798) Tizio che, sorpreso dalle forze dell'ordine nell'atto di rubare, lascia la refurtiva e scappa, risponde di:

A recesso attivo.
B desistenza.
C furto tentato.

---

799) L'art. 650 c.p. è comunemente considerato:

A un delitto.
B una norma penale in bianco.
C una norma perfetta.

---

800) Per i minori degli anni 14, il diritto di querela è esercitato:

A dal minore stesso o dal genitore o dal tutore.
B dal genitore o dal tutore.
C dal genitore, dal tutore o, solo riguardo a reati in materia sessuale, dal minore stesso.

---

801) In riferimento ai delitti colposi, quale delle seguenti affermazioni è corretta?

A Sia la condotta che l'evento non sono mai attribuibili al volere dell'agente.
B L'evento non è mai attribuibile al volere del soggetto.
C L'evento è sempre più grave di quello voluto dall'agente.

---

802) Perché si abbia tentativo (art. 56 c.p.), in presenza di tutti gli altri elementi essenziali del reato, occorre:

A che non si sia compiuta l'azione o non si sia verificato l'evento.
B che non si sia verificato un danno.
C che non vi sia una causa di giustificazione.

---

803) Non è punibile chi ha commesso il fatto per legittima difesa:

A sempre che la difesa sia attuata con gli stessi strumenti dell'offesa.
B sempre che la difesa sia proporzionata all'offesa.
C sempre che la difesa abbia natura simile all'offesa.

---

804) Il consenso dell'avente diritto di cui all'art. 50 c.p. deve avere ad oggetto:

A anche un diritto altrui purchè si tratti di diritto disponibile.
B un diritto disponibile.
C solo un diritto patrimoniale.

---

805) Nel concorso di più persone nel reato, la rinuncia al diritto di querela da parte di colui al quale ne spetta l'esercizio, si estende a tutti i concorrenti?

A Sì.
B Sì, purché si tratti di rinuncia formulata per iscritto.
C No.

---

806) Tizio, che minaccia Caio, proprietario di un bar, di distruggere il locale se non gli verserà regolarmente una parte dei guadagni, risponderà di:

A il fatto non costituisce reato.
B tentata estorsione.
C minaccia.

---

807) Il delitto di violenza a Pubblico Ufficiale è compreso nei delitti:

A contro l'ordine pubblico.
B contro la persona.
C dei privati contro la Pubblica Amministrazione.

---

808) L'esercizio di un diritto:

A esclude l'imputabilità.
B non esclude la punibilità, ma la pena è ridotta.
C esclude la punibilità.

---

809) Se l'evento del delitto, non voluto dall'agente, si verifica a causa di negligenza:

A il delitto è colposo.
B il delitto è punito a titolo di responsabilità oggettiva.
C il delitto è doloso.

---

810) La forma tipica della volontà colpevole è:

A La colpa.
B Il dolo.
C La preterintenzione.

---

811) Col termine «colpevolezza» si indica in dottrina e giurisprudenza, l'elemento soggettivo del reato. Essa:

A nella struttura del reato non va ritenuta elemento essenziale
B racchiude in sé il dolo, la preterintenzione e la colpa.
C in quanto costituente qualità personale del reo deve essere tenuta distinta dalla pericolosità che è elemento essenziale del reato.

---

812) In materia di leggi penali che prevedano nuove incriminazioni il primo comma dell'art. 2 c.p. sancisce il principio della:

A irretroattività della legge penale.
B retroattività della legge penale.
C applicazione analogica della legge penale.

---

813) Sono destinatari dell'obbligo di impedire l'evento:

A nessuno.
B tutti.
C chi riveste una particolare posizione di garanzia.

814) Se la pena stabilita dalla legge per il delitto consumato è l'ergastolo, il colpevole di delitto tentato è punito:

A con la reclusione fino a trenta anni.
B con la reclusione non inferiore a cinque anni.
C con la reclusione non inferiore a dodici anni.

815) La norma che prevede un fatto come reato:

A deve essere contenuta nella legge.
B deve essere contenuta in una delibera della Giunta regionale o in una legge regionale.
C deve essere contenuta in un regolamento.

816) L'ubriachezza preordinata al fine di commettere un reato o di prepararsi una scusa comporta:

A un aumento di pena.
B una diminuzione di pena.
C una diminuzione dell'imputabilità.

817) Se Tizio rompe il finestrino dell'autovettura di Caio e ne sottrae lo stereo risponderà di:

A furto aggravato dall'uso della violenza sulle cose.
B concorso materiale tra danneggiamento e furto.
C furto con destrezza.

818) Se per il delitto commesso è prevista la pena dell'ergastolo, la durata minima del ricovero in ospedale psichiatrico è:

A di cinque anni.
B di venti anni.
C di dieci anni.

819) Il nostro diritto positivo distingue le pene in principali ed accessorie. Dispone l'art. 17 del c.p. che le pene principali stabilite per i delitti sono:

A la pena di morte, l'ergastolo, la reclusione e la multa.
B la pena di morte, l'ergastolo, la reclusione e l'ammenda.
C la pena di morte, l'ergastolo, la reclusione, l'arresto e la multa.

820) In quale caso il sordomuto non è imputabile?

A Sempre; lo stato di sordomutismo esclude sempre l'imputabilità.
B Se nel momento in cui ha commesso il reato aveva una capacità di intendere e di volere grandemente scemata.
C Se nel momento in cui ha commesso il reato non aveva, per causa della sua infermità, la capacità di intendere o di volere.

821) L'errore sul fatto che costituisce reato:

A esclude le pene accessorie.
B non esclude la punibilità per un reato diverso.
C esclude sempre la punibilità.

822) La falsa testimonianza è un reato:

A può commetterlo chiunque.
B può commetterlo solo il pubblico ufficiale.
C proprio.

823) Il diritto di querela può esercitarsi decorsi tre mesi dal giorno della notizia del fatto che costituisce il reato?

A No, in nessun caso.
B Sì, purché la notizia del fatto sia pervenuta ad oltre un anno dall'evento.
C No, salvo che la legge disponga altrimenti.

824) Quando dall'azione od omissione deriva un evento dannoso o pericoloso più grave di quello voluto dall'agente il delitto si definisce:

A contro l'intenzione.
B preterintenzionale.
C colposo.

825) Allorquando una persona, usando violenza sulla cosa, se ne impossessa, risponde:

A di ricettazione.
B di furto con strappo.
C di rapina.

826) Il delitto di resistenza a Pubblico Ufficiale è ipotizzabile anche nei confronti dell'incaricato di pubblico servizio?

A Si, ma la pena in questo caso è ridotta di 1/3.
B Si.
C No.

827) La condotta criminosa consiste:

A sempre in un'azione.
B in un'azione od un'omissione.
C in un'azione od un'omissione, ma solo nei reati di evento.

828) Non è punibile chi pone in pericolo un diritto:

A con la successiva ratifica della persona che può validamente disporne.
B senza l'esplicita opposizione della persona che può validamente disporne.
C con il consenso della persona che può validamente disporne.

829) L'ufficiale di Polizia Giudiziaria che, fuori dall'esercizio delle sue funzioni e non a causa di queste, ha notizia di un reato, ha l'obbligo di riferirne all'Autorità Giudiziaria?

A No non è un obbligo giuridico ma un dovere morale.
B Si, se si tratta di reato perseguibile d'ufficio; in caso di omissione commette un delitto punibile con la reclusione.
C Si, sia se si tratta di reato perseguibile a querela che d'ufficio; in caso di omissione commette un delitto punibile con la reclusione.

830) Nel codice penale (art.1) il principio di legalità è riferito:

A ai delitti.
B alle contravvenzioni.
C ai reati.

831) Un bambino di 12 anni, per una bravata, incendia un bosco, provoca un grave pericolo per la pubblica incolumità, il bambino è imputabile?

A No.
B Si, se al momento del processo ha compiuto i sedici anni.
C Si, se comunque il bambino era in grado di capire il disvalore dell'azione che stava compiendo.

832) L'estradizione è disciplinata:

A Dal regolamento penitenziario.
B Dalla legge penale italiana, dalle convenzioni e dagli usi internazionali.
C Dalle disposizioni di attuazione del codice di procedura penale.

833) La pubblicazione della sentenza segue:

A Alla condanna per delitto contro la fede pubblica.
B Alla condanna all'ergastolo.
C Alla condanna per delitto doloso.

834) A norma del Codice Penale, l'uso legittimo delle armi è riservato:

A al Pubblico Ufficiale.
B esclusivamente all'agente ed all'ufficiale di Polizia Giudiziaria e di Pubblica Sicurezza.
C esclusivamente all'agente ed all'ufficiale di Polizia Giudiziaria.

835) Chi nasconde un prossimo congiunto evaso da uno stabilimento nel quale si trovava sottoposto a misura di sicurezza detentiva, commette il delitto di procurata inosservanza di misura di sicurezze detentive?

A Sì, ma la pena è diminuita.
B Sì, ma non è punibile.
C Sì, e la pena è quella edittale.

836) In ordine al momento volitivo del dolo è corretto affermare che la volontà sussiste anche quando il soggetto pur non agendo per la realizzazione dell'evento ulteriore, o anche sperando che non si verifichi, ne accetta il verificarsi: si parla in tal caso di:

A dolo eventuale.
B dolo antecedente.
C dolo intenzionale.

837) È imputabile colui che si è messo in stato d'incapacità d'intendere o di volere al fine di commettere il reato?

A Si, è sempre imputabile.
B Si, ma solo se ha commesso un delitto e non anche una contravvenzione.
C Si, ma solo se è maggiorenne.

838) Sono sempre inflitte dal giudice con sentenza di condanna:

A Le pene detentive per i delitti.
B Solo le pene principali per le contravvenzioni.
C Tutte le pene accessorie.

839) Il parente che, per pietà, uccide un malato terminale col consenso di lui:

A risponde di omicidio con l'attenuante dei motivi di particolare valore morale o sociale.
B realizza un omicidio ma può essere scusato.
C risponde di omicidio del consenziente.

840) Agli effetti della legge penale sono considerati "cittadini italiani" coloro che per elezione appartengono ai luoghi soggetti alla sovranità dello Stato italiano?

A Sì.
B No.
C Sì, solo se hanno commesso contravvenzioni.

841) La recidiva riflette:

A la condizione personale di chi, dopo essere stato condannato con sentenza passata in giudicato per un delitto non colposo, ne commette un altro della stessa indole nei tre anni successivi.
B la condizione personale di chi è stato condannato con sentenza passata in giudicato per un delitto non colposo la cui pena è almeno 3 anni.
C la condizione personale di chi, dopo essere stato condannato con sentenza passata in giudicato per un delitto non colposo, ne commette un altro.

842) Gli stati emotivi e passionali:

A escludono il dolo.
B escludono la causalità interrompendo il processo volitivo.
C non escludono l'imputabilità.

843) I reati in base alla diversa specie delle pene per essi stabilite si distinguono in:

A In delitti e contravvenzioni.
B In reati comuni, reati politici e reati che creano allarme sociale.
C In reati puniti con pena detentiva e reati puniti con pena pecuniaria.

844) Il rappresentante del minore che ha compiuto gli anni 14 può rimettere la querela proposta da lui o dal rappresentato?

A Si, ma la remissione non ha effetto se il minore manifesta volontà contraria.
B Si, e la remissione ha effetto anche se il minore manifesta volontà contraria.
C No, tranne le eccezioni previste dalla legge.

845) Se l'agente ritiene, per errore determinato da colpa, che esistano circostanze di esclusione della pena:

A la punibilità non è esclusa, se il fatto è preveduto dalla legge come delitto colposo.
B la punibilità è sempre esclusa.
C la punibilità non è esclusa, ma la pena è ridotta di un terzo.

846) Un'importante sentenza della Corte costituzionale (364/1988)ha stabilito che l'ignoranza della legge penale:

A scusa solo se inevitabile.
B scusa solo se provocata da altri.
C scusa solo se imprevedibile.

847) Il regime di semilibertà è un mezzo di trattamento:

A sanitario.
B penitenziario.
C sociale.

848) Chi favorisce nel sottrarsi alle ricerche dell'Autorità un prossimo congiunto evaso da uno stabilimento nel quale si trovava sottoposto a misura di sicurezza detentiva, commette il delitto di procurata inosservanza di misure di sicurezza detentive?

A Sì, ma non è punibile.
B Sì, ma la pena è diminuita.
C No, perché il fatto non costituisce reato per carenza dell'elemento soggettivo.

---

849) Nell'ambito dell'art. 56 c.p. il pentimento operoso:

A comporta la totale impunità del reo.
B può essere involontario ed interpretabile da comportamenti concludenti.
C esige sempre una nuova attività da parte del reo.

---

850) La sospensione condizionale della pena può estinguere il reato?

A Sì, ma solo per le contravvenzioni.
B No, la sospensione condizionale della pena, estingue solo la pena.
C Sì, se il periodo di prova si conclude positivamente.

---

851) L'evento in senso giuridico è presente:

A solo nei reati omissivi.
B solo nei reati omissivi propri.
C in tutti i reati.

---

852) Con quali delle seguenti modalità deve essere effettuata la pubblicazione di una sentenza penale?

A La pubblicazione deve essere fatta in ogni caso per intero.
B La pubblicazione deve essere fatta per estratto, salvo che il giudice disponga la pubblicazione per intero.
C La pubblicazione deve essere fatta in ogni caso per estratto.

---

853) La norma penale è composta da:

A 4 elementi costitutivi.
B 2 elementi costitutivi.
C 3 elementi costitutivi.

---

854) Ai sensi dell'art. 90 del codice penale, gli stati emotivi o passionali escludono l'imputabilità?

A No, anzi comportano un aumento di pena fino al doppio.
B No, non escludono né diminuiscono l'imputabilità.
C No, diminuiscono l'imputabilità .

---

855) Quale tra le seguenti affermazioni, relative al concetto di colpevolezza nel diritto penale, non è corretta:

A l'azione, per imputare il fatto al suo autore, deve potersi considerare come azione o fatto proprio dell'agente e non il prodotto delle forze cieche della natura.
B per l'imputazione del fatto personale al suo autore non devono ricorrere cause di esclusione della colpevolezza che determinino una divergenza tra voluto e realizzato; tale divergenza non può dipendere da una errata rappresentazione della realtà.
C per l'imputazione del fatto personale al suo autore, il soggetto deve essere in grado di agire in base ad impulsi consapevoli e quindi non essere affetto da malattie o deviazioni della personalità che alterino il processo motivazionale coartando la sua volontà.

---

856) Il pubblico ufficiale, che, abusando di un foglio firmato in bianco, del quale abbia il possesso per ragione del suo ufficio e per un titolo che importa l'obbligo o la facoltà di riempirlo, vi scrive o vi fa scrivere un atto pubblico diverso da quello a cui era obbligato o autorizzato, commette il reato di:

A falsità materiale in certificati o autorizzazioni amministrative.
B falsità in foglio firmato in bianco. Atto privato.
C falsità in foglio firmato in bianco. Atto pubblico.

---

857) L'ignoranza della legge penale vale a scusare la commissione delle contravvenzioni:

A se l'autore è straniero e non abbia avuto consapevolezza.
B se l'autore è analfabeta.
C se è inevitabile.

---

858) Quali dei seguenti reati rientrano nella categoria dei delitti?

A I reati per i quali la legge commina le pene dell'ergastolo, della reclusione e dell'arresto.
B I reati per i quali la legge commina le pene dell'ergastolo, della reclusione e della multa.
C I reati per i quali la legge commina le pene dell'arresto e dell'ammenda.

---

859) Se l'evento del delitto, non voluto dall'agente, si verifica per inosservanza di regolamenti:

A il delitto è preterintenzionale.
B il delitto è colposo.
C il delitto non sussiste.

860) Commette il reato di falsità ideologica in atto pubblico il pubblico ufficiale che, ricevendo un atto, altera dichiarazioni da lui ricevute:

A se agisce nell'esercizio delle sue funzioni.
B se agisce per trarne profitto.
C se agisce per recare ad altri un danno.

861) Sono misure di sicurezza patrimoniali:

A la cauzione di buona condotta e la confisca oltre quelle stabilite da particolari disposizioni di legge.
B esclusivamente la cauzione di buona condotta e la confisca.
C la cauzione di buona condotta, la confisca e l'ammenda.

862) Nessuno può essere punito per un fatto previsto dalla legge come reato (art. 40 c.p.):

A se l'evento dannoso o pericoloso, da cui dipende l'esistenza del reato, deriva soltanto da negligenza.
B se l'evento dannoso o pericoloso, da cui dipende l'esistenza del reato, non è conseguenza della sua azione od omissione.
C se l'evento dannoso o pericoloso, da cui dipende l'esistenza del reato, non ha arrecato danni alle persone o a cose.

863) Quando si consuma un furto commesso nel supermercato?

A Quando il cliente sosta davanti alla cassa con la merce occultata sulla propria persona.
B Solo nel momento del passaggio per la cassa con la merce occultata.
C Appena il cliente preleva la merce dai banchi di vendita e la occulta.

864) La condanna alla reclusione, per il delitto di corruzione per un atto contrario ai doveri di ufficio per un tempo non inferiore a tre anni, importa l'estinzione del rapporto di lavoro o di impiego nei confronti del dipendente di amministrazioni od enti pubblici:

A anche economici.
B ovvero di enti a prevalente partecipazione pubblica.
C territoriali.

865) Chi ha commesso il reato per caso fortuito (art. 45 c.p.):

A non è punibile.
B non è imputabile.
C è punibile, ma ha la pena ridotta.

866) La privazione definitiva di ogni incarico non obbligatorio di pubblico servizio e della qualità ad esso inerente di incaricato di pubblico servizio deriva:

A dalla pena accessoria dell'interdizione legale.
B dalla pena accessoria dell'interdizione perpetua dai pubblici uffici.
C dalla pena accessoria dell'interdizione da una professione o da un'arte.

867) Il medico che omette di curare il paziente lasciandolo morire:

A risponde di abbandono di persona incapace.
B risponde soltanto di omissione di soccorso.
C risponde di omicidio per omissione.

868) È compreso tra i delitti propri dei Pubblici Ufficiali contro la pubblica amministrazione:

A corruzione in atti giudiziari.
B millantato credito.
C subornazione.

869) Il fatto che secondo una legge posteriore al tempo della sua commissione non costituisce più reato, è punibile?

A Sì, se si tratta di delitto.
B No, salvo il caso in cui sia previsto da leggi eccezionali o temporanee.
C No, in nessun caso.

870) Ai sensi della legge 689/1981, nelle violazioni cui è applicabile una sanzione amministrativa, ciascuno è responsabile:

A della propria azione od omissione, cosciente e volontaria, compiuta esclusivamente con colpa grave o cosciente.
B della propria azione od omissione, cosciente e volontaria, sia essa dolosa o colposa.
C della propria azione od omissione, cosciente e volontaria, compiuta esclusivamente con colpa.

871) Quale delle seguenti affermazioni è corretta in riferimento al configurarsi del tentativo nelle varie categorie di reati?

A Il tentativo è ammissibile nel delitto preterintenzionale, per la circostanza che l'evento ulteriore deve essere non voluto.
B Deve ritenersi ammissibile il tentativo in relazione ai delitti di attentato.
C Il tentativo è configurabile nei delitti permanenti allorché la situazione offensiva non abbia raggiunto il minimum necessario per l'esistenza del reato.

872) Il Pubblico Ufficiale che procede ad un arresto abusando dei poteri inerenti alle sue funzioni risponde del delitto di:

A arresto illegale.
B sequestro di persona aggravato.
C indebita limitazione della libertà personale.

873) Tizio dopo aver danneggiato l'automobile di Caio per consumare un furto, vi rinuncia; egli risponderà di:

A furto aggravato dalla violenza sulle cose.
B danneggiamento.
C tentato furto in concorso con il delitto di danneggiamento.

874) Se il giudice ritiene che un minore degli anni diciotto sia capace di intendere e di volere:

A la pena è diminuita.
B la pena è quella edittale.
C è comunque esclusa la punibilità perché minore.

875) Cosa prevede la legge n. 689/1981 per l'ipotesi in cui più persone concorrano in una violazione amministrativa?

A La sanzione è ripartita tra tutte le persone che hanno concorso nella violazione.
B Ciascuna di esse soggiace alla sanzione per questa disposta, salvo che sia diversamente stabilito dalla legge.
C Ciascuna di esse soggiace alla sanzione per questa disposta, maggiorata di un terzo.

876) Il soggetto A, emotivamente alterato, provoca lesioni ad un soggetto B. Il soggetto A è imputabile?

A Si, e la pena è aumentata.
B Si, ma la pena è diminuita.
C Si.

877) Se la querela è proposta da più persone, il reato:

A si estingue per la remissione anche di un solo querelante, se gli altri querelanti siano stati integralmente risarciti del danno.
B si estingue se interviene la remissione anche di un solo querelante.
C non si estingue se non interviene la remissione di tutti i querelanti.

878) Il reato di istigazione alla corruzione finalizzato al compimento di un atto d'ufficio si concretizza quando l'offerta o la promessa di denaro non dovuta è formulata nei confronti:

A del Pubblico Ufficiale e dell'incaricato di un pubblico servizio, anche se questi non riveste la qualità di pubblico impiegato.
B del Pubblico Ufficiale e dell'incaricato di un pubblico servizio che rivesta la qualità di pubblico impiegato.
C del solo Pubblico Ufficiale.

879) In materia penale, le contravvenzioni ammettono il tentativo?

A No, in nessun caso.
B Sì, tranne i casi espressamente previsti dalla legge.
C No, tranne i casi espressamente previsti dalla legge.

880) Il soggetto passivo del reato è:

A il titolare dell'interesse protetto dalla norma penale.
B colui il quale non prende parte alla condotta.
C il danneggiato dal reato.

881) Quando l'evento dannoso è impossibile per l'inidoneità dell'azione:

A non è esclusa la punibilità.
B é esclusa l'imputabilità.
C é esclusa la punibilità.

882) Le pene accessorie:

A conseguono di diritto alla condanna.
B non sono obbligatorie tranne casi specifici previsti dalla legge.
C sono a discrezione del giudice.

---

883) Se l'agente ritiene per errore che esistano circostanze aggravanti:

A queste sono valutate contro di lui.
B queste sono valutate contro di lui, quando si tratti di circostanze soggettive.
C queste non sono valutate contro di lui.

---

884) La circostanza del reato comporta:

A soltanto una modificazione qualitativa della pena edittale.
B soltanto una modificazione quantitativa della pena edittale.
C una modificazione quantitativa o qualitativa della pena edittale.

---

885) Nelle contravvenzioni ciascuno risponde della propria azione od omissione:

A se cosciente e volontaria, sia essa dolosa o colposa.
B anche se non cosciente e volontaria.
C se cosciente e volontaria, ma soltanto se dolosa.

---

886) Tra i seguenti reati qual è di pura condotta?

A La truffa.
B Le lesioni personali.
C Il rifiuto di atti di ufficio.

---

887) Non è punibile chi lede o mette in pericolo un diritto col consenso della persona che può validamente disporne, statuisce l'art.50 del codice penale. Pertanto oggetto del consenso deve essere:

A un diritto disponibile o indisponibile.
B un diritto soggettivo.
C un diritto disponibile.

---

888) Secondo il principio di legalità, fonte del diritto penale possono essere:

A atti normativi primari.
B atti amministrativi.
C atti normativi secondari.

---

889) Il fenomeno in base al quale il trascorrere di un periodo di tempo comporta l'estinzione del reato viene denominato:

A perenzione.
B decorrenza.
C prescrizione.

---

890) Se Sempronio, allo scopo di ucciderlo, spara mortalmente Tizio, agisce:

A con colpa specifica.
B con dolo.
C oltre l'intenzione.

---

891) Nel delitto preterintenzionale l'evento più grave dev'essere dall'agente:

A causato.
B voluto e prospettato.
C voluto e causato.

---

892) Agisce in stato di necessità chi commette il fatto per salvare altri da un pericolo attuale di un danno grave alla persona:

A da lui non volontariamente causato, né altrimenti evitabile.
B solo se causato da terzi.
C solo se prevedibile.

---

893) Per "caso fortuito" come causa di esclusione della coscienza e volontà, si intende:

A Un fatto imprevedibile del tutto estraneo alla volontà del soggetto.
B Un fatto colposo senza la previsione dell'evento.
C La violenza esercitata da altri ed alla quale il soggetto non poteva resistere o sottrarsi.

---

894) I delitti contro l'ordine pubblico:

A comprendono tutti quei fatti costituenti reati di falso che turbino l'ordine pubblico.
B comprendono tutti quei fatti che possono turbare il senso sociale di sicurezza.
C comprendono tutti quei fatti destinati a ledere o a mettere in pericolo la vita e l'integrità fisica di un numero indeterminato di persone.

---

895) Le pene previste per i delitti sono:

A ergastolo, reclusione ed ammenda.
B reclusione, arresto ed ammenda.
C ergastolo, reclusione e multa.

---

896) L'appropriazione indebita è un reato:

A a dolo specifico.
B a dolo generico.
C proprio.

---

897) Nell'ipotesi di reato impossibile il giudice può ordinare che l'imputato prosciolto sia sottoposto a:

A una misura di prevenzione.
B una misura di sicurezza.
C non ha alcun potere.

---

898) Il Pubblico Ufficiale il quale omette di denunciare all'Autorità Giudiziaria il reato di ingiuria, di cui ha avuto notizia nell'esercizio delle sue funzioni ed in relazione al quale non é stata proposta querela, commette il reato di omessa denuncia di reato da parte del pubblico ufficiale?

A Sì, ma solo se il pubblico ufficiale è ufficiale o agente di polizia giudiziaria.
B No, perché il reato di ingiuria è punibile a querela della persona offesa.
C Sì, ma solo se il pubblico ufficiale ha agito al fine di procurare a sè o ad altri un ingiusto vantaggio patrimoniale.

---

899) È imputabile l'autore di un reato che manchi parzialmente dell'udito e della parola?

A No, poiché tale menomazione rende la persona comunque incapace di intendere e di volere.
B La condizione d'imputabilità è sempre valutata discrezionalmente dal Giudice.
C Si, se, al momento del fatto, la capacità di intendere o di volere era grandemente scemata, ma non esclusa, a causa dell'infermità.

---

900) Il dolo eventuale è caratterizzato dall'accettazione:

A delle possibili conseguenze causate da altri.
B delle possibili conseguenze della condotta concreta.
C delle possibili conseguenze della condotta astratta.

---

901) Quando la legge considera come elementi costitutivi o circostanze aggravanti di un solo reato fatti che costituirebbero, per se stessi reato, si ha:

A reato complesso.
B reato continuato.
C reato permanente.

---

902) Il delitto è preterintenzionale quando:

A l'evento si verifica per un errore inabilità.
B l'evento è comunque prevedibile e voluto.
C dall'azione o dall'omissione deriva un evento dannoso più grave di quello voluto dall'agente.

---

903) Il genitore può rimettere la querela proposta dal minore:

A salvo che il minore abbia compiuto quattordici anni.
B ma la remissione non ha effetto se il minore ultraquattordicenne manifesti volontà contraria.
C ma se il minore ha compiuto i quattordici anni la remissione non ha effetto senza l'approvazione di questo.

---

904) Nei casi di reati commessi all'estero, di delitti politici commessi all'estero, di delitti comuni dello straniero all'estero, lo straniero, già giudicato all'estero, è giudicato nuovamente nello Stato:

A a richiesta del Presidente della Repubblica.
B a richiesta del Presidente del Consiglio dei ministri.
C a richiesta del Ministro della giustizia.

---

905) Con l'avviso orale il Questore, quando ricorrono le condizioni previste dalla legge può imporre alle persone che risultino definitivamente condannate per delitti non colposi il divieto di possedere o utilizzare programmi informatici ed altri strumenti di cifratura o crittazione di conversazioni e messaggi?

A Si.
B La legge nulla dispone in merito, si intende quindi che il Questore può imporre alle suddette persone qualsiasi misura sia di prevenzione che di sicurezza, anche di natura patrimoniale.
C No, può solo imporre il divieto di possedere o utilizzare, in tutto o in parte, qualsiasi apparato di comunicazione radiotrasmittente.

---

906) I delitti contro l'incolumità pubblica:

A comprendono tutti quei fatti costituenti reati di falso allorquando vi siano più persone offese.
B comprendono tutti quei fatti che possono ledere o mettere in pericolo l'armonica e pacifica coesistenza dei cittadini, turbando il regolare andamento della vita sociale.
C puniscono l'azione diretta a ledere o mettere in pericolo la vita di un numero indeterminato di persone.

---

907) Il tentativo si applica:

A ai delitti.
B alle contravvenzioni.
C sia ai delitti che alle contravvenzioni.

---

908) Può il giudice discrezionalmente aggiungere la pena della multa non prevista dalla legge alla pena della reclusione?

A Sì, ma solo per i delitti determinati da motivi di lucro.
B No, in nessun caso.
C Sì, se la pena della reclusione applicata supera i due anni.

---

909) Riveste la qualifica di pubblico ufficiale (art. 357 c.p.):

A I privati che esercitano professioni forensi o sanitarie.
B Chi presta, a qualunque titolo, un pubblico servizio.
C Chi esercita una funzione legislativa, giudiziaria, amministrativa.

---

910) Una persona che commette una rapina con una pistola giocattolo sprovvista di tappo rosso risponderà di:

A tentata rapina.
B rapina semplice.
C rapina aggravata.

---

911) L'interdizione da una professione o da un'arte priva il condannato:

A della capacità di esercitare, per dieci anni, una professione, arte, industria, o un commercio o mestiere, per cui è richiesto uno speciale permesso o una speciale abilitazione, autorizzazione o licenza dell'Autorità.
B della capacità di esercitare, per quindici anni, una professione, arte, industria, o un commercio o mestiere, per cui è richiesto uno speciale permesso o una speciale abilitazione, autorizzazione o licenza dell'Autorità.
C della capacità di esercitare, durante l'interdizione, una professione, arte, industria, o un commercio o mestiere, per cui è richiesto uno speciale permesso o una speciale abilitazione, autorizzazione o licenza dell'Autorità.

---

912) Le pene pecuniarie fisse si applicano:

A Nei casi indicati dalla legge.
B Nei reati determinati da fini di lucro e nei reati contro il patrimonio.
C Nei reati contro l'economia pubblica.

---

913) Costituisce delitto tentato pedinare la vittima col proposito di ucciderla?

A No.
B Sì.
C Dipende quando la vittima percepisce il pedinamento.

---

914) Ai sensi dell'art. 112 del codice penale, relativo alle circostanze aggravanti nel concorso di persone nel reato, la pena è aumentata:

A solo per chi ha organizzato la cooperazione nel reato.
B solo per chi ha determinato a commettere il reato un minore degli anni diciotto.
C per chi, fuori del caso previsto dall'art. 111 del codice penale, ha determinato a commettere il reato un minore degli anni diciotto o una persona in stato di infermità o di deficienza psichica.

---

915) Nel delitto di estorsione l'atto di disposizione patrimoniale può incidere:

A indifferentemente su beni mobili o immobili o diritti di qualsiasi natura.
B solo su beni immobili e non sui beni mobili.
C solo su beni mobili.

916) Se qualcuno istiga una persona a commettere un reato e l'istigazione è accolta, ma il reato non viene commesso:

A sono entrambi punibili per il tentativo.
B nessuno di essi è punibile per il solo fatto dell'istigazione.
C sono entrambi punibili per l'accordo criminoso anche se il reato non sia stato commesso.

917) Si definiscono di colpa incosciente quei casi in cui:

A il soggetto non si rende conto di poter ledere con la sua azione interessi altrui.
B il soggetto accetta il rischio che l'evento antigiuridico, conseguenza della sua azione od omissione, possa verificarsi.
C il soggetto non accetta il rischio del verificarsi dell'evento di reato, e quindi non lo vuole, in quanto è sicuro di riuscire ad evitarlo.

918) Una circostanza aggravante ad effetto comune prevede un aumento di pena:

A pari ad un mezzo.
B pari ad un terzo.
C fino ad un terzo.

919) Cosa s'intende per reati plurisoggettivi a concorso necessario?

A Reati rispetto ai quali è sempre escluso il concorso di persone.
B Reati che debbono essere commessi necessariamente da una pluralità di soggetti attivi.
C Reati in cui sono necessariamente presenti più circostanze aggravanti o attenuanti riferite solo a taluni dei concorrenti.

920) L'ordinamento penale prevede ipotesi in cui ad una persona può essere applicata una pena per un fatto previsto dalla legge come reato, se al momento in cui lo ha commesso, non era imputabile?

A No, senza eccezioni.
B No, tranne se ha commesso un reato continuato.
C Si, ma solo se ha commesso il fatto con dolo.

921) L'errore sul fatto che costituisce un determinato reato:

A esclude la punibilità per un reato diverso.
B esclude la punibilità anche per i reati diversi legati dal vincolo della continuazione con quello su cui è caduto l'errore.
C non esclude la punibilità per un reato diverso.

922) La sospensione dall'esercizio di una professione o di un'arte è:

A pena principale per le contravvenzioni.
B pena accessoria per le contravvenzioni.
C pena principale per i soli delitti contro l'economia pubblica, l'industria e il commercio.

923) La misura del ricovero in riformatorio giudiziario:

A è sostituita dal giudice con la libertà vigilata, quando il minore abbia compiuto il diciottesimo anno di età.
B è una misura (art. 223 c.p.) che può essere applicata soltanto ai minori di anni 16 e non può avere durata inferiore ad un anno e superiore a tre.
C può essere sostituita dal giudice con la libertà vigilata, solo quando il minore abbia compiuto il sedicesimo anno di età.

924) Un reato che può essere commesso solo da una pluralità di persone si definisce:

A Complesso.
B Associativo.
C Plurisoggettivo.

925) L'ergastolo:

A è una pena principale per i delitti.
B è pena accessoria per i delitti.
C è pena principale per le contravvenzioni.

926) L'interdizione legale è:

A pena accessoria per i delitti.
B pena accessoria per le contravvenzioni.
C pena principale per i delitti.

927) In materia penale, la colpa specifica rappresenta:

A la colpa derivante dall'inosservanza di regole cautelari scritte e non scritte.
B la colpa derivante dall'inosservanza di leggi, destinate alla generalità dei consociati.
C la colpa derivante dall'inosservanza di leggi e regolamenti destinati esclusivamente ad alcune categorie professionali.

---

928) La querela presentata nei confronti di uno solo dei concorrenti nella commissione del reato si estende anche agli altri?

A Sì.
B No.
C Sì, se è stata presentata nei confronti di chi ha determinato gli altri a commettere il reato.

---

929) Ai sensi dell'art. 2, comma 5, c.p., in quali casi si applicano, altresì, le disposizioni riguardanti la successione delle leggi penali?

A Esclusivamente nel caso di un decreto-legge convertito in legge con emendamenti.
B Nei casi di decadenza e di mancata ratifica di un decreto-legge e nel caso di un decreto-legge convertito in legge con emendamenti.
C Esclusivamente nei casi di decadenza e di mancata ratifica di un decretolegge.

---

930) A norma di quanto dispone la legislazione vigente la persona alla quale è stato fatto l'avviso orale del Questore può chiederne la revoca?

A No, la misura non può essere revocata.
B Si, può chiederne la revoca solo al Prefetto.
C Si, può chiederne la revoca in qualsiasi momento.

---

931) Il reo è:

A la persona fisica autrice del reato.
B colui che ha subito un danno penalmente risarcibile.
C la persona fisica o giuridica autrice del reato.

---

932) La causa di giustificazione dello stato di necessità:

A non si applica a chi ha un particolare dovere giuridico di esporsi al pericolo.
B non si applica ai pubblici ufficiali, qualunque sia la loro posizione.
C non si applica a tutti gli incaricati di un pubblico servizio.

---

933) Tizio tenta senza successo di togliersi la vita. Tizio risponde di:

A tentato suicidio.
B istigazione al suicidio.
C nessun reato.

---

934) Nell'ipotesi prevista dall'art. 51, co. 4, c.p., la causa di giustificazione può essere invocata:

A in presenza di ogni genere di ordine.
B solo nei casi in cui l'ordine ha per oggetto un comportamento illecito.
C solo nei casi in cui l'ordine non ha per oggetto un comportamento manifestamente criminoso.

---

935) Il delitto di peculato mediante profitto dell'errore altrui:

A può essere commesso solo dal pubblico ufficiale o dall'incaricato di un pubblico servizio.
B non può essere punito con la reclusione.
C può essere commesso da un privato o da un pubblico ufficiale.

---

936) L'abitualità criminosa è la condizione personale di chi, con la sua persistente attività criminosa, dimostra di aver acquisito una notevole attitudine a commettere reati. L'abitualità presunta di cui all'art. 102 del c.p. si ha:

A quando il reo riporta un'altra condanna per un delitto non colposo, della stessa indole e commesso entro i cinque successivi all'ultimo dei delitti precedenti.
B quando il reo è stato condannato alla reclusione in misura superiore complessivamente a cinque anni per tre delitti non colposi, della stessa indole, commessi non contestualmente entro dieci anni.
C quando il reo è stato condannato alla reclusione in misura superiore complessivamente a quindici anni per tre delitti colposi della stessa indole, commessi non contestualmente entro cinque anni.

---

937) Per l'oltraggio ad un pubblico impiegato e per l'oltraggio ad un Pubblico Ufficiale è prevista la stessa pena?

A No, la pena per l'oltraggio ad un pubblico impiegato è diminuita di un terzo.
B I reati di oltraggio a pubblico impiegato ed a Pubblico Ufficiale sono stati abrogati.
C Si.

---

938) Tizio sul luogo e nell'immediatezza di un reato a cui è estraneo, interrogato dalla P.G. dichiara il falso; egli risponde di:

A favoreggiamento personale.
B false informazioni al P.M.
C falsa testimonianza.

---

939) Indicare quale tra le seguenti pene consegue di diritto alla condanna, come effetti della stessa:

A reclusione.
B arresto.
C pena accessoria.

---

940) In che modo risponderà il soggetto C che con la sua auto, non volendo l'evento e neppure ammettendone la possibilità, abbia investito un pedone passando con il semaforo rosso?

A Di colpa generica.
B Di dolo specifico.
C Di colpa specifica.

---

941) Il principio di legalità copre anche le misure di sicurezza:

A solo le personali.
B no.
C sì.

---

942) Le prescrizioni imposte con la libertà vigilata:

A non necessitano di accettazione da parte dell'interessato, che ne deve solo prendere atto.
B possono essere modificate dal magistrato di sorveglianza se in senso migliorativo ovvero dal tribunale di sorveglianza se in senso peggiorativo.
C sono determinate dal direttore dell'Istituto penitenziario.

---

943) Un reato commesso nel territorio dello Stato è punito secondo la legge italiana:

A se commesso da un cittadino italiano.
B se commesso da uno straniero ancora presente nel territorio dello Stato.
C sempre.

---

944) In quale tipologia di delitti, l'evento che si verifica non è mai attribuibile al volere del soggetto attivo?

A Delitti colposi.
B Delitti a dolo generico.
C Delitti aberranti.

---

945) Se il soggetto attivo, dopo aver dato inizio alla condotta criminale, desiste volontariamente dal completare l'azione:

A risponde del delitto tentato, ma solo nei reati di pericolo.
B risponde solo degli atti compiuti se questi costituiscono reato.
C non è punibile in ogni caso.

---

946) Il soggetto che, al fine di procurare a sé o ad altri un vantaggio induce taluno in errore, sostituendo illegittimamente la propria all'altrui persona, commette il reato di:

A falsità in registri e notificazioni.
B sostituzione di persona.
C falsa attestazione o dichiarazione a un pubblico ufficiale sulla identità o su qualità personali proprie o di altri.

---

947) In riferimento all'oltraggio ad un Pubblico Ufficiale, quale delle seguenti affermazioni è corretta?

A Non è reato.
B È un delitto contro la Pubblica Amministrazione.
C È un delitto contro la persona.

---

948) In base all'art. 22 del c.p.:

A la pena dell'ergastolo è perpetua, ed è scontata in uno degli istituti a ciò destinati, con l'obbligo del lavoro e con l'isolamento notturno.
B il condannato all'ergastolo non può, in nessun tempo, essere ammesso al lavoro all'aperto.
C la pena dell'ergastolo è perpetua, ed è scontata in uno degli istituti a ciò destinati, con l'obbligo del lavoro ma senza alcuna forma di isolamento notturno.

---

949) In materia penale, qual è la differenza sostanziale tra l'esercizio di un diritto e l'adempimento di un dovere?

A Il primo è una causa di esclusione del reato, il secondo una causa di giustificazione.
B L'esercizio del diritto presuppone una facoltà di agire mentre l'adempimento del dovere costituisce un obbligo imposto al soggetto.
C Il primo può essere invocato solo per determinati reati, il secondo per qualsiasi tipo di reato.

---

950) L'uso legittimo delle armi, previsto dall'art.53 del codice penale, viene considerata una causa di giustificazione "propria". Perché?

A Tale termine è previsto dal codice penale.
B Si applica solo nei casi previsti dalla legge, non essendo invocabile tramite il procedimento analogico.
C Può essere invocata solo dai pubblici ufficiali.

---

951) L'oblazione estingue:

A il delitto punito solo con pena pecuniaria.
B le contravvenzioni.
C l'illecito amministrativo e i delitti meno gravi.

---

952) Il pubblico ufficiale che attesta falsamente in un certificato fatti dei quali l'atto è destinato a provare la verità è punito:

A anche se agisce fuori dell'esercizio delle sue funzioni quale privato cittadino.
B solo se il certificato è destinato a essere prodotto dinanzi all'Autorità giudiziaria.
C se agisce nell'esercizio delle sue funzioni.

---

953) Nell'omissione propria manca:

A l'antigiuridicità.
B l'evento in senso naturalistico.
C l'evento in senso giuridico.

---

954) In materia penale, la colpa generica rappresenta:

A la colpa derivante dall'inosservanza di regole cautelari non scritte.
B la colpa derivante dall'inosservanza di leggi e regolamenti destinati esclusivamente ad alcune categorie professionali.
C la colpa derivante dall'inosservanza di leggi e regolamenti destinati alla generalità dei consociati.

---

955) I delitti contro la famiglia:

A comprendono tutti quei fatti che offendono la religione e le sue manifestazioni esteriori ovvero il rispetto per le entità che trascendono la vita dei singoli.
B comprendono tutti quei fatti che offendono la libertà in campo sessuale ovvero i beni del pudore e dell'onore sessuale.
C comprendono tutti quei fatti che offendono o mettono in pericolo l'istituto familiare nei suoi vari aspetti: matrimonio, morale familiare, stato di famiglia e assistenza familiare.

---

956) Si ha il delitto di truffa previsto dall'art. 640 c.p. quando:

A chiunque, con artifizi o raggiri, inducendo taluno in errore, procura a sé o ad altri un ingiusto profitto con altrui danno.
B il pubblico ufficiale che sfrutta l'errore altrui per procurare a sé ingiusto profitto.
C chiunque induce taluno in errore causando un danno ad altri.

---

957) Per i minori che hanno compiuto gli anni quattordici, il diritto di remissione della querela può essere esercitato:

A dagli stessi anche quando la querela è stata proposta dal rappresentante, ma, in ogni caso, la remissione non ha effetto senza l'approvazione di questo.
B dagli stessi, ma se la querela è stata proposta dal rappresentante la remissione non ha effetto senza l'approvazione di questo.
C dagli stessi, salvo che la querela sia stata proposta dal rappresentante.

---

958) Chi si introduce in una appartenenza dell'abitazione altrui, contro la volontà espressa o tacita di chi ha diritto di escluderlo, commette il reato di:

A violenza privata.
B furto.
C violazione di domicilio.

---

959) La misura del ricovero in ospedale psichiatrico giudiziario è disposta:

A per gli imputati prosciolti per infermità psichica o per intossicazione cronica da alcool o da sostanze stupefacenti o per sordomutismo, salvo che si tratti di contravvenzioni o delitti colposi o altri delitti per i quali è stabilita la pena pecuniaria o la reclusione non superiore nel massimo a dodici mesi.
B per gli imputati prosciolti per infermità psichica o per intossicazione cronica da alcool o da sostanze stupefacenti o per sordomutismo, salvo che si tratti di contravvenzioni o delitti colposi o altri delitti per i quali è stabilita la pena pecuniaria o la reclusione non superiore nel massimo a due anni.
C per gli imputati prosciolti per infermità psichica o per intossicazione cronica da alcool o da sostanze stupefacenti o per sordomutismo, salvo che si tratti di contravvenzioni.

---

960) E' possibile il tentativo in un delitto di attentato?

A No.
B Sì, ma non è prevista la desistenza.
C Dipende dal caso concreto e dall'idoneità degli atti.

---

961) Nel diritto penale, l'oblazione comporta:

A l'estinzione del reato.
B l'estinzione della pena ma non del reato.
C l'esclusione della punibilità ma non l'estinzione del reato.

---

962) In materia penale si ha "recesso attivo" o "pentimento operoso" quando:

A l'agente, pur avendo completato la condotta criminale, si adopera in modo da impedire l'evento.
B l'agente, pur avendo intrapreso la condotta criminale, si arresta prima di completarla.
C l'agente ripara il danno mediante il risarcimento.

---

963) La norma penale ha carattere statuale nel senso che:

A può provenire dallo Stato e da altri enti presenti all'interno dello stesso.
B è concordata a livello internazionale tra vari Stati.
C può provenire soltanto dallo Stato.

---

964) Quando il giudice dispone il ricovero in un riformatorio giudiziario applica:

A una pena sostitutiva.
B una misura di sicurezza personale non detentiva.
C una misura di sicurezza personale detentiva.

---

965) Soggetto attivo del delitto di concussione può essere un privato cittadino?

A No, può essere solo un incaricato di pubblico servizio.
B No, può essere un pubblico ufficiale o un incaricato di pubblico servizio.
C Si, e può essere anche l'esercente un servizio di pubblica utilità.

---

966) Le circostanze aggravanti ed attenuanti previste dal codice penale sono (artt. 61 e 62 c.p.):

A un elemento riconducibile al nesso di causalità.
B un elemento accidentale del reato.
C un elemento essenziale del reato.

---

967) Il precetto è costituito:

A dall'entità della pena inflitta.
B dall'entità della pena inflitta e dalla prescrizione.
C dalla prescrizione.

---

968) Il P.U. che procede ad un arresto abusando dei poteri inerenti alle sue funzioni, di quale reato risponde?

A Sequestro di persona.
B Esercizio arbitrario delle proprie ragioni.
C Arresto illegale.

---

969) Non è imputabile chi, nel momento in cui ha commesso il fatto che costituisce reato non aveva compiuto gli anni:

A quattordici.
B quindici.
C dieci.

---

970) La libertà vigilata è disposta dal giudice previo accertamento della pericolosità sociale del soggetto e la sua applicazione può essere obbligatoria o facoltativa. Indicare in quale dei seguenti casi il giudice può invece ordinare la libertà vigilata facoltativamente:

A qualora l'imputato sia stato condannato a più di un anno di reclusione.
B quando un contravventore abituale o professionale, non più sottoposto a misura di sicurezza, commetta un nuovo reato che sia indice della riacquisita abitualità o professionalità.
C quando concede la liberazione condizionale.

---

971) I seguenti requisiti devono caratterizzare la reazione in ordine alla legittima difesa:

A Proporzione ed immediatezza.
B Solo proporzione.
C Proporzione e necessità.

---

972) Il delitto è doloso quando:

A l'evento dannoso o pericoloso non è dall'agente preveduto né voluto, purché sia conseguenza della sua azione od omissione.
B l'evento dannoso o pericoloso è dall'agente preveduto e voluto come conseguenza della propria azione od omissione.
C l'evento dannoso o pericoloso è dall'agente preveduto ma non voluto come conseguenza della propria azione od omissione.

---

973) Chi ha commesso il fatto per forza maggiore:

A non è punibile.
B é punibile, se è capace di intendere e di volere.
C non è imputabile.

---

974) Il minore di quattordici anni che commette un reato è punibile?

A Si, se il giudice lo ritiene capace d'intendere e di volere.
B Si ma la pena viene ridotta.
C No.

---

975) L'adempimento del dovere può scaturire da un ordine legittimo della pubblica autorità. Quest'ultimo si concretizza quando:

A Quando il superiore ha la competenza ad emanarlo e l'ordine viene emesso per tutelare un bene primario.
B Quando il superiore ha la competenza ad emanarlo e siano state osservate le procedure previste dalla legge per la sua emissione.
C Quando il superiore ha la competenza ad emanarlo, l'inferiore ad eseguirlo e siano state osservate le procedure previste per la sua emissione.

---

976) In che modo risponderà il soggetto A, il quale abbia ucciso il soggetto B accidentalmente sparando un colpo di fucile in aperta campagna, a causa di imprudenza?

A Di colpa generica.
B Di dolo eventuale.
C Di colpa specifica.

---

977) Uno dei seguenti delitti viene disciplinato nel titolo II del libro II del codice penale, relativo ai delitti contro la pubblica amministrazione. Si tratta di:

A Concussione.
B Attentato contro la costituzione dello Stato.
C False informazioni al P.M.

---

978) La misura del ricovero in ospedale psichiatrico giudiziario si applica:

A ai sottoposti ad altra misura di sicurezza detentiva colpiti da infermità psichica tale da richiedere il ricovero in un ospedale psichiatrico giudiziario.
B agli imputati prosciolti per sordomutismo, salvo che si tratti di delitti colposi o altri delitti per i quali è stabilita la pena della reclusione non superiore nel massimo a tre anni.
C agli imputati prosciolti per infermità psichica, anche se si tratti di contravvenzioni.

---

979) Con quale criterio si calcola il tempo quando la legge penale stabilisce un termine per il verificarsi di un effetto giuridico?

A I giorni festivi non sono computati nel termine.
B Il giorno della decorrenza non è computato nel termine.
C Il giorno finale non è computato nel termine oltre ai giorni festivi.

---

980) L'indulto estingue le pene accessorie?

A No, salvo che il decreto disponga diversamente.
B No, in nessun caso.
C Si, in ogni caso.

981) Se lo straniero è giudicato all'estero per un reato commesso nel territorio dello Stato deve essere anche giudicato nello Stato italiano?

A Sì.
B No, mai.
C Sì, se vi è richiesta del Ministro della giustizia di concerto col Ministro della difesa.

982) Il dipendente di un ente privato concessionario di un servizio pubblico, che si appropria del denaro versato dagli utenti e riscosso nell'ambito delle sue attribuzioni, commette il reato di:

A furto.
B peculato.
C concussione.

983) L'ubriachezza volontaria o colposa comporta:

A diminuzione dell'imputabilità.
B né esclusione né diminuzione dell'imputabilità.
C esclusione dell'imputabilità.

984) L'omicidio premeditato è:

A l'omicidio involontariamente perpetrato da chi voleva solo ferire.
B un'ipotesi aggravata di omicidio volontario.
C un omicidio caratterizzato da una colpa particolarmente grave.

985) Il reato di sequestro di persona di cui all'art. 605 c.p.:

A è un reato continuato.
B è un reato abituale.
C è un reato permanente.

986) La punibilità può estinguersi per cause di estinzione del reato e cause di estinzione della pena. E' una causa di estinzione del reato:

A il perdono giudiziale.
B le misure di prevenzione.
C le circostanze attenuanti.

987) Il principio del "favor rei" di cui all'art. 2 del Codice Penale si applica:

A solo se la vecchia norma era più favorevole al reo rispetto alla nuova e solo se non sia stata pronunciata sentenza irrevocabile.
B solo se la vecchia norma era più favorevole al reo rispetto alla nuova.
C sia nell'ipotesi che la vecchia norma fosse più favorevole al reo che nell'ipotesi che la nuova norma sia più favorevole al reo, salvo, in ogni caso, che sia stata pronunciata sentenza irrevocabile.

988) Nel delitto di furto il reo:

A deve finalizzare la sua condotta a trarre un ingiusto profitto.
B deve finalizzare la sua condotta a trarre profitto.
C deve realizzare concretamente il profitto.

989) I delitti di associazione politica:

A hanno la caratteristica di incriminare associazioni di persone ritenute, in ragione dei mezzi usati e/o dei fini perseguiti, pericolose per la sicurezza dello Stato o l'ordine pubblico.
B comprendono tutti quei fatti che concernono la vita dello Stato nella sua essenza unitaria, sia che essi abbiano attinenza alle relazioni dello Stato con le altre nazioni, sia che si riferiscano alla vita interna dello Stato.
C sono previsti al fine di tutelare il segreto politico interno o internazionale dello Stato.

990) Il"costringimento fisico" come causa di esclusione della coscienza e volontàè:

A La forza della natura alla quale l'autore del fatto non era in grado di resistere.
B Un fatto che seppur previsto non si poteva evitare.
C La violenza esercitata da altri ed alla quale il soggetto non poteva resistere o sottrarsi.

991) Il costringimento psichico è parificato al costringimento fisico:

A mai,sono disciplinate diversamente
B nei reati dolosi.
C sempre.

992) La querela presentata nei confronti di uno solo dei concorrenti nella commissione di un reato si estende anche all'istigatore?

A Sì, se gli altri compartecipi erano maggiorenni.
B Sì.
C Sì, purché l'evento sia conseguenza della azione od omissione di tutti.

---

993) Dispone la legge n. 689/1981 che nella determinazione della sanzione amministrativa pecuniaria fissata dalla legge tra un limite minimo ed un limite massimo e nell'applicazione delle sanzioni accessorie facoltative:

A si ha riguardo solo alla personalità dell'agente.
B si ha riguardo solo al dato oggettivo della gravità della violazione.
C si ha riguardo, tra l'altro, all'opera svolta dall'agente per l'eliminazione o attenuazione delle conseguenze della violazione.

---

994) Risulta imputabile la persona che si è messa in stato di incapacità di intendere o di volere al fine di commettere un reato e di prepararsi una scusa?

A Si, è imputabile.
B Si, ma la pena è diminuita.
C Si, e la pena è aumentata.

---

995) La querela si estende di diritto:

A a tutti coloro che hanno commesso il reato, ma solo nelle ipotesi di concorso eventuale.
B a tutti coloro che hanno commesso il reato, purché maggiorenni e purchè vi sia statoun consistente contributo.
C a tutti coloro che hanno commesso il reato.

---

996) La durata minima e massima della reclusione è la seguente:

A La reclusione si estende da uno a venti anni.
B La reclusione si estende da quindici giorni a ventiquattro anni.
C La reclusione si estende da due a trenta anni.

---

997) Qualsiasi persona che, legalmente richiesta dal pubblico ufficiale, faccia uso legittimo delle armi:

A non è imputabile.
B non è punibile.
C è punibile.

---

998) Del fatto commesso dalla persona costretta mediante violenza fisica alla quale non poteva resistere o comunque sottrarsi, risponde:

A chi ha commesso il fatto, se imputabile.
B l'autore della violenza.
C sia l'autore della violenza, sia chi ha commesso il fatto.

---

999) La legge stabilisce che, qualora un sordomuto commetta un reato, è necessario accertare se il suo stato non gli abbia impedito la capacità di intendere e di volere. Quando si sia trovato, a causa della sua malattia, in condizioni di non poter intendere né volere e in tali condizioni abbia commesso un reato:

A é imputabile e quindi risponde del reato commesso, e in questo caso, oltre alla pena, l'imputato verrà condannato anche alla misura di sicurezza del ricovero in una casa di cura e di custodia (art. 89 c.p.).
B non è imputabile e va quindi esente da pena, ma è assoggettato alla misura di sicurezza del ricovero in un ospedale psichiatrico giudiziario (art. 96 c.p.).
C é imputabile e gli verrà applicata la misura di sicurezza del ricovero in un ospedale psichiatrico giudiziario (art. 88 c.p.).

1000) In relazione al bene giuridico tutelato dalla norma incriminatrice si distinguono reati monoffensivi e plurioffensivi. In particolare:

A l'ingiuria non è un esempio di reato monoffensivo.
B la rapina, che lede congiuntamente sia il patrimonio che la libertà personale, è un esempio di reato plurioffensivo.
C il danneggiamento non costituisce un esempio di reato monoffensivo.

1001) Classificando i reati in base alla struttura e al tipo di condotta previsto dalla singola norma incriminatrice, i reati che richiedono per la loro realizzazione sia un'azione che un'omissione sono:

A sempre reati a forma vincolata.
B i c.d. reati di posizione.
C reati a condotta mista.

1002) Il compimento di fatti incompatibili con la volontà di esercitare il diritto di querela consente la successiva presentazione della querela?

A Sì, purché non vi sia stata rinuncia espressa.
B Sì, purché non vi sia stata rinuncia scritta o i fatti siano equivoci.
C No, in nessun caso.

1003) Ai sensi dell'art. 101 del c.p. sono considerati reati della stessa indole, tra gli altri:

A solo quelli che violano una stessa disposizione di legge.
B quelli che, pur essendo preveduti da disposizioni diverse di legge o del codice penale, presentano caratteri fondamentali comuni.
C quelli che sono commessi nei confronti dello stesso soggetto.

1004) L'arresto si estende, di norma, da:

A 5 giorni a 3 anni.
B 15 giorni a 3 anni.
C 15 giorni a cinque anni.

1005) Colui che, in quanto addetto ad un carcere, non libera il detenuto, pur avendo ricevuto l'ordine, commette il reato di limitazione indebita della libertà personale. Esso:

A è un reato proprio, in quanto può essere commesso solo da un pubblico ufficiale o da incaricato di pubblico servizio.
B comporta la pena della reclusione fino a 3 anni.
C comporta la pena della reclusione fino a 6 mesi.

1006) Non è punibile chi ha commesso il fatto per esservi stato costretto dalla necessità di difendere un diritto proprio od altrui contro il pericolo attuale di un'offesa ingiusta, sempre che la difesa sia proporzionata all'offesa, recita l'art.52 del codice penale. Quale delle seguenti cause oggettive di esclusione del reato descrive il citato articolo?

A Legittima difesa.
B Stato di necessità.
C Esercizio di un diritto.

1007) I reati speciali o propri:

A sono quei reati che offendono l'interesse di più soggetti passivi con qualifiche diverse.
B sono quei reati per il quale la legge richiede una speciale qualifica del soggetto attivo. Essi a loro volta si distinguono in reati propri esclusivi e reati propri non esclusivi.
C sono quei reati che possono avere ad oggetto qualsiasi bene giuridico.

1008) Le cause oggettive di esclusione del reato vengono comunemente chiamate anche:

A cause di giustificazione.
B cause di non punibilità.
C cause che attenuano la responsabilità.

1009) Se vi è diversità tra la legge in vigore al momento della commissione del reato e quella al momento della sentenza, quale si applica?

A Quella vigente al momento della sentenza.
B Quella vigente al tempo del commesso reato anche se più sfavorevole.
C Quella più favorevole al reo.

1010) Quali sono le pene principali stabilite dalla legge per i delitti?

A Il soggiorno obbligato e il divieto di soggiorno in talune località indicate dal giudice.
B L'arresto e l'ammenda.
C L'ergastolo, la reclusione, la multa.

1011) Il reato commesso su una nave italiana si considera commesso nel territorio dello Stato italiano:

A solo se la nave si trova in acque territoriali italiane e non si tratti di nave da guerra.
B ovunque la nave si trovi, salvo che sia soggetta, secondo il diritto internazionale, a una legge territoriale straniera.
C solo se si tratta di nave da guerra.

1012) Il concorso di cause sopravvenute, indipendenti dall'azione od omissione del colpevole, che consistono nel fatto illecito altrui:

A esclude il rapporto di casualità fra l'azione od omissione e l'evento.
B non esclude il rapporto di causalità fra l'azione od omissione e l'evento se era conosciuto dal colpevole.
C non esclude il rapporto di causalità fra l'azione od omissione e l'evento, a meno che le cause sopravvenute non siano state da sole sufficienti a determinarlo.

1013) Il soggetto che ha commesso un fatto previsto dalla legge come reato è imputabile?

A Il soggetto è sempre imputabile.
B Il soggetto è imputabile se, al momento in cui lo ha commesso, aveva la capacità di intendere e di volere.
C Il soggetto è imputabile a prescindere da qualsiasi considerazione; sarà a cura poi del giudice prevedere il proscioglimento dell'imputato.

1014) Il soggetto attivo che, nel commettere il fatto in stato di necessità, ne ecceda colposamente i limiti, ne risponde:

A a titolo di colpa, se il fatto è previsto dalla legge come delitto colposo.
B a titolo di dolo, ma la pena è ridotta.
C in ogni caso a titolo di colpa.

1015) L'interdizione perpetua dai pubblici uffici è conseguenza della:

A condanna all'ergastolo.
B condanna alla pena della reclusione per due anni.
C condanna alla pena della reclusione per quattro anni.

1016) Il delitto è preterintenzionale, tra le altre ipotesi:

A quando l'evento, anche se preveduto, non è voluto dall'agente e si verifica a causa d'imprudenza ovvero per inosservanza di leggi, regolamenti, ordini e discipline.
B quando l'evento dannoso o pericoloso, che è il risultato della omissione e da cui la legge fa dipendere l'esistenza delitto, è dall'agente preveduto e voluto come conseguenza della propria omissione.
C quando dall'omissione deriva un evento dannoso o pericoloso più grave di quello voluto dall'agente.

1017) La vicenda costitutiva del rapporto di esecuzione di misure di sicurezza discende da fattispecie il cui atto giuridico terminale presenta diverso contenuto. Essa può derivare da sentenza di proscioglimento?

A Si, essa può derivare solo da sentenza di proscioglimento ovvero di condanna del giudice.
B No, può derivare solo da sentenza di condanna del giudice.
C Si, può derivare anche da sentenza di proscioglimento.

1018) Il delitto di "abuso di ufficio" può essere commesso:

A sia dal Pubblico Ufficiale che dall'incaricato di pubblico servizio ed è punibile solo a titolo di dolo.
B dal Pubblico Ufficiale, a titolo di dolo o di colpa, dall'incaricato di pubblico servizio, solo a titolo di dolo.
C solo dal Pubblico Ufficiale ed è punito solo a titolo di dolo.

1019) Le misure di sicurezza si dividono in detentive, non detentive e patrimoniali. Sono non detentive:

A la libertà vigilata; il divieto di soggiorno; il divieto di frequentare osterie e pubblici spacci di bevande alcoliche; l'espulsione dello straniero dallo Stato.
B la libertà vigilata; il divieto di soggiorno; il divieto di frequentare osterie e pubblici spacci di bevande alcoliche; l'espulsione dello straniero dallo Stato; l'assegnazione ad una casa circondariale.
C la libertà vigilata; il divieto di soggiorno; l'espulsione dello straniero dallo Stato; la confisca; l'assegnazione ad una casa circondariale.

1020) Tizio rende una dichiarazione scritta al difensore nello svolgimento delle investigazioni difensive, ma non viene avvertito della facoltà di non rendere la dichiarazione. Se rende dichiarazioni false, è punibile per il reato di false dichiarazioni al difensore?

A Sì.
B No.
C Sì, se il fatto è commesso al fine di trarne profitto anche se il profitto non si concretizza.

1021) Se il sovrintendente Caio, nel caso di una perquisizione presso una ditta, induce il titolare ad impegnarsi ad assumere un suo conoscente, risponde di:

A concussione.
B corruzione in atti giudiziari.
C corruzione per un atto contrario ai doveri di ufficio.

1022) Ai sensi della legge n. 689/1981, l'obbligazione di pagare la somma dovuta a titolo di sanzione per la violazione amministrativa si trasmette agli eredi?

A No.
B Solo se si tratta di parenti entro il II grado.
C Si, in ogni caso.

1023) Chiunque procura l'evasione di una persona ricoverata in una casa di cura e di custodia:

A commette il delitto di procurata inosservanza di misure di sicurezza detentive.
B commette il delitto di procurata evasione.
C commette il delitto di favoreggiamento personale.

1024) L'istituto della riabilitazione del condannato:

A è finalizzato alla riabilitazione sociale del condannato che abbia scontato la pena inflittagli.
B può anche essere concesso più di una volta, purché la somma delle pene che avrebbero dovuto essere inflitte non superi i 2 anni di reclusione e/o i 1.549,37 euro di multa.
C consiste nella possibilità, per il giudice, di rinunciare alla condanna, allo scopo di dare all'imputato minorenne un'altra possibilità per evitare l'impatto con il carcere.

1025) Se lo stato di necessità è determinato dall'altrui minaccia, del fatto commesso dalla persona minacciata:

A risponde chi l'ha costretta a commetterlo.
B risponde comunque chi l'ha commesso.
C rispondono sia chi l'ha costretta a commetterlo, sia chi l'ha commesso.

1026) Che cosa deve intendersi, agli effetti della legge penale, per pubblico servizio?

A Un'attività disciplinata nelle stesse forme della pubblica funzione, ma caratterizzata dalla mancanza dei poteri tipici di quest'ultima, e con esclusione dello svolgimento di semplici mansioni di ordine e della prestazione di opera meramente materiale.
B Tutte quelle professioni il cui esercizio sia per legge vietato senza una speciale abilitazione dello Stato.
C Esclusivamente quello disciplinato da norme di diritto pubblico e da atti autoritativi, e caratterizzato dalla formazione e dalla manifestazione della volontà della pubblica amministrazione o dal suo svolgersi per mezzo di poteri autoritativi o certificativi.

1027) Nel delitto di estorsione il profitto è elemento costitutivo del reato?

A No, è dolo specifico.
B Sì, sempre.
C Solo se ingiusto.

1028) Quale pena accessoria consegue alla condanna per delitti commessi con violazione dei doveri inerenti all'ufficio di tutore o curatore, anche provvisorio, e di ogni altro ufficio attinente alla tutela o alla cura?

A L'interdizione temporanea dai pubblici uffici, se il condannato ha superato l'età di anni ventuno.
B Nessuna pena accessoria.
C L'interdizione temporanea dai pubblici uffici.

1029) In base all'art. 41 co. 2 c.p, le cause sopravvenute possono escludere il rapporto di causalità esssendo state da sole sufficienti a determinare l'evento. Quale rilevanza penale ha, in questo caso, l'azione o l'omissione precedentemente commessa (art. 41 co. 2 c.p.)?

A Se l'azione od omissione costituisce per sé un reato si applica la pena per questo stabilita.
B L'azione od omissione precedentemente commesse non sono punibili
C Nessuna rilevanza penale.

1030) Quale tra le seguenti non è una circostanza del reato (artt. 54, 61 e 62 c.p.)?

A L'aver agito per motivi futili.
B L'aver agito in stato di necessità.
C L'aver agito per motivi di particolare valore morale o sociale.

1031) Nel reato continuato, il disegno criminoso è:

A il fine ultimo delle proprie azioni.
B il verificarsi dell'evento criminoso.
C il progetto di compiere più reati, deliberato nelle linee essenziali.

1032) A norma del Codice Penale, in quale ipotesi si procede d'ufficio per il reato di appropriazione indebita?

A Se il fatto ha cagionato alla persona offesa un danno patrimoniale di rilevante entità.
B Se il fatto è commesso con abuso di relazioni domestiche.
C In nessun caso.

1033) L'esercizio di un diritto o l'adempimento di un dovere imposto da una norma giuridica o da un ordine legittimo della pubblica autorità, ai sensi dell'art.51 del codice penale:

A esclude la punibilità.
B comporta una diminuzione della pena.
C è irrilevante.

1034) Una persona che si mette in stato d'incapacità per commettere un reato è imputabile?

A Mai.
B Sì, ma la pena è diminuita.
C Sì, sempre.

1035) Quando si ha concorso formale di reati?

A Quando con una sola azione il soggetto viola più norme penali.
B Quando più persone concorrono nel reato.
C Quando con più azioni il soggetto viola più norme penali.

1036) Aggrava il reato l'avere, nei delitti contro il patrimonio, cagionato alla persona offesa dal reato:

A anche un danno non patrimoniale.
B anche un danno morale.
C un danno patrimoniale di rilevante gravità.

1037) Il delitto di concussione è un delitto proprio:

A del Pubblico Ufficiale e dell'incaricato di pubblico servizio.
B del Pubblico Ufficiale, dell'incaricato di pubblico servizio e dell'esercente un servizio di pubblica necessità.
C del solo Pubblico Ufficiale e del privato cittadino.

1038) I reati si distinguono in:

A crimini e contravvenzioni.
B delitti, crimini e contravvenzioni.
C delitti e contravvenzioni.

1039) Le misure di sicurezza presuppongono la pericolosità sociale dell'individuo, sono cioè applicabili solo a colui che sia pericoloso per la società. La pericolosità sociale presuppone due condizioni:

A che un individuo abbia commesso un reato ed è probabile che commetta nuovi fatti delittuosi della stessa natura; che si tratti di persona socialmente pericolosa.
B che un individuo abbia commesso un reato, o un reato impossibile, o un reato putativo, o un accordo o un'istigazione per commettere un reato ed è probabile che commetta nuovi fatti delittuosi; che si tratti di persona socialmente pericolosa.
C che un individuo sia dichiarato delinquente abituale; che si tratti di persona socialmente pericolosa.

1040) Le Regioni possono variare o modificare l'ordinamento penale vigente?

A Si in casi espressamente previsti dalla legge.
B No.
C No, ma possono rimuovere le norme penali statali.

1041) Le "circostanze ad effetto speciale" in materia penale sono:

A quelle che prevedono un aumento o una diminuzione della pena superiore ad un terzo rispetto a quella prevista per il reato base.
B quelle che comportano automaticamente l'applicazione delle pene accessorie.
C quelle che prevedono un aumento o una diminuzione di pena non superiore ad un terzo.

1042) Per coloro che, essendo già stati dichiarati delinquenti abituali, professionali o per tendenza, e non essendo più sottoposti a misure di sicurezza, commettono un nuovo delitto, non colposo, che costituisca una nuova manifestazione della abitualità, professionalità o tendenza a delinquere, il giudice:

A dispone l'assegnazione a una colonia agricola.
B dispone l'assegnazione a una colonia agricola ovvero ad una casa di lavoro.
C dispone l'assegnazione a una colonia agricola, o ad una casa di lavoro ovvero ad una casa di cura e custodia.

1043) Chiunque, fuori dei casi di concorso nel reato, aiuta taluno, condannato per contravvenzione, a sottrarsi all'esecuzione della pena e, successivamente, nel termine di tre mesi, ne procura la presentazione all'Autorità commette il delitto di procurata inosservanza di pena?

A Sì, e la pena è quella edittale.
B Sì, ma si configura l'attenuante comune di essersi adoperato per elidere le conseguenze del reato.
C Sì, ma la pena è inferiore a quella edittale.

1044) La pena della multa:

A deriva automaticamente dalla condanna, anche senza una espressa dichiarazione del giudice.
B è pena principale sia per i delitti che per le contravvenzioni.
C è sempre inflitta dal giudice con sentenza di condanna.

1045) Cosa si intende per "condotta negligente" nel delitto colposo?

A Avere agito con scarsa abilità o insufficiente preparazione anche se in maniera meticolosa.
B Avere agito in modo trascurato, senza accortezza ed attenzione.
C Avere agito in modo avventato senza la debita considerazione degli interessi propri o altrui.

1046) Quando un individuo viola più volte la legge penale:

A si applicano necessariamente le norme relative al concorso di reati.
B si applicano necessariamente le norme relative al reato complesso.
C non è detto che vengano applicate le norme relative al concorso di reati potendo essere applicate infatti anche quelle relative al reato continuato, composto o complesso.

1047) Chi, dopo aver procurato l'evasione di una persona sottoposta a misura di sicurezza detentiva, nel termine di tre mesi dalla evasione, ne procura la cattura, commette il delitto di procurata inosservanza di misure di sicurezza detentive?

A Sì, e la pena è quella edittale.
B No, perché commette il delitto di procurata evasione.
C Sì, ma la pena è inferiore a quella edittale.

1048) Nessuno può essere sottoposto a pene che non siano (art. 1 c.p.):

A stabilite dalla legge regionale.
B stabilite dal regolamento.
C stabilite dalla legge.

1049) Attenua il reato, quando non ne è elemento costitutivo o circostanza attenuante speciale, l'essere concorso a determinare l'evento, insieme con l'azione del colpevole:

A il fatto colposo della persona offesa o di un terzo.
B il fatto doloso della persona offesa.
C il fatto doloso di un terzo.

1050) Il delitto di interesse privato in atti d'ufficio:

A è un delitto proprio dei Pubblici Ufficiali e degli incaricati di pubblico servizio che rivestano la qualità di pubblico impiegato.
B è un delitto proprio dei Pubblici Ufficiali e degli incaricati di pubblico servizio.
C è stato abrogato.

1051) Il tentato suicidio:

A non è un reato.
B è un reato preterintenzionale.
C è un reato doloso.

1052) Si definiscono come "propri" i reati:

A per i quali sono presenti tutti gli elementi essenziali e non siano presenti cause di esclusione della punibilità.
B che prevedono necessariamente la contemporanea presenza degli elementi essenziali e degli elementi accidentali.
C che possono essere commessi solo da persone che rivestono particolari qualità.

1053) A quale condanna consegue l'interdizione dagli uffici direttivi delle persone giuridiche e delle imprese è conseguenza anche:

A di ogni condanna alla reclusione non inferiore a due anni per delitti commessi contro la fede pubblica, con abuso dei poteri inerenti all'ufficio.
B di ogni condanna alla reclusione non inferiore ad un anno per delitti commessi con abuso dei poteri inerenti all'ufficio.
C di ogni condanna alla reclusione non inferiore a sei mesi per delitti commessi con abuso dei poteri inerenti all'ufficio.

1054) Dal punto di vista strettamente procedurale possiamo affermare che a polizia giudiziaria sia una parte del procedimento penale?

A Lo diventa se il reato presenza certe caratteristiche.
B Sì la polizia giudiziaria è parte del procedimento alla stregua di una parte civile che può agire in nome proprio.
C È un soggetto ma non una parte del procedimento penale in quanto non vi rappresenta direttamente un interesse.

1055) A chi spetta utilizzare i risultati delle indagini svolte dalla polizia giudiziaria?

A E' il Pubblico Ministero cui spetta utilizzare, nell'ambito del procedimento, i risultati delle indagini svolte dalla polizia giudiziaria.
B La polizia giudiziaria svolge le indagini ed è essa stessa a utilizzare i risultati delle indagini nell'ambito del procedimento.
C Spetta al Pubblico Ministero o alla polizia giudiziaria a seconda dei casi.

1056) La figura che rappresenta l'interesse dello Stato all'applicazione della legge penale è:

A il Pubblico Ministero.
B il giudice per le indagini preliminari insieme al Pubblico Ministero.
C l'ufficiale di stato civile

1057) In base alla legge è sufficiente l'annotazione, anche sommaria, delle denunce da parte della polizia giudiziaria:

A no, la legge prevede che per le denunce debba essere redatto verbale.
B la legge prevede che l'annotazione sia sufficiente se la denuncia è breve ed il reato non grave.
C è indifferente per le denunce che vi sia annotazione o verbale.

1058) L'indicazione relativa alla circostanza che la dichiarazione sia stata resa spontaneamente o previa domanda, nel verbale delle attività svolte dalla polizia giudiziaria, è sempre necessaria?

A E' obbligatoria in determinati casi.
B No è una circostanza che può anche essere omessa.Lo decide la polizia giudiziaria a discrezione.
C Sì deve essere indicata espressamente.

1059) Ai sensi dell'articolo 357 del codice di procedura penale gli atti della polizia giudiziaria:

A possono sempre essere documentati anche successivamente se ad autorizzare sia il Pubblico Ministero.
B sono documentati nel corso del loro compimento ovvero immediatamente dopo quando ricorrono insuperabili circostanze.
C è una decisione riservata al giudice per le indagini preliminari.

1060) La denuncia può essere ricevuta tanto da un ufficiale di polizia giudiziaria quanto da un agente di polizia giudiziaria:

A dipende dalla gravità del reato.
B no solo l'ufficiale di polizia giudiziaria può ricevere denunce.
C si è così, in quanto è necessario il raggiungimento dello scopo.

1061) L'accompagnamento in ufficio dell'indagato è riservato a:

A sia agli ufficiali che agli agenti di polizia giudiziaria.
B solo agli ufficiali di polizia giudiziaria.
C solo agli agenti di polizia giudiziaria.

1062) A ricevere il referto è:

A il Pubblico Ministero insieme ad un agente di polizia giudiziaria.
B l'ufficiale di polizia giudiziaria.
C Il giudice per le indagini preliminari.

1063) La querela è:

A una modalità di ricezione della notizia di reato.
B una sanzione amministrativa.
C una notificazione.

1064) Qualsiasi privato cittadino che per qualsiasi ragione venga a conoscenza della commissione di un reato:

A può proporre denuncia anche se il reato non è stato perpetrato a suo danno, sempre che la legge non ne preveda la perseguibilità solo a seguito di querela della persona offesa.
B la denuncia deve provenire solo dalla persona offesa o dai suoi familiari.
C la denuncia deve provenire solo dalla persona offesa.

1065) La persona che presenta una denuncia ha diritto di ricevere attestazione della ricezione della stessa da parte dell'autorità?

A Non è un diritto del denunciante ma solo una facoltà.
B Sì chi denuncia ha diritto di ricevere attestazione della ricezione dall'autorità davanti alla quale la stessa è stata presentata.
C E' a discrezione della polizia giudiziaria.

1066) L'interrogatorio su delega del Pubblico Ministero dell'indagato in stato di libertà può essere compiuto da un:

A agente di polizia giudiziaria.
B ufficiale di polizia giudiziaria.
C tanto gli uni quanto gli altri.

1067) La ricezione di spontanee dichiarazioni dell'indagato è svolta da:

A ufficiali e agenti di polizia giudiziaria.
B solo agenti di polizia giudiziaria.
C solo ufficiali di polizia giudiziaria.

1068) Le annotazioni previste dall'articolo 357 del codice penale contengono:

A l'indicazione dell'ufficiale o dell'agente di polizia giudiziaria che ha compiuto le attività di indagine.
B l'indicazione del Pubblico Ministero.
C il luogo e la data di nascita degli stessi.

1069) Quale dei seguenti non è un compito della polizia giudiziaria?

A Acquisizione della notizia di reato.
B Ricerca degli autori del reato
C Mantenimento dell'ordine pubblico e tutela della proprietà.

1070) I vigili del fuoco svolgono attività di polizia giudiziaria:

A a competenza mista.
B a competenza limitata o settoriale.
C a competenza illimitata.

1071) Al personale appartenente al ruolo di vigile del fuoco è attribuita la funzione di:

A agente di polizia giudiziaria.
B ufficiale o agente di polizia giudiziaria. a seconda del ruolo svolto.
C comandante provinciale.

1072) Soggetto legittimato all'arresto in flagranza è:

A Il giudice delle indagini preliminari.
B La polizia giudiziaria.
C Il Pubblico Ministero.

1073) Nei confronti di un soggetto indagato per delitti concernenti sostanze stupefacenti si può procedere all'intercettazione telefonica?

A Sì.
B No mai; la segretezza delle comunicazioni è inviolabile per superiori motivi di privacy.
C No per tali diritti non è ammessa l'intercettazione.

1074) L'ufficiale di polizia giudiziaria quando, ai sensi dell'articolo 389 codice di procedura penale, procede alla liberazione dell'arrestato in flagranza di reato, chi deve informare?

A Il Pubblico Ministero.
B L'avvocato difensore.
C Il giudice per le indagini preliminari.

1075) Indicare la giusta affermazione:

A le modalità di acquisizione della notizia di reato sono sostanzialmente due, attività della polizia giudiziaria e del Pubblico Ministero, denuncia e referto.
B vi è un' unica modalità di acquisire la notizia di reato.
C le modalità di acquisizione della notizia di reato, in concreto, sono almeno sei.

1076) L'iscrizione al modello 21 del registro degli indagati sta ad indicare:

A il modello 21 non esiste.
B l'iscrizione nel registro delle persone note.
C l'iscrizione nel registro degli ignoti e degli anonimi.

1077) L'iscrizione al modello 44 nel registro degli indagati sta ad indicare:

A nel registro degli indagati non esistono modelli.
B l'iscrizione nel registro degli ignoti.
C l'iscrizione nel registro delle persone note.

1078) La denuncia del danneggiamento dell'auto da parte di ignoti andrà iscritta:

A nel modello 36.
B nel modello 44,registro degli ignoti.
C nel modello 21, registro delle persone note.

1079) Esiste nel registro degli indagati un modello di atti non costituenti reato?

A No, in esso sono indicati solo fatti che non costituiscono reato.
B No, in esso sono indicati solo i reati.
C Sì esiste.

1080) Una volta iscritta la notizia di reato nel registro degli indagati in un determinato modello, è possibile provvedere al cambiamento?

A Si è sempre possibile laddove ne ricorrano i presupposti.
B Dipende dalle circostanze concrete.
C No, la scelta iniziale è definitiva.

1081) Nel registro degli indagati non esiste un modello delle denunce anonime:

A questa affermazione è falsa, il modello delle denunce anonime esiste.
B esiste solo presso le cancellerie dei tribunali.
C dipende dalle singole procure.

1082) Presupposto per procedere a perquisizione, ai sensi dell'articolo 352 codice di procedura penale, è:

A la flagranza di reato ed il caso di evasione.
B l'intensità del dolo.
C solo la flagranza di reato.

1083) Nel caso in cui il Pubblico Ministero non abbia ancora assunto la direzione delle indagini e vi sia pericolo che le cose pertinenti al reato si alterino o si disperdano:

A gli ufficiali di polizia giudiziaria possono compiere i necessari accertamenti e rilievi sullo stato dei luoghi e delle cose solo se si tratta di
B la polizia giudiziaria non può compiere alcun accertamento o rilievo fin quando il Pubblico Ministero non assume la direzione delle indagini.
C gli ufficiali di polizia giudiziaria devono compiere i necessari accertamenti e rilievi sullo stato dei luoghi e delle cose, se del caso anche sequestrando il corpo del reato e le cose a questo pertinenti.

1084) La polizia giudiziaria è una parte del procedimento penale?

A Sì la polizia giudiziaria è parte del procedimento alla stregua di una parte civile.
B È un soggetto ma non una parte del procedimento penale in quanto non vi rappresenta direttamente un interesse.
C Lo diventa se il reato presenza certe caratteristiche.

1085) Quando più leggi penali o più disposizioni regolano la stessa materia:

A la legge o la disposizione di legge speciale deroga alla legge o alla disposizione di legge generale, salvo che sia altrimenti stabilito.
B si applica la legge meno favorevole al reo, salvo che sia altrimenti stabilito.
C si applica la legge più favorevole al reo, salvo che sia altrimenti stabilito.

1086) Chi rappresenta l'interesse dello Stato all'applicazione della legge penale:

A il giudice per le indagini preliminari.
B il Pubblico Ministero.
C l'ufficiale di stato civile

1087) Il condannato all'ergastolo può essere ammesso al lavoro all'aperto?

A No.
B Sì.
C Solo dopo dieci anni di pena.

1088) E' necessaria, da parte della polizia giudiziaria, l'indicazione relativa alla circostanza che la dichiarazione sia stata resa spontaneamente o previa domanda, nel verbale delle attività da essa svolte ?

A No è una circostanza che può anche essere omessa.
B E' obbligatoria in determinati casi.
C Sì deve essere indicata espressamente.

1089) L'interdizione da una professione o da un'arte è:

A pena principale per i soli delitti contro l'economia pubblica, l'industria e il commercio.
B pena accessoria per i delitti.
C pena accessoria per le contravvenzioni.

1090) Dove si sconta la pena della reclusione?

A In uno stabilimento a ciò destinato.
B Nella casa di reclusione del luogo in cui fu commesso il delitto.
C Nelle carceri di massima sicurezza.

1091) Le pene pecuniarie proporzionali si applicano:

A Nei casi indicati dalla legge.
B Nei reati determinati da fini di lucro.
C Nei reati contro il patrimonio.

1092) Le pene principali stabilite dalla legge per i delitti sono:

A Il soggiorno obbligato e il divieto di soggiorno in talune località indicate dal giudice.
B L'arresto e l'ammenda.
C L'ergastolo, la reclusione, la multa.

1093) Il condannato all'arresto è soggetto, durante l'espiazione della pena, all'obbligo del lavoro?

A Sì, e può essere addetto a lavori anche diversi da quelli organizzati nello stabilimento, avuto riguardo alle sue attitudini e alle sue precedenti occupazioni.
B Sì, ma solo se la condanna inflitta sia superiore a sei mesi, e può essere addetto a lavori anche diversi da quelli organizzati nello stabilimento, avuto riguardo alle sue attitudini e alle sue precedenti occupazioni.
C Sì, ma solo se la condanna inflitta sia superiore a un anno, e può essere addetto a lavori anche diversi da quelli organizzati nello stabilimento, avuto riguardo alle sue attitudini e alle sue precedenti occupazioni.

1094) Indicare la durata minima e massima della reclusione:

A La reclusione si estende da quindici giorni a ventiquattro anni.
B La reclusione si estende da uno a venti anni.
C La reclusione si estende da due a trenta anni.

1095) La privazione definitiva della capacità di assumere o di acquistare qualsiasi diritto politico deriva:

A dalla pena accessoria dell'interdizione legale.
B dalla pena accessoria dell'interdizione perpetua dai pubblici uffici.
C dalla pena accessoria dell'interdizione da una professione o da un'arte.

1096) Qual è la misura della pena dell'arresto?

A La pena dell'arresto si estende da cinque giorni a tre anni.
B La pena dell'arresto si estende da tre mesi a due anni.
C La pena dell'arresto si estende da sei mesi a cinque anni.

1097) Nei casi in cui la legge prevede la pena pecuniaria proporzionale, qual è il limite massimo di essa?

A Le pene pecuniarie proporzionali non hanno limite massimo.
B Il limite massimo è di cinquantunomilaseicentoquarantacinque euro.
C Il limite massimo è di ducentocinquantottomiladuecentoventotto euro.

1098) Chi si trattiene clandestinamente in luogo di privata dimora commette il reato di:

A violenza privata.
B violazione di domicilio.
C interferenze illecite nella vita privata.

1099) L'interdizione dai pubblici uffici è:

A pena per i delitti.
B pena accessoria per i delitti.
C pena principale per i soli delitti contro la pubblica amministrazione o la morale pubblica.

1100) Può la legge penale stabilire i casi in cui le pene accessorie previste per i delitti sono comuni alle contravvenzioni?

A No in quanto i delitti destano maggiore allarme.
B Solo con riferimento alle contravvenzioni punibili con l'ammenda.
C Sì.

1101) Chi è il soggetto legittimato all'arresto in flagranza?

A La polizia giudiziaria.
B Il giudice delle indagini preliminari.
C Il Pubblico Ministero.

1102) La condizione personale di chi, dopo essere stato condannato con sentenza passata in giudicato per un delitto non colposo, ne commette un altro è detta:

A aggravante.
B professionalità nel reato.
C recidiva.

1103) La privazione definitiva di ogni diritto onorifico inerente a qualunque grado o dignità accademica, nonchè la privazione definitiva di titoli, qualità e decorazioni pubbliche deriva:

A dalla pena accessoria dell'interdizione perpetua dai pubblici uffici.
B dalla pena dell'interdizione da una professione o da un'arte e dall'interdizione legale.
C dalla pena dell'interdizione temporanea dai pubblici uffici.

1104) La pena dell'ergastolo è scontata:

A con l'obbligo del lavoro.
B con l'obbligo di lavoro non retribuito.
C con l'obbligo di lavoro per almeno dieci ore al giorno o notturno.

1105) La privazione definitiva della capacità di assumere qualsiasi pubblico ufficio e della di pubblico ufficiale deriva:

A dalla pena dell'interdizione temporanea dai pubblici uffici.
B dalla pena dell'interdizione legale e da quella dell'interdizione da una professione o un'arte.
C dalla pena accessoria dell'interdizione perpetua dai pubblici uffici.

1106) La durata dell'ergastolo è:

A La pena dell'ergastolo è perpetua.
B La pena dell'ergastolo dura cinquanta anni.
C La pena dell'ergastolo dura trenta anni.

1107) Quali sono i luoghi nei quali si sconta la pena dell'ergastolo:

A Una colonia agricola.
B Il carcere del luogo in cui fu commesso il delitto.
C Uno stabilimento a ciò destinato.

1108) Esiste nel registro degli indagati un modello di atti non costituenti reato?

A No, in esso sono indicati solo i reati.
B Sì esiste.
C No, in esso sono indicati solo fatti che non costituiscono reato.

1109) Il pubblico ufficiale, che, nell'esercizio delle sue funzioni, altera un atto vero, commette il reato di:

A falso ideologico commesso dal pubblico ufficiale in atti pubblici.
B contraffazione del sigillo dello Stato.
C falsità materiale commessa dal pubblico ufficiale in atti pubblici.

1110) Che cosa accade se il colpevole di un delitto volontariamente impedisce l'evento?

A È sempre esente da pena.
B Soggiace alla pena prevista per il delitto tentato, diminuita da un terzo alla metà.
C Soggiace alla pena prevista per il delitto tentato, diminuita fino a un terzo.

1111) Quale delle seguenti pene è classificata dal nostro ordinamento come pena principale stabilita per le contravvenzioni?

A Reclusione.
B Ammenda.
C Decadenza dall'esercizio della potestà dei genitori.

1112) Gli interessati all'assegnazione alle sezioni di polizia giudiziaria devono:

A presentare domanda di assegnazione alle amministrazioni di appartenenza.
B l'assegnazione alle sezioni di polizia giudiziaria avviene d'ufficio.
C aver ricevuto onorificenze da parte delle amministrazioni di appartenenza.

1113) Quale affermazione tra le seguenti è quella giusta?

A La polizia giudiziaria non può sequestrare il corpo del reato perché il sequestro è un atto tipico del Pubblico Ministero.
B La polizia giudiziaria può sempre sequestrare il corpo del reato anche senza necessità di una successiva convalida da parte del Pubblico Ministero.
C La polizia giudiziaria può sempre sequestrare il corpo del reato ma il sequestro deve essere convalidato dal Pubblico Ministero.

1114) Qualora vi siano situazioni di urgenza, gli ufficiali di polizia giudiziaria possono disporre il sequestro preventivo:

A purché entro le 12 ore successive trasmettano il verbale al Pubblico Ministero del luogo in cui il sequestro è stato eseguito.
B purché entro le 24 ore successive trasmettano il verbale al Pubblico Ministero del luogo in cui il sequestro è stato eseguito.
C purché entro le 48 ore successive trasmettano il verbale al Pubblico Ministero del luogo in cui il sequestro è stato eseguito.

1115) Ai fini dell'identificazione delle persone nei cui confronti vengono svolte le indagini, la polizia giudiziaria può sempre prendere le impronte digitali:

A no, mai.Ciò sarebbe possibile solo dopo l'accertamento del reato.
B sì, la polizia giudiziaria può procedere alla identificazione anche eseguendo, ove occorra, rilievi dattiloscopici, fotografici e antropometrici.
C Sì ma solo in caso di omicidio.

1116) Se l'indagato o i potenziali testimoni rifiutano di farsi identificare, la polizia giudiziaria può provvedere all'accompagnamento nei propri uffici?

A No può procedere solo all'accusa e allo stato di fermo.
B No procede all'arresto per falsa testimonianza.
C Sì.

1117) La perlustrazione ha lo scopo di esercitare attiva vigilanza:

A nei capoluoghi di provincia.
B nei centri abitati e nelle zone di campagna.
C fuori dai centri abitati.

1118) L'interrogatorio dell'indagato in stato di arresto può essere svolto dalla polizia giudiziaria?

A No.
B Sì ma solo alla presenza del difensore.
C Sì sempre in ogni caso.

1119) Chi esercita le funzioni di Pubblico Ministero nelle indagini preliminari?

A L'ufficiale di polizia giudiziaria.
B I magistrati della Procura della Repubblica presso il tribunale.
C Il giudice per le indagini preliminari.

1120) Con l'espressione armi improprie si intende:

A qualsiasi strumento atto ad offendere la persona.
B armi da guerra e armi comuni da sparo.
C strumenti atti ad offendere che non hanno quale finalità principale l'offesa alla persona.

1121) Le modalità di documentazione dell'attività di indagine sono:

A verbale o annotazione.
B relazione scritta o orale.
C verbale in forma sintetica.

1122) La misura della custodia cautelare in carcere, nel corso delle indagini preliminari, viene disposta:

A dal giudice per le indagini preliminari su richiesta del Pubblico Ministero.
B dal presidente del tribunale su richiesta del Pubblico Ministero.
C dal Pubblico Ministero.

1123) Gli agenti di polizia giudiziaria sono tenuti, ai sensi dell'articolo 124 del codice di procedura penale:

A ad osservare solo le norme del codice di procedura penale inerenti l'attività di indagine.
B ad osservare tutte le norme del codice di procedura penale quando l'inosservanza importa nullità o altra sanzione processuale.
C ad osservare tutte le norme del codice di procedura penale anche quando l'inosservanza non importa nullità o altra sanzione processuale.

1124) Qualora gli ufficiali e gli agenti di polizia giudiziaria abbiano eseguito negligentemente un ordine dell'autorità giudiziaria, il procedimento disciplinare:

A è promosso dal presidente del tribunale su proposta del giudice.
B è promosso dal procuratore generale presso la corte d'Appello.
C è promosso dei magistrati che dirigono gli uffici presso i quali è istituita la sezione.

1125) In base all'articolo 321 del codice di procedura penale, può essere disposto il sequestro preventivo delle cose di cui è consentita la confisca?

A Si.
B Solo nei casi in cui può essere disposta la misura della custodia cautelare.
C No, mai. Si tratta di due istituti con diverse discipline.

1126) Nell'ipotesi di contumacia dell'imputato è possibile in sede di dibattimento dare lettura delle dichiarazioni rese durante le indagini preliminari?

A No mai.
B Sì, ma tali dichiarazioni possono essere utilizzate solo contro l'imputato che le ha rese ma non nei confronti di altri senza il loro consenso.
C Sì in ogni caso e fanno piena prova.

1127) La Procura generale presso la corte di Appello dispone di tutte le sezioni di polizia giudiziaria istituite nel proprio distretto?

A No solo delle sezioni di polizia giudiziaria istituite presso il tribunale.
B No solo delle sezioni di polizia giudiziaria istituite nel distretto, ad eccezione dei casi previsti espressamente dalla legge.
C Sì.

1128) Qualora in relazione ad un determinato fatto vengano disposte misure cautelari, esse perdono immediatamente efficacia quando per tale fatto, nei confronti della persona è:

A pronunciata sentenza di condanna alla reclusione.
B disposta l'archiviazione.
C disposta l'archiviazione ovvero è pronunciata sentenza di non luogo a procedere o di proscioglimento.

1129) Deve essere sempre convalidato dal giudice per le indagini preliminari o dal giudice del dibattimento l'arresto in flagranza di reato?

A No deve essere convalidato solo dal giudice del dibattimento.
B non deve essere convalidato.
C Sì.

1130) La polizia giudiziaria quando compie atti o operazioni che richiedono specifiche competenze tecniche, può avvalersi di persone idonee:

A le quali possono rifiutare la propria opera nei casi previsti dalla legge.
B le quali possono rifiutare la propria opera.
C le quali non possono rifiutare la propria opera.

1131) Le perquisizioni di iniziativa possono essere eseguite:

A solo nei confronti dell'arrestato in flagranza
B nei casi previsti e sussistendone i presupposti.
C sempre se l'arrestato è un recidivo.

1132) La pena da applicare a chi commette un reato:

A deve essere prevista da una legge.
B deve essere prevista da un'ordinanza amministrativa.
C deve essere prevista da un regolamento.

1133) La norma che prevede che un fatto sia reato:

A deve essere contenuta nella legge.
B deve essere contenuta in una delibera della Giunta regionale o in un regolamento.
C deve essere contenuta in un regolamento.

1134) Al fatto previsto come reato da una legge eccezionale si applica questa legge anche se al momento del giudizio sia entrata in vigore una successiva legge eccezionale ma più favorevole di quella anteriore?

A Sì, in ogni caso.
B No, si applica la legge più favorevole purchè preveda la pena dell'arresto.
C No, si applica la legge più favorevole.

1135) Qualora un fatto sia previsto come reato dalla legge del tempo in cui fu commesso il fatto e da una legge successiva le cui disposizioni sono più favorevoli di quelle della prima, quale legge è applicabile?

A La legge più sfavorevole.
B La legge più favorevole.
C La legge in vigore al tempo del fatto anche se più sfavorevole.

1136) Al fatto previsto come reato da una legge eccezionale si applica questa legge, anche se non più in vigore al momento della condanna?

A Sì, a condizione che sia prevista la pena della reclusione o dell'arresto.
B Sì, in ogni caso.
C Sì, a condizione che sia prevista la pena dell'arresto.

1137) E' punibile il fatto che secondo una legge posteriore al tempo della sua commissione non costituisce più reato?

A No, salvo il caso in cui sia previsto da leggi eccezionali o temporanee.
B No, in nessun caso.
C Sì, se si tratta di delitto.

1138) Può applicarsi all'agente una legge che prevede come reato il fatto da lui commesso e che sia entrata in vigore dopo la commissione del fatto?

A Sì, se si tratta di contravvenzione.
B Sì, a condizione che il responsabile conoscesse la prossima emanazione della legge e vi fosse consapevolezza del disvalore dell'atto.
C No, in nessun caso.

1139) La decadenza e la sospensione dall'esercizio della potestà genitoriale sono:

A pene principali per i soli delitti contro la famiglia.
B pene accessorie per i delitti.
C pene principali per i delitti.

1140) Al fatto previsto come reato da un decreto legge e commesso durante il suo vigore si applica il predetto decreto se, al momento del giudizio, non è stato convertito in legge?

A Sì, in ogni caso.
B Sì, ma solo se è prevista la pena della reclusione.
C No, in nessun caso.

1141) La legge penale italiana obbliga:

A tutti coloro che, cittadini o stranieri, si trovano nel territorio dello Stato, salve le eccezioni stabilite dal diritto pubblico interno o dal diritto internazionale.
B tutti i cittadini italiani, ovunque si trovino, salve le eccezioni stabilite dal diritto pubblico interno o dal diritto internazionale.
C tutti i cittadini e gli stranieri, anche se non si trovano nel territorio dello Stato, salve le eccezioni stabilite dal diritto pubblico interno o dal diritto internazionale.

1142) La legge penale italiana si applica anche ai cittadini e agli stranieri che si trovano all'estero?

A Sì, ma limitatamente ai casi stabiliti dalla legge medesima o dal diritto internazionale.
B Sì, se si tratta di delitti.
C Sì, se al momento del giudizio si trovano in Italia.

1143) L'incapacità di contrarre con la pubblica amministrazione è:

A pena principale per i delitti contro la pubblica amministrazione.
B pena accessoria per i delitti.
C pena accessoria per le contravvenzioni.

1144) La pubblicazione della sentenza penale di condanna è:

A pena esclusiva per i delitti.
B pena accessoria comune per i delitti e per le contravvenzioni.
C pena esclusiva per le contravvenzioni.

1145) Agli effetti della legge penale sono considerati "cittadini italiani" gli apolidi residenti nel territorio dello Stato?

A No.Sono "apolidi".
B Sì, solo se hanno commesso delitti.
C Sì.

1146) Agli effetti della legge penale italiana il "territorio della Repubblica" è considerato territorio dello Stato?

A Sì, con esclusione delle acque territoriali.
B Sì, compresi i territori delle ex colonie.
C Sì.

1147) Il reato commesso su un aeromobile italiano si considera commesso nel territorio dello Stato italiano:

A solo se l'aeromobile si trova in un aeroporto italiano.
B solo se si tratta di aeromobile da guerra e sia in Italia.
C ovunque l'aeromobile si trovi, salvo che sia soggetto, secondo il diritto internazionale, a una legge territoriale straniera.

1148) Sono considerati come territorio dello Stato le navi e gli aeromobili italiani?

A Sì, sempre.
B No, in nessun caso.
C Sì, ovunque si trovino, salvo che siano soggetti, secondo il diritto internazionale, a una legge territoriale straniera.

1149) L'estinzione del rapporto di lavoro è:

A pena accessoria per i delitti.
B pena accessoria per i soli delitti aggravati per aver commesso il fatto con abuso di relazioni di ufficio o di prestazione d'opera.
C pena accessoria per le contravvenzioni.

1150) In quali casi si applicano pene pecuniarie fisse?

A Nei reati contro l'economia pubblica.
B Nei reati determinati da fini di lucro e nei reati contro la fede pubblica.
C Nei casi indicati dalla legge.

1151) L'ignoranza della legge penale scusa l'autore di un reato:

A se è inevitabile.
B se dipende da analfabetismo.
C se deriva dalla condizione di straniero.

1152) Si considera commesso nel territorio dello Stato italiano il reato la cui azione è avvenuta sulla terraferma italiana ed il cui evento si è verificato su una nave in navigazione nelle acque territoriali?

A Sì, a condizione che si tratti di nave straniera.
B Sì, in ogni caso.
C Sì, a condizione che si tratti di nave italiana.

1153) Quando il reato si considera commesso nel territorio dello Stato?

A Quando l'azione o l'omissione che lo costituisce sono state commesse nel territorio delle ex colonie.
B Solo quando l'azione o l'omissione che lo costituisce si sono interamente verificate nel territorio dello Stato.
C Quando l'azione o l'omissione che lo costituisce è avvenuta in tutto o in parte nel territorio dello Stato ovvero ivi si è verificato l'evento che ne è la conseguenza.

1154) L'estinzione del rapporto di impiego è:

A pena principale per i delitti.
B pena principale per i soli delitti contro la pubblica amministrazione o la pubblica fede.
C pena accessoria per i delitti.

1155) E' punito secondo la legge italiana il cittadino che commette in territorio estero:

A delitti colposi contro l'incolumità pubblica.
B delitti associativi di stampo mafioso.
C delitti dei pubblici ufficiali a servizio dello Stato, abusando dei poteri inerenti alle loro funzioni.

1156) E' punito secondo la legge italiana lo straniero che commette in territorio estero:

A un reato per il quale speciali disposizioni di legge o convenzioni internazionali stabiliscono l'applicabilità della legge penale italiana.
B delitti dolosi contro l'economia pubblica.
C delitti colposi contro l'incolumità pubblica.

1157) E' punito secondo la legge italiana il cittadino che commette in territorio estero:

A delitti colposi contro l'incolumità pubblica.
B un reato per il quale speciali disposizioni di legge o convenzioni internazionali stabiliscono l'applicabilità della legge penale italiana.
C delitti dolosi contro l'economia pubblica.

1158) E' punito secondo la legge italiana lo straniero che commette in territorio estero:

A delitti colposi contro l'incolumità pubblica o l'economia pubblica.
B delitti contro la personalità dello Stato italiano.
C delitti dolosi contro l'economia pubblica.

1159) E' punito secondo la legge italiana il cittadino che commette in territorio estero:

A delitti di falsità in monete aventi corso legale nel territorio dello Stato.
B delitti colposi contro l'incolumità pubblica o la fede pubblica.
C delitti dolosi contro l'economia pubblica.

1160) E' punito secondo la legge italiana il cittadino che commette in territorio estero:

A delitti dolosi contro l'economia pubblica.
B delitti contro la personalità dello Stato italiano.
C delitti associativi di stampo mafioso.

1161) E' punito secondo la legge italiana lo straniero che commette in territorio estero:

A delitti dei pubblici ufficiali a servizio dello Stato, abusando dei poteri inerenti alle loro funzioni.
B delitti associativi di stampo mafioso.
C delitti dolosi contro l'economia pubblica.

1162) E' punito secondo la legge italiana lo straniero che commette in territorio estero:

A delitti di contraffazione del sigillo dello Stato e di uso di tale sigillo contraffatto.
B delitti associativi di stampo mafioso.
C delitti colposi contro l'incolumità pubblica.

1163) E' punito secondo la legge italiana il cittadino che commette in territorio estero:

A delitti di contraffazione del sigillo dello Stato e di uso di tale sigillo contraffatto.
B delitti dolosi contro l'economia pubblica.
C delitti associativi di stampo mafioso.

1164) E' punito secondo la legge italiana il cittadino che commette in territorio estero:

A delitti dei pubblici ufficiali a servizio dello Stato, violando i doveri inerenti alle loro funzioni.
B delitti associativi di stampo mafioso.
C delitti dolosi contro l'economia pubblica.

1165) E' punito secondo la legge italiana lo straniero che commette in territorio estero:

A delitti di falsità in monete aventi corso legale nel territorio dello Stato.
B delitti colposi contro l'incolumità pubblica.
C delitti dolosi contro l'economia pubblica.

1166) E' punito secondo la legge italiana lo straniero che commette in territorio estero:

A delitti colposi contro l'incolumità pubblica.
B delitti dei pubblici ufficiali a servizio dello Stato, violando i doveri inerenti alle loro funzioni.
C delitti dolosi contro l'economia pubblica.

1167) Agli effetti della legge penale è considerato delitto politico:

A ogni delitto idoneo a turbare il commercio internazionale.
B il delitto comune determinato, in tutto o in parte, da motivi politici.
C ogni delitto idoneo a turbare l'ordine pubblico.

1168) Lo straniero che commette in territorio estero un delitto politico diverso da quelli contro la personalità dello Stato è punito secondo la legge italiana:

A a richiesta del Presidente del Consiglio dei ministri.
B a richiesta del Ministro della giustizia.
C a richiesta del Presidente della Repubblica.

1169) Quali sono le pene comprese sotto la denominazione detentive" o "restrittive della libertà personale"?

A L'ergastolo, la reclusione e l'arresto.
B Il soggiorno obbligato e il divieto di soggiorno.
C La detenzione domiciliare.

1170) Il cittadino che commette in territorio estero un delitto politico, diverso da quelli contro la personalità dello Stato, per il quale è prevista la querela della persona offesa è punito secondo la legge italiana:

A a richiesta del Ministro della giustizia, su querela della persona offesa.
B su querela della persona offesa, se si trova nel territorio dello Stato.
C a richiesta del Presidente del Consiglio dei ministri.

1171) Lo straniero che commette in territorio estero un delitto politico, diverso da quelli contro la personalità dello Stato, per il quale è prevista la querela della persona offesa è punito secondo la legge italiana:

A su querela della persona offesa, se si trova nel territorio dello Stato.
B a richiesta del Ministro della giustizia, su querela della persona offesa.
C su querela della persona offesa.

1172) Il cittadino che commette in territorio estero un delitto politico diverso da quelli contro la personalità dello Stato è punito secondo la legge italiana:

A a richiesta del Ministro dell'interno.
B a richiesta del Presidente del Consiglio dei ministri.
C a richiesta del Ministro della giustizia.

1173) Agli effetti della legge penale è delitto politico:

A ogni delitto che offende un diritto politico del cittadino.
B ogni delitto idoneo a ledere interessi generali.
C ogni delitto idoneo a turbare l'ordine pubblico o un pubblico interesse.

1174) Lo straniero che, a danno di uno Stato estero o di uno straniero, commette all'estero un delitto comune per il quale è stabilita dalla legge italiana la pena dell'ergastolo, è punito secondo la legge medesima:

A se si trova nel territorio dello Stato, vi è richiesta del Ministro della giustizia e l'estradizione non sia accordata ovvero non accettata dal Governo dello Stato in cui il delitto è stato commesso o da quello dello Stato cui lo straniero appartiene.
B se si trova nel territorio dello Stato, vi è istanza dello straniero offeso e l'estradizione non sia accordata ovvero non accettata dal Governo dello Stato in cui il delitto è stato commesso o da quello dello Stato cui lo straniero appartiene.
C se si trova nel territorio dello Stato, vi è richiesta del Governo dello Stato estero o dello straniero offesi e l'estradizione non sia accordata ovvero non accettata dal Governo dello Stato in cui il delitto è stato commesso o da quello dello Stato cui lo straniero appartiene.

1175) Quanto alla durata temporale, l'interdizione dai pubblici uffici:

A può essere solo temporanea.
B può essere perpetua o temporanea.
C non può eccedere mai la durata di un anno.

1176) Se il cittadino è giudicato all'estero per un reato commesso nel territorio dello Stato deve essere anche giudicato nello Stato italiano?

A Sì, se vi è istanza della persona offesa.
B No, mai.Il giudizio è sempre uno.
C Sì.

1177) La polizia giudiziaria si suddivide in:

A quattro dipartimenti: penale, tributario amministrativo, civile.
B sezioni di polizia giudiziaria, servizi di polizia giudiziaria, ufficiali ed agenti di polizia giudiziaria.
C sezioni e servizi locali e nazionali.

1178) La privazione definitiva del diritto di eleggibilità in qualsiasi comizio elettorale deriva:

A dalla pena dell'interdizione da una professione o da un'arte e dall'interdizione legale.
B dalla pena accessoria dell'interdizione perpetua dai pubblici uffici.
C dalla pena dell'interdizione legale.

1179) Può essere dato riconoscimento alla sentenza penale pronunciata per un delitto dall'Autorità giudiziaria di uno Stato estero con il quale esiste un trattato di estradizione:

A se contiene la condanna alla pena della reclusione.
B se il condannato è stato estradato in Italia.
C per dichiarare l'abitualità o la professionalità nel reato o la tendenza a delinquere.

1180) Può essere dato riconoscimento alla sentenza penale pronunciata per un delitto dall'Autorità giudiziaria di uno Stato estero, con il quale esiste un trattato di estradizione:

A quando la sentenza straniera deve essere fatta valere in giudizio nel territorio dello Stato, agli effetti delle restituzioni o del risarcimento del danno, o ad altri effetti civili.
B quando la sentenza straniera contiene esclusivamente la condanna alla restituzione di un bene mobile esistente nel territorio dello Stato.
C quando la sentenza straniera porta condanna ad un risarcimento non inferiore a diecimilatrecentoventinove euro.

1181) Può essere dato riconoscimento alla sentenza penale pronunciata per un delitto dall'Autorità giudiziaria di uno Stato estero, con il quale esiste un trattato di estradizione:

A quando contiene condanna all'ergastolo.
B quando contiene pronuncia di proscioglimento.
C quando, secondo la legge italiana, si dovrebbe sottoporre la persona condannata o prosciolta, che si trova nel territorio dello Stato, a misure di sicurezza personali.

1182) Può essere dato riconoscimento ad una sentenza penale pronunciata per un delitto dall'Autorità giudiziaria di uno Stato estero, con il quale non esiste un trattato di estradizione, se vi è istanza della parte interessata:

A quando la sentenza contiene esclusivamente la condanna alla restituzione di un bene mobile esistente nel territorio dello Stato.
B quando la sentenza contiene la dichiarazione di falsità di un documento.
C quando la sentenza deve essere fatta valere in un giudizio nel territorio dello Stato, agli effetti delle restituzioni o del risarcimento, o ad altri effetti civili.

1183) Può essere dato riconoscimento alla sentenza penale pronunciata per un delitto dall'Autorità giudiziaria di uno Stato estero, con il quale non esiste un trattato di estradizione, ma vi è istanza della parte interessata:

A quando la sentenza straniera porta condanna ad un risarcimento non inferiore a diecimilatrecentoventinove euro.
B quando la sentenza straniera contiene la dichiarazione di falsità di un documento.
C quando la sentenza straniera porta condanna alle restituzioni o al risarcimento del danno.

1184) Può essere dato riconoscimento alla sentenza penale pronunciata per un delitto dall'Autorità giudiziaria di uno Stato estero, con il quale non esiste un trattato di estradizione, se vi è richiesta del Ministro della giustizia:

A quando contiene la condanna alla pena della reclusione.
B quando contiene la condanna per un delitto doloso.
C quando la condanna importerebbe, secondo la legge italiana, una pena accessoria.

1185) Può essere dato riconoscimento alla sentenza penale pronunciata per un delitto dall'Autorità giudiziaria di uno Stato estero, con il quale non esiste un trattato di estradizione, se vi è richiesta del Ministro della giustizia:

A quando contiene condanna per delitto doloso.
B quando contiene pronuncia di proscioglimento.
C quando, secondo la legge italiana, si dovrebbe sottoporre la persona condannata o prosciolta, che si trova nel territorio dello Stato, a misure di sicurezza personali.

1186) Può essere dato riconoscimento alla sentenza penale pronunciata per un delitto dall'Autorità giudiziaria di uno Stato estero, con il quale non esiste un trattato di estradizione, se vi è richiesta del Ministro della giustizia:

A per dichiarare l'abitualità o la professionalità nel reato o la tendenza a delinquere.
B se contiene la condanna alla pena della reclusione.
C se contiene la condanna per un delitto colposo.

1187) Può essere dato riconoscimento alla sentenza penale pronunciata per un delitto dall'Autorità giudiziaria di uno Stato estero con il quale esiste un trattato di estradizione:

A se contiene la condanna alla pena della reclusione.
B per stabilire la recidiva o un altro effetto penale della condanna.
C se contiene la condanna per un delitto associativo.

1188) Può essere dato riconoscimento alla sentenza penale pronunciata per un delitto dall'Autorità giudiziaria di uno Stato estero, con il quale esiste un trattato di estradizione:

A quando la sentenza straniera porta condanna alle restituzioni o al risarcimento del danno.
B quando la sentenza straniera contiene esclusivamente la condanna alla restituzione di un bene mobile esistente nel territorio dello Stato.
C quando la sentenza straniera porta condanna ad un risarcimento non inferiore a diecimilatrecentoventinove euro.

1189) Può essere dato riconoscimento alla sentenza penale pronunciata per un delitto dall'Autorità giudiziaria di uno Stato estero, con il quale non esiste un trattato di estradizione, se vi è richiesta del Ministro della giustizia:

A se contiene la condanna alla pena della reclusione.
B se contiene la condanna per un delitto associativo.
C per stabilire la recidiva o un altro effetto penale della condanna.

1190) Può essere dato riconoscimento alla sentenza penale pronunciata per un delitto dall'Autorità giudiziaria di uno Stato estero con il quale esiste un trattato di estradizione:

A quando contiene la condanna per un delitto doloso.
B quando contiene la condanna per un delitto associativo.
C quando la condanna importerebbe, secondo la legge italiana, una pena accessoria.

1191) L'estradizione non è ammessa:

A se il fatto che forma oggetto della domanda di estradizione integra una contravvenzione.
B se per il fatto che forma oggetto della domanda di estradizione è prevista dalla legge italiana la pena dell'ergastolo o comunque pena elevata.
C se il fatto che forma oggetto della domanda di estradizione non è previsto come reato dalla legge italiana e dalla legge straniera.

1192) L'estradizione può essere concessa od offerta anche per reati non previsti nelle convenzioni internazionali:

A se le convenzioni non ne facciano espresso divieto.
B se si tratta di reati commessi da imputati recidivi.
C se si tratta di reati nei quali sono presenti circostanze aggravanti o offendano beni considerati primari.

1193) Da quali norme è regolata l'estradizione?

A Dalle disposizioni di attuazione del codice di procedura penale.
B Dal regolamento penitenziario e dalla consuetudine.
C Dalla legge penale italiana, dalle convenzioni e dagli usi internazionali.

1194) A quale condizione è ammessa l'estradizione del cittadino?

A A condizione che il cittadino abbia accettato l'estradizione. Si tratta di una scelta personale.
B A condizione che sia espressamente prevista dalla legge italiana.
C A condizione che sia espressamente consentita nelle convenzioni internazionali, e che non si tratti comunque di reati politici.

1195) Quando la legge penale fa dipendere un effetto giuridico dal decorso del tempo, per il computo di questo:

A si osserva il calendario comune.
B si osserva il calendario giudiziario, non tenendo conto del periodo feriale.
C non si tiene conto del tempo durante il quale l'imputato è stato impedito a muoversi a causa di malattia.

1196) Con quale criterio si calcola il termine quando la legge penale stabilisce un termine per il verificarsi di un effetto giuridico?

A Il giorno della decorrenza non è computato nel termine.
B Il giorno finale è computato nel termine.
C I giorni festivi non sono computati nel termine.

1197) Le pene principali stabilite dalla legge per le contravvenzioni sono:

A L'arresto e l'ammenda.
B La libertà vigilata.
C La reclusione e la multa.

1198) L'interdizione dagli uffici direttivi delle persone giuridiche e delle imprese è:

A pena accessoria per i delitti.
B pena principale per i soli delitti contro l'economia pubblica, l'industria e il commercio.
C pena accessoria per le contravvenzioni.

1199) Qualora vi sia una richiesta, gli uffici di vigilanza e di investigazione sono obbligati a prestare la propria opera a favore della pubblica sicurezza o della polizia giudiziaria?

A sì sempre.
B no mai.
C solo in occasione di gravi calamità.

1200) A norma del codice penale, quale delle seguenti affermazioni è esatta:

A Ai fini del calcolo della pena, le circostanze generiche sono sempre valutate come una sola circostanza.
B Ai fini del calcolo della pena, le circostanze generiche sono sempre valutate come una sola circostanza.
C Ai fini del calcolo della pena le circostanze non incidono su di essa.

ELEMENTI DI DIRITTO PENALE E FUNZIONI POLIZIA GIUDIZIARIA
RISPOSTE CORRETTE

1 **B**	2 **C**	3 **A**	4 **A**	5 **C**
6 **A**	7 **C**	8 **A**	9 **A**	10 **A**
11 **C**	12 **C**	13 **B**	14 **A**	15 **C**
16 **A**	17 **C**	18 **C**	19 **B**	20 **C**
21 **C**	22 **C**	23 **A**	24 **A**	25 **B**
26 **B**	27 **C**	28 **A**	29 **B**	30 **B**
31 **B**	32 **C**	33 **C**	34 **B**	35 **A**
36 **A**	37 **C**	38 **A**	39 **C**	40 **B**
41 **B**	42 **C**	43 **C**	44 **A**	45 **C**
46 **A**	47 **A**	48 **A**	49 **B**	50 **B**
51 **C**	52 **C**	53 **B**	54 **C**	55 **A**
56 **B**	57 **A**	58 **A**	59 **C**	60 **C**
61 **B**	62 **B**	63 **B**	64 **A**	65 **B**
66 **B**	67 **B**	68 **C**	69 **C**	70 **B**
71 **B**	72 **B**	73 **C**	74 **B**	75 **C**
76 **B**	77 **A**	78 **C**	79 **C**	80 **B**
81 **A**	82 **C**	83 **A**	84 **A**	85 **B**
86 **C**	87 **A**	88 **C**	89 **C**	90 **C**
91 **B**	92 **C**	93 **A**	94 **C**	95 **A**
96 **A**	97 **C**	98 **A**	99 **C**	100 **A**
101 **B**	102 **C**	103 **B**	104 **B**	105 **B**
106 **B**	107 **A**	108 **A**	109 **C**	110 **A**
111 **A**	112 **C**	113 **B**	114 **C**	115 **A**
116 **B**	117 **A**	118 **A**	119 **A**	120 **B**
121 **A**	122 **B**	123 **B**	124 **A**	125 **A**
126 **C**	127 **A**	128 **B**	129 **C**	130 **C**
131 **A**	132 **A**	133 **B**	134 **C**	135 **B**
136 **B**	137 **C**	138 **A**	139 **B**	140 **A**
141 **C**	142 **B**	143 **B**	144 **B**	145 **C**
146 **A**	147 **B**	148 **C**	149 **C**	150 **C**
151 **A**	152 **A**	153 **B**	154 **A**	155 **B**
156 **C**	157 **C**	158 **B**	159 **C**	160 **A**
161 **B**	162 **B**	163 **B**	164 **A**	165 **A**
166 **B**	167 **B**	168 **A**	169 **A**	170 **B**
171 **A**	172 **B**	173 **C**	174 **C**	175 **B**
176 **C**	177 **C**	178 **B**	179 **A**	180 **A**
181 **B**	182 **C**	183 **C**	184 **B**	185 **B**
186 **B**	187 **A**	188 **B**	189 **C**	190 **C**
191 **A**	192 **A**	193 **A**	194 **C**	195 **B**
196 **A**	197 **B**	198 **A**	199 **A**	200 **B**
201 **C**	202 **C**	203 **B**	204 **A**	205 **C**
206 **B**	207 **A**	208 **A**	209 **C**	210 **A**
211 **A**	212 **A**	213 **B**	214 **C**	215 **A**
216 **C**	217 **C**	218 **B**	219 **A**	220 **A**
221 **A**	222 **B**	223 **C**	224 **A**	225 **C**
226 **C**	227 **A**	228 **B**	229 **A**	230 **A**
231 **C**	232 **B**	233 **B**	234 **A**	235 **B**

236 **B**	237 **C**	238 **B**	239 **A**	240 **C**
241 **C**	242 **A**	243 **A**	244 **A**	245 **A**
246 **C**	247 **B**	248 **C**	249 **C**	250 **C**
251 **A**	252 **B**	253 **C**	254 **C**	255 **C**
256 **A**	257 **B**	258 **C**	259 **B**	260 **C**
261 **B**	262 **C**	263 **B**	264 **B**	265 **A**
266 **A**	267 **C**	268 **C**	269 **B**	270 **C**
271 **B**	272 **A**	273 **C**	274 **B**	275 **A**
276 **B**	277 **B**	278 **C**	279 **B**	280 **C**
281 **A**	282 **C**	283 **A**	284 **B**	285 **C**
286 **C**	287 **B**	288 **B**	289 **B**	290 **C**
291 **C**	292 **A**	293 **C**	294 **A**	295 **B**
296 **C**	297 **B**	298 **B**	299 **A**	300 **A**
301 **A**	302 **B**	303 **B**	304 **A**	305 **C**
306 **A**	307 **B**	308 **A**	309 **C**	310 **A**
311 **A**	312 **B**	313 **C**	314 **B**	315 **C**
316 **B**	317 **C**	318 **A**	319 **C**	320 **C**
321 **C**	322 **B**	323 **C**	324 **A**	325 **C**
326 **C**	327 **A**	328 **C**	329 **B**	330 **C**
331 **A**	332 **C**	333 **C**	334 **C**	335 **C**
336 **C**	337 **A**	338 **C**	339 **B**	340 **C**
341 **C**	342 **B**	343 **A**	344 **A**	345 **C**
346 **A**	347 **A**	348 **A**	349 **B**	350 **A**
351 **A**	352 **C**	353 **C**	354 **C**	355 **A**
356 **C**	357 **C**	358 **A**	359 **A**	360 **A**
361 **B**	362 **A**	363 **C**	364 **C**	365 **A**
366 **A**	367 **B**	368 **B**	369 **B**	370 **B**
371 **A**	372 **C**	373 **A**	374 **C**	375 **A**
376 **A**	377 **B**	378 **A**	379 **A**	380 **B**
381 **B**	382 **A**	383 **B**	384 **B**	385 **C**
386 **A**	387 **A**	388 **C**	389 **C**	390 **A**
391 **A**	392 **C**	393 **B**	394 **A**	395 **A**
396 **A**	397 **C**	398 **C**	399 **A**	400 **B**
401 **A**	402 **A**	403 **C**	404 **B**	405 **A**
406 **B**	407 **B**	408 **B**	409 **B**	410 **C**
411 **B**	412 **C**	413 **A**	414 **B**	415 **A**
416 **C**	417 **A**	418 **A**	419 **B**	420 **B**
421 **B**	422 **A**	423 **C**	424 **B**	425 **C**
426 **A**	427 **C**	428 **B**	429 **C**	430 **A**
431 **C**	432 **A**	433 **C**	434 **A**	435 **B**
436 **C**	437 **A**	438 **C**	439 **B**	440 **A**
441 **C**	442 **C**	443 **B**	444 **C**	445 **A**
446 **A**	447 **C**	448 **C**	449 **A**	450 **A**
451 **C**	452 **C**	453 **C**	454 **B**	455 **A**
456 **B**	457 **A**	458 **B**	459 **C**	460 **C**
461 **B**	462 **C**	463 **C**	464 **A**	465 **B**
466 **A**	467 **C**	468 **A**	469 **A**	470 **A**
471 **C**	472 **C**	473 **C**	474 **A**	475 **B**
476 **B**	477 **A**	478 **A**	479 **C**	480 **C**
481 **B**	482 **C**	483 **A**	484 **B**	485 **C**
486 **A**	487 **A**	488 **C**	489 **C**	490 **C**
491 **A**	492 **A**	493 **B**	494 **C**	495 **B**
496 **B**	497 **C**	498 **A**	499 **A**	500 **A**
501 **C**	502 **C**	503 **C**	504 **A**	505 **B**
506 **B**	507 **B**	508 **B**	509 **A**	510 **C**

511 **A**	512 **C**	513 **C**	514 **B**	515 **B**
516 **B**	517 **C**	518 **C**	519 **B**	520 **C**
521 **C**	522 **A**	523 **A**	524 **A**	525 **C**
526 **A**	527 **A**	528 **B**	529 **C**	530 **B**
531 **A**	532 **A**	533 **B**	534 **B**	535 **A**
536 **A**	537 **B**	538 **C**	539 **B**	540 **B**
541 **C**	542 **B**	543 **C**	544 **C**	545 **A**
546 **C**	547 **A**	548 **B**	549 **B**	550 **A**
551 **B**	552 **B**	553 **B**	554 **B**	555 **A**
556 **C**	557 **B**	558 **B**	559 **A**	560 **A**
561 **B**	562 **C**	563 **A**	564 **B**	565 **C**
566 **A**	567 **B**	568 **C**	569 **C**	570 **C**
571 **A**	572 **C**	573 **A**	574 **C**	575 **C**
576 **B**	577 **A**	578 **A**	579 **C**	580 **B**
581 **C**	582 **C**	583 **B**	584 **B**	585 **B**
586 **A**	587 **C**	588 **C**	589 **A**	590 **C**
591 **B**	592 **A**	593 **B**	594 **C**	595 **C**
596 **A**	597 **C**	598 **C**	599 **C**	600 **A**
601 **B**	602 **B**	603 **A**	604 **C**	605 **C**
606 **A**	607 **C**	608 **A**	609 **A**	610 **C**
611 **C**	612 **C**	613 **A**	614 **B**	615 **A**
616 **C**	617 **A**	618 **A**	619 **B**	620 **A**
621 **B**	622 **C**	623 **A**	624 **C**	625 **A**
626 **B**	627 **C**	628 **B**	629 **A**	630 **A**
631 **C**	632 **C**	633 **C**	634 **A**	635 **C**
636 **A**	637 **C**	638 **C**	639 **B**	640 **B**
641 **C**	642 **C**	643 **C**	644 **C**	645 **B**
646 **B**	647 **C**	648 **B**	649 **A**	650 **C**
651 **A**	652 **B**	653 **B**	654 **C**	655 **A**
656 **C**	657 **A**	658 **C**	659 **A**	660 **A**
661 **A**	662 **C**	663 **B**	664 **C**	665 **B**
666 **A**	667 **A**	668 **A**	669 **B**	670 **A**
671 **A**	672 **C**	673 **A**	674 **B**	675 **C**
676 **A**	677 **A**	678 **A**	679 **C**	680 **B**
681 **A**	682 **B**	683 **C**	684 **C**	685 **A**
686 **C**	687 **C**	688 **B**	689 **C**	690 **A**
691 **C**	692 **B**	693 **C**	694 **B**	695 **A**
696 **A**	697 **B**	698 **A**	699 **A**	700 **A**
701 **A**	702 **C**	703 **B**	704 **C**	705 **A**
706 **B**	707 **C**	708 **C**	709 **B**	710 **C**
711 **B**	712 **B**	713 **A**	714 **C**	715 **C**
716 **A**	717 **C**	718 **B**	719 **C**	720 **A**
721 **C**	722 **A**	723 **C**	724 **C**	725 **B**
726 **C**	727 **A**	728 **C**	729 **B**	730 **B**
731 **A**	732 **C**	733 **B**	734 **A**	735 **C**
736 **A**	737 **B**	738 **B**	739 **B**	740 **A**
741 **C**	742 **B**	743 **B**	744 **A**	745 **C**
746 **A**	747 **B**	748 **A**	749 **C**	750 **C**
751 **B**	752 **C**	753 **A**	754 **B**	755 **C**
756 **A**	757 **B**	758 **C**	759 **B**	760 **C**
761 **A**	762 **B**	763 **B**	764 **B**	765 **C**
766 **B**	767 **A**	768 **B**	769 **A**	770 **B**
771 **B**	772 **A**	773 **C**	774 **B**	775 **A**
776 **B**	777 **B**	778 **C**	779 **A**	780 **C**
781 **C**	782 **A**	783 **C**	784 **B**	785 **A**

786 **A**	787 **C**	788 **C**	789 **A**	790 **C**
791 **B**	792 **C**	793 **C**	794 **B**	795 **C**
796 **C**	797 **B**	798 **C**	799 **B**	800 **B**
801 **B**	802 **A**	803 **B**	804 **B**	805 **A**
806 **B**	807 **C**	808 **C**	809 **A**	810 **B**
811 **B**	812 **A**	813 **C**	814 **C**	815 **A**
816 **A**	817 **A**	818 **C**	819 **A**	820 **C**
821 **B**	822 **C**	823 **C**	824 **B**	825 **B**
826 **B**	827 **B**	828 **C**	829 **B**	830 **C**
831 **A**	832 **B**	833 **B**	834 **A**	835 **A**
836 **A**	837 **A**	838 **A**	839 **C**	840 **A**
841 **C**	842 **C**	843 **A**	844 **A**	845 **A**
846 **A**	847 **B**	848 **B**	849 **C**	850 **C**
851 **C**	852 **B**	853 **B**	854 **B**	855 **B**
856 **C**	857 **C**	858 **B**	859 **B**	860 **A**
861 **A**	862 **B**	863 **B**	864 **B**	865 **A**
866 **B**	867 **C**	868 **A**	869 **B**	870 **B**
871 **C**	872 **A**	873 **B**	874 **A**	875 **B**
876 **C**	877 **C**	878 **B**	879 **A**	880 **A**
881 **C**	882 **A**	883 **C**	884 **C**	885 **A**
886 **C**	887 **C**	888 **A**	889 **C**	890 **B**
891 **A**	892 **A**	893 **A**	894 **B**	895 **C**
896 **A**	897 **B**	898 **B**	899 **C**	900 **B**
901 **A**	902 **C**	903 **B**	904 **C**	905 **A**
906 **C**	907 **A**	908 **A**	909 **C**	910 **C**
911 **C**	912 **A**	913 **A**	914 **C**	915 **A**
916 **B**	917 **A**	918 **C**	919 **B**	920 **A**
921 **C**	922 **B**	923 **A**	924 **C**	925 **A**
926 **A**	927 **B**	928 **A**	929 **B**	930 **C**
931 **A**	932 **A**	933 **C**	934 **C**	935 **A**
936 **B**	937 **B**	938 **A**	939 **C**	940 **C**
941 **C**	942 **A**	943 **C**	944 **A**	945 **B**
946 **B**	947 **A**	948 **A**	949 **B**	950 **C**
951 **B**	952 **C**	953 **B**	954 **A**	955 **C**
956 **A**	957 **A**	958 **C**	959 **B**	960 **A**
961 **A**	962 **A**	963 **C**	964 **C**	965 **B**
966 **B**	967 **C**	968 **C**	969 **A**	970 **A**
971 **C**	972 **B**	973 **A**	974 **C**	975 **C**
976 **A**	977 **A**	978 **A**	979 **B**	980 **A**
981 **A**	982 **B**	983 **B**	984 **B**	985 **C**
986 **A**	987 **C**	988 **B**	989 **A**	990 **C**
991 **C**	992 **B**	993 **C**	994 **A**	995 **C**
996 **B**	997 **B**	998 **B**	999 **B**	1000 **B**
1001 **C**	1002 **C**	1003 **B**	1004 **A**	1005 **B**
1006 **A**	1007 **B**	1008 **A**	1009 **C**	1010 **C**
1011 **B**	1012 **C**	1013 **B**	1014 **A**	1015 **A**
1016 **C**	1017 **C**	1018 **A**	1019 **A**	1020 **B**
1021 **A**	1022 **A**	1023 **A**	1024 **A**	1025 **A**
1026 **A**	1027 **C**	1028 **C**	1029 **A**	1030 **B**
1031 **C**	1032 **B**	1033 **A**	1034 **C**	1035 **A**
1036 **C**	1037 **A**	1038 **C**	1039 **B**	1040 **B**
1041 **A**	1042 **B**	1043 **C**	1044 **C**	1045 **B**
1046 **C**	1047 **C**	1048 **C**	1049 **B**	1050 **C**
1051 **A**	1052 **C**	1053 **C**	1054 **C**	1055 **A**
1056 **A**	1057 **A**	1058 **C**	1059 **B**	1060 **B**

1061 **A**	1062 **B**	1063 **A**	1064 **A**	1065 **B**
1066 **B**	1067 **A**	1068 **A**	1069 **C**	1070 **B**
1071 **A**	1072 **B**	1073 **A**	1074 **A**	1075 **A**
1076 **B**	1077 **B**	1078 **B**	1079 **C**	1080 **A**
1081 **A**	1082 **A**	1083 **C**	1084 **B**	1085 **A**
1086 **B**	1087 **B**	1088 **C**	1089 **B**	1090 **A**
1091 **A**	1092 **C**	1093 **A**	1094 **A**	1095 **B**
1096 **A**	1097 **A**	1098 **B**	1099 **B**	1100 **C**
1101 **A**	1102 **C**	1103 **A**	1104 **A**	1105 **C**
1106 **A**	1107 **C**	1108 **B**	1109 **C**	1110 **B**
1111 **B**	1112 **A**	1113 **C**	1114 **C**	1115 **B**
1116 **C**	1117 **C**	1118 **A**	1119 **B**	1120 **C**
1121 **A**	1122 **A**	1123 **C**	1124 **B**	1125 **A**
1126 **B**	1127 **C**	1128 **C**	1129 **C**	1130 **C**
1131 **B**	1132 **A**	1133 **A**	1134 **A**	1135 **B**
1136 **B**	1137 **A**	1138 **C**	1139 **B**	1140 **C**
1141 **A**	1142 **A**	1143 **B**	1144 **B**	1145 **C**
1146 **C**	1147 **C**	1148 **C**	1149 **A**	1150 **C**
1151 **A**	1152 **B**	1153 **C**	1154 **C**	1155 **C**
1156 **A**	1157 **B**	1158 **B**	1159 **A**	1160 **B**
1161 **A**	1162 **A**	1163 **A**	1164 **A**	1165 **A**
1166 **B**	1167 **B**	1168 **B**	1169 **A**	1170 **A**
1171 **B**	1172 **C**	1173 **A**	1174 **A**	1175 **B**
1176 **C**	1177 **B**	1178 **B**	1179 **C**	1180 **A**
1181 **C**	1182 **C**	1183 **C**	1184 **C**	1185 **C**
1186 **A**	1187 **B**	1188 **A**	1189 **C**	1190 **C**
1191 **C**	1192 **A**	1193 **C**	1194 **C**	1195 **A**
1196 **A**	1197 **A**	1198 **A**	1199 **A**	1200 **B**

CONOSCENZA BASE STRUMENTI DI OFFICE AUTOMATION DOMANDE

1) La numerazione binaria, utilizzata nell'ambito dell'informatica, deve il suo nome al fatto che:

A vengono utilizzate solo e soltanto due cifre: 0 e 1
B si basa solo su due simboli di cui solo uno può essere un numero.
C ammette solo numeri composti da due cifre.

2) In ambito informatico, il termine "protocollo" è riferito:

A alle misure di sicurezza tese a evitare i crimini informatici.
B a una simulazione di un programma che ne spiega le caratteristiche principali.
C all'insieme delle regole del processo di comunicazione tra terminali e apparati per il funzionamento della comunicazione in rete

3) Il termine "wireless" indica:

A l'avvio di una particolare funzionalità per la gestione dei task del sistema.
B i sistemi di comunicazione tra dispositivi elettronici che non fanno uso di cavi
C un tipo di cavo a fibra ottica per la comunicazione tra unità centrale e periferica.

4) Quale delle seguenti tipologie di memoria richiede l'alimentazione per mantenere le informazioni memorizzate?

A RAM
B ROM.
C Flash memory.

5) Quale funzione ha il programma «setup» di Windows?

A Installare il Sistema Operativo e/o modificare l'installazione precedente
B Proteggere il computer dai virus.
C Avviare il computer in modalità MS-DOS.

6) Nel programma Microsoft Excel, che cosa si intende per "formula"?

A Un segno o un simbolo che specifica il tipo di calcolo da eseguire.
B Un valore costante non calcolato.
C Un'equazione che esegue calcoli su valori contenuti in un foglio di lavoro

7) In informatica, la GNU GPL è:

A un tipo di licenza copyleft per l'uso del software.
B una infrastruttura di rete.
C un browser per Internet.

8) Le reti a commutazione utilizzano due diversi tecnologie di commutazione commutazione di circuito e commutazione di pacchetto. In una commutazione di circuito:

A comunicazioni di più utenti viaggiano sulla stessa linea.
B la linea è impegnata finché non cessa la comunicazione tra i due utenti che l'hanno impegnata.
C la trasmissione dei dati viaggia molto veloce.

9) L'apparato di rete hardware o software che filtra tutti i pacchetti in entrata e in uscita da una rete è definito:

A mainframe
B firefox
C firewall

10) In Windows è possibile usare una stampante di rete con un vecchio programma MS-DOS?

A No, un'applicazione MS-DOS stampa solo sulle stampanti locali.
B Sì, ma solo se si avvia il computer in modalità MS-DOS.
C Sì, purché la stampante sia configurata come connessa a una porta stampante, come ad es. LPT1

11) Come è chiamato il software di base che gestisce le risorse hardware e software del computer?

A File system.
B Interfaccia.
C Sistema operativo

12) In Excel, quale è l'effetto dell'istruzione: =a2+10?

A Addiziona 10 al valore della cella a2
B Ripete il carattere "+" per dieci volte.
C Causa un messaggio di errore.

13) Per digitare la "chiocciola" (@) in una tastiera italiana quali tasti è necessario premere?

A Si tiene premuto il tasto ALT GR
B Si tiene premuto il tasto MAIUSC..
C Si tiene premuto il tasto ALT.

14) Quale delle seguenti affermazioni relative all'indirizzo IP è corretta?

A L'indirizzo IP viene assegnato a livello software
B L'indirizzo IP viene assegnato dal produttore.
C L'indirizzo IP può cambiare nel tempo.

15) Nel software Word, il comando "salva con nome..." serve per:

A salvare un documento con un nome diverso da quello originale
B modificare i margini di un documento.
C avviare il controllo ortografico di un documento aperto.

16) Quali dispositivi hardware consentono al titolare di apporre una firma digitale o di autenticarsi in modalità sicura su un sito web?

A carte di credito elettroniche
B pendrive
C smart card e token USB

17) Quale dei seguenti è un tipico valore di risoluzione in un monitor per PC?

A 1000 x 600.
B 1920 x 1080
C 2100 x 1700.

18) Quale delle seguenti affermazioni NON è corretta?

A La fibra ottica ha un banda di trasmissione più bassa dei cavi di metallo
B La fibra ottica può essere composta da materiale vetroso.
C La fibra ottica trasmette messaggi sotto forma di onde luminose.

19) Tra le seguenti unità di misura della memoria di un computer, o di dispositivi ad esso correlati, equivale a circa 8 milioni di bit:

A Kilobyte
B Gigabyte
C Megabyte

20) Di norma, come sono indicate le dimensioni dello schermo di un personal computer?

A In centimetri sulla base dello schermo.
B In pollici sulla diagonale dello schermo
C In centimetri sull'altezza dello schermo.

21) Premendo contemporaneamente i tasti Ctrl + Alt + Canc:

A si spegne un computer Macintosh.
B si resetta un computer con sistema operativo MS-DOS.
C si resetta un computer con sistema operativo Windows.

22) Gli acronimi Il POP e l'IMAP indicano:

A il primo un protocollo di invio e-mail, il secondo un protocollo di ricezione e-mail.
B entrambi protocolli di comunicazione per la spedizione di e-mail.
C protocolli di comunicazione per la ricezione di e-mail

23) Il tasto Escape (o Esc)

A serve a cancellare i caratteri alla sinistra del cursore.
B serve a confermare le scelte e i comandi.
C serve ad annullare l'operazione in corso

24) Quando è opportuno utilizzare il disco di ripristino?

A Nel momento in cui all'accensione del computer non si riesce ad avviare Windows
B Esclusivamente prima di effettuare un backup.
C Ogni qual volta si vuole ripristinare dei dati erroneamente cancellati.

---

25) Dei seguenti programmi è un elaboratore di testi:

A Powerpoint.
B Wordpad
C Access.

---

26) Come è chiamato il sottosistema informatico di elaborazione e gestione del traffico di informazioni che offre servizi ad altri computer collegati in rete?

A server
B hub
C cloud

---

27) Con l'espressione "backup" si intende:

A l'aggiornamento automatico dei programmi del PC.
B un salvataggio di dati che si effettua periodicamente su supporti di memoria esterni per poter essere conservati.
C un salvataggio di dati che si effettua periodicamente solo su supporti di memoria interni.

---

28) Attraverso il «blocco note» di Windows, è possibile:

A modificare e creare un file .htm
B elaborare file grafici.
C solamente prendere appunti per poi poterli salvare in un file .txt.

---

29) Il formato che indica la copia fedele dei contenuti di un supporto CD- Rom o DVD-Rom è:

A .INF
B .EXE
C .ISO

---

30) Per linguaggio di programmazione si intende:

A un componente operativo del microprocessore.
B l'insieme di regole che servono a governare lo scambio di dati tra elaboratori.
C la codifica dell'algoritmo che il computer deve eseguire.

---

31) Un software di cui il codice sorgente è a disposizione degli utenti è chiamato:.

A open source
B freeware.
C beta release.

---

32) Nel linguaggio informatico, il termine «cookie» si riferisce a:

A programmi per l'individuazione e la correzione di errori nell'ortografia delle parole.
B un programma per la scrittura di pagine web in linguaggio SEO.
C un insieme di informazioni che un server web memorizza nell'hard-disk di un utente che si è collegato al suo sito internet

---

33) Le finestre di dialogo:

A sono associate a molti comandi di menu per consentire all'utente di specificare meglio le operazioni richieste al sistema.
B sostituiscono le barre dei menu in alcune applicazioni con interfaccia grafica particolarmente avanzata.
C consistono in una serie di regole che disciplinano il comportamento in rete.

---

34) Su alcuni servizi web e social network una parola o una frase priva di spazi preceduta dal simbolo "cancelletto" è detta:

A hashtag
B banner
C post

---

35) Per inviare in allegato a una mail un foglio di calcolo che non si vuole venga modificato, occorre:

A salvare il foglio in formato PWD
B salvare il foglio nel formato PDF protetto.
C salvare due copie in modo che una rimanga nel computer di partenza.

---

36) In una LAN, il mac address è rappresentato normalmente da:

A sei coppie di valori esadecimali
B dodici coppie di valori decimali.
C tre coppie di valori decimali.

---

37) Una Wide Area Network (WAN) è:

A una rete di comunicazione geografica, e indica una rete di computer con un'ampia estensione territoriale
B una rete che connette computer e dispositivi di rete installati all'interno di una stesso edificio
C un rete che consente di gestire l'interazione tra client e server in un contesto web.

---

38) È possibile collegare un monitor con una risoluzione pari a 1980 x 1020 ad una scheda grafica con una risoluzione 800 x 600?

A Sì, ma è necessario disporre di un cavo adattatore.
B Sì, la risoluzione massima sarà 800 x 600
C No, i due dispositivi non sono compatibili.

---

39) Perché la corretta estensione di un file è importante?

A Perché serve a impedire la cancellazione di un file da una cartella.
B Perché serve a copiare un file da una cartella a una sottocartella.
C Perché serve a correlare il file con il programma appropriato.

---

40) In un foglio di calcolo la combinazione di tasti CTRL+Y serve per:

A ripristinare la digitazione annullata.
B cancellare una formula.
C copiare il contenuto di una cella.

---

41) Un query:

A consente di effettuare ricerche attraverso uno dei motori di ricerca presenti sul Web.
B consente la creazione, la cancellazione e la modifica dei dati contenuti in un database
C consente di estrarre informazioni memorizzate in tabelle diverse e di assemblarle in una maschera o in un report

---

42) Nell'ambito dell'informatica dispositivi, strumenti o meccanismi caratterizzati da una certa versatilità strumenti capaci di svolgere qualunque compito vengono definiti:

A touch screen
B general purpose
C wireless

---

43) Che cosa indica il termine Client-Server?

A Una un'architettura di rete nella quale un computer client o terminale si connette ad un server per la fruizione di un servizio
B Qualunque forma di transazione economica nella quale le parti interagiscono elettronicamente.
C La relazione tra l'Internet Service Provider e i suoi clienti.

---

44) Utilizzando il programma di calcolo Excel, quale delle seguenti formule dà errore?

A =24&10
B =24<10
C =24!10

---

45) Un dispositivo esterno collegato all'unità centrale di un computer è detto:

A Periferica.
B Output
C Estensione.

---

46) Come si definisce la configurazione del computer tramite la quale è possibile avviare due sistemi operativi diversi in alternativa tra loro?

A Dual boot
B Dual start.
C Boot start.

---

47) In Microsoft Word, attraverso quale menu è possibile inserire un commento?

A Dati
B Revisione
C Visualizza

---

48) In un programma di presentazione lo scorrimento delle diapositive avviene:

A usando i tasti numerici.
B usando i tasti direzionali.
C usando i tasti Shift+Tab.

---

49) Quale tra le seguenti estensioni identifica un file di presentazione?

A .gif
B .pdf
C .ppt

---

50) La memoria veloce non visibile al software e completamente gestita dall'hardware, che memorizza i dati più recentemente usati della memoria principale e che serve per registrare i dati utilizzati di frequente dalla CPU è:

A la memoria cache
B la memoria ROM
C la memoria RAM

---

51) Un database report:

A è un insieme di dati migrati da un foglio di calcolo su una database relazionale attraverso opportuni strumenti software.
B è un software che consente la creazione, la cancellazione e la modifica dei dati contenuti in un database.
C è uno strumento per visualizzare, su carta o su video, o per memorizzare su file le informazioni contenute in un database.

---

52) Azionando il comando "Ordina" di Microsoft Word:

A si ordinano i documenti presenti nell'elenco dei documenti recenti.
B si ordinano i documenti presenti in una cartella.
C si dispone la selezione corrente in ordine alfabetico e numerico.

---

53) Quale suffisso, tra i seguenti, identifica sicuramente un documento grafico?

A .mdb.
B .dot.
C .gif

---

54) Il Cloud è una tecnologia che consente:

A di usufruire, tramite server remoto, di risorse software e hardware (come memorie di massa per l'archiviazione di dati).
B di usufruire, tramite sistemi ibridi, di sole risorse software.
C di usufruire, tramite server, di sole risorse hardware per archiviare documenti cartacei.

---

55) Quale componente è considerato il "cervello" di un computer?

A L'hardware.
B La rom.
C La CPU o processore

---

56) Come può essere definito un programma?

A L'insieme delle istruzioni che vengono eseguite da un computer durante la fase di avvio.
B La descrizione di un algoritmo in un linguaggio adatto a essere eseguito da un computer
C L'implementazione fisica di uno dei componenti della macchina di turing.

---

57) Con quale carattere iniziano le formule utilizzate da Microsoft Excel?

A ?
B $
C =

---

58) IMAP è l'acronimo di:

A Internet Message Algorithm Protocol
B Internet Message Asynchronous Protocol
C Internet Message Access Protocol

---

59) Cosa si intende con la parola «driver»?

A Un programma di assistenza in linea.
B un'applicazione per l'acquisizione, la presentazione e la navigazione di risorse sul web.
C l'insieme di procedure software, spesso scritte in assembly, che permette ad un sistema operativo di pilotare un dispositivo

---

60) In Microsoft Word, l'interruzione di pagine si inserisce

A premendo contemporaneamente i tasti ALT+ INVIO
B premendo contemporaneamente i tasti CTRL + INVIO
C premendo contemporaneamente i tasti CMD + INVIO

---

61) Una rete intranet è:

A un altro nome con cui viene chiamata la rete internet.
B una rete locale (LAN) a cui possono accedere liberamente computer-utenti anche esterni all'organizzazione principale.
C una rete aziendale privata completamente isolata dalla rete esterna (Internet) a livello di servizi offerti

---

62) Quale delle seguenti applicazioni consente di modificare le impostazioni dello schermo, del mouse e della tastiera in ambiente MS-Windows?

A Risorse del computer.
B Pannello di controllo .
C Gestione risorse.

---

63) In Microsoft Excel la combinazione di tasti "alt+f4":

A salva il documento corrente.
B trova il successivo errore ortografico/grammaticale.
C chiude l'applicazione attiva di Word

---

64) Un browser può rifiutare un cookie?

A È possibile solo per alcuni tipi di cookie.
B Si, modificando opportunamente le impostazioni del browser relative alla privacy
C Si, ma solo se il sito web lo consente.

---

65) Se in Excel, all'interno di una cella si digita: "+2*2*5-5" e si preme invio, appare:

A il testo "#nome"
B il numero 15
C il numero 5

---

66) Il tasto CAPS LOCK sulla tastiera serve per attivare

A una modalità di inserimento del testo in cui le lettere sono sempre minuscole.
B una modalità di inserimento del testo in cui le lettere sono sempre in grassetto.
C una modalità di inserimento del testo in cui le lettere sono sempre maiuscole.

---

67) Per selezionare un'intera colonna di un foglio di Microsoft Excel è necessario cliccare:

A sulla cella che contiene il nome della colonna.
B due volte sulla prima cella contenente i dati della riga interessata.
C sulla prima cella in alto a sinistra.

---

68) L'acronimo "CCN" che compare generalmente sulle maschere di scrittura di una e-mail significa

A Check Concordato Nascosto
B Copia Conoscenza Nascosta
C Check Controll Nativo

---

69) Quale delle seguenti affermazioni relative ai documenti letti da uno scanner è corretta?

A Sono esclusivamente elaborati in tabelle mdb.
B Possono sempre essere elaborati in forma grafica
C Sono generati esclusivamente in formato xls.

---

70) In Windows, l'estensione «.png» che segue il nome del file indica:

A file di testo.
B file compressi.
C immagini

---

71) Che cosa si intende per attivazione di un software commerciale?

A L'inserimento del software nel registro del sistema operativo.
B La prima fase del processo di installazione.
C La verifica da parte del produttore dell'originalità' del software e l'abilitazione all'utilizzo

---

72) Il programma Wordpad serve:

A serve per scrivere e inviare mail.
B per l'elaborazione di testi.
C serve per navigare in internet.

73) Un programma di compressione viene utilizzato per:

A effettuare una scansione antivirus dell'hard disk di sistema.
B ridurre le dimensioni di un file o di una cartella.
C ottimizzare lo spazio libero sull'hard disk o su un altro dispositivo di memoria di massa.

74) Una periferica Wi-Fi è in comunicazione con uno o più computer se è integrata con:

A un HUB a più porte Rj45.
B una scheda di rete wireless
C una porta ad infrarossi Infrared Device Application IrDA.

75) In ambiente Windows, un "contenitore" di file si chiama:

A pacco.
B scatola.
C cartella

76) Il TCP/IP è:

A internet.
B un protocollo di comunicazione
C una rete di computer.

77) Uno schermo LCD è...

A uno schermo limitato dalla casa costruttrice a 256 colori.
B uno schermo in bianco e nero.
C uno schermo a cristalli liquidi

78) In Microsoft WORD per cancellare il testo a sinistra del cursore, si utilizza il tasto:

A ctrl + alt
B backspace
C cmd+v

79) L'acronimo URL indica:

A l'indirizzo di una risorsa raggiungibile attraverso Internet.
B un'applicazione Web.
C un protocollo di comunicazione.

80) Un annuncio pubblicitario su una pagina web si indica con il termine:

A Banner
B Browser
C Cookie

81) L'insieme di tecnologie hardware e software che consentono di archiviare ed elaborare dati tramite Web si chiama:

A Cloud Computing
B Podcasting
C Download

82) Perché una password sia efficace:

A deve comprendere anche caratteri numerici.
B deve essere di poche lettere per ricordarla più facilmente.
C non deve contenere caratteri numerici.

83) I tasti funzione sulla tastiera vanno da F1 a:

A F12
B F10
C F11

84) Da quanti bit è costituito un Kbyte?

A 1028
B 1000
C 8192

85) Avendo in un foglio Excel i seguenti valori nelle celle: A1=10, A2=4, A3=2, qual è il risultato della formula =(A1*A3)/A2?

A 5
B 6
C 10

---

86) Con quale sigla si indica l'indirizzo assegnato ai computer collegati a internet?

A TELNET
B WEB
C IP

---

87) Microsoft Outlook è:

A un client di posta elettronica
B un provider
C un browser

---

88) In ambiente Windows, la sequenza di tasti "ALT + F4"

A serve a chiudere la finestra corrente.
B si usa per mettere il computer in standby.
C serve per spegnere il computer.

---

89) Un file con estensione .mp4 contiene:

A musica o video.
B testo.
C immagini.

---

90) Un Trojan è:

A un tipo di cookie.
B un virus che viene mascherato all'interno di un'applicazione apparentemente inoffensiva.
C un programma di download di applicazioni.

---

91) Con quale termine si indica lo scaricamento di dati da internet?

A Upload
B Download
C Back up

---

92) Quale dei seguenti è un esempio di browser?

A Google Chrome
B Skype
C Facebook

---

93) La RAM è:

A una memoria volatile
B un'unità input
C una file di sola lettura

---

94) L'icona che rappresenta un"lucchetto" in un browser indica generalmente:

A che il sito è protetto da un certificato SSL (per la crittografia e l'integrità dei dati, nonché per l'identificazione certa della fonte).
B che il sito è bloccato per intenso traffico
C che il sito è a pagamento

---

95) Cosa si intende per copia di backup?

A Una copia dei dati sull'hard-disk del proprio computer.
B Una copia dei dati su supporti di memoria diversi dall'hard-disk del proprio computer
C Una copia dei dati nella memoria volatile.

---

96) Motore di ricerca e directory in che cosa differiscono?

A Il motore di ricerca è un portale Web, la directory solo un sito.
B La directory ha un database mediamente meno esteso di quello di un motore di ricerca
C Sono la stessa cosa, con la differenza che il motore di ricerca è nato prima della directory.

---

97) Le più popolari famiglie di sistema operativo per personal computer sono:

A Windows, Linux, Microsoft
B Windows, Macintosh, Linux/Unix
C Windows, Macintosh, Next

98) **Come sono comunemente chiamati i programmi che navigano sul web alla ricerca delle pagine da indicizzare per i motori di ricerca?**

A Indexing agent.
B Explorer.
C Crawler

99) **Indicare, tra i seguenti l'abbinamento corretto.**

A . ppt - MS Excel
B .docx - MS Word
C .xls - MS Powerpoint

100) **Un gigabyte corrisponde:**

A a 100.000 byte.
B a 1 miliardo di byte.
C a 1 milione di byte.

101) **Dei seguenti tipi di connessione ad Internet è tipicamente "mobile":**

A ADSL
B Wi-Fi
C Dial-Up

102) **La struttura dei dati su un disco rigido o una memoria di massa**

A può essere definita "non gerarchica"
B consta di sole cartelle.
C può essere definita "ad albero" (file e cartelle.)

103) **In un dominio ".edu" sta per:**

A sito commerciale
B sito accademico / di istituzioni educative (educational)
C sito di amministrazione utenti (extended dynamic user)

104) **Un sito web dinamico:**

A ha URL più corti.
B è tipicamente composto da pagine modello alimentate da database.
C è programmato con codice fisso, senza l'uso di script in ambiente ASP, PHP, Javascript, ecc

105) **Compiere un'operazione di backup significa:**

A forzare il caricamento di un file su Internet.
B creare una copia di sicurezza dei dati.
C sostenere il computer nei momenti di massimo sforzo computazionale.

106) **In Windows, quale sequenza di operazioni sposta un file in un'altra posizione, cancellandolo da quella originale?**

A Copia/Incolla.
B Copia/Taglia.
C Taglia/Incolla.

107) **L'estensione ".zip" che segue il nome del file in Windows, indica:**

A file compressi.
B database.
C file di testo.

108) **Un modem esterno:**

A si collega generalmente a una porta seriale del computer.
B è più veloce del modem interno.
C si collega generalmente ad uno degli slot di espansione disponibili.

109) **La freccia che rappresenta il mouse sul monitor è chiamata:**

A cursore.
B evidenziatore.
C puntatore.

110) **In Excel, una tabella pivot:**

A Uno strumento analitico e di reporting necessario alla creazione di tabelle riassuntive.
B è un grafico che riassume statistiche e formule matematiche.
C è un documento di calcolo necessario per creare grafici.

---

111) Quante pagine può contenere un documento Word?

A Non oltre 500 pagine.
B Un numero teoricamente illimitato.
C Fino a 1000 pagine.

---

112) In ambito informatico, il TCP/IP:

A Un insieme di protocolli di comunicazione, usat su reti diverse da Internet e dalle reti locali
B Un insieme di protocolli di comunicazione usato su reti locali ma non su Internet
C è un insieme di protocolli di comunicazione usato su Internet e su reti locali

---

113) Con l'acronimo VoIP ci si riferisce a:

A un programma che consente comunicazioni vocali attraverso Internet, come Skype.
B una tecnologia che consente di effettuare una conversazione analoga a quella che si potrebbe ottenere con una rete telefonica
C un protocollo di trasmissione della posta elettronica.

---

114) Per stampare un file documento è necessario:

A salvare il file documento su disco.
B avere una stampante installata nella cartella delle stampanti
C nessuna delle risposte proposte è corretta

---

115) In un computer, una scheda di rete è un elemento:

A hardware
B firmware
C software

---

116) Se si accende un pc, ma non il monitor...

A il PC completa comunque l'avviamento
B il PC tenta comunque di avviarsi, ma si corre il rischio di rovinare l'hard-disk.
C il PC si blocca ed è necessario spegnerlo.

---

117) Tra i seguenti software è un famoso browser Internet:

A Netscape Explorer
B File Navigator
C Mozilla Firefox

---

118) Il "modem" permette di:

A utilizzare un cavo parallelo per il passaggio di dati tra computer.
B utilizzare un cavo seriale per il passaggio di dati tra computer.
C utilizzare la rete telefonica per il passaggio di dati tra computer.

---

119) In una e-mail, il campo "ccn:" (o "bcc:" in inglese), in cui è possibile inserire il nome dei destinatari:

A recapita il messaggio nascondendo al destinatario principale i nomi degli altri destinatari in esso contenuti.
B specifica gli indirizzi dove vanno recapitate eventuali risposte.
C corrisponde alla dicitura presente in alcune lettere cartacee: "per conoscenza".

---

120) Quando si riceve un'e-mail con un allegato è opportuno:

A riavviare il computer.
B modificarne l'estensione.
C controllarla con un antivirus aggiornato.

---

121) Il software Excel permette di impostare l'intestazione di ciascun foglio stampato?

A | Sì, dal comando Proprietà del menu File.
B Sì, con il comando "Intestazione e piè di pagina.
C No, in alcun modo.

---

122) Nel software MS Word, che cosa si può fare con la stampa unione?

A Stampare modelli di documenti predefiniti in cui variano i dati specifici di ogni copia.
B Unire più documenti in uno.
C Stampare soltanto una sezione di pagine di un documento.

123) Applicazioni, documenti, cartelle o dispositivi sono rappresentati sul monitor:

A da tasti
B da icone
C da applicazioni

124) Dei seguenti programmi ha funzionalità analoghe a Microsoft Excel 2007 e ne rappresenta un'alternativa:

A Mozilla Firefox
B Adobe Acrobat
C OpenOffice Calc

125) Quale dei seguenti è un URL?

A luca@dominio.it
B microsoft.com
C http://www.microsoft.com

126) Quale tra i seguenti è un social network?

A Google
B Facebook
C Microsoft

127) In Microsoft Word, quale combinazione di tasti occorre premere per modificare il testo evidenziato, portandolo in grassetto?

A "ctrl + i".
B "ctrl + s".
C "ctrl + g"

128) Quale tra i seguenti è un motore di ricerca su Internet?

A Google Search
B Adobe Reader
C Microsoft Office

129) Quale dei seguenti programmi per computer utilizza la tecnologia VoIP?

A Windows Media Player
B Skype
C eMule

130) In Microsoft Excel utilizzando il tasto TAB:

A si chiude il documento
B si crea un nuovo folder
C si scorre tra celle della stessa riga

131) Che cos'è un firewall?

A un componente passivo di difesa perimetrale di una rete informatica.
B un componente sia hardware che software per la manutenzione della rete internet.
C un sistema audio e video per la consultazione di programmi multimediali.

132) Il pacchetto per computer Office, è un:

A middleware.
B software
C hardware.

133) Individuare la definizione corretta.

A C++ è un linguaggio di programmazione.
B C++ è un software di videoscrittura.
C C++ è un protocollo di rete.

134) Tra i seguenti suffissi dei domini internet di primo livello generici, quale è aperto a qualsiasi persona o entità e ne è permessa la registrazione?

A .net
B .gov
C .museum

135) Un data base è:

A un programma che permette di gestire le note a pie' di pagina
B un programma di gestione dei set grafici
C un insieme di informazioni organizzate secondo una serie di relazioni e gestite da un elaboratore elettronico

---

136) In Windows 10, come si chiama il database che contiene le informazioni sulla configurazione del computer?

A File system
B Registro di configurazione.
C Registro di sistema

---

137) Skype è un programma:

A che consente di visualizzare documenti in PDF.
B che consente di effettuare telefonate attraverso un computer.
C che consente di collegarsi a Internet.

---

138) Una Local Area Network (LAN) è:

A una rete che connette un numero limitato di computer, inferiore a 256
B una rete che connette più computer in un edificio o in un complesso di edifici localmente vicini
C una rete distribuita a livello nazionale che connette i computer di una singola organizzazione, chiusa all'accesso esterno

---

139) Come si conferma l'inserimento di un'informazione in una cella di un foglio di lavoro di Microsoft Excel?

A Premere il tasto INS sulla tastiera.
B Spostarsi in una qualsiasi altra cella.
C Cliccare due volte sulla cella.

---

140) Quale dei seguenti file è opportuno allegare a un messaggio di posta elettronica per essere certi che il provider del destinatario non lo rifiuti per ragioni di sicurezza?

A Un file di Word contenente macro con estensione .doc
B Un file di testo con estensione .txt
C Un programma con estensione .exe

---

141) In ambiente Windows, la combinazione dei tasti di scelta rapida "CTRL+C" permette...

A di copiare l'elemento selezionato
B di incollare l'elemento selezionato
C di tagliare l'elemento selezionato

---

142) In Excel, se la barra della formula non fosse visualizzata, è necessario attivarla:

A attivarla mediante il comando "mostra le formule" nel menu "file"
B mediante il comando "Barra della formula" nel menu "Visualizza"
C mediante il comando "visualizza formula" nel menu "modifica"

---

143) Il GIF è un formato di file informatici utilizzato:

A per i fogli di calcolo
B per i file di testo
C per le immagini

---

144) Quale tra le seguenti attività NON richiede necessariamente la connessione a Internet?

A La trasmissione analogica di programmi radio
B La distribuzione di pagine web
C Le comunicazioni vocali basate su VoIP

---

145) Lo spoofing è:

A un dispositivo hardware che serve per filtrare i pacchetti in entrata dalla rete
B un antivirus di nuova generazione
C un tipo di attacco informatico dove, in qualche modo, avviene la falsificazione dell'identità

---

146) Perché si dice che la tastiera del computer è basata sul sistema QWERTY?

A Perché in questo modo si utilizza la tastiera più velocemente rispetto ad altri dispositivi di dattilografia
B Perché indica i primi sei tasti presenti in alto a sinistra determinando la disposizione dei tasti rispetto ad altri dispositivi di dattilografia
C Perché in questo modo si riduce l'incidenza degli inceppamenti

---

147) Con i più comuni programmi di posta elettronica, quale delle seguenti azioni NON è possibile compiere dopo aver ricevuto un messaggio?

A Selezionare parte del testo del messaggio
B Rimuovere il messaggio dalla cartella "Inviati" del mittente
C Spostare il messaggio nel cestino

---

148) La specifica entità del file system che elenca altre entità, permettendo di organizzarle in una struttura ad albero, è detta:

A icona
B directory
C cartella

---

149) Tra i seguenti è un sistema operativo:

A MS Access
B MS-DOS
C Excel

---

150) In Windows, quale programma permette di visualizzare la disposizione dei file in un computer?

A Esplora risorse
B Pannello di controllo.
C Windows media player.

---

151) Quanti bit sono contenuti in due byte?

A 1024 bit
B Un solo bit
C 16 bit

---

152) Di solito il disco fisso viene indicato con la lettera:

A D
B C
C A

---

153) Quali tra le seguenti affermazioni è corretta? ASCII è:

A l'acronimo di American Standard Code for Information Interchange
B un formato per la memorizzazione di stringhe di bit
C un formato per la memorizzazione dei tasti

---

154) Quale dei seguenti è un programma per l'elaborazione di immagini?

A Adobe.
B Photoshop.
C Writer.

---

155) Quale dei seguenti caratteri non può essere contenuto nel nome di un file?

A &
B \
C @

---

156) Per abbandonare un documento senza salvare le modifiche effettuate,....

A Bisogna selezionare dal menù File l'opzione Chiudi senza Salvare.
B Si chiude il documento e si seleziona "ANNULLA" sulla finestra che appare successivamente alla chiusura del file.
C Si chiude il documento e si seleziona "NO" sulla finestra che appare successivamente alla chiusura del file.

---

157) In ambiente Windows, all'accensione del computer, premendo il tasto F8:

A Il computer resta in Standby.
B Il computer si avvia in modalità provvisoria.
C Il computer si spegne.

---

158) Un file con estensione .XLS è:

A un file di calcolo.
B un file eseguibile.
C un file di sistema.

---

159) Quale, tra i seguenti nomi, non identifica un tipo di stampante?

A Binprint.
B Laser.
C InkJet.

---

160) In Microsoft Outlook, la presenza di un "punto esclamativo" di colore rosso in corrispondenza di un messaggio,....

A Indica che il messaggio è stato inviato con "Alta Priorità".
B Indica che il messaggio ha un contenuto dubbio, quindi occorre fare attenzione ad aprirlo.
C Indica che al messaggio è allegato un file.

---

161) L'utilizzo illecito di programmi è perseguibile in base alle leggi che proteggono:

A i diritti d'autore.
B i brevetti.
C la privacy.

---

162) Cosa significa che la risoluzione di uno schermo è 640 x 480?

A Che si possono visualizzare 480 sfumature di 640 colori base.
B Che l'area dello schermo è suddiviso in 640 x 480 punti.
C Che l'area dello schermo è di 640 x 480 mm.

---

163) Se, durante l'installazione di un nuovo software, il programma di installazione richiede di disattivare il software antivirus, cosa è corretto fare?

A Si tratta di un messaggio di errore frequente, si può ignorare il messaggio e continuare l'installazione.
B Poiché il programma antivirus non è compatibile con il nuovo software è necessario rimuovere completamente l'antivirus, oppure rinunciare ad utilizzare quel software.
C Disattivare il software antivirus durante l'installazione e riattivarlo al termine dell'operazione.

---

164) Quando su un PC sono installate diverse stampanti, la predefinita è quella:

A collegata alla porta seriale.
B in cui il computer effettua di default le stampe a meno che non vengano date istruzioni diverse.
C collegata alla porta USB.

---

165) Con quale strumento archiviato nel disco fisso di un utente è possibile ottenere informazioni sulle abitudini di quell'utente quali, ad esempio, il numero di volte che ha visitato un sito Web?.

A Info-bit.
B Cookie.
C Info-byte.

---

166) Una scheda audio è:

A il contenitore in cui sono installati e connessi tutti i componenti dell'unità centrale del computer.
B un'unità hardware di stampa vettoriale.
C una scheda di espansione in grado di convertire dei dati digitali in segnali audio (analogici e/o digitali) e viceversa.

---

167) In Microsoft Access le macro sono:

A gruppi di comandi.
B campi di un report per l'output dei dati.
C insiemi di dichiarazioni e routine in visual basic.

---

168) Per cosa è utilizzato il programma Word di Microsoft o Writer di Open Office?

A Per connettersi ad Internet.
B Per elaborare testi.
C Per elaborare fogli elettronici.

---

169) Qual è la funzione del pulsante rispondi di Microsoft Outlook?

A inoltrare il messaggio a tutti gli indirizzi contenuti nei contatti.
B rispondere nel caso di ricevimento di messaggi audio.
C rispondere al mittente del messaggio.

---

170) URL è l'acronimo:

A Uniform Resource Locator.
B United Resource Linux.
C Uniform Roming Universal.

---

171) Il termine "spam" indica:

A un messaggio indesiderato
B l'operazione di manutenzione della casella di posta elettronica.
C un forum.

---

172) La sigla FTP indica:

A Il servizio che definisce le regole di trasmissione file in una rete TCP/IP.
B Un protocollo di livello fisico.
C L'area della memoria fisica su cui si allocano i blocchi dati.

---

173) Il protocollo utilizzato per amministrare remotamente un server tramite linea di comando si chiama:

A TELNET
B HTTP
C SNMP

---

174) Per inserire un'immagine in un documento di testo si deve selezionare:

A inserisci immagine.
B allinea immagine.
C stili immagine.

---

175) Nell'ambito dei sistemi operativi, la cosiddetta "risoluzione dei nomi" ha come fine la ricerca:

A dato un nome host, del relativo indirizzo IP
B la ricerca di informazioni sugli strumenti di amministrazione
C dato un indirizzo IP,del relativo nome host

---

176) I segnalibri, nei documenti Microsoft Word, sono:

A applicazioni per la ricerca di fonti bibliografiche.
B collegamenti ipertestuali che consentono di passare da un punto di un documento a un altro.
C programmi di impaginazione che permettono di gestire le note a pie' di pagina.

---

177) È possibile consultare un sito web senza una connessione di rete?

A Sì, benché sia necessario più tempo che con una connessione di rete
B Dipende dal programma in uso, ma non sarà mai possibile consultarne la versione più aggiornata
C Dipende dal programma di posta elettronica in uso, ma sarà comunque sempre possibile consultarne una copia risalente alla nostra ultima visita al sito web

---

178) La codifica dell'algoritmo che il computer deve eseguire è definita:

A linguaggio di programmazione.
B codice binario.
C protocollo.

---

179) In ambito informatico, l'espressione "cross-posting" indica:

A l'inserimento dello stesso messaggio in differenti parti dello stesso strumento di interazione online (forum, newsgroup, ecc.)
B un sistema interno al software per velocizzare l'accesso alla RAM.
C un apparato che interfaccia due reti basate su protocolli differenti.

---

180) Un sistema di file sharing è:

A un software telefonico o un dispositivo hardware che permette agli utenti di fare chiamate a qualsiasi softphone, cellulare o linea tradizionale.
B un'applicazione per archiviare i file.
C un sistema che consente ad un utente di condividere i propri file con altri utenti che si trovano sulla stessa rete o su internet.

---

181) Per collegare il computer in rete locale, quale supporto hardware occorre?

A Cd-rom.
B Masterizzatore.
C Scheda di rete.

---

182) La trasmissione di pagine web utilizza:

A Il protocollo HTTP
B Il protocollo FTP
C Il protocollo PPTP

---

183) Che cosa si intende per Wi-Fi?

A Windless Fidelity.
B Reti locali senza fili.
C Una procedura di certificazione.

---

184) In Excel, quale delle seguenti formule dà come risultato 30?

A =10+2+(6+8).
B =10+2*6+8
C =(10+2)+6-8.

---

185) La rete ISDN:

A trasmette una notevole quantità di dati utilizzando la tradizionale linea telefonica analogica
B è un modello di trasmissione, basato sulla commutazione a pacchetto, che permette a più utenti di condividere i medesimi circuiti.
C consente la trasmissione di dati in forma digitale in cui il segnale non viene modulato secondo una determinata onda, ma codificato e inviato lungo la linea come una lunga sequenza di zero e uno

---

186) Che cosa si intende per «condivisione delle risorse»?

A Risorse informatiche condivise tra più utenti collegati in rete
B Risorse informatiche condivise tra più computer.
C Risorse informatiche condivise fra più software.

---

187) DOS è l'acronimo di:

A Double Office System
B Disk Office Organization
C Disk Operating System

---

188) Il "time out" è:

A un evento che si verifica quando un apparato di rete non riceve la risposta che aspetta da un altro apparato di rete, entro un tempo predefinito.
B il segnale che indica la fine del download di un file.
C il segnale che indica che il lavoro è stato salvato con successo.

---

189) La compressione di uno o più file/cartelle genera:

A file nascosti.
B un file non trasmissibile via email.
C un solo file di dimensioni più piccole.

---

190) Quale tra le seguenti e' l'estensione che contraddistingue un file di testo?

A .pdf
B .txt
C .jpg

---

191) Quali fra le periferiche indicate si può considerare sia di Input che di Output?

A lo scanner.
B stampante.
C monitor touch screen.

---

192) Una rete sociale virtuale (social network) è formata da persone che comunicano via Internet:

A mediante un forum che richiede la presenza contemporanea di più persone.
B per accedere a uno specifico sistema che permette la condivisione di contenuti multimediali.
C per scambiarsi con un sistema uno a molti messaggi di testo.

---

193) Una "slide show" è:

A una sequenza di immagini.
B un software di elaborazione video.
C un software di elaborazione testi.

---

194) Impostare una chiave primaria in una tabella di un database è utile:

A a identificare in modo univoco un record della tabella.
B a identificare in modo univoco una tabella del database.
C a eseguire una ricerca sui campi di testo di un database.

---

195) La velocità di un processore si misura in:

A Bit
B Hertz
C Giga

196) Per Sistema Informativo si intende:

A un insieme di database memorizzati nella rete informatica di un'organizzazione.
B l'insieme delle procedure necessarie per acquisire, elaborare e distribuire le informazioni richieste dalla gestione di una organizzazione.
C l'insieme delle informazioni necessarie a una organizzazione per gli adempimenti fiscali e amministrativi.

197) La pagina iniziale di un sito internet è detta:

A front page.
B home page
C end page.

198) Un Internet Service Provider è:

A un gestore di linee telefoniche.
B una rete di server collegati ad Internet.
C una struttura commerciale o una organizzazione che offre agli utenti accesso a Internet .

199) È corretto in Windows affermare che per eliminare un programma è sufficiente cancellare la cartella in cui esso è collocato?

A No, ogni programma ha tra le sue utilità un software di disinstallazione.
B Si, tale affermazione è corretta per qualsiasi tipo di programma.
C Si, ma solo se si parla di programmi che non necessitano di installazione

200) Per mp3 si intende:

A un formato di compressione dei file audio.
B la terza generazione dei processori che operano in multitasking
C un sistema di multiprogrammazione di terzo livello

201) L'insieme delle regole che permette ai computer di scambiarsi informazioni è detto:

A provider.
B netiquette.
C protocollo.

202) Il servizio Webmail consente di:

A consultare la posta elettronica da qualsiasi computer collegato a Internet tramite il browser.
B consultare la posta elettronica da qualsiasi computer collegato a Internet, purché su di esso sia presente un apposito programma diverso dal browser.
C scaricare la posta elettronica soltanto utilizzando i programmi indicati dal provider.

203) Una mailing list è:

A un sistema di comunicazione asincrono uno a molti basato sul servizio di posta elettronica.
B un sistema di comunicazione asincrono in cui ogni utente iscritto può memorizzare un messaggio.
C un sistema di comunicazione in tempo reale per trasmettere messaggi di testo agli utenti connessi in quel momento.

204) La "Barra delle applicazioni" di Windows:

A Viene installata dal sistema operativo nella parte bassa dello schermo e non può essere spostata dall'utente.
B Può essere posizionata indifferentemente lungo uno dei 4 lati dello schermo.
C Può essere posizionata in un punto qualsiasi dello schermo.

205) Il termine "chip" in informatica significa:

A transistor
B Conventional High Integrated Processor
C circuito integrato

206) Il termine ranking si riferisce:

A al posizionamento e alla visibilità di un sito internet
B alla password per aprire un messaggio protetto
C al numero di accessi registrati quotidianamente da un sito internet

207) Per Search Engine Optimization (SEO) si intende:

A alcune componenti personalizzabili che possono essere inseriti in un sito internet
B le pagine di risposta alle interrogazioni degli utenti del web.
C un'attività volte a migliorare il posizionamento (ranking) e la visibilità di un sito internet

208) I tre principali modelli logici dei dati in un Database Management System sono:

A ad alias, lineare, redazionale
B gerarchico, reticolare, relazionale
C logistico, locale, parziale

209) È un motivo di preferenza per la fibra ottica il fatto che:

A è più semplice da mettere in opera.
B è più facile installarne i terminali.
C non subisce interferenza elettrica.

210) Qual è la differenza tra indirizzo MAC e indirizzo IP?

A L'indirizzo MAC è fisso ed è assegnato dal produttore a livello hardware. L'indirizzo IP viene assegnato a livello software e può cambiare nel tempo.
B L'indirizzo MAC identifica i dispositivi della Apple, L'indirizzo IP identifica i dispositivi Microsoft. Entrambi sono fissi e assegnati a livello hardware dal produttore.
C L'indirizzo MAC viene assegnato dal produttore come hardware e può cambiare nel tempo. L'indirizzo IP è fisso e viene assegnato a livello software.

211) Per Anchor Text si intende:

A Le parole di un link sottolineate in blu sulle quali cliccare per collegarsi al sito.
B Un elemento pubblicitario utilizzato sul web che può essere un'immagine, un video o un semplice testo.
C Un codice di identificazione costituito da un insieme di elementi grafici.

212) La CPU (Central Process Unit) è un componente del computer che ha la funzione di:

A gestire la rete.
B memorizzare programmi.
C eseguire elaborazioni.

213) Quale tra i seguenti programmi per computer utilizza il peer-to-peer durante il suo consueto funzionamento?

A Windows Media Player
B eMule
C Microsoft Office

214) In Windows il tasto F3:

A consente di rinominare file e cartelle previa selezione dell'elemento di riferimento.
B permette di ricaricare una pagina o un contenuto visualizzato.
C consente di avviare la ricerca rapida di file e cartelle.

215) Le estensioni ".txt", ".rtf", ".doc" sono riconducibili a:

A file audio.
B file di testo.
C file video.

216) Per navigare tra le applicazioni aperte occorre premere i tasti:

A Shift+Alt
B Ctrl+Alt+Canc.
C Alt+Tab

217) Per "diagnostica" in ambito informatico si intende:

A l'individuazione delle cause di errori o guasti in prodotti software o hardware
B la risoluzione di un guasto hardware o software.
C un programma in grado di proteggere il computer da guasti.

218) In Windows si può impostare l'intervallo temporale oltre il quale lo schermo si spegne o entra in pausa?

A Sì, sempre.
B No, mai.
C Solo nei monitor a cristalli liquidi.

219) In ambito informatico, la sigla "toe" è l'acronimo di...

A tools of security
B target of evaluation
C type of security

220) Non è un modello logico di database:

A referenziale
B relazionale
C reticolare

221) In quale anno è nato il sistema operativo Windows 10?

A 2019
B 2015
C 2008

222) Per laptop s'intende:

A un computer portatile.
B lo schermo del computer.
C un cartella contenente i file più estesi.

223) Un byte corrisponde a:

A 10 bit
B 8 bit
C 4 bit

224) Quale acronimo indica l'interfaccia grafica?

A GUI
B IG
C LCD

225) In un processore, la Cache Memory è usata per:

A proteggere il sistema da eventuali virus
B aumentare la capacita' dei dischi
C velocizzare l'accesso alla RAM

226) Che cos' è un notebook?

A Un computer portatile
B Un tablet
C Un computer da tavolo

227) Quali tra questi sono sistemi operativi ?

A Software e mouse
B Hardware e Case
C Windows e Linux

228) Il programma Excel o Calc serve a

A creare presentazioni
B eseguire calcoli e creare grafici
C elaborare testi ed interi libri

229) A che cosa serve Live Mail o Thunderbird ?

A Creare pagine web
B Gestire la posta elettronica
C Navigare in Internet

230) Il termine "login" si riferisce alla procedura:

A di ingresso
B di registrazione
C di salvataggio

231) Quale delle seguenti unità di memoria non consente la modifica dei dati in essa contenuti?

A Pendrive
B ROM.
C Hard disk.

232) Google Chrome è un:

A motore di ricerca.
B social network.
C browser.

233) Con il termine 5G si indica:

A l'insieme delle tecnologie e degli standard di quinta generazione della telefonia cellulare.
B l'insieme delle tecnologie e degli standard più avanzati nella trasmissione di dati.
C l'insieme delle tecnologie e degli standard ormai obsoleti della telefonia mobile.

234) L'insieme di funzionalità, strumenti e contenuti attribuiti a un nome utente in determinati siti web è detto:

A provider
B account
C browser

235) Nei sistemi operativi Windows, a cartella Temporary Internet Files contiene:

A I i file di back up
B la posta eliminata
C la memoria cache di MS Internet Explorer

236) L'insieme di istruzioni che deve essere applicato per eseguire un'elaborazione o risolvere un problema è chiamato:

A elaboratore
B interfaccia
C algoritmo

237) L'advertising digitale (ADV) è

A il programma predefinito per aprire un tipo di file.
B la divulgazione di annunci promozionali tramite messaggi recapitati tramite e-mai.
C una tecnologia applicata nella trasmissione e la ricezione di dati ad alta velocità su una normale linea telefonica.

238) Quanti caratteri diversi possono essere rappresentati nel codice ASCII ?

A 8
B un numero infinito
C 256

239) I pop-up sono:

A Finestre o riquadri, che compaiono automaticamente durante l'uso di un'applicazione per attirare l'attenzione dell'utente.
B Mail inviate periodicamente come "aggiornamento informativo" a un database di utenti predefinito.
C Software su un sito web che effettuano ricerche su un data base.

240) Le parole di un link sottolineate in blu sulle quali cliccare per collegarsi al sito sono chiamate:

A anchor text
B inquiry
C keyword

241) Nei personal computer, l'interfaccia EIDE riguarda:

A solo l'audio.
B solo la stampa.
C la memoria di massa.

242) Una directory è:

A un protocollo.
B una organizzazione e raggruppamento di file su memoria di massa
C un file system.

243) NON è un sistema operativo:

A Case
B Linux
C Windows

244) Nel software Excel, il comando "Imposta pagina" può:

A salvare un documento in una cartella diversa da quella originale
B modificare i margini di un documento
C | salvare un documento sostituendone la versione precedente

245) La trackball è un dispositivo:

A un comando per la stampa.
B simile al mouse.
C un link per collegarsi a internet.

246) Il protocollo SMTP viene utilizzato:

A per trasferire grossi quantitativi di dati.
B per rendere una stampante predefinita.
C per gestire le email.

247) La parola chiave o le serie di parole che si immettono per iniziare una ricerca su un motore è detta:

A nickname
B indirizzo
C keyword

248) Come si chiama il linguaggio di programmazione, sviluppato da Sun Microsystems, progettato per la scrittura di programmi che possono essere scaricati sul proprio computer dalla rete e immediatamente eseguiti?

A Ping
B Java
C OCR

249) Nel software Microsoft Office Excel, che cosa è possibile fare selezionando il comando "Formato celle"?

A Inviare il testo di una cella a capo adattandolo alla larghezza della cella
B Eliminare una cella
C Aggiungere una colonna

250) I programma "Blocco note" crea file con estensione:

A RFT
B DOC
C TXT

251) Quale sistema permette di scaricare in modo automatico risorse audio o video (chiamate podcast), utilizzando un programma gratuito, per poterli poi riascoltare su iPod, lettori mp3 e cellulari?

A Streaming
B MIDI
C Podcasting

252) Quale sistema che permette di proteggere un computer o una rete di computer dalle intrusioni provenienti dall'esterno?

A Linux
B Firewall
C WordPad

253) Nelle architetture dei computer l'unità di misura delle capacità di memoria è:

A il pixel
B l'hertz
C il byte

254) Com'è detta l'interfaccia grafica, in forma di finestra o riquadro, si apre automaticamente nella parte alta del browser per attirare l'attenzione dell'utente su particolari contenuti?

A Popup
B Script
C Banner

255) L'Optical Character Recognition (OCR) è in grado:

A di riconoscere un'immagine come testo
B di trasformare un file PDF in testo word
C di trasferire testi in file audio

256) In Microsoft Access, una sottomaschera è:

A una maschera presente sempre nella parte bassa dello schermo di Windows
B una maschera la cui finestra e' occasionalmente nascosta da un'altra
C una maschera contenuta in un'altra

257) Quale tipo di istruzione SQL e' contenuta in una query definita in MS Access del tipo "creazione tabella"?

A SELECT ... INTO
B CREATE TABLE
C DELETE ... FROM

258) Indicare la lista che contiene solo componenti hardware:

A Cpu, mouse, scheda mad
B Monitor, tastiera, scheda video
C Windows, Linux, MS-Dos

259) In una LAN, il protocollo CSMA/CD:

A fornisce un'interfaccia software per l'accesso all'hardware del PC
B gestisce l'accesso al mezzo trasmissivo condiviso, rilevando le collisioni.
C impedisce le collisioni.

260) Quali tra le seguenti stringhe non andrebbe utilizzata come password, per evitare che venga facilmente individuata?

A Maria1980
B N80cjy!
C A67vdf&

261) In un trasferimento Direct Memory Access:

A viene cancellato un blocco di memoria
B un blocco di memoria viene copiato da una periferica ad un'altra
C la CPU esegue il trasferimento vero e proprio

262) ASCII (American Standard Code for Information Interchange) è:

A un linguaggio di programmazione
B un codice per la codifica di caratteri
C un tipo di stampante

263) La struttura operativa nella quale viene elaborato un dato software è chiamata:

A interfaccia
B cluster
C framework

264) La modalità DMA (Direct Memory Acces) consiste:

A nella possibilità di eseguire più applicazioni contemporaneamente.
B in un dispositivo che converte i dati digitali di un computer in una serie di segnali analogici
C in un metodo di trasferimento dei dati atto a garantire uno scambio ad alta velocità.

265) Come è detto il sistema per la trasmissione di determinati segnali via Internet, solitamente audio e/o video, che consente di fruire di un contenuto senza attendere che lo scaricamento sia stato completato?

A Streaming
B Download
C Podcast

266) Il POP, Acronimo di Point of Presence, è:

A il numero telefonico di un provider che il modem deve chiamare per accedere a Internet.
B un dispositivo che converte i dati digitali di un computer in una serie di segnali analogici.
C Il processo di analisi, progettazione e sviluppo di un database relazionale.

267) Per widget si intende:

A un convertitore dei dati digitali di un computer in segnali analogici.
B un tipo di computer portatile.
C un componente grafico di un'interfaccia utente di un programma.

268) Una query di selezione è:

A un dispositivo che converte i dati digitali di un computer in una serie di segnali analogici.
B un oggetto di database che visualizza informazioni in visualizzazione Foglio dati
C Il risultato delle ricerche effettuate attraverso uno dei motori di ricerca presenti sul Web.

269) Quale programma consente di leggere correttamente un file PDF?

A Adobe Acrobat Reader.
B Word
C Excel

---

270) La flow-chart è:

A la rappresentazione grafica di un dato.
B la rappresentazione grafica di un algoritmo.
C la rappresentazione verbale di un algoritmo.

---

271) La GUI di un computer è:

A un sistema di accesso alla memoria centrale.
B la memoria volatile.
C l'interfaccia grafica.

---

272) Un kilobyte corrisponde:

A a 100 bit.
B a 1000 bit.
C a circa 1000 byte.

---

273) L'acronimo LAN significa:

A Logic Local Area Network
B Local Area Network
C Large Area Network

---

274) Il segnale asincrono da parte di una periferica finalizzato a una particolare richiesta di servizio si chiama:

A jingle.
B interrupt.
C clic.

---

275) Il termine plug-in indica:

A un programma di videoscrittura.
B la procedura di accesso a un sistema informatico.
C un programma non autonomo che interagisce con un altro programma per estenderne le funzionalità.

---

276) Nel sistema operativo Linux, la Shell è:

A un software che gestisce la comunicazione tra l'utente e il sistema operativo
B una periferica.
C una cartella di sistema.

---

277) Il messaggio o simbolo sul video che segnala all'utente che il sistema è pronto ad accettare input è chiamato:

A prompt
B comand
C control

---

278) Tra i danni causati da crimini informatici, è considerato il più grave:

A l'acquisizione di dati personali da parte di terzi non autorizzati.
B la decriptazione di una password.
C un danno al funzionamento del computer.

---

279) Nell'ambito dei social media un post è:

A il messaggio condiviso sul proprio profilo da parte di un utente
B una parola chiave o un termine associato a un'informazione.
C l'immagine scelta da un utente per rappresentare se stesso.

---

280) In Word, il comando "Salva con nome" viene utilizzato per:

A per salvare un documento conservando lo stesso nome.
B per salvare un documento dal cestino.
C per salvare un documento con un nome diverso da quello originale.

---

281) In Access, i moduli sono:

A campi di una maschera per l'input dei dati.
B insiemi di dichiarazioni e routine in Visual Basic.
C c ampi di un report per l'output dei dati.

282) Quale delle seguenti componenti non influenza le prestazioni di un computer?

A Dimensioni dello schermo video
B Potenza della CPU
C Dimensione della memoria.

283) Come è detto il modello di conservazione dati su computer in rete dove i dati stessi sono memorizzati su molteplici server virtuali?

A drive
B banca dati
C cloud storage

284) In un computer il meccanismo che permette alle periferiche di accedere direttamente alla memoria interna si chiama:

A Flow chart
B Direct Memory Access
C Temporary Internet File

285) Gli acronimi GNU GPL indicano in informatica:

A un tipo di licenza d'uso del software
B una infrastruttura di rete
C un browser per Internet

286) In informatica, il gigabyte è l'unità di misura che indica:

A la capacità di memoria dell'hard disk.
B la velocità del microprocessore.
C la velocità del modem.

287) Un font è:

A il file d'origine dei dati.
B l'insieme di lettere, numeri e simboli che formano un particolare carattere tipografico.
C il file che contiene una serie di documenti standard.

288) La formattazione di una cella in un foglio di calcolo come Excel di Microsoft Office" o come Calc di Open Office consiste:

A nella specificazione delle caratteristiche di forma di ciò che è contenuto nella cella.
B nella copia del contenuto di una cella in un'altra.
C nella correzione ortografica del testo contenuto nella cella.

289) Che cos'è in informatica il TCP/IP?

A Un insieme di protocolli di comunicazione usato su reti locali ma non su Internet.
B Un insieme di protocolli di comunicazione usato su Internet ma non su reti locali.
C Un insieme di protocolli di comunicazione usato su Internet e su reti locali.

290) Quale documento è necessario avere per l'utilizzo regolare di un software?

A Dischi originali.
B Numero seriale.
C Licenza d'uso.

291) La video-camera collegata ad Internet che rende disponibili in rete le immagini riprese ad intervalli regolari di alcuni minuti si chiama:

A zoom
B webcam
C circuito chiuso

292) Nel "Cestino" di Windows, facendo doppio clic su uno dei file:

A Viene chiesto di associare il file a un'applicazione per poter eseguire il file.
B Viene cancellato definitivamente il file.
C Viene visualizzata la scheda Proprietà del file.

293) Di quale linguaggio si serve per la visualizzazione dei dati un browser?

A Linguaggio HTTP
B Linguaggio HTML
C Linguaggio macchina

294) Si può accedere a un file che risiede su un PC collegato in rete con il proprio PC?

A No, bisogna prima salvare il file sul disco fisso del PC che stiamo utilizzando.
B Si, solo se il PC ove risiede il file da utilizzare ha il sistema operativo Windows Xp.
C Sì, sempre.

295) In Windows, l'estensione ".xls" che segue il nome del file, significa che il file deve essere aperto con il programma:

A Excel
B Acrobat
C Word

296) Quale delle seguenti affermazioni è corretta a proposito del modem?

A Trasforma i segnali digitali in analogici.
B Permette il collegamento di un computer a una linea di trasmissione analogica.
C Nessuna delle risposte è esatta.

297) Un virus non può:

A corrompere i dati
B danneggiare l'hardware
C danneggiare i software applicativi

298) L'estensione .DOC identifica un file utilizzato dall'applicazione....

A Calc.
B Word.
C Acrobat Adobe.

299) Nel software Word, mediante il comando "Imposta pagina" si può:

A avviare il controllo ortografico di un documento aperto.
B modificare i margini di un documento.
C recuperare la versione precedente di un documento.

300) In Excel, per scrivere il nome dell'autore su ogni pagina del documento è possibile dal menu "visualizza" usare l'opzione:

A anteprima interruzioni di pagina.
B intestazione e piè di pagina
C barre degli strumenti.

301) In un elaboratore, l'elaborazione Batch è il contrario di quella:

A a blocchi.
B offline.
C interattiva.

302) Nell'interconnessione di reti, una rete privata virtuale è:

A una soluzione sicura per connettere due reti
B un protocollo di visualizzazione grafica.
C un servizio di terminal server.

303) Un link si può definire:

A un software per la navigazione.
B un' interfaccia bidirezionale.
C un collegamento ipertestuale.

304) L'accesso remoto di Windows consente di:

A leggere un file dopo aver spento il computer.
B accedere all'help in linea di Windows.
C accedere alle informazioni condivise su un altro computer.

305) Il tasto di Invio nei programmi di videoscrittura come MS Word serve a:

A cancellare
B iniziare un nuovo capoverso
C andare a capo alla fine di ogni riga.

306) In Windows, qual è la funzione principale del programma "Esplora risorse"?

A Configurare il sistema operativo e le sue periferiche
B Visualizzare la disposizione dei file del computer
C Gestire la navigazione in Internet

---

307) Per preparare un disco alla registrazione dei dati si usa:

A il programma di formattazione.
B il programma di spool.
C il programma di deframmentazione.

---

308) Quale procedimento non si può usare in Excel per modificare una formula inserita in una cella?

A Premere il tasto F2 per attivare il cursore nella cella ed effettuare le modifiche direttamente sulla cella
B Scegliere la finestra di dialogo "Formula" dal menù "Modifica"
C Cliccare sulla cella, posizionarsi sulla barra della formula e inserire il cursore nel punto in cui si deve apportare la modifica

---

309) Quali tra i seguenti tipi di memoria non sono adatti per trasferire dati da un computer ad un altro?

A Hard disk
B Pen drive
C Zip disk

---

310) Il termine resettare significa:

A azzerare le operazioni svolte da un elaboratore.
B danneggiare un software.
C spegnere un computer.

---

311) La normativa sulla Privacy 2016/679, più comunemente definita GDPR (General Data Protection Regulation) tutela:

A la riservatezza dei dati personali.
B la protezione dei dati.
C i diritti dei gestori delle banche dati.

---

312) In un personal computer, quale delle seguenti azioni garantisce la cancellazione di dati riservati da un disco fisso?

A La cancellazione dei file con i dati e di tutti i file temporanei.
B La cancellazione dei file con i dati e lo svuotamento del cestino.
C La formattazione a basso livello

---

313) L' ALU (unità aritmetico-logica) è una tipologia particolare di processore digitale usata per:

A eseguire le operazioni di calcolo
B controllare le operazioni di input e output.
C controllare il funzionamento della memoria.

---

314) Una scheda di rete è:

A un' interfaccia per la connessione del dispositivo a una rete informatica.
B un'interfaccia per collegarsi alla rete elettrica.
C un' interfaccia bidirezionale per collegarsi a un altro calcolatore.

---

315) La normativa sul copyright di un software consente di

A diffondere copie di programmi originali e detenere copie di backup
B commerciare copie sia del software che del manuale.
C produrre copie di backup di programmi regolarmente acquistati

---

316) Quale delle seguenti affermazioni è corretta?

A Per collegarsi ad Internet è indispensabile utilizzare un computer multimediale .
B Internet è un insieme di reti di computer che condividono informazioni mediante lo stesso protocollo di comunicazione.
C Excel è un software per la navigazione in Internet.

---

317) Un file eseguibile è:

A un programma scritto in linguaggio macchina pronto per l'esecuzione
B il codice sorgente di un programma.
C un elaboratore di testi.

---

318) L'hosting di un sito web:

A è un server di una azienda privata connesso a internet.
B è il servizio che consente a un sito web di essere visibile online sulla rete Internet
C è la realizzazione di un sito web su un proprio computer.

---

319) Un programma di formattazione:

A genera il layout di pagina.
B prepara un disco alla registrazione dei dati.
C controlla le operazioni di input e output.

---

320) Per "provider" si intende:

A una società di e-commerce
B una società che fornisce infrastrutture per la connessione a internet.
C una società che fornisce assistenza software

---

321) Il termine "modem":

A deriva dal nome della prima azienda che ha progettato questo apparecchio
B deriva da modulatore-demodulatore.
C significa Modern Module

---

322) Un programma di tipo word processor è detto anche:

A programma di videoscrittura.
B programma di calcolo.
C programma di archiviazione

---

323) L'accesso via internet ai servizi bancari da parte di un utente è detto:

A contact less
B data banks
C home banking

---

324) L'ALU (Arithmetic-Logic Unit") in informatica:

A è un tipo di processore digitale per operazioni aritmetiche o logiche
B è un tipo di foglio di calcolo.
C è la fibra ottica di ultima generazione.

---

325) Nella tastiera di un computer tasti Shift sono usati:

A per cancellare i caratteri alla destra del cursore.
B per digitare le maiuscole o i simboli superiori dei tasti che presentano due simboli.
C hanno funzione diversa secondo l'applicazione in uso.

---

326) Quale delle seguenti affermazioni NON è esatta?

A La fibra ottica è meno soggetta ad interferenze esterne dei cavi di metallo.
B La fibra ottica trasmette messaggi sotto forma di onde luminose.
C La banda di trasmissione della fibra ottica è più bassa di quella dei cavi di metallo.

---

327) Su una tastiera estesa per PC il tasto denominato «Caps Lock» ha la funzione di:

A bloccare la tastiera affinché non possa essere utilizzata da estranei.
B riprodurre le lettere in maiuscolo.
C simulare la presenza di una tastiera di una nazionalità diversa.

---

328) L 'unità minima convenzionale della superficie di un'immagine digitale che serve per definirne la risoluzione è detta:

A byte
B hertz
C pixel

---

329) Quale tra le seguenti affermazioni è corretta a proposito del 5g:

A è un nuovo protocollo internet.
B è un laptop di ultima generazione
C è una tecnologia digitale di telefonia mobile

---

330) Quale particolarità hanno, nei PC, i file con estensione «.EXE», «.BAT», «.CMD»?

A Sono di tipo testo.
B Sono temporanei.
C Sono eseguibili.

331) La RAM di un moderno PC può essere pari a:

A 256 Kb
B 256 Mb
C 256 GB

332) Il Kernel è:

A un diagramma di flusso.
B un componente essenziale dei sistemi operativi.
C un tipo di carattere.

333) Quale delle seguenti unità di misura della capacità di memoria è inesistente?

A Gigabyte.
B Byte.
C Minibyte

334) L'acronimo SSL indica:

A un protocollo che consente la trasmissione di informazioni in modo criptato e sicuro.
B un file di sola lettura.
C un codice di identificazione costituito da un insieme di elementi grafici.

335) Nella posta elettronica, una blacklist è:

A un elenco di mittenti dai quali non si desidera ricevere posta.
B l'elenco dei destinatari che non hanno risposto a una mail.
C l'elenco degli utenti che ricevono messaggi in copia conoscenza.

336) In informatica, un tipo di dato strutturato che comprende diversi campi di tipo eterogeneo è chiamato:

A record
B array
C estensione

337) Tra i seguenti NON è un dispositivo di puntamento:

A touch screen
B mouse
C tastiera

338) Come si misura il clock di un computer?

A In multipli di hertz
B In kilobyte
C in byte

339) La tecnologia che rende possibile effettuare una conversazione sfruttando una connessione Internet o una qualsiasi altra rete di telecomunicazioni dedicata a commutazione di pacchetto, che utilizzi il protocollo IP senza connessione per il trasporto dati è indicata con la sigla:

A GPRS
B e Mule
C VoIP

340) In Windows, quale funzione consente di ottenere sul monitor ciò che verrà stampato:

A l'opzione di setup della stampante.
B l'anteprima di stampa.
C il comando «print nome file».

341) Dove è fisicamente contenuta la memoria RAM in un computer?

A Su supporto a nastro.
B Su un insieme di circuiti integrati.
C Su dischi magnetici fissi.

342) In Windows è possibile recuperare i file precedentemente eliminati?

A No, non è possibile.
B Sì, facendo un doppio click sull'icona "Cestino" e scegliendo "Ripristina" dal menù File.
C Sì, utilizzando l'utility Gestione Risorse.

343) Quale tra le seguenti, in ambiente Windows, è una modalità corretta per riavviare il computer?

A Selezionare l'opzione "Riavvia il sistema".
B Selezionare l'opzione "Arresta il sistema".
C Selezionare l'opzione "standby" e poi riavviarlo.

---

344) Quale tra i seguenti programmi applicativi è più indicato per elaborare dati finanziari in formato tabella?

A Acrobat Adobe.
B Calc di Open Office.
C Word di Microsoft.

---

345) Il GPRS (General Packet Radio Service) è:

A la tecnologia che per prima ha permesso di navigare in internet su dispositivi mobili e di accedere a servizi multimediali.
B un convertitore dei dati digitali di un computer in segnali analogici.
C l'insieme delle tecnologie e delle operazioni relative al download automatico di file di vario tipo.

---

346) Un framework è:

A la consente di configurare una rete LAN e connettersi a un router.
B un dispositivo che consente il collegamento di un computer a una linea di trasmissione analogica.
C la struttura operativa nella quale viene elaborato un software.

---

347) Quale azione non è utile per migliorare la sicurezza dei dati di un computer?

A Cambiare frequentemente la password.
B Installare un antivirus.
C Scegliere nomi che si possono ricordare facilmente.

---

348) Com'è chiamato l'evento che si verifica quando un apparato non riceve risposta ad un'interrogazione entro un periodo di tempo prestabilito?

A Time-out.
B Dead Line.
C Interrupt.

---

349) La sigla B2C riguarda

A l'identità digitale delle persone
B il commercio elettronico
C le comunicazioni tra imprese via internet

---

350) In un Database, è possibile ridurre il tempo di accesso a un record usando:

A record molto piccoli.
B un indice.
C record molto grandi.

---

351) Quale di queste periferiche ha la stessa funzione del touch pad?

A Scanner.
B Mouse.
C Lettore ottico.

---

352) Quale delle seguenti estensioni del nome di un file si riferisce a un tipo di file "compresso"?

A PDF
B ZIP
C JPG

---

353) L'estensione nei nomi dei file serve a:

A associare al file il programma che lo deve elaborare.
B contrassegnare le diverse versioni di un file.
C consentire una più facile ricerca di quel file.

---

354) Con il termine JAVA si intende:

A l'estensione di un file
B un tipo di memoria
C un linguaggio di programmazione

---

355) In Excel, con quale simbolo si indica l'operazione di divisione?

A /
B -
C +

356) L'estensione .MDB identifica un file utilizzato dall'applicazione:

A Paint
B Excel
C Access

357) Quale dei seguenti nomi identifica un sistema operativo?

A Windows 10
B Avast
C Open Office

358) WinRAR è un'applicazione utile per:

A comprimere in un unico archivio molti file.
B espandere la memoria di un computer.
C modificare file audio.

359) Utilizzando Word, per mandare a capo un testo, è necessario premere:

A il tasto "Esc"
B il tasto "Invio"
C il tasto "ALT"

360) La "F" che contrassegna i tasti (F1, F2, F3 ecc.), sulla tastiera di un PC indica:

A Function
B Find
C File

361) Inviando un messaggio di posta elettronica è possibile allegare qualsiasi file senza limitazioni?

A No, esistono delle limitazioni sulla dimensione.
B Sì, si può allegare qualsiasi tipo di file e di qualsiasi dimensione.
C No, si possono allegare solo documenti di testo e documenti di tipo PDF.

362) Un Access Point (AP) è:

A un dispositivo software per evitare attacchi o infiltrazioni nella rete internet.
B una password per accedere alla rete.
C il punto di unione tra una rete cablata e i dispositivi dotati di schede di rete senza fili o Wi-Fi.

363) Uno dei compiti del BIOS (Basic Input-Output System) è:

A offrire procedure per il backup e recovery dei sistemi.
B permettere l'aggiornamento del computer.
C fornire una interfaccia software per l'accesso all'hardware del PC

364) In internet, quale tra i seguenti è un indirizzo IP?

A ip@camera.it
B ftp.unipd.it
C 192.41.6.20

365) Un laptop computer offer il vantaggio:

A di essere dotato di uno schermo più grande
B di avere una maggiore potenza di calcolo
C di essere trasportato facilmente

366) In Excel o in Calc, selezionando Ordina dal menù Dati:

A viene riordinata la parte selezionata della tabella.
B viene creata una tabella mettendo prima le formule e poi i testi.
C viene invertito l'ordine di visualizzazione delle righe.

367) Quale tra i seguenti software è un f browser Internet?

A File Navigator
B Netscape Explorer
C Mozilla Firefox

368) Quali tra le seguenti non è unità periferica?

A Tastiera
B Mouse
C Memoria di sola lettura

369) Attraverso il "Blocco note" di Windows, è possibile:

A Elaborare file grafici
B solo prendere appunti per poi poterli salvare in un file .txt
C Modificare e creare un file .htm

370) Nel software Word, il comando Imposta pagina consente:

A di modificare i margini di un documento.
B di prendere Note di tipo testuale inserendo anche altri elementi multimediali
C avviare il controllo ortografico di un documento aperto.

371) Quale comando di Excel consente di impostare l'intestazione di ciascun foglio stampato?

A Proprietà del menu File
B Nessun comando lo consente
C Intestazione e piè di pagina

372) Quale componente hardware, tra quelle indicate, influenza maggiormente le prestazioni del computer?.

A La memoria cache.
B La memoria RAM.
C La memoria ROM.

373) SQL Server, Oracle, Access sono termini che si riferiscono a:

A le trasmissioni Wi-Fi e wireless in generale.
B database, che possono alimentare un sito Web.
C fonti dati non strutturate.

374) Le celle che formano i fogli di lavoro di un foglio elettronico, consistono in:

A cornici di contorno di grafici, creati con i dati del foglio.
B etichette di riga e di colonna.
C intersezioni tra righe e colonne

375) Un sistema operativo che supporta contemporaneamente l'esecuzione di due programmi viene definito:

A multitask
B multihost.
C multishock.

376) Un rallentamento di un collegamento a internet tramite linea analogica può essere dovuto a:

A interruzione della connessione.
B affollamento della rete e il sovraccarico delle linee.
C sovraccarico dell'hard disk.

377) La sequenza che costituisce un indirizzo IP è rappresentata:

A da otto numeri da 0 a 255 separati da trattini.
B da tre numeri da 0 a 255 separati da punti.
C da quattro numeri da 0 a 255 separati da punti.

378) In un database relazionale, ovvero un tipo di database di archiviazione che fornisce accesso a data point correlati tra loro, un record è:

A un software di ricerca di dati memorizzati nel database.
B la riga di una delle tabelle che rappresentano il database.
C la relazione tra due differenti campi di una delle tabelle che rappresentano il database.

379) In un diagramma di flusso il simbolo del parallelogramma indica:

A una attività di calcolo
B l'inizio o la fine di un algoritmo
C un'operazione di input/output

380) Quale simbolo, utilizzato in ambito informatico, è chiamato in inglese "at"?

A #
B =
C @

381) Un documento può essere letto con un editor standard da tutti i sistemi operativi quando è un file:

A con estensione .exe
B con estensione .txt
C con estensione .bin

---

382) L'e-government è:

A il controllo del funzionamento di un sito internet.
B la licenza per l'uso di un programma.
C l'uso di tecnologie internet da parte della pubblica amministrazione.

---

383) Quale, tra le seguenti, è una estensione di file composti da linguaggi di markup?

A java
B HTML
C JPEG, JPG

---

384) Con i software di sistema che utilizzano l'interfaccia grafica, se si agisce sul bordo o su uno dei quattro vertici di una finestra è possibile:

A chiudere la finestra attiva.
B ridurre la finestra a icona.
C modificare la dimensione della finestra.

---

385) La funzione Trova disponibile nel sistema operativo, solitamente serve a cercare:

A le cartelle e/o i file presenti in un dispositivo di memoria collegato al computer.
B tutti i programmi installati sul computer.
C i file di dati presenti sul disco fisso del computer.

---

386) A partire dai dati contenuti in un foglio di calcolo, si possono creare tipi di grafico:

A ad anello
B a quadrato
C a stella.

---

387) Che cosa si intende per barra degli strumenti?

A una barra che raccoglie, sotto forma di icone, i collegamenti alle funzioni più usate di un software.
B un insieme di icone che illustrano i comandi a cui si può accedere con il tasto destro del mouse.
C un insieme di pulsanti messi a disposizione dell'utente in aggiunta ai comandi.

---

388) Nei sistemi operativi con interfaccia utente grafica, è detto Drag and Drop:

A un metodo rapido per copiare file in più cartelle.
B una tecnica rapida per rinominare un file.
C un metodo rapido per spostare file e icone con il mouse.

---

389) Il login è:

A il caricamento di una pagina web.
B una procedura di ingresso a un sistema informatico, che prevede l'inserimento di un codice identificativo.
C un'operazione di salvataggio di un file di grandi dimensioni.

---

390) Quale affermazione sulla Central Processing Unit è corretta?

A La CPU esegue operazioni logico-aritmetiche.
B La CPU controlla la velocità di clock.
C La CPU è un dispositivo di input.

---

391) Un client di posta elettronica:

A è un programma capace solo di spedire ma non ricevere posta elettronica.
B è l'indirizzo principale di posta elettronica di un utente.
C è un programma che consente la gestione di uno o più account email.

---

392) Che cos'è Scandisk?

A È un software di ricerca e pulitura del disco rigido.
B È un programma di Windows che cerca eventuali errori sul disco rigido per correggerli.
C È un supporto hardware per alleggerire il compito del disco rigido.

---

393) Un virus informatico:

A è un frammento di software che infetta file e programmi computer.che è in grado, una volta eseguito, di infettare dei file replicandosi.
B è un messaggio di posta elettronica inviato con lo scopo di bloccare la funzione degli antivirus installati sul dispositivo.
C è una chiave di ricerca impiegata in maniera errata che può danneggiare l'hardware del computer.

394) Quale delle seguenti estensioni di file, allegata a un messaggio di posta elettronica, ha la minor probabilità di essere rifiutata da un antivirus?

A .doc
B .exe
C .txt

395) Quale dei seguenti NON è un dominio Internet di primo livello?

A .eur
B .com
C .it

396) L'insieme delle regole del processo di comunicazione tra terminali e apparati per il funzionamento efficace della comunicazione in rete si chiama:

A processo.
B interfaccia
C protocollo.

397) È un software completamente gratuito a disposizione degli utenti:

A firewall.
B demo.
C freeware

398) Come può essere tradotto in italiano il termine browser?

A Navigatore.
B Interfaccia.
C Sistema.

399) In internet, quale di questi protocolli è considerato più sicuro?

A Ftp.
B Http.
C Https

400) Negli alimentatori dei PC consentono ai computer di assorbire i picchi di tensione?

A Resistori
B Dissipatori
C Condensatori

401) Qual è il formato in cui WordPad salva automaticamente i documenti?

A .txt
B .rtf
C .pdf

402) Linux è:

A un sistema operativo che può essere installato solo su computer portatili.
B un software a pagamento.
C un sistema operativo open source.

403) Una rete a 8Mbps scrive sul mezzo trasmissivo un file di 8Kbyte in:

A 0,8 s
B 8 ms
C 1 ms

404) Quando su un PC sono installate diverse stampanti, quella di default è quella...

A collegata alla porta seriale.
B collegata alla porta usb.
C dove il computer effettua le stampe a meno che non vengano date istruzioni diverse

405) La pagina iniziale di un browser può essere cambiata:

A impostando la URL prescelta dopo aver selezionato la voce opzioni (Internet) dal menu Strumenti.
B solo nella fase di inizializzazione del browser dall'amministratore del sistema.
C digitando nella barra degli indirizzi la URL prescelta e salvando le modifiche mediante il menu file.

406) In un messaggio di posta elettronica, quale parte è più' a rischio per la propagazione dei virus informatici?

A Gli allegati al messaggio
B Il testo.
C Le immagini.

---

407) Come viene chiamato in inglese il simbolo @?

A bit
B At
C Slash

---

408) Lavorando in Excel, quale pulsante della barra degli strumenti serve a evidenziare in grassetto il carattere di una cella selezionata?

A il pulsante con la S.
B il pulsante con la U.
C il pulsante con la G.

---

409) In Microsoft Word, quale combinazione di tasti occorre premere per modificare il testo evidenziato, consentendo di sottolinearlo?

A "CTRL + C"
B "CTRL + S"
C "CTRL + G"

---

410) Quale, tra i seguenti suffissi dei domini internet di primo livello generici è limitato a enti e agenzie governative americane?

A .com
B .gov
C .us

---

411) Un report è:

A un'interfaccia grafica che semplifica le operazioni di inserimento e modifica dei dati in database.
B un blocco di memoria che viene copiato da una periferica ad un'altra.
C uno strumento che permette di organizzare e riepilogare le informazioni contenute in un database.

---

412) Text Editor è:

A un programma che consente di creare file di testo.
B un programma che consente di configurare il desktop.
C un programma che consente di rinominare file di testo.

---

413) In ambito informatico, da quale tipo di malfunzioni può essere causato il cosiddetto "crash" di un computer ?

A Solo del sistema operativo.
B Solo software.
C Hardware e/o software

---

414) Digitando contemporaneamente i tasti ALT+F5 in un documento Microsoft Word:

A si abilita la funzione di ricerca.
B si salva il documento.
C il documento non appare più a schermo intero.

---

415) La firma digitale:

A è il codice personale usato nei sistemi di pagamento on line.
B è l'equivalente informatico di una tradizionale firma autografa apposta su carta.
C è la scansione di una firma apposta su un documento cartaceo.

---

416) In Excel il comando "Ordinamento personalizzato" consente di:

A impostare la valuta per i numeri che rappresentano cifre monetarie.
B impostare l'ordine di visualizzazione dei fogli di lavoro.
C ordinare dati presenti in un gruppo di celle in base a dei criteri.

---

417) Lo Scandisk:

A è un software di ricerca e pulitura del disco rigido
B B) è un supporto hardware per alleggerire il compito del disco rigido
C è un programma di Windows che cerca eventuali errori sul disco rigido per correggerli

---

418) Le sigle com1 e com2 si riferiscono:

A alla tastiera e al mouse.
B alle porte di comunicazione seriali del computer
C alla tecnologia di rete utilizzabile sia nelle reti locali che in quelle geografiche.

---

419) La Mainboard (scheda principale o scheda madre):

A è l'archivio della posta inviata da un indirizzo email.
B è la piastra principale dove viene inserita la CPU e alla quale vengono collegati tutti i componenti del computer.
C è un software che consente la creazione, la cancellazione e la modifica dei dati contenuti in un database.

---

420) che cosa si intende in informatica per "default"?

A Un valore impostato come condizione iniziale
B La procedura di avvio di un personal computer.
C Un documento.

---

421) Per stampare un documento Word:

A dopo aver selezionato il testo che si desidera stampare, si preme il tasto destro del mouse.
B dopo aver selezionato il testo che si desidera stampare, si preme il tasto sinistro del mouse.
C si seleziona stampa dal menù file

---

422) In Microsoft Excel è possibile gestire dei grafici?

A Si, ma solo grafici di tipo istogramma.
B No, i grafici si possono gestire solo da programmi specifici.
C Si, di qualsiasi tipo

---

423) In ambiente Windows nelle impostazioni «stampanti e scanner»...

A sono elencate tutte le stampanti che è possibile installare, ovvero quelle per le quali è disponibile un driver.
B sono elencate solo le stampanti fisicamente connesse al computer.
C sono elencati tutti i driver delle stampanti installate, anche se non fisicamente collegate al computer, nonché eventuali driver di stampanti virtuali

---

424) Quale tra le unità seguenti non è mai alloggiata nel case?

A Processore.
B RAM.
C Mouse

---

425) Quale, tra i seguenti componenti hardware, è più utile aumentare se si vogliono migliorare le prestazioni del computer?

A Il numero delle porte usb.
B La RAM
C Il numero delle stampanti.

---

426) Dove può essere alloggiato l'hard-disk?

A Nel lettore cd.
B Nella CPU.
C Nel case

---

427) Che cos'è uno switch?

A È un dispositivo di rete che si occupa di instradare pacchetti tra reti diverse ed eterogenee.
B Un dispositivo di rete
C Una scheda di rete.

---

428) Nel software MS Word, premendo il tasto CANC si cancella:

A il carattere che si trova a destra del cursore
B solo lo spazio vuoto.
C il carattere che si trova a sinistra del cursore.

---

429) Nei Personal computer, la porta AGP (Accelerated Graphics Port) è un'interfaccia di collegamento per connessioni di:

A stampanti
B CD-Rom
C schede grafiche

---

430) In Microsoft Word la combinazione di tasti "CTRL+FINE":

A sposta il cursore alla pagina successiva del documento.
B sposta il cursore alla fine del documento
C sposta il cursore alla fine della riga corrente.

---

431) Qual è il protocollo utilizzato per navigare su internet?

A Html.
B Htm.
C Http

---

432) Quale, tra i seguenti tipi di file, è consigliabile cancellare periodicamente?

A *.tmp
B *.exe.
C *.com.

---

433) L'estensione ".docx" identifica un file utilizzato dall'applicazione...

A Excel.
B Word
C Photoshop.

---

434) In Windows quando si «clicca» una sola volta su un'icona cosa avviene?

A Viene selezionata l'icona
B Viene spostata l'icona nel cestino.
C Viene modificata l'icona.

---

435) Il cartello «wi-fi zone» indica che:

A una zona è coperta da una rete wireless
B la zona è coperta da una rete con cavo.
C la zona è priva di copertura di rete.

---

436) Un stringa è:

A una sequenza di caratteri alfanumerici
B un sequenza di numeri casuali.
C una password.

---

437) Microsoft Word utilizza spesso combinazioni di colori e sottolineature per richiamare l'attenzione sul testo del documento. la sottolineatura viola (predefinita) indica:

A che il testo è troppo lungo.
B che il testo ha troppo caratteri numerici.
C che il testo è un collegamento ipertestuale già visitato

---

438) Lo zipper è un programma utilizzato per...

A comprimere esclusivamente file Word perché occupino meno spazio.
B comprimere file o directory perché occupino meno spazio
C verificare che un file non contenga virus.

---

439) Su un foglio del programma Excel, si ha: nella cella a1 il valore 1, nella cella a2 il valore 2, nella cella a3 il valore 3. se nella cella a4 si pone la formula "=a1*a2", quale valore si ottiene?

A 2
B 0.
C 6.

---

440) La funzione "controllo ortografico" dei più diffusi programmi di videoscrittura:

A consente di evidenziare gli eventuali errori di ortografia, proponendo le possibili alternative
B consente di avere un rapporto riepilogativo degli errori riscontrati.
C non è mai attivata.

---

441) Un "touchpad" è un dispositivo di:

A solo ingresso
B ingresso e uscita.
C trasmissione dei dati.

---

442) In ambito informatico, con quale termine vengono indicate le immagini di piccole dimensioni utilizzate per navigare con maggiore comodità in un archivio digitale?

A Alias.
B Thumbnails
C Samples.

443) Quando si installa un nuovo software di posta elettronica, una delle prime operazioni da eseguire consiste:

A nella creazione di un nuovo sito web.
B nella formattazione del computer.
C nella creazione o configurazione di un account di posta

444) Usando Windows con quale combinazione di tre tasti si può attivare la finestra che consente tra l'altro l'arresto del computer?

A CTRL + ALT + CANC
B CTRL + SHIFT + ALT.
C SHIFT + TAB + CTRL.

445) Qual è la definizione corretta di «gruppo di continuità»?

A Sistema per la deframmentazione dei dischi fissi.
B Sistema a batterie per sopperire ad eventuali black-out della rete elettrica
C Periferica per la connessione continua a internet.

446) La sigla http che compare negli indirizzi Internet significa:

A High Text Transfer Processing.
B Hyper Tool Transfer Protocol.
C Hyper Text Transfer Protocol.

447) Per inserire, in Excel, un nuovo foglio di lavoro si deve:

A scegliere "foglio di lavoro" dal menù "inserisci"
B scegliere "foglio di lavoro" dal menù "modifica".
C scegliere "foglio di lavoro" dal menù "file".

448) In allegato ad un messaggio di posta elettronica è possibile inserire un file con estensione ".jpg"?

A No, in allegato ad un messaggio di posta elettronica possono essere inviati solo file di testo (.doc, .txt, etc.).
B Sì, ma solo se la versione del programma di posta è la più recente.
C Sì, l'allegato di un messaggio di posta elettronica può avere qualsiasi estensione

449) .txt, ".rtf", ".doc" sono estensioni riconducibili a:

A file audio.
B file testo
C file di back-up.

450) Quale tra i seguenti programmi risulta più adatto a gestire un'agenda telefonica personale?

A Un editor di testi.
B Un foglio elettronico
C Un programma di presentazione.

451) La memoria RAMdi un comune PC:

A fa parte della memoria cache del microprocessore.
B è un esempio di memoria volatile
C è un esempio di memoria non volatile.

452) Nel software Word, è possibile modificare la dimensione del carattere utilizzato nel documento, servendosi del comando del menu "formato":

A paragrafo.
B carattere
C zoom.

453) Che cos'è internet?

A Un particolare tipo di rete di calcolatori utilizzata nei centri di calcolo.
B Un insieme di reti di computer dislocati in tutto il mondo che condividono informazioni mediante lo stesso protocollo di comunicazione
C Un particolare modello di computer in grado di reperire informazioni in tutto il mondo.

454) Nell'architettura di internet, il protocollo pop3 consente:

A il trasferimento diretto di stream video.
B la gestione semplificata degli apparati di rete.
C la ricezione della posta elettronica

455) In un personal computer, con quale frequenza è opportuno aggiornare il sistema antivirus?

A Tutte le volte che il produttore dell'antivirus rende disponibili aggiornamenti del sistema
B Solo dopo che è stata rilevata la presenza di un virus.
C Ogni volta che si modificano le modalità' di collegamento alla rete.

456) Per inserire una tabella in Word quale sequenza di comandi si deve eseguire?

A Scegliere "inserisci tabella" dal menù "inserisci".
B Scegliere "aggiungi tabella" dal menù "formato".
C Scegliere "inserisci tabella" dal menù "tabella"

457) Con riferimento ai servizi applicativi di internet, il protocollo https consente:

A di navigare le pagine web
B il trasferimento di stream musicali.
C l'invio della posta elettronica.

458) Quale tra le seguenti estensioni indica un file audio?

A Pcx.
B Mp3
C Rtf.

459) Cosa accade tenendo premuto a lungo il tasto della lettera «s» mentre si è in un documento Word?

A Il computer si spegne.
B Viene selezionata la riga in cui si trovava il cursore all'inizio dell'operazione.
C Viene ripetuto più volte il carattere s

460) Per digitare i numeri utilizzando il tastierino numerico come bisogna procedere?

A Si digitano i numeri senza nessuna procedura.
B Attivare, se non lo è già, il tasto bloc num
C Attivare, se non lo è già, il tasto caps lock.

461) Quale operazione non compie il sistema operativo?

A La gestione delle risorse delle periferiche.
B Le operazioni di calcolo
C Inviare le istruzioni immesse dall'utente e dai software alle parti meccaniche.

462) In un personal computer, quale tipo di backup si deve impiegare per ottenere una copia identica di un intero disco fisso immediatamente utilizzabile fisicamente su un altro computer?

A Backup di tipo incrementale.
B Backup on-line.
C Duplicazione dell'hard-disk

463) I cd-rom?

A servono a conservare temporaneamente dati e programmi, ma vengono cancellati ogni volta dati e programmi vengono trasferiti sull'hard-disk o nella ram.
B sono memorie magnetiche di massa, interne al calcolatore.
C sono piccole memorie di massa esterne, adatte ad archiviare dati, a scambiarli, a farne una copia di sicurezza

464) Come viene definito il metodo che consiste nel selezionare e trascinare, con il mouse, elementi grafici o porzioni di testo?

A Drop folder.
B Cut and paste.
C Drag and drop

465) Prima di digitare "é" è necessario...

A non tenere premuto nessun tasto.
B tenere premuto il tasto "alt".
C tenere premuto il tasto "maiusc"

466) Nel linguaggio informatico, il termine «cookie» si riferisce a...

A un insieme di informazioni che un server web memorizza nell'hard-disk di un utente che si è collegato al suo sito internet
B programmi per l'individuazione e la correzione di errori nell'ortografia delle parole.
C circuiti che vengono affiancati alla CPU per aumentarne le prestazioni.

467) Il dominio ".eu"...

A è generalmente riservato ad enti, aziende, ..., originarie dell'unione europea
B è generalmente riservato ad enti, aziende, ..., originarie dell'etiopia.
C non esiste.

468) La funzione principale di una CPU (central processing unit) consiste nel:

A collegare i vari componenti del calcolatore.
B immagazzinare dati.
C eseguire calcoli

469) Formattare un disco significa:

A rendere il disco avviabile.
B dividere il disco in unità logiche.
C cancellare i dati da un disco

470) Nell'architettura di internet, il protocollo http serve per:

A gestire l'interazione tra client e server in un contesto web
B inviare solo messaggi e-mail.
C richiedere l'identificazione utente certificata ssh.

471) Nel "cestino" di un computer dotato di un sistema operativo Windows, si trovano:

A i file cancellati
B i file creati più di 5 anni prima.
C i file di configurazione.

472) È possibile, in una stampante, visualizzare le stampe accodate?

A Si, aprendo tutti i singoli file.
B Si, bisogna accedere alla cartella "stampanti" e fare doppio click sull'icona della stampante
C No, non è possibile visualizzare le stampe accodate.

473) Microsoft Word...

A è un sistema operativo.
B è un programma di videoscrittura
C è un programma per gestire la posta elettronica.

474) Un file con estensione .exe...

A è un file eseguibile
B è un file di testo.
C è un file multimediale.

475) Le memorie cache introdotte nei processori consentono...

A di ridurre al minimo il tempo che il processore impiega per recuperare i dati usati di recente
B di riprodurre video ad altissima definizione.
C di rendere più efficace il controllo dei dati in entrata.

476) Nell'applicazione di posta elettronica MS Outlook, il comando "account" del menu "strumenti" serve per:

A configurare gli indirizzi di posta dell'utente del programma
B configurare la visualizzazione delle mail ricevute o inviate.
C gestire la rubrica degli indirizzi.

477) In html, il tag <img> serve a specificare:

A una tabella.
B un'immagine
C un testo.

478) In ambito informatico, come viene definito l'uso delle tecnologie internet per distribuire online contenuti didattici multimediali?

A Videoconferenza.
B E-learning
C E-mail.

479) Perché la CPU possa eseguire un programma le istruzioni ad esso relative devono risiedere...

A in una memoria di massa.
B esclusivamente nella ROM.
C nella RAM oppure nella ROM

---

480) In ambito informatico, la "crittografia" consente di...

A incrementare la velocità di navigazione in internet.
B evitare che i file vengano corrotti da virus durante il loro trasferimento.
C evitare che l'informazione trasferita in rete venga intercettata, perché viene alterata con un codice noto solo a chi invia e riceve

---

481) Una periferica che visualizza i dati di un applicativo è definita...

A stampante.
B monitor
C mouse.

---

482) In un programma di posta, se inavvertitamente si elimina un messaggio di posta elettronica, è possibile recuperarlo?

A Sì, andando nel "cestino" di Windows.
B Sì, andando nella cartella "posta eliminata"
C Sì, ma solo se il computer è dotato di un'unità di back-up.

---

483) In Windows, per avviare particolari funzionalità per la gestione dei "task" è possibile utilizzare la combinazione di tasti:

A ctrl-alt-canc
B ctrl-alt-ins.
C ctrl-maiuscolo-canc.

---

484) In Word, quali comandi si devono usare per spostare un testo?

A Seleziona tutto e incolla.
B Taglia e incolla
C Taglia e copia.

---

485) In una postazione di lavoro ergonomica:

A è importante che la luce non provochi riflessi sullo schermo
B è sufficiente che la luce illumini la tastiera.
C è opportuno che l'illuminazione sia artificiale.

---

486) Per eliminare un file in ambiente Windows, si deve...

A cliccare sul tasto di destra sulla sua icona e selezionare dal menù a tendina il comando taglia.
B trascina l'icona del cestino sull'icona del file.
C cliccare con il tasto di destra sulla sua icona e selezionare dal menù a tendina il comando elimina

---

487) Il numero massimo di righe in Excel è...

A circa 1 milione.
B circa 10 milioni
C dipende dalla memoria del computer.

---

488) Quale tra i seguenti indirizzi internet non è formalmente corretto?

A http://www.roma.gov.
B ftp://ftp.uni.edu
C http://www@sito.commercio.it/index.html.

---

489) In che cosa consiste la procedura di salvataggio di un file?

A Nella memorizzazione con trasferimento dei dati dalla memoria del computer su hard-disk.
B Nel trasferimento del file di dati da hard-disk alla memoria del computer.
C Nella memorizzazione con trasferimento di una porzione del file di dati dalla memoria del computer su floppy disk o hard-disk.

---

490) Quale delle seguenti procedure è utile per mantenere la sicurezza dei dati archiviati in un computer?

A Usare dei software antivirus aggiornato.
B Formattare periodicamente il disco fisso.
C Eseguire il programma deframmentazione del disco fisso.

---

491) In internet, "www.esempio.com", indica:

A la nazionalità del proprietario del dominio.
B l'indirizzo del sito.
C il nome del proprietario dell'indirizzo web.

---

492) In Excel, che cosa si intende per "formula"?

A Un segno o un simbolo che specifica il tipo di calcolo da eseguire.
B Un'equazione che esegue calcoli su valori contenuti in un foglio di lavoro.
C Un valore costante non calcolato.

---

493) Che cosa si intende in office automation per «condivisione delle risorse»?

A Risorse informatiche condivise tra più utenti collegati in rete.
B Risorse informatiche condivise tra più computer.
C Risorse informatiche condivise fra più software.

---

494) Quali tra queste unità di memoria perde tutti i dati una volta che il calcolatore viene spento?

A La memoria ram.
B La memoria di massa.
C La memoria dell'hard-disk.

---

495) In internet, quale dei seguenti protocolli viene utilizzato da un programma client per gestire caselle di posta memorizzate su un server remoto?

A IMAP.
B FTP.
C HTTP.

---

496) Il masterizzatore:

A è il dispositivo hardware utilizzato per creare o duplicare Compact Disc o DVD di dati, audio e/o video
B è un programma che consente di alleggerire il carico di lavoro di una stampante.
C è il CD-rom scrivibile sul quale copiare dati su supporto di memorizzazione tramite un'ottica laser

---

497) In Microsoft Word premendo contemporaneamente i tasti "ctrl" e "freccia sinistra":

A si sposta il cursore alla fine della riga corrente.
B si sposta il cursore alla parola precedente.
C si sposta il cursore alla pagina precedente.

---

498) Dopo aver attivato una finestra in Windows 10, che cosa accade sul desktop?

A Compare esclusivamente il nome e la barra dei menu.
B La finestra è posizionata in primo piano e la barra del titolo è evidenziata.
C Scompare la finestra attivata e appare la barra degli strumenti.

---

499) Tra i seguenti programmi è il più adatto a gestire un'agenda telefonica personale:

A un editor di testi.
B un foglio elettronico.
C un programma di presentazione.

---

500) Per ascoltare musica mediante un computer, sarà necessario dotarlo:

A di lettore cd-rom.
B di un lettore multimediale.
C di scheda audio.

CONOSCENZA BASE STRUMENTI DI OFFICE AUTOMATION
RISPOSTE CORRETTE

1 **A**	2 **C**	3 **B**	4 **A**	5 **A**
6 **C**	7 **A**	8 **B**	9 **C**	10 **C**
11 **C**	12 **A**	13 **A**	14 **A**	15 **A**
16 **C**	17 **B**	18 **A**	19 **C**	20 **B**
21 **B**	22 **C**	23 **C**	24 **A**	25 **B**
26 **A**	27 **B**	28 **A**	29 **C**	30 **C**
31 **A**	32 **C**	33 **A**	34 **A**	35 **B**
36 **A**	37 **A**	38 **B**	39 **C**	40 **A**
41 **C**	42 **B**	43 **A**	44 **C**	45 **A**
46 **A**	47 **B**	48 **B**	49 **C**	50 **A**
51 **C**	52 **C**	53 **C**	54 **A**	55 **C**
56 **B**	57 **C**	58 **C**	59 **C**	60 **B**
61 **C**	62 **B**	63 **C**	64 **B**	65 **A**
66 **C**	67 **A**	68 **B**	69 **B**	70 **C**
71 **C**	72 **B**	73 **B**	74 **B**	75 **C**
76 **B**	77 **C**	78 **B**	79 **A**	80 **A**
81 **A**	82 **A**	83 **A**	84 **C**	85 **A**
86 **C**	87 **A**	88 **A**	89 **A**	90 **B**
91 **B**	92 **A**	93 **A**	94 **A**	95 **B**
96 **B**	97 **B**	98 **C**	99 **B**	100 **B**
101 **B**	102 **C**	103 **B**	104 **B**	105 **B**
106 **C**	107 **A**	108 **A**	109 **C**	110 **A**
111 **B**	112 **C**	113 **B**	114 **B**	115 **A**
116 **A**	117 **C**	118 **C**	119 **A**	120 **C**
121 **B**	122 **A**	123 **B**	124 **C**	125 **C**
126 **B**	127 **C**	128 **A**	129 **B**	130 **C**
131 **A**	132 **B**	133 **A**	134 **A**	135 **C**
136 **C**	137 **B**	138 **B**	139 **B**	140 **B**
141 **A**	142 **B**	143 **C**	144 **A**	145 **C**
146 **B**	147 **B**	148 **B**	149 **B**	150 **A**
151 **C**	152 **B**	153 **A**	154 **B**	155 **B**
156 **C**	157 **B**	158 **A**	159 **A**	160 **A**
161 **A**	162 **B**	163 **C**	164 **B**	165 **B**
166 **C**	167 **A**	168 **B**	169 **C**	170 **A**
171 **A**	172 **A**	173 **A**	174 **A**	175 **A**
176 **B**	177 **B**	178 **A**	179 **A**	180 **C**
181 **C**	182 **A**	183 **B**	184 **B**	185 **C**
186 **A**	187 **C**	188 **B**	189 **C**	190 **B**
191 **C**	192 **B**	193 **A**	194 **A**	195 **B**
196 **B**	197 **B**	198 **C**	199 **C**	200 **A**
201 **C**	202 **A**	203 **A**	204 **B**	205 **C**
206 **A**	207 **C**	208 **B**	209 **C**	210 **A**
211 **A**	212 **C**	213 **B**	214 **C**	215 **B**
216 **C**	217 **A**	218 **A**	219 **B**	220 **A**
221 **B**	222 **A**	223 **B**	224 **A**	225 **C**
226 **A**	227 **C**	228 **B**	229 **B**	230 **B**
231 **B**	232 **C**	233 **A**	234 **B**	235 **C**

236 **C**	237 **B**	238 **C**	239 **A**	240 **A**
241 **C**	242 **B**	243 **A**	244 **B**	245 **B**
246 **C**	247 **C**	248 **B**	249 **A**	250 **C**
251 **C**	252 **B**	253 **C**	254 **A**	255 **A**
256 **C**	257 **A**	258 **B**	259 **B**	260 **A**
261 **B**	262 **B**	263 **C**	264 **C**	265 **A**
266 **A**	267 **C**	268 **B**	269 **A**	270 **B**
271 **C**	272 **C**	273 **B**	274 **B**	275 **C**
276 **A**	277 **A**	278 **A**	279 **A**	280 **C**
281 **B**	282 **A**	283 **C**	284 **B**	285 **A**
286 **A**	287 **B**	288 **A**	289 **C**	290 **C**
291 **B**	292 **C**	293 **B**	294 **C**	295 **A**
296 **B**	297 **B**	298 **B**	299 **B**	300 **B**
301 **C**	302 **A**	303 **C**	304 **C**	305 **B**
306 **B**	307 **A**	308 **B**	309 **A**	310 **A**
311 **A**	312 **C**	313 **A**	314 **A**	315 **C**
316 **B**	317 **A**	318 **B**	319 **B**	320 **B**
321 **B**	322 **A**	323 **C**	324 **A**	325 **B**
326 **C**	327 **B**	328 **C**	329 **C**	330 **C**
331 **B**	332 **B**	333 **C**	334 **A**	335 **A**
336 **A**	337 **C**	338 **A**	339 **C**	340 **B**
341 **B**	342 **B**	343 **A**	344 **B**	345 **A**
346 **C**	347 **C**	348 **A**	349 **B**	350 **B**
351 **B**	352 **B**	353 **A**	354 **C**	355 **A**
356 **C**	357 **A**	358 **A**	359 **B**	360 **A**
361 **A**	362 **C**	363 **C**	364 **C**	365 **C**
366 **A**	367 **C**	368 **C**	369 **C**	370 **A**
371 **C**	372 **A**	373 **B**	374 **C**	375 **A**
376 **B**	377 **C**	378 **B**	379 **C**	380 **C**
381 **B**	382 **C**	383 **B**	384 **C**	385 **A**
386 **A**	387 **A**	388 **C**	389 **B**	390 **A**
391 **C**	392 **B**	393 **A**	394 **C**	395 **A**
396 **C**	397 **C**	398 **A**	399 **C**	400 **C**
401 **B**	402 **C**	403 **B**	404 **C**	405 **A**
406 **A**	407 **B**	408 **C**	409 **B**	410 **B**
411 **C**	412 **A**	413 **C**	414 **C**	415 **B**
416 **C**	417 **C**	418 **B**	419 **B**	420 **A**
421 **C**	422 **C**	423 **C**	424 **C**	425 **B**
426 **C**	427 **B**	428 **A**	429 **C**	430 **B**
431 **C**	432 **A**	433 **B**	434 **A**	435 **A**
436 **A**	437 **C**	438 **B**	439 **A**	440 **A**
441 **A**	442 **B**	443 **C**	444 **A**	445 **B**
446 **C**	447 **A**	448 **C**	449 **B**	450 **B**
451 **B**	452 **B**	453 **B**	454 **C**	455 **A**
456 **C**	457 **A**	458 **B**	459 **C**	460 **B**
461 **B**	462 **C**	463 **C**	464 **C**	465 **C**
466 **A**	467 **A**	468 **C**	469 **C**	470 **A**
471 **A**	472 **B**	473 **B**	474 **A**	475 **A**
476 **A**	477 **B**	478 **B**	479 **C**	480 **C**
481 **B**	482 **B**	483 **A**	484 **B**	485 **A**
486 **C**	487 **A**	488 **C**	489 **A**	490 **A**
491 **B**	492 **B**	493 **A**	494 **A**	495 **A**
496 **A**	497 **B**	498 **B**	499 **B**	500 **C**

CONOSCENZA DELLA LINGUA INGLESE
DOMANDE

1) **Choose the best word to complete this question: "I'm sorry. I didn't understand your name. Can you ____ your surname please?"**

A syllable
B writing
C spell

2) **Which sentence is correct?**

A I always go out in the evening: the last time I did was six months ago.
B I often go out in the evening: the last time I did was six months ago.
C I seldom go out in the evening: the last time I did was six months ago.

3) **Choose the words to complete the sentence. "I've had an awful journey! The plane was five hours late and no one even ____ us the reason ____ the delay".**

A told / of
B say for
C tell / by

4) **Complete the following sentence: "I think European cinema is often much _____ stimulating than most Hollywood films".**

A so
B more
C as

5) **Choose the correct sentence.**

A The kitchen can't be dirty, she have just cleaned it.
B The kitchen can't be dirty, she has just cleaned it.
C The kitchen can't be dirty, she just clean it.

6) **Choose the correct sentence.**

A I'm catching an early flight tomorrow, so I needn't drink too much wine!
B I'm catching an early flight tomorrow, so I mustn't drink too much wine!
C I'm catching an early flight tomorrow, so I haven't drink too much wine!

7) **Choose the correct form to complete the sentence. "The company ____ in the red for some years when it was forced to close down".**

A had already been operating
B has already operated
C already operating

8) **Choose the best words to complete the sentence. "I am not familiar with this technology yet so I am going to ____ research on it".**

A make a
B do some
C do any

9) **Complete the following sentence: "_____ we live in the same building, we hardly see each other".**

A Although
B therefore
C furthermore

10) **Choose the correct form. "We had a small _____ yesterday".**

A get off
B get down
C get together

11) **Complete the following sentence: "Mike and Susan _____ the house last month, but they ___move into it yet".**

A had boug /no
B bought / didn't
C buy / don't

---

12) **Complete the following sentence: "I am very happy ____ won the first prize. However, I ____ give some money to charity!"**

A having /will have
B to have / will
C have / will do

---

13) **Complete the following sentence. "I was able to _____ my baggage promptly after_____ the plane".**

A rescue / leave
B retrieve / leaving
C recover / left

---

14) **Fill in the blank. "Hello? Is that the Russian Tourist Office? I'm thinking of going to Moscow for my Easter break. Could you give me ___ information about hotels and flights, please".**

A the
B an
C some

---

15) **Complete the following sentence: "I am really tired ____ football. I think I'll ____ at home".**

A when play / staying
B after playing / stay
C over to play / be

---

16) **Choose the correct translation: "Il video dura un quarto d'ora":**

A The video lasts a quarter of an hour.
B The video is during quarter of an hour.
C The video go on for a quarter of an hour.

---

17) **Choose the correct sentence:**

A The sea were calm yesterday, so we didn't go boating.
B The sea has been rough last week, so we don't go boating.
C The sea was rough yesterday, so we didn't go boating.

---

18) **Fill in the blank. "___. is Rome from Milan?"**

A How far
B How long
C What distance

---

19) **Fill in the blank. "You can buy them in _____ pink or green. There's a choice of two colours".**

A whether.
B also
C either

---

20) **Fill in the blank. "In the beginning the street was noisy, but now I.....it".**

A used to
B am used to
C used

---

21) **Thanks for remembering my birthday, but you.....bought me a present.**

A shouldn't have
B mustn't
C haven't

---

22) **Indicare la traduzione corretta: "Non è mai puntuale"**

A He is never on time.
B He is never in a good time.
C He is never in time.

---

23) **Fill in the blank. "The ____famous date in English history is 1066 AD, when William the Conqueror _____King of England after the Battle of Hastings".**

A most / became
B too / become
C very / becomed

24) **Choose the correct sentence.**

A When I said: «the time is over», she look at her watch quickly.
B I said: «the time is over», she glanced quickly at her watch.
C When I said: «the time is on», she observed quickly watch.

25) **Complete the following sentence: "I __ our friends at the airport a few weeks ago, _____ to London".**

A were meeting / you are going
B meet / they was going
C met /they were going

26) **Complete the following sentence. "The ____of this poisonous algae has caused the ___of many kinds of fish".**

A mortality / decline
B proliferation / death
C coming/ exodus

27) **Complete the following sentence: "In airport all boarding passes .... to the flight attendant before boarding".**

A must have given.
B must be given.
C must give.

28) **Fill in the blank. "An important spice is made from fennel seeds. Aside from its many culinary uses, fennel and its seeds may provide antioxidant, anti-inflammatory and antibacterial effects and offer a wide array ____"**

A to welfare.
B of health benefits.
C of fitness.

29) **You read the following newspaper headline: "Get away for less". The article will be about...**

A buying a house.
B a low-cost travel offer.
C a low-cost travel offer.

30) **Read the passage and answer the question. A significant social trend in the 20th century was for people to move away from their place of birth in order to access education and work. This gave individuals more opportunities and helped the economy by producing mobility within the workforce. The negative side of this is now being felt as more and more elderly people face the problems of old age without family members nearby to care for them. This has negative effects on the economy as well as on the individual, as more and more state funding for care is needed. Which one of the following could be drawn as a conclusion of the above passage?**

A The benefits of a mobile workforce have to be compared with the costs to elderly people and the economy.
B People should try to find education and work close to their place of birth.
C Elderly people are expecting the state to provide care for them rather than relying on their children.

31) **Fill in the blank. "The police arrested the man who _____ the jewels".**

A had stolen
B were stoling
C stoled

32) **Fill in the blank. "It's already ten. You'd better take a taxi. ..., you'll arrive late".**

A However.
B Otherwise.
C Furthermore.

33) **Choose the correct sentence.**

A That house isn't big enough for us and furthermore it's too expensive.
B That house isn't big enough for us and too much expensive.
C That house isn't big enough for us and hence too expensive.

34) **Fill in the blank. "The jump was such a daunting prospect that he decided _____ doing it".**

A about.
B against.
C off

---

35) **Complete the following sentence: "He says he's been robbed. He can't find his wallet ....."**

A nowhere.
B anywhere.
C not anywhere.

---

36) **Complete the following sentence: "My friends ____ me to go to the cinema, but I said that I____the movie".**

A ask / had already saw
B was asking / already saw
C asked / had already seen

---

37) **Complete the following sentence: "Where does Michael live? He ___ in Paris since 1999".**

A is living
B does live
C has lived

---

38) **Choose the correct sentence:**

A Stop to make that dreadful noise.
B Stop making that dreadful noise.
C Stop makes that dreadful noise.

---

39) **Fill in the blank. "Every child _____ an ice cream".**

A likes
B is liking
C to like

---

40) **Choose the correct sentence:**

A What made you say that?
B What make you say that?
C What is going to say that?

---

41) **Choose the correct sentence:**

A Jenny is bathing in the sea now.
B Jenny bathed in the sea tomorrow.
C Jenny bathe in the sea now.

---

42) **Choose the correct sentence.**

A We couldn't be driving along here when the road has been repaired
B We aren't able to drive along here while the road was being repaired
C We can't drive along here because the road is being repaired

---

43) **Fill in the blank. "Don't tell anybody. You .... keep it a secret".**

A doesn't
B may
C must

---

44) **Fill in the blank. "The actors _____ the tragedy at the Globe Theater in Rome".**

A were paid
B played
C paying

---

45) **Fill in the blank. "If he ... my friend, I would swim in his pool every day".**

A will be
B would be
C were

---

46) **Choose the best word or phrase to begin this sentence:" ____ I manage to get through all the letters I have to write this morning, I'll be able to start working on the new project this afternoon".**

A As long as
B Since
C Whether

47) What does idiomatic expression "be in a tight corner" mean?

A essere in una situazione dalla quale è difficile uscire.
B vedere una situazione da una diversa prospettivA)
C cogliere qualcuno sul fatto.

48) Complete the following sentence: "I think everyone ____ go to the dentist twice a year".

A should
B would
C had

49) Choose the correct translation. "Did you know that Tom has been hanging out with Susan?"

A Hai saputo che Susan ha cacciato Tom fuori di casa?
B Sapevi che Tom e Susan si sono separati?
C Sapevi che Tom frequenta Susan?

50) At first, my friend didn't want to hire Mary. But, because I had previously worked with Mary, I told my friend that she _____ take another look at her C.V. and reconsider _____ for the job.

A must / her.
B had to / she.
C ought to / her.

51) Read the passage and answer the question.Vincent Willem van Gogh (30 March 1853 - 29 July 1890)) was a Dutch painter who, during his life time, sold only one picture. However, he became, after his death, one of the most famous artist in the story of western art. He created about 2,100 paintings: landscapes, portraits and self- portraits. His life was plagued by psychotic episodes and deep depression, certainly the main cause of his suicide in the 29 July of 1890. After his death, the previous unsuccess was transformed into a glorification: Vincent van Gogh became famous and was hailed as a very important painter.How many paintings did Van Gogh sell during his life?

A only one
B 1.89
C 2.1

52) Complete the following sentence. "Planes travel .... than trains, but getting on and off planes at airports is very slow".

A more quickly
B as quickly
C more quick

53) Complete the following sentence: "We are planning _____a fence around the property".

A to put in
B to put up
C to put over

54) In the context of education, what does "best practice" mean?

A The repetition of a single idea until it is proven to work.
B A competition to see which team or individual is the best.
C Implementation of methods and techniques that are successfully used by people or organizations.

55) Choose the correct translation. "How come Anna 's putting you up this week?"

A Come mai ospiti Anna questa settimana?
B Come mai Anna ti ospita questa settimana?
C È vero che Anna questa settimana manderà te?

56) The following sentence contains one or more mistakes. Choose the right one. "We loosed the match because we was slow".

A We loosed the match because we were slow
B We lost the match because we were slow
C We lost the match because we was slow

57) To be in hot water means:

A essere in guai seri.
B tenere in caldo una questione.
C godere dei favori di qualcuno.

58) **Complete the following sentence: "_____ the toys once you have finished playing with them".**

A Put in
B Put away
C Put off

59) **Complete the following sentence: "The company spent over six million dollars on improving safety. The scheme was a big success. Now, the firm has .... accidents".**

A lesse
B fewer
C more

60) **An idiom is a group of words that are used as a common expression whose meaning is not deducible from that of the literal words. What's the meaning of idiom "The ball is in your court" ?**

A Tocca a te decidere.
B Buona fortuna!
C Hai buone probabilità di farcelA)

61) **The word "fleetingly" means:**

A suddenly
B quickly
C slowly

62) **Complete the following sentence: "Please _____ your coat. I am taking you ___ the doctor".**

A put into / by
B put on /to
C put off/ at

63) **Complete the following sentence: "They _____ the fire in the basement of the building".**

A put in
B put out
C put down

64) **Read the passage and answer the question.In the year of 1945 United Nations Organization came into being as the successor of League of Nations. It began with fifty nations as its members but now it has 193 member nations accounting for almost all the countries of entire earth. The nations are the members of the UN General Assembly, the world body's chief deliberate organ. All the other wings are answerable to it through annual and special periodical reports submitted for its consideration. The General Assembly, discusses the reports and gives its approvals, elects General Secretary and the judges of the International court of Justice, admits new members to the Assembly, and also elects the non-permanent members of various councils. There are Economic and Social Council, The Trusteeship council besides the International Court, General Assembly and the Security Council. The General Secretary is the Chief Administrative Office of the world body who heads the UN Secretariat. He presides over the General Assembly meetings and those of other organs of U.N.O.How many members the General Assembly now has?**

A 162
B 193
C 185

65) **Complete the following sentence: "The accident _____ at 9 p.m. and the ambulance arrived within 10 minutes".**

A was reporting
B was reported
C has been reported

66) **Fill in the blank. "I prefer reading books ..... watching TV".**

A over
B than
C to

67) **Fill in the blank. "The house is ..... to accommodate all".**

A so spacious
B spacious enough
C too spacious

68) **Complete the following sentence: "Silvia's flight from Seattle took more than 10 hours. She _____be exhausted after such a long flight".**

A had better
B must
C can

---

69) **Which of the following would be an appropriate way to begin a formal letter to a person you don't know?**

A Illustrious Mister
B Dear Responsable
C Dear Sir

---

70) **Choose the best word to complete the following sentence: "I'm always exhausted because my job is so demanding. I'm ____ a coffee bar in the centre of town at the moment, so I'm busy every day except Sundays".**

A running
B directing
C working

---

71) **Complete the following sentence: "If you are going to be interviewed for a new job, you ____ as much as possible about what the interview will be like".**

A have to look after
B must look for
C should find out

---

72) **Complete the following question: "Who'll be_____ you? Does the interview include any tests or exercises?"**

A interview
B iintevisted
C interviewing

---

73) **Which sentence is correct?**

A Nowadays, classes are too big and there aren't enough experienced teachers.
B Nowadays, classes are too big and there aren't teachers enough experienced.
C Classes are too big and there aren't experienced teachers enough, nowadays.

---

74) **Vexed problem means:**

A An irritating problem
B A difficult problem
C A debatable problem

---

75) **Read the passage and answer the question.It has long been thought that birds are much less intelligent than humans and apes. But now it seems that some species of birds have the same kind of thinking skills as apes. Crows can create and use tools and are socially sophisticated when finding and protecting food. So how can a bird with a walnut-size brain be capable of such achievements? The answer is that both crows and apes have much bigger brains than you would expect from the size of their bodies. The same pattern is found in humans, parrots and chimps - all intelligent animals.Which one of the following can be drawn as a conclusion from the above passage?**

A Crows are more intelligent than other species of birds.
B Relative brain size is a better indicator of intelligence than absolute brain size.
C Animals that cannot create tools are not intelligent.

---

76) **Choose the correct question for this answer: "He's a film director".**

A What does your father work?
B What does your father do?
C What job your father does?

---

77) **Complete the following sentence: "_____ signing here, please?"**

A Would you mind
B Would you like
C Would you want

---

78) **Complete the following sentence: " She regards _____ as a failure for having dropped out _____ university".**

A Herself / at
B Her own self / of
C Herself / of

79) **Choose the best phrase to complete this sentence: "Argentina is the most exciting country ____".**

A I have ever visited
B I ever been
C I never went

80) **Choose the answer which fits best according to the text. About 1000 B.C. A small groups of Celts began to arrive in Britain from the Continent. Obscure are the origins of this race. It is likely they have come from Germany and France. Then they were pushed westwards by other immigrants. To the local inhabitants the Celts brought important tecniques in agriculture, but chiefly they introduced the fundamental conceptions of settled farming. Their was a pacific conquest: a mingling of races rather that a ferocious one.At the roots of their culture there is the Celtic farm that was a permanent home, a place of work, and a fort. It was the beginning of settled rural life characterized by isolated farms and hamlets. In the regions of Southern England there are traces of many Celtic fields and settlements may be still detected.When the Celts did arrive in Britain?**

A They arrived in 500 BC
B They arrived about 1000 BC
C They arrived in 700 BC

81) **Which word or phrase is missing from the following sentence? I graduated ____ 'Industrial Management Engineer' three months ago.**

A as an
B in
C at the

82) **Complete the following sentence: "... you nor your sister will have to work this weekend!**

A Nor.
B Either.
C Neither.

83) **Choose the best word or phrase to complete this sentence: "My husband doesn't ____ to help plan our holidays!"**

A do much
B do often
C ever much do

84) **Complete the following sentence: " I'm working on two jobs to _____ some _____ money".**

A Win / more.
B Earn / extra.
C Gain / more.

85) **Complete the following sentence: " I'm very sorry. I must have .... I'll add it up again".**

A Made a mistake.
B Performed a mistake.
C Done a mistake.

86) **Choose the best word to complete this sentence: "Door-to-door ____ will involve a 10% surcharge on the price of the purchased goods".**

A delivery
B invoice
C expedition

87) **Complete the following sentence: "This magazine only comes out ...."**

A By itself.
B Quarterly.
C In herds.

88) **Choose the correct form. "Suddenly, the wheel _____ the bicycle".**

A came off
B came over
C came out

89) **Read the passage and answer the question.Capital punishment, also known as the death penalty, is the state-sanctioned killing of a person as punishment for a crime. Amnesty International, a non-governmental organization for the protection of human rights enshrined in the Universal Declaration of Human Rights, opposes the death penalty. Which one of the following reasons for opposing the death penalty is inconsistent with the principles of Amnesty International.**

A The death penalty is not a deterrent against crime.
B The death penalty is cruel, inhuman and degrading.
C The death penalty is contrary to theological principles.

---

90) **Only one of these sentences is correct. Which one?**

A She is similar like her brother.
B She works in the same department like me.
C I would never do anything like that.

---

91) **Fill in the blank. "Last June 17th was an ___ holiday. The 150th anniversary of any event only happens once!"**

A anomalous
B irregular
C unprecedented

---

92) **Read the passage and answer the question.Gianni Rodari (1920 - 1980) was an Italian writer and a journalist. He became famous for his stories for children. His contribution as a children's author is great. He was so appreciated to gain the Hans Christian Andersen medal in 1970: a prestigious prize. He is considered as Italy's most important 20-century children's writer. His books have been translated into many languages and have taught new methods to increase creativity. Unforgettable remains "Grammar of fantasy" that focuses on his great humanity.Was Gianni Rodari a children's writer?**

A No, he was a journalist
B Yes, he had an extraordinary capacity of telling stories for kids.
C No, he was a good editor.

---

93) **Choose the correct answer. "Have you already read this book?"**

A No, I haven't read it yet
B Yes I won't had it.
C Yes, I haven't read it.

---

94) **Choose the best verb form to complete this sentence: "Would you like a chocolate before ____ back to work?"**

A you go
B you will go
C you had gone

---

95) **It took me ten minutes to realise I _____ in the wrong file.**

A Looked.
B Had been looking.
C Had looked.

---

96) **Complete the following sentence: "He wanted to know when _____".**

A I was leaving
B I will leave
C was I leaving

---

97) **Complete the following sentence: "Nicole _____English fairly well, but she has got a strong French accent".**

A is spoken
B speaks
C is speaking

---

98) **Complete the following sentence: "I ..... the book for several weeks now".**

A have been reading
B was reading
C am reading

---

99) **Complete the following sentence: "The phone rang while I ..... dinner".**

A had
B am having
C was having

---

100) **Complete the following sentence: "When you phoned I ..... in the garden".**

A have been working
B was working
C am working

101) **Read the passage and answer the question.The Statue of Liberty is a colossal neoclassical sculpture on Liberty Island in New York Harbor, within New York City. The "Statue of Liberty Enlightening the World" was a gift of friendship from the people of France to the United States and is recognized as a universal symbol of freedom and democracy. The Statue of Liberty was dedicated on October 28, 1886. It was designated as a National Monument in 1924. Employees of the National Park Service have been caring for the colossal copper statue since 1933. Which country gifted the Statue of Liberty to United States?**

A France
B Germany
C England

---

102) **Complete the following sentence: "It took me ten minutes to realise I _____ in the wrong file".**

A Looked.
B Had been looking.
C Had looked.

---

103) **Complete the following sentence: " .... other market possibilities, he mentioned a promising deal".**

A During our discussion.
B While we were discussing.
C While we were having.

---

104) **Choose the best word or phrase to complete this sentence: "The manager thinks we should accept the contract and I ____ ".**

A am agree
B agreeable
C agree

---

105) **Fill in the blank. "She's very good .... languages!"**

A about
B in
C at

---

106) **Which of the following sentences is NOT correct?**

A He was given the sack because he was always late for work.
B He was redundant because he argued with the boss.
C He was dismissed for molesting female members of staff.

---

107) **Choose the correct translation. "On second thought, your solution seems the best".**

A Non ho pensato a una soluzione migliore della tuA)
B Ripensandoci bene, la tua soluzione sembra la migliore.
C Pensandoci bene, la tua soluzione non sembra la migliore.

---

108) **Complete the following sentence: "I've _____ to _____ your cousin to the party".**

A forgetting / invited
B forget / to invite
C forgotten / invite

---

109) **Complete the following sentence: "Some new shares have just been ...."**

A Conceived.
B Bred.
C Issued.

---

110) **Complete the following sentence: "Skye is a beautiful island off the west _____ of Scotland".**

A coast
B edge
C border

---

111) **Read the passage and choose the answer which fits best according to the text. Many great whales like the Humpback have been so brutally massacred by mankind that whalers consider them commercially extinct. Whales are still over-exploited. Typical is the Blue whale, the largest animal that has ever lived on this earth - 100 feet (30 metres) long and weighing 160 tons. Since 1900 we humans have killed over 300,000 of them and there are only a few thousand left. Despite international demands to stop the slaughter, whalers - mainly Japanese and Russian - are destroying four other species of great whale; some have already been reduced to 20 per cent of their former population. Whalers can turn to other trades but the great whales can never be recreated. They have much to teach us. These peaceful creatures have highly developed brains and close family and social organization. They can communicate over great distances, and dive to great depths. We cannot yet explain their full role in the ecology of the seas, but if they are wiped out and we find their role was a vital one, it will be too late. The whales:**

A don't dive to great depths
B are dangerous to humans
C have highly developed brains

---

112) **Complete the following sentence: "When she was a little girl she used to _____ small glass animals".**

A collect
B choose
C pick

---

113) **Complete the following sentence: "When Phil was a small child, he _____ spend hours every day playing with stones in the garden".**

A used
B use
C was

---

114) **Fill in the blank. "Soldiers have been sent in to try to restore _____ in the area".**

A organisation
B harmony
C order

---

115) **Fill in the blank. "Days are warm and nights are ..... in the deserts".**

A hot
B sultry
C cold

---

116) **Complete the following sentence: " He .... it!".**

A m ade me to do.
B made me done.
C made me do.

---

117) **Choose the correct translation: "The exam went down in flames":**

A L'esame è andato malissimo.
B L'esame è stato rinviato.
C Ho molta paura dell'esame.

---

118) **Complete the following sentence: "It's a great place to live apart from the increasing volume of _____ that passes under my window every day."**

A transport
B traffic
C vehicles

---

119) **Choose the right answer. "Whose is the bag on the chair?"**

A It's Mrs Smith's.
B She's Mrs Smith.
C It's of Mrs Smith.

---

120) **What does idiotic idiom "play one's cards close to one's chest" mean?**

A Giocarsi le ultime carte.
B Non rivelare a nessuno le proprie intenzioni.
C Essere in una situazione di vantaggio.

---

121) **A woman who has never married is called a:**

A virgin
B spinster
C widow

---

122) Which sentence is correct?

A I want to have a word with you before you will have gone.
B I want to have a word with you before you will go.
C I want to have a word with you before you go.

---

123) Read the passage and answer the question. In North America in the XIX century, arguments were often settled by gunfights, in which two people stood face to face a distance apart and tried to shoot one another. Recent experiments on human response times have shown that people act more quickly when responding to an action than when they are the first to move. This supports the view that our brain uses different routes in our nervous system to send messages for intentional and reactive movements.Which one of the following can be drawn as a conclusion from the above passage?

A Gunfighters are best advised to wait for their opponents to move to fire.
B Gunfighters who wait for their opponent to move first would always win.
C Brains cannot control our reactive movements.

---

124) Fill in the blank. "The medicine didn't have any ... on the patient".

A infect
B effection
C effect

---

125) My parents died when I was young so I was _____ by my grandparents

A grow up
B bring up
C go up

---

126) I've just finished writing this report. Can you ____it for me

A control
B check
C monitor

---

127) Choose the best word to complete this sentence: Mark writes for a ____ newspaper.

A Germany
B Sweden
C Dutch

---

128) What does idiotic idiom "Get out of bed on the wrong side" mean?

A Cadere dal letto.
B Andare a letto troppo tardi.
C Alzarsi di cattivo umore.

---

129) Complete the sentence. "Life is like a piano; what you get out of it depends on how you ____ it."

A plays
B player
C play

---

130) Choose the correct translation: " The only trouble with resisting temptation is that you may not get another chance".

A Se non impari a resistere alle tentazioni finirai per ricaderci sempre.
B è sempre difficile resistere alle tentazioni, ma è necessario provarci.
C Il solo guaio a resistere a una tentazione è che potresti non avere un'altra possibilità.

---

131) Complete the following sentence: "I am not worried about the exam. I ..... enough to pass".

A have learnt
B had learn
C learn

---

132) Complete the following sentence: "Advertising may be _____ as the science of arresting the human intelligence long enough to get money from it.

A called
B described
C description

133) **Choose the best word or phrase to complete this sentence:" He likes _____ news _____ the radio in the morning".**

A listening to the / on
B listening / across
C to listen / in

134) **Complete the following sentence: "The young girl _____ the dog for three months before the old owners came to collect him".**

A had looked after
B look after
C looked at

135) **Complete the following sentence: "It's forbidden to smoke here: can you please _____ the cigarette?".**

A get off
B put out
C get away

136) **Complete the following sentence: "My friends _____ when they realised that the neighbours had stolen their bikes".**

A moved out
B move up
C goes away

137) **Fill in the blank. "We booked a room in the resort ___ our friend recommended to us".**

A where
B what
C which

138) **What does idiotic idiom "Throw in the towel" mean?**

A insistere
B vendicarsi
C arrendersi

139) **Choose the correct answer: "Have you ever been to China?"**

A Yes, I have.
B Yes, I did.
C Yes, I had been.

140) **When we were kids we ..... our own amusements.**

A are making
B had made
C made

141) **Choose the correct sentence.**

A The bookshop has moved to a new location on the square.
B The bookshop were moved in a new location on the square.
C The bookshop moved on new place on the square

142) **Read the passage and answer the question.Emma Woodhouse, handsome, clever, and rich, with a comfortable home and happy disposition, seemed to unite some of the best blessings of existence; and had lived nearly twenty-one years in the world with very little to distress or vex her.She was more young of the two daughters of a most affectionate, indulgent father; and had, in consequence of her sister's marriage, been mistress of his house from a very early period. Her mother had died too long ago for her to have more than an indistinct remembrance of her caresses; and her place had been supplied by an excellent woman as governess, who had fallen little short of a mother in affection. (J. Austen)Emma Woodhouse had been mistress of her father 's house in consequence:**

A of her sister's marriage.
B of her mother's death.
C of her marriage.

143) **Complete the following sentence: "Mrs Johnson ____ a lot of effort to succeed in ___ business".**

A put in / his
B put up / her
C put out / her

144) Choose the correct form. "I can no longer _____ his insolence".

A put out of
B put off with
C put up with

145) I _____. the whole neighborhood but nobody had seen my cat.

A asked out
B asked in
C asked around

146) Choose the correct form. "The scheme _____ for want of support".

A fell off
B fell down
C fell through

147) Which sentence is correct?

A The social networking site Facebook is often using to create groups for people with similar interests
B The social networking site Facebook is often used to create groups for people with similar interests.
C The social networking site Facebook is often used to creating groups for people with similar interests

148) Fill in the blank. "What kind of ... can this quiz have on your English skills?"

A effecte
B effect
C affected

149) The idiotic idiom "to have got a skeleton in one's closet " means:

A to be very untidy.
B to have a secret.
C to be wrong.

150) Fill in the blank. "The event has been ____ until next week".

A put for
B put off
C put out

151) I see that you're trying to ... apathy, but I know that you really do care.

A affect
B effect
C affects

152) Fill in the blank. "Greece is much ... than Italy".

A smaller
B as small
C less little

153) I am really hungry!

A Ask for something to eat.
B Ask at some to eat.
C Ask of anything to eat.

154) Which one is different?

A to sit /sat
B to drive/drived
C to stand /stood

155) Complete the following sentence. "I _____ my homework. What shall I do now?"

A have done
B do
C will do

156) Complete the following sentence. "She _____ as an expert".

A is regarding
B will regard
C was regarded

157) **Choose the answer which fits best according to the text. Agatha Christie was probably the most successful writer in history. She wrote 78 crime novels, six other novels, 150 short stories, four non-fiction books and 19 plays. Outsold only by the Bible and Shakespeare, Agatha Christie is the best-selling novelist of all time. Christie became a writer by accident. She was bored when her husband was away in the First World War. Agatha was working in a hospital dispensary (which is where she learned all the information about poisons that she used in her books). She decided to write a novel to pass the time. She chose a detective novel because she loved reading them. Her first novel, The Mysterious Affair at Styles, was an instant success. Each book had a new ingenious plot. Readers loved the books, particularly because Christie always gave the readers all the information they needed to find the solution. She is best remembered for her detective stories including the two diverse characters of Miss Marple and Hercule Poirot. Agatha Christie died in 1976, but her stories are still immensely popular. Many have been adapted for film or television.Agatha knew a lot of things about poisons thanks to...**

A television.
B a hospital dispensary.
C her husband a hospital dispensary.

---

158) **Complete the following sentence. "I ..... Peter yesterday morning and he told me that he was leaving for his native place".**

A seen
B had seen
C saw

---

159) **Complete the following sentence. "Poor aunt Mary! She broke her leg while____"**

A she skied.
B she's skiing.
C she was skiing.

---

160) **Choose the correct translation. "Quante lingue si parlano in America?"**

A How many languages are spoken in America?
B How many languages they spoken in America?
C How many languages is spoken in America?

---

161) **Complete the following sentence: "I _____Michael last week because he wasn't at work".**

A didn't see
B saw not
C haven't

---

162) **Which one is different?**

A in April
B at seven o'clock
C in Thursday

---

163) **Read the passage and answer the question. Modern technology has given us the power to use renewable natural resources faster than they can be replaced. The decline of fish numbers provides one example of the way in which modern technology can rapidly use up a natural resource. Modern fishing ships equipped with fish detecting systems and huge nets can gather up vast quantities of fish quicker than the sea can renew them. Because high technology gives us such harmful powers, we must learn to use the renewable resources of the earth carefully, rather than waste them.Which one of the following best expresses the main conclusion of the above passage?**

A Modern technology simply takes from the environment and destroys its resources.
B Fish need to be carefully protected to prevent them from being destroyed.
C Humans must preserve renewable resources by learning how to use them carefully.

---

164) **Complete the following sentence: "Newspapers have a strong _____ on people's _____".**

A affect / thinks
B affected / feeling
C effect / opinion

---

165) **Complete the following sentence: "Let the flowers _____".**

A not be plucked
B not be plucking
C not been plucked

---

166) **Complete the following sentence. "What ..... at 4 o'clock yesterday evening?"**

A did you do
B are you doing
C were you doing

---

167) **Fill in the blank with an appropriate verb form. "Good luck with the exam. I ..... of you".**

A am thinking
B will have thought
C will be thinking

---

168) **Fill in the blank with an appropriate verb form. "I _____ the minister tomorrow".**

A am seeing
B would see
C saw

---

169) **Fill in the blank with an appropriate verb form: "The phone is ringing. I _____ it."**

A would answer
B will answer
C am answering

---

170) **_____ I turn the heating on?**

A Would
B Will
C Shall

---

171) **Choose the best word or phrase to complete this sentence: "Our customers usually pay ____ bills promptly".**

A their
B ours
C you're

---

172) **Choose the correct form: "I _____ the whole job by this evening".**

A had finished
B will have finished
C will be finishing

---

173) **Fill in the blank with an appropriate verb form: "All the trouble ..... by you".**

A have caused
B was caused
C are caused

---

174) **Fill in the blank with an appropriate verb form: "After I ..... with him for a few weeks, I developed a strange liking for him".**

A working
B have worked
C had worked

---

175) **Fill in the blank with an appropriate verb form: "It would have been nice if he ..... us".**

A thanks
B had tanked
C thanked

---

176) **Fill in the blank. "They are ____as you are".**

A so rich not
B richer
C not as rich

---

177) **Read the passage and answer the question. Roughly 60 percent of today's world population is bilingual or multilingual and it is argued that this is a new phenomenon. Today Spanish and Arabic are widely spoken whilst English is the world's most commonly spoken and written language. However, 500 years ago it was Latin which was the main language of education, religion, commerce and government in the Western World despite this not being most people's first language. In the 17th century, French and Italian gained in importance as languages of international trade. Which one of the following can be drawn as a conclusion from the above passage?**

A 500 years ago English was the main language of communication.
B Speaking another language has always been an important practical consideration.
C The majority of bilingual or multilingual people speak Latin.

178) **Complete the following sentence: "Neither you ___ your sister should use that device!"**

A nor
B heather
C either

179) **Complete the following sentence: "She's foreign so she _____ not understand our language".**

A might
B can't
C is

180) **Choose the best phrase to complete this sentence: "He's worked in this department ____".**

A when he was 30
B for a long time
C since five years

181) **Which word or phrase is missing from the following sentence? "I graduated ____ 'Industrial Management Engineer' three months ago".**

A at the
B in
C as an

182) **Mary is the girl .... lives in Sidney .**

A that
B whom
C which

183) **Fill in the blank. ".... you nor your boy friend will have to work next week!"**

A Nor.
B Either.
C Neither.

184) **Complete the following sentence: "We'll ____to the park tomorrow, weather permitting".**

A go
B gone
C going

185) **Fill in the blank. " .... you nor your boyfriend will have to work next week!"**

A Either.
B Nor.
C Neither.

186) **Choose the best word or phrase to complete this sentence: "He ____ do much to help plan our holidays!"**

A doesn't
B did
C do

187) **Fill in the blank. "His father is dead but his mother is still _____".**

A live
B living
C alive

188) **Complete the following sentence: "I am sure I would have regretted it if I _____ to take the job".**

A had agreed
B would agree
C did agree

189) **Complete the following question. "Is there _____ else I can do for you?"**

A something
B anything
C any

190) **Fill in the blank. " Most country roads are narrow, but roads in the cities are usually_____ "**

A wide
B long
C deep

---

191) **. Fill in the blank. "The sea was rough yesterday but today it is _____".**

A smooth
B silent
C calm

---

192) **Choose the correct form. "The judge condemned three of the accused to seven years of imprisonment while he _____ two others".**

A acquitted
B convicted
C condoned

---

193) **Choose the correct form. "He hoarded a lot of money but his sons have ..... it".**

A proliferated
B squandered
C accumulated

---

194) **Read the passage and answer the question. One of the foolish but persisting fantasies of the Olympic movement is that the Games are, or were, or will be, or even ought to be, completely free of politics. It is difficult to understand how this foolish belief continues, but the facts are these: the nations lining up to host the games are motivated not by unattainable ideals but by a legitimate desire to promote the excellence of their citizens; and the nations who have boycotted the games in the past have done so to make genuine political points. Which one of the following is a conclusion which can be drawn from the above passage?**

A Although everyone knows the Olympics are caught up in politics, no one is brave enough to admit it.
B If some countries use the Olympic movement to further their own ends, they are guilty only of exposing a myth.
C National interests are ruining the Olympics.

---

195) **Fill in the blank. "The germ is ..... small to be seen with the naked eye".**

A much
B too
C so

---

196) **Choose the correct words to complete the sentence. "..... had the hunter raised the gun, than the birds flew away".**

A As soon as
B Hardly
C No sooner

---

197) **Fill in the blank. "_____ working hard, he failed the test".**

A Though
B Despite
C However

---

198) **Fill in the blank. "He is ..... to beat his opponent".**

A too strong
B enough strong
C strong enough

---

199) **Fill in the blank. "..... the thief saw the cops coming, he ran away".**

A As soon as
B No sooner
C Scarcely

---

200) **Fill in the blank. "..... he is so ill, the doctors do not expect him to recover".**

A Though
B As
C If

---

201) **Fill in the blank. " The boy ..... watch had been stolen complained to the teacher.**

A who's
B which
C whose

202) **Read the passage and choose the answer which fits best according to the text.New York, the most populous city in the United States (US), is the capital of culture, finance, media and international diplomacy. Its five counties - Brooklyn, Queens, Manhattan, The Bronx and Staten Island are all famous in their own special ways. Being a city that never sleeps, New York is a dream destination for many.The first Europeans who settled in the area in 1609 were from the Netherlands. They named the colony New Amsterdam. In 1664, the British conquered the colony and renamed it New York. After the War of Independence, New York City served as the first capital of the United States for only a year, until the role was transferred to PhiladelphiA)How was New York called in 1609?**

A York
B New Amsterdam
C New Hampshire

203) **Fill in the blank. "He will ..... spend his money nor invest it".**

A neither
B either
C both

204) **Fill in the blank. " This is the hotel ..... our meetings usually take place".**

A there
B where
C whence

205) **Choose the best words to complete the following sentence: "Well, I'd rather you _____ invite the CEO, if you don't _____".**

A wouldn't / mind
B shouldn't / care
C didn't / mind

206) **Complete the following sentence: "Was the party good?" "Yes, I can't remember the last time I ____ such a great evening".**

A have had
B had
C did have

207) **Complete the following sentence. "This kind of music is very popular ___ young people at the moment".**

A among
B by
C for

208) **Fill in the blank. "Where is the man ..... ordered the cab?"**

A which
B who
C whom

209) **Complete the following sentence: "She's a very selfish person who _____ show any consideration __others".**

A no / on
B doesn't / for
C do not / in

210) **Fill in the blank. "I have lost the paper on ..... I had written his address".**

A that
B what
C which

211) **Complete the following sentence: "The day ..... I met her is the happiest day of my life".**

A when
B on which
C in that

212) **Complete the following sentence: "I didn't hear what she was_____"**

A said
B saying
C telling

213) **Fill in the blank. "The driver ..... caused the accident was arrested".**

A which
B who
C what

214) **Fill in the blank. "The Competition Commission's inquiry into the government's land-based transport market comes _____, as a succession of petitions describe the sad state of the country's public transport system".**

A Hesitating
B Just in time
C Too late

215) **Fill in the blank. "Compliance is a necessary evil especially in a workplace _____"**

A pleasant but not urgent.
B unpleasant but essential.
C essential and pleasant.

216) **Fill in the blank. "The boy _____ leg is broken is sitting there".**

A which
B who's
C whose

217) **Fill in the blanks. "The most popular forms of social media _____ great damage upon young people's mental health. These platforms have a negative effect because they can _____ children's and young people's body image worries, and worsen bullying, sleep problems, anxiety, depression and loneliness".**

A takes / effectuate
B perpetrating / desecrate
C inflict / exacerbate

218) **Complete the following sentence: "If you don't write down the date and time of the message, ___".**

A Mary would know
B Mary would never know.
C Mary will never know.

219) **Complete the following sentence: "My grandfather ____ Italy ___ 1950".**

A leaving / in
B left / in
C leaves / on

220) **Complete the following sentence: "The teacher___ very happy today".**

A doesn't seem
B isn't seeming
C don't seem

221) **Complete the following sentence: "Please let me know if you ____ any further information. I ___ be very pleased to provide it".**

A are needing /shall
B wanted /should
C need / will

222) **Read the passage and answer the question.Stonehenge is an ancient monument situated about ten miles north of Salisbury in England. It was built about 4500 years ago, but by whom and for what purpose remains a mystery. The builders must have known of geometry. They may have been influenced by the Mycenaeans, whose architecture was similar. Some of the stones must have been brought from West Wales, over 135 miles away. These stones weigh more than fifty tons. They may have been brought on rafts and rollers. Experts say that it must have taken 1500 men more than five years to transport them. Stonehenge was probably built in three stages. First, settlers from continental Europe built a temple for sun worship. Later the "Beaker" people added the stone circles. Finally, people of the Wesse Culture transformed Stonehenge into an observatory. They could calculate the exact time of Midsummer and Midwinter and of equinoxes. We understand from the passage that the construction of Stonehenge:**

A was probably built in three stages.
B was completed in less than five years
C is thought to have taken place in more than one stage

223) Complete the following sentence. "Elizabeth ..... all her childhood in France".

A spent
B has spent
C spends

224) Choose the correct sentence.

A I've been trying contacting him, but he's never in the office and his mobile always seems to be busy.
B I've been trying look for him all day, but he's never in the office and his mobile always seems to be busy.
C I've been trying to get on touch with him, but he's never in the office and his mobile always seems to be busy.

225) Fill in the blank. " ..... on tip-toe, he reached for the apple".

A Having standing
B Stood
C Standing

226) Complete the following sentence. "The bank is _____ the post office and the supermarket".

A between
B among
C in

227) Complete the following sentence: "His company _____ sends him _____ Rome".

A frequently / to
B sometimes / before
C often / from

228) Only one of these sentences is correct. Which one?

A She works in the same department like me.
B I'll see her tomorrow at eight, like usual.
C I would never do anything like that.

229) Tell your son _____ about the exam.

A not to worry
B not worrying
C not worry

230) Complete the following sentence: "You can ____ me if you have any problems".

A calling
B call
C to call

231) Complete the following sentence: I got up _____ usual because I had to get the 6.30 train.

A early of
B earliest to
C earlier than

232) Complete the following sentence: "Although it hurt when she _____ wrist, she could still move her fingers".

A bent his
B bent her
C bending the

233) Complete the following sentence: "Can I leave the room? No. _____!"

A You staying here
B You to stay here
C You stay here

234) Complete the following sentence: "Sara, don't you try _____for this. I invited you for lunch and I insist on paying".

A pay
B paying
C to pay

235) Complete the following dialogue. "Does she ____ in Paris? No, she lives in Italy now".

A live / lives
B is living / live
C to live / had lived

---

236) **Did you ____ Latin __ school?**

A study / at
B studying / to
C studied / in

---

237) **Complete the following sentence: "You _____ a holiday. It would be a good thing for you".**

A would take
B should take
C shall take

---

238) **Fill in the blank. "My mother speaks French ... than my teacher".**

A most faster
B most fluently
C more fluently

---

239) **Choose the correct alternative.**

A My sister and I are like icecreams.
B My sister and I like icecream.
C My sister and I are liking icecream.

---

240) **Complete the following sentence: "My neighbours _____ a car".**

A need rent
B has need to rent
C need to rent

---

241) **Fill in the blank. "She should drive ... than usual".**

A more slower
B less slower
C more slowly

---

242) **Read the passage and fill in the blank.Human rights are rights inherent to all human beings, _____ race, sex, nationality, ethnicity, language, religion, or any other status. Human rights include the right to life and liberty, freedom from slavery and torture, freedom of opinion and expression, the right to work and education, and many more. Everyone is entitled to these rights, without discrimination. International human rights law lays down the obligations of Governments to act in certain ways or to refrain from certain acts, in order to promote and protect human rights and fundamental freedoms of individuals or _____.**

A except from / citizens
B regardless of /groups
C regardless / family

---

243) **Fill in the blank. "Red wine _____ to benefit circulation".**

A has found
B has been found
C was being found

---

244) **Complete the following sentence: "Do they have _____ suggestions of what they would like to do?"**

A some
B any
C much

---

245) **Complete the following sentence: "Welcome back, sir! _____ a good holiday?"**

A have had you
B did you have
C have you

---

246) **Fill in the blank. "George is studying at the moment. _____ disturb him!".**

A Don't have to
B Let not disturb
C Don't

---

247) **Insert the correct subjects in the blank: "_____ are playing"**

A Children
B Child
C The child

---

248) **Complete the following sentence. "Donkeys _____ long ears".**

A doesn't have
B have
C has

---

249) **The phrase "You can say that again" means:**

A Non dirlo mai più.
B Ricordati queste parole.
C È vero.

---

250) **Choose the correct form. "Sulphuric acid _____ most metals".**

A will dissolve
B would dissolve
C dissolved

---

251) **Complete the following sentence: "I _____ to Africa, but I'd like to go".**

A did go
B have never been
C never was

---

252) **Complete the following sentence: "We seem to be .... for bankruptcy!"**

A concentrating.
B dreaming.
C heading.

---

253) **The opposite of "to whisper" is:**

A to laugh
B to howl
C to shout

---

254) **You've got a bad cold.I think you _____ stay home today.**

A should
B could
C have to

---

255) **You will _____ a cold, if you stay out any longer.**

A take
B catch
C bring

---

256) **Complete the following sentence: "Sara doesn't work _____ Friday.**

A on
B at
C in

---

257) **Complete the following sentence: "If you had been there, we_____ a good time".**

A could have
B will had
C would have had

---

258) **Complete the following dialogue: "Have you got a single room ___ tonight?" "Sorry, we're fully _____ for tonight".**

A at / booking
B for / booked
C in / book

---

259) **Fill in the blank. "Express trains are usually fast but the passenger trains are very _____".**

A loose
B slow
C unfast

260) **Choose the best word or phrase to complete this sentence: "I'll pay you back the money ____ I can get to the bank".**

A no sooner than
B sooner
C as soon as

261) **Choose the correct answer. "How would you like to pay?"**

A I'd like to pay by credit card.
B I'd like paying by credit card.
C I'd like pay by credit card.

262) **What does the phrase "to be under the weather" mean?**

A Uscire allo scoperto.
B Avere un presentimento.
C Non sentirsi tanto bene.

263) **Life would be much simpler if you _____ worrying so much.**

A Stop
B Stopped.
C Will stop.

264) **Read the passage and answer the question.As an indian legend tells the Sun, while going on his daily rounds, saw a princess and fell in love with her. Whenever he could slip away from the heavens he would take human form and go down to the princess to spend some time with her. The princess too became quite fond of him and would wait for him to come. One day the Sun decided to send her a blood-red ruby as a token of his love for her. He put the gem in a silk beg, and calling a crow that was flying past, asked the bird to deliver the gem to his beloved. Crows had milky white feathers in those days and it was considered auspicious if a crow came anywhere near you. So the Sun was pleased that he had found a crow to deliver the gem. As the crow sped through the sky with the silken bag, the aroma of food lured him. Looking down, the crow saw that a wedding feast was in progress, and immediately it was distracted from its mission. Food was one thing it could never resist.What did the Sun send for the princess as a token of his love?**

A He sent her the crow.
B He sent her a red ruB)
C He sent her dry cow dung.

265) **Choose the best verb form to complete the sentence: "I _____ too much champagne at the party ____! I'm got a terrible headache!"**

A drank / last night
B had drink / tomorrow
C drunk / every day

266) **It's possible that he left his mobile at home: he _____ me.**

A didn't calling
B hasn't called
C not calls

267) **Complete the following sentence. "Sara ___ a taxi to work because she ____the bus".**

A take / missing
B took / had missed
C were taking / miss

268) **Complete the following sentence. "It's no use .... over spilt milk!"**

A cry
B crying
C having cried

269) **Complete the following sentence: "Everyone ____ pay taxes".**

A doesn't have
B has to
C have to

270) **Choose the best verb form to complete the sentence: "It's high time you .... a better job!"**

A funded
B find
C found

271) **Complete the following sentence: "Can I give you_____ advice?"**

A a lot.
B some
C much.

272) **Fill in the blank. "Last year we have been in England... three weeks".**

A during
B since
C for

273) **Choose the correct phrase to complete the following sentence: "You ____ in an election, but I think you should. If you have the right to vote, you should take advantage of it.**

A don't have to vote
B need to vote
C have to vote

274) **Complete the following sentence: "Never .... such a beautiful church!"**

A have I seen
B do I see.
C I have seen.

275) **Choose the word or group of words which best completes the following sentence. "Would you like _____ pizza?".**

A a little of
B a few
C some more

276) **Complete the following dialogue: "___did you arrive so late? I am sorry but I ___a setback.**

A Why /had
B Where / was having
C When / have

277) **Complete the following sentence: "Do you really enjoy .... that sort of music?"**

A lo listen
B listen to
C listening to

278) **Complete the following sentence: "A _____ the wedding guests _____ sitting and playing cards".**

A Few / be.
B Some / were.
C Few of / were.

279) **Fill in the blank. "The milk has gone off. It is___"**

A sour.
B ripe.
C rotten.

280) **Choose the best phrase to complete this sentence: "When she lived in the centre, she ____ the bus to work".**

A used take often
B often was taking
C would often take

281) **Complete the following sentence: "I'm really worried _____ you. You don't seem to care _____ anything anymore".**

A about / about
B with / for
C toward / for

282) **Complete the following sentence: "Most carmakers have .... It hard to increase profit".**

A created
B discovered
C found

283) **Fill in the blank. "It's about time we ___"**

A will leave.
B would leave
C left

284) **Complete the following sentence: "I have just _____ back from my holidays, so my next holiday ____ in winter."**

A come / will be
B coming / shall have
C come / will

285) **Complete the following sentence: "My sister is on a new diet. She thinks her _____ too much".**

A weighing
B to weigh
C weight

286) **Complete the following sentence: "Internet chat lines shouldn't be used by young children".**

A don't used
B shouldn't used
C shouldn't be used

287) **Choose the answer to the question: "Will electric cars be less expensive in the future?"**

A I hoped yes.
B I hope so.
C I hope it.

288) **Read the passage and answer the question.World Wildlife Fund mission is to conserve nature and reduce the most pressing threats to the diversity of life on Earth. Its vision is to build a future in which people live in harmony with nature. As the world's leading conservation organization, WWF works in nearly 100 countries. At every level, WWF experts collaborate with people around the world to develop and deliver innovative solutions that protect communities, wildlife, and the places in which they live. They are determined to ensure that people and nature can thrive together, for generations to come. WWF works to conserve endangered species, protect endangered spaces, and address global threats to the planet such as climate changeWorld Wildlife Fund mission is:**

A to conserve nature and endangered species.
B to help endangered species.
C developing tourism.

289) **Fill in the blank. "I haven't seen him ....2016".**

A since when.
B from
C since

290) **Complete the following sentence: My uncle works ____ Ministry of Agriculture and Forestry.**

A at the
B to the
C at

291) **Complete the following sentence. "It's about time you .... some work!"**

A did
B will do
C do

292) **Choose the best phrase to complete this question: "____ to drive if you have had more than two alcoholic drinks?"**

A Must you
B Are you allowed
C Can you

293) **Complete the following sentence: "Of all my friends, Tom is the one I like the .... ."**

A much.
B more.
C most.

294) **Choose the best translation. "Anna is sincere through and through".**

A Anna non è sempre sincerA)
B Anna qualche volta è sincerA)
C Anna è completamente sincerA)

---

295) **Choose the best phrase to complete this question: "_____ against the yen in the past month?"**

A Will the dollar weaken
B Has the dollar fallen
C Varies the dollar

---

296) **Complete the following sentence: "I'm checking the translation. I've found three spelling mistakes ___"**

A as long.
B so far
C so many.

---

297) **Complete the following sentence: "It's _____ _____ I told the news".**

A him / who
B he / whom
C his / whose

---

298) **Choose the correct form. "_____ to the club last night?".**

A Didn't gone
B Didn't you go
C Went you not

---

299) **What does the phrase "Spill the beans" mean?**

A Svelare un segreto.
B Spillare denaro a qualcuno.
C Essere estremamente pignolo.

---

300) **Have you _____ the news?**

A listen
B ear
C heard

---

301) **What does the idiom "Once in a blue moon" mean?**

A Sognare ad occhi aperti.
B Raramente.
C Essere distratti.

---

302) **Read the passage and answer the question.E-cigarettes, which provide nicotine without cigarette smoke, have been praised by health campaigners. Research has suggested that success rates for quitting smoking are higher with e-cigarettes than with other methods. However, rather than tackling their nicotine addiction, e-cigarette users have simply replaced one habit with another. It is true that cigarette smoke contains many hazardous compounds, and also that quitting smoking increases life expectancy and reduces the risk of many health problems. But nicotine also has its dangers: it has been associated with a range of conditions that we do not fully understand, and research has yet to establish the long-term effects of nicotine use outside of cigarette smoke.Which one of the following is a conclusion that can be drawn from the above passage?**

A Using nicotine patches is an ineffective way to give up smoking.
B Smoking traditional cigarettes still poses a major risk to health.
C People should not assume e-cigarettes as a safe alternative to traditional cigarettes.

---

303) **Fill in the blank. "_____ the lights went out".**

A Sudden
B Slow
C Suddenly

---

304) **Fill in the blank. "Are you _____ aware of the consequences of your action?"**

A fully
B very
C full

---

305) **Fill in the blank. "The girl who answered the phone was very _____".**

A politely
B hardly
C polite

---

306) **Select the best answer. "Alex likes apples, but she does _____ oranges".**

A not like
B not likes
C no liking

---

307) **Select the best answer. "Ken _____ in the library this morning".**

A are studying
B is studying
C does studying

---

308) **Find the meaning of the following idiomatic expression: "To catch a Tartar is to____"**

A encounter a person who is too strong for the assailant
B live carefully and cautiously
C catch a dangerous person

---

309) **He is a good student, ____ favorite subject is History.**

A her
B his
C its

---

310) **Choose the correct sentence.**

A Give back me the pen, please?
B Can you give back pen, sorry?
C Can you give my pen back, please?

---

311) **Choose the correct translation. "That music brought some happy times back to me".**

A Quella musica mi concedeva una pausa di felicità.
B Quella musica richiamava alla mia memoria tempi felici.
C Quella musica richiama alla memoria tempi felici.

---

312) **Complete the following sentence: "Sara can _____a baby sitter because she doesn't work".**

A do not
B do enough
C do without

---

313) **Fill in the blank. "Albert got ____ the selection process very well".**

A to
B across
C through

---

314) **Complete the following sentence: " The child _____ two bars of chocolate".**

A have just eaten
B had just ate
C has just eaten

---

315) **Fill in the blank. "What brought ____ this political crisis?".**

A near
B about
C on

---

316) **Choose the correct sentence.**

A His latest novel has come out recently
B His latest novel is coming out recently.
C His latest novel come out recently.

---

317) **Fill in the blank. "John has so many _____ he needs a new wardrobe to put them all in!"**

A clothes
B wears
C dresses

---

318) **Read the passage and answer the question.Children are being encouraged to take up gardening through special events at shows andactivities in schools. It is hoped that an interest in gardening, and particularly growing one's ownfood, will make children more interested in learning about their food and they will therefore bedeterred from eating junk food. The initiative should be supported and spread to more schoolsas quickly as possible.Which one of the following, if true, would most weaken the above argument?**

A It tends to be older people who are interested in gardening and growing their own food.
B Some schools do not have a garden.
C Most children have enjoyed the events provided, but have not gained an interest in gardening itself.

---

319) **The children are only behaving badly because they are _____. Find them something to do!**

A bored
B noisy
C annoyed

---

320) **Fill in the blank. "She doesn't feel _____ working on the computer".**

A on
B like
C in

---

321) **Complete the following sentence. "I used ____ a very boring job working in a factory ".**

A to have
B to be
C to do

---

322) **Fill in the blank. At school my favorite _____ was maths.**

A subject
B argument
C object

---

323) **_____ my family knew about my boyfriend.**

A Not any
B No one
C None of

---

324) **Find the meaning of the idiomatic expression: "If something happens out of the blue, _____**

A it never happens
B it happens when you are not expecting it
C it happens when you don't want it to happen

---

325) **Fill in the blank. "My grandparents usually ____ early in the morning".**

A have got up
B get up
C got up

---

326) **Complete the following sentence: "Last night Susan ____ some chocolates to the party."**

A brings
B brought
C bring

---

327) **Choose the correct form. "This picture _____ by my grandmother".**

A has painted
B painted
C was painted

---

328) **Complete the following sentence: "I _____ three books last week".**

A read
B reads
C was reading

---

329) **Fill in the blank. "All my friends are good ___ playing football".**

A in.
B to
C at

330) **Fill in the blank. "I've got a week to finish this, _____ is just about long enough".**

A which
B whom
C who

331) **Complete the following sentence: "The car _____ by the mechanic".**

A is repairing
B is being repaired
C has repaired

332) **Complete the following sentence: "Young babies need to _____"**

A are taken care of
B be taken care of
C have taken care of

333) **Complete the following sentence: "I didn't know why I _____"**

A had chosen
B had been chosen
C had chosen

334) **Fill in the blank. "Andrew apologized ____ being late".**

A to
B at
C for

335) **Fill in the blank. "I don't agree _____ hunting".**

A about
B with
C in

336) **Fill in the blank. "Paul often thinks ___ climbing trees".**

A of
B on
C at

337) **Find the meaning of the idiomatic expression. "To show the white feather is _____"**

A to try to be beautiful
B to perform a good deed
C to act like a coward

338) **Complete the following sentence: "Last year I _____ my mother a CD for Christmas".**

A given
B gave
C give

339) **Complete the following sentence: "Sharon _____ a baby in June".**

A had
B have
C has

340) **Complete the following sentence: "I _____ the answer yesterday".**

A know
B knew
C knows

341) **Fill in the blank. "The girls insisted ___ going out with Ken".**

A on
B to
C for

342) **Put in the correct verb forms. "She _____ too much coffee yesterday".**

A drank
B drink
C drunk

343) **Put in the correct verb forms. " If we had seen the film, we _____ have bought the DVD".**

A would not
B must not
C will not

344) **Put in the correct verb forms. "If you wait a minute, ____ with you".**

A I should go
B I'll go
C I go

345) **Find the meaning of the idiomatic expression. "To play fast and loose is_____ "**

A to act in an unreliable manner
B to be narrow minded
C to play a good game

346) **Fill in the blank. "My sister took her pet cat to see the _____"**

A dentist
B doctor
C veterinarian

347) **Choose the correct sentence.**

A If Mary had got up earlier, she will not have been late for work.
B If Mary had got up earlier, she would not have been late for work.
C If Mary had got up earlier, she haven't been late for work.

348) **Find the meaning of the idiomatic expression: "If something is run-of-the-mill, it is _____ "**

A beautiful
B extra ordinary
C quite ordinary

349) **Fill in the blank. "It is extraordinary that she ___ to hold her breath for so long".**

A can
B is able
C can be

350) **Fill in the blank. I _____ too much coffee yesterday.".**

A at
B on
C drunk

351) **Complete the following sentence. "We all think that Mrs. Reeves _____ an interesting person to meet as we ---- a lot of stories about her so far".**

A can be / heard
B would be / have heard
C might have been / hear

352) **Complete the following sentence. "As a young woman who had never given birth before, she_____ what the experience of childbirth _____ like".**

A couldn't have known / would be
B doesn't know / will be
C may not know / is

353) **Fill in the blank. "She is wearing dark glasses _____ her eyes from the sun.**

A to conserve
B to defend
C to protect

354) **Put in the correct verb forms. "He ____ your keys last week".**

A losted
B loses
C lost

355) **Put in the correct verb forms. "He ____ me that he lived in Toronto".**

A tell
B tells
C told

---

356) **Put in the correct verb forms. "If Tom _____ his camera, he would have taken nice pictures".**

A took
B had taken
C take

---

357) **Complete the following sentence: "My parents _____ the house if it had been cheaper".**

A would have bought
B would bought
C bought

---

358) **Complete the following sentence: "If John liked horses, he ____ ride more often".**

A would
B shall
C could

---

359) **Complete the following sentence: "The film _____ late".**

A began
B begun
C begin

---

360) **Find the meaning of the idiomatic expression. "To ruffle someone's feathers is to _____"**

A impress them with your performance
B praise them
C annoy or upset them

---

361) **Complete the following sentence: "I don't know why Peter is so late; do you think he_____ lost coming here?"**

A might have got
B may get
C was to have got

---

362) **Complete the following sentence: "What ____ to Phil? He said he____ here at eight o'clock.**

A should have happened / has been
B might have happened / will be
C can have happened / would be

---

363) **Complete the following sentence: "One of the US national security advisers____ there_____ better intelligence sharing before the September 2001 attacks".**

A has acknowledged / could have been
B acknowledges / might be
C had acknowledged / can be

---

364) **Choose the correct form. " Yesterday I _____ a new song on the radio".**

A did hear
B heardt
C heard.

---

365) **Choose the correct form. " If you were older, you _____ to the party".**

A will go
B could go
C would go

---

366) **Choose the correct form. " If it rains, ____ a raincoat".**

A I wore
B I worn
C I'll wear

---

367) **Choose the correct form. "He _____ his promise".**

A keep
B kept
C keeps

368) **Choose the correct form. "Yesterday I _____ steak for dinner".**

A chose
B will chosen
C choose

369) **Choose the best way to continue the dialogue:"I don't feel very well."**

A What's the matter with you?
B I'm fine too
C That's all right with me.

370) **Choose the correct form to complete the sentence. "I _____ you an email earlier".**

A send
B had sent
C sent

371) **Choose the correct form to complete the sentence. "I don't think it was a good idea to intervene, instead, you____ your child to abandon the habit of thumb-sucking gradually, all by himself".**

A have allowed
B could have allowed
C had allowed

372) **Choose the correct form to complete the sentence. "I don't know why she didn't ask me how to do it as I ____ her".**

A might help
B should have helped
C could have helped

373) **Choose the correct form to complete the sentence. "Max _____ my tennis racket without asking my permission. I got really angry with him".**

A needn't have taken
B shouldn't have taken
C must not have taken

374) **Choose the correct form. "He ____ terrible after eating the prawns".**

A fell
B feel
C felt

375) **Choose the word which best complete the sentence. "There is a taxi parking ____ the theatre".**

A inside of
B outside
C across

376) **Choose the correct form. "Sharon ____ here since 1999. And she's still with us".**

A had been working
B worked
C has worked

377) **Read the passage and answer the question.Climate scientists in Greenland studying patterns of plant growth have suggested that the early arrival of spring in the Arctic threatens to drive down populations of migrating animals such as caribou. However, comparable studies elsewhere show that their fears are unfounded. A recent study of great tits in Oxfordshire showed the birds are capable of adapting to climate change better than many scientists expectedOver the past half century, the birds have brought forward the date they lay their eggs by two weeks, so that young are born when planteating grubs are most plentiful.Which one of the following is an underlying assumption of the above argument?**

A Migrating animals in the Arctic can adapt to climate change as successfully as great tits in Oxfordshire.
B Climate change in Greenland and climate change in Oxfordshire are of the same scale.
C Birds are more adaptable than large mammals such as caribou.

378) **Choose the correct form. "The castle _____ in the 16th century".**

A built
B has built
C was built

379) Choose the correct form. "Nothing about the accident ..... to her".

A was known
B has known
C will know

380) Choose the correct form. "The wild animals _____ by poachers".

A killed
B have killed
C are being killed

381) Fill in the blank. "We are looking forward ___ going out at the weekend".

A to
B for
C in

382) Fill in the blank. "My girl friend dreams ____ living on a small island".

A in
B on
C of

383) Choose the correct form. "He _____ during the class, but now he doesn't understand".

A is understanding
B understood
C understands

384) Choose the correct form. "You _____ by her."

A will not be recognized
B will not have recognized
C will not been recognized

385) Complete the following sentence: "Nobody _____ by her".

A had cheated
B has cheated
C has been cheated

386) Complete the following sentence: "A poem _____ by her".

A has been written
B has written
C has been writing

387) Complete the following question: "Why was the child ..... by her mother?"

A beating
B been beaten
C being beaten

388) Complete the following sentence: "Our country ..... by us".

A will not be betrayed
B will not betray
C will not betrayed

389) Complete the following sentence: "French _____ in many parts of Europe".

A is spoken
B has spoken
C is being spoken

390) Complete the following sentence: "We _____ by them".

A will be threatened
B will threaten
C will be threatening

391) Complete the following sentence: "The policeman _____ Mark's photo".

A had already showing
B had already been shown
C has already being show

392) **Read the passage and answer the question.An old man feared that some thief could take his money. Think and think, he decided to hide his treasure under the bed. He put it into a hole. However he was so old that he forgot the place where he had hidden the gold.One night a thief came into the bedroom.The old man, terrified, hid under the bed. In the meanwhile, the thief found the money. The old man gave a loud cry, the thief was frightened, dropped the money and ran away.The old man was happy because he had his money again.Did the old man fear that a thief could take his money?**

A The old man didn't gave a loud cry when th thief found the money.
B The old man was frightened at the idea of being robbed.
C The old man didn't care about his money

---

393) **Choose the correct form. "I _____ but I went anyway".**

A haven't invited
B wasn't invited
C hadn't invited

---

394) **Choose the correct form. "I _____ about her reaction".**

A worried
B am worried
C have worried

---

395) **Find the meaning of the idiomatic expression: "To wear one's heart on one's sleeves is _____"**

A to be most intimate
B to do the right thing
C to show one's innermost feelings

---

396) **Choose the correct form. "The prizes .....away by the chief guest".**

A had given
B were giving
C were being given

---

397) **Choose the correct form. "Their prayers _____ by them".**

A were been said
B were being said
C were saying

---

398) **Choose the correct form. "The positive hydrogen atoms ..... to the negative hydrogen atoms".**

A have been attracting
B are attracted
C have attracted

---

399) **Choose the correct form. "The room was awfully _____ because it overlooked the street where all the clubs were".**

A loud
B noise
C noisy

---

400) **Choose the correct form. "If I'd got the job I'd / in London".**

A lived
B have lived
C to live

---

401) **Fill in the blank. "You don't happen to know where Mary might be, _____ you?"**

A don't
B do
C might

---

402) **Fill in the blank. "Brian is the only person I know _____ can hold his breath for more than a minute!"**

A which
B who
C whom

---

403) **Fill in the blank. "I saw a huge hairy spider _____ across the ceiling over my bed".**

A scraping
B crawling
C craving

---

404) **Choose the correct form. "If you had come earlier, you would _____a good seat".**

A find
B have found
C are found

---

405) **Complete the following sentence: "Although he ran fast, he _____ the race".**

A don't win
B can't
C could not win

---

406) **Fill in the blank. "On hearing the news she burst _____ tears".**

A into
B in
C to

---

407) **Complete the following sentence: "My day at the health spa was_____ bliss"**

A sheer
B sheerly
C merely

---

408) **If I'd got the job I'd _____ in London.**

A living
B to live
C had lived

---

409) **Complete the following sentence: "The President _____ our country five years ago".**

A is visiting
B visited
C visit

---

410) **I had a terrible discussion with my boss, and now I'm worried I'll _____ my job.**

A left
B lose
C lost

---

411) **Don't forget to switch off the TV before you go to bed.**

A switch off
B extinguish
C switch

---

412) **The nice thing about a family funeral is the chance to ____ all your relatives again.**

A see
B seing
C look

---

413) **Read the passage and answer the question. A lot of people love koalas bears. All over the world children play with stuffed toys. However it is rare to see this animal alive, because it is becoming extinct.From the point of view of its aspect, it seems a mixture of a monkey and a cangaroo.Koalas are native to Australia.They mainly live in New South Wales and in Queensland.They are protected animals: their number has very much diminished in the last ten years. Today hunting koalas is punished by the law.Covered with grey fur, they show small and black eyes, large ears and not tail.They move at night and don't stay on the ground. They go from tree to tree to eat the leaves of eucaliptus.Their worst enemy is fire: they can't run fast enough to save themselves.Where do koalas live?**

A In Wales
B In Europe
C In Australia

---

414) **Choose the correct form. "You can do with me what you _____ "**

A wanted
B want
C are wanting

415) **Choose the correct form. "I _____ Peter last week because he was ill".**

A didn't see
B didn't seen
C didn't saw

416) **Choose the correct form. "When _____ to New York?"**

A did you went
B went you
C did you go

417) **Fill in the blank. "I waited for _____ two hours but he didn't come".**

A the
B another
C other

418) **Fill in the blank. "Buses leave _____ ten minutes".**

A every
B each
C all

419) **Complete the following sentence: "My baggage _____ stolen".**

A are
B has
C have

420) **Complete the following sentence: "Alice and James _____ agreed to come".**

A has
B have
C are

421) **Complete the following sentence: "She sings as well as _____ the piano".**

A playing
B play
C plays

422) **Fill in the blank. "The more he earns, the _____ he spends".**

A less
B lesser
C little

423) **Fill in the blank. "I was ___ tired that I I couldn't walk any further".**

A too
B so
C much

424) **Complete the following sentence: "It is cruel _____ animals in that way".**

A to treat
B to treating
C treating

425) **Fill in the blank. "The view from the top of the mountain is ___"**

A salty.
B delicious.
C breathtaking.

426) **Complete the following sentence: "_____ in the office yesterday?"**

A Was he
B Has he be
C Were he

427) **Choose the correct form. "How many times _____ to Venice?"**

A have you been
B are you been
C has you been

428) **Choose the best form. "He knows he'll be late for the conference but he hopes it _____ before he arrives because he'd like to hear at least the final speech".**

A had ended
B will end
C will not have ended

429) **Fill in the blank. " If I listen to _____ music, I get a headache".**

A loudly
B loud
C strong

430) **Fill in the blank. "I think I will be staying here for ____ more days".**

A a few
B the few
C few

431) **Fill in the blank. "She is junior ..... me".**

A of
B than
C to

432) **Read the passage and answer the question. It might be thought an amazing coincidence if Earth were the only planet in the galaxy on which intelligent life evolved. If it happened here, the one planet we have studied closely, surely one would expect it to have happened on a lot of other planets in the galaxy planets we havenot yet had the chance to examine. This objection, however, rests on a fallacy: it overlooks what is known as an 'observation selection effect', so it wouldn't be such a coincidence. Whetherintelligent life is common or rare, every observer is guaranteed to originate from a place where intelligent life did, in fact, arise. Since only the successes give rise to observers who can wonder about their existence, it would be a mistake to regard our planet as a randomly selected sample from all planets.Which one of the following best expresses the main conclusion of the above argument?**

A There would be no amazing coincidence if we discovered that Earth were the only planet in the galaxy on which intelligent life evolved.
B If life had evolved here on Earth, it would probably have happened on a lot of other planets in the galaxy.
C Earth is not a randomly selected sample from all planets.

433) **Complete the following sentence: "Why _____ a birthday party last year? It was your thirtieth".**

A didn't go
B don't you have
C didn't you have

434) **Complete the following sentence: "Who _____ the novel "War and Peace"? Do you know?"**

A wrote
B was written
C write

435) **Choose the correct form. "I hadn't dropped out of college I _____ a better job.**

A could have found
B could find
C can find

436) **Complete the following sentence: "He is _____ than me".**

A cleverer
B more clever
C more cleverer

437) **Fill in the blank."The exam was _____ than I thought".**

A more easier
B easier
C more easy

438) **Complete the following sentence: "The little boy _____ bicycle".**

A fell off
B felt from
C fell down

439) **Complete the following sentence: "I _____ there the whole night".**

A standing
B stood
C were standing

440) **Complete the following dialogue: " How are you today?" - " I'm .... ."**

A Best.
B Fine
C Fined.

441) **For well over a millennium, Rome controlled the destiny of all civilization known to Europe, but then it ____ into dissolution and disrepair.**

A fall
B fell
C felt

442) **Complete the following sentence. "... if I ... the television off?".**

A Would you mind / turned
B Do you mind / turning
C Would you mind / turn

443) **Fill in the blank. "What is today's date? It's the _____ June".**

A eleventh
B eleventh of
C eleven in

444) **Choose the correct form. "The students were having lessons when they _____ the fire alarm go".**

A hear
B had hearding
C heard

445) **Find the meaning of the idiomatic expression: "cost an arm and a leg".**

A it is very expensive
B it is cheap
C it is unpleasant, but necessary

446) **Choose the correct form. "Our government can easily reduce pollution _____ renewable energy".**

A by using
B with the use
C using

447) **At the age of 24, she _____ a doctor**

A become
B was becoming
C became

448) **Choose the correct form. "Can you hear what he is _____?"**

A Speaking
B Talking
C Saying

449) **Fill in the blank. "She hasn't come home .....".**

A already
B yet
C still

450) **The song which _____ the festival is very nice.**

A has win
B has won
C winning

451) **Choose the correct translation. "We're learning more and more".**

A Stiamo imparando sempre di più.
B Stiamo imparando a poco a poco.
C Stiamo imparando molto poco.

---

452) **Choose the correct translation. "The more I went on, the more scared I was".**

A Più andavo avanti più avevo paura.
B Andando avanti ebbi meno paura.
C Quella volta non provai nessuna paura.

---

453) **Select the right answer. "A dog is bigger than a mouse but smaller than an elephant".**

A A dog is the biggest.
B A dog is smaller than a mouse.
C An elephant is bigger than a dog

---

454) **Choose the correct translation. "You can do it however you like".**

A Puoi farlo se ne hai voglia.
B Puoi farlo in qualunque modo tu desideri.
C Puoi farlo quando lo desideri.

---

455) **Complete the following sentence: "If we hurry we _____ the bus".**

A we be catching
B we caught
C we'll catch

---

456) **Choose the best way to continue the dialogue:"What differences are there _____ the English spoken in the UK and the English spoken in the US?"**

A between
B beside
C among

---

457) **Fill in the blank. "Mrs Smith was very busy today. She drove to a _____for some ham".**

A butcher's shop
B bookshop
C pharmacy

---

458) **Complete the following dialogue. "So, John. I hear you're about to go on a business trip. Where? "This time _____ to Montreal".**

A I'm going
B I go
C I 'll be

---

459) **Fill in the blank. "_____ comes will be welcome".**

A Whoever
B Whenever
C However

---

460) **Read the passage and answer the question.Why children go to school? It isn't an easy question. We send children to school to prepare them for the time when they will be big and will have to work for themselves. They learn foreign languages in order to be able to tell others what they want and what they know. They learn arithmetic in order to be able to measure and count things in their daily life.A man who really knows how to learn will always be successful, because whenever he has to do something new he will rapidly teach himself how to do it in the best way. There is more in education than just learning facts. We go to school, above all, to learn how to learn, so that, when we have left school we will always be successful .The uneducated person, is either unable to do something new, or does it badly. The purpose of school, therefore, is not just to teach languages, arithmetic, geography, but to teach students the way to learn.What is the purpose of school?**

A The purpose of school is to teach students many subjects.
B The purpose of school is to teach the students the way to learn
C The purpose of school is to learn history, arithmethic, languages, geography...

---

461) **Choose the correct form to complete the sentence. "Fortunately, I .... working alone otherwise I would have got really bored at the night shift".**

A was supposed to
B was to
C was used to

462) **Choose the correct form to complete the sentence. "If we had come earlier, we would _____ a good seat".**

A find
B have found
C found

463) **The person with _____ you should be registering your complaint is the manager, but he's unavailable at the moment.**

A whom
B which
C whose

464) **Choose the correct form to complete the sentence.62 Oh! The laptop! That's _____ I meant to give him before he left.**

A whom
B what
C which

465) **Mary's husband passed away a month ago. She is now a _____.**

A widow
B bachelor
C spinster

466) **Put in the correct verb forms. "You would have slept much better if you _____ your medicine".**

A had taken
B took
C was taking

467) **Fill in the blank. "Their presentation was very useful. In _____ the part on marketing strategy".**

A particular
B fact
C order

468) **Fill in the blank. "Man's _____ invention is the computer".**

A better
B greatest
C largest

469) **Fill in the blank. "Mary is the person _____ is taking over my job next month".**

A whom
B who
C which

470) **Fill in the blank. "I couldn't imagine ____ I would be able to find the courage to leave".**

A where
B how
C what

471) **Fill in the blank. "He really can't work out _____ he has to go to get the information he needs".**

A where
B what
C who

472) **Fill in the blank. "Here's the woman who _____ me yesterday".**

A helping
B helps
C helped

473) **Call me tomorrow at twelve. I'll know more because the meeting _____**

A was finished
B will have finished
C will finished

474) **Put in the correct verb forms. "Hopefully, by this time next week I_____ my driving test and I'll finally be able to get a car".**

A will have passed
B have pass
C will passed

---

475) **_____ the list of people to be invited before I get back so that we can discuss it?**

A Will you have completed
B Will complete
C Have complete

---

476) **Choose the best form. "Analysts say that by the time the new product goes on sale the company _____ over $10 million on promotion".**

A will spend
B will have spent
C spends

---

477) **Choose the best form. "Although she works hard, she _____ earn enough".**

A does not
B isn't
C don't

---

478) **Fill in the blank. "This extinguisher can be used only ____ there is a fire".**

A if
B without
C whenever

---

479) **Fill in the blank. "My class isn't ____ well-behaved yours".**

A as
B how
C than

---

480) **Fill in the blank. "At night, we can hear _____ chirping near the bushes".**

A crickets
B birds
C frog

---

481) **Find the meaning of the idiomatic expression: "If something is right up your street, _____**

A it is readily available in your street
B it is ideal for your skills or interests
C it is within your reach

---

482) **Complete the following sentence: "He suggested I _____ a doctor".**

A calling
B call
C to call

---

483) **Choose the best form. "I haven't _____ to them yet".**

A speak
B speaking
C spoken

---

484) **Choose the correct translation: "I told you so"**

A Non c'è che dire.
B Te l'avevo detto.
C Ti ho detto tutto.

---

485) **Choose the best form to complete the sentence. "They suggest _____ the exhibition".**

A to visit
B visiting
C visit

---

486) **Complete the following sentence: "Last night, during the dinner , he _____ me to call my wife".**

A reminded
B remind
C remember

487) **Choose the correct translation: "have one's own way"**

A essere economicamente indipendenti
B non avere l'occasione di fare qualcosa
C fare a modo proprio

488) **Choose the best form to complete the sentence: "I'll come home when I _____ work".**

A has finish
B finish
C was finishing

489) **Choose the best form to complete the sentence. "We won't be able _____ out if it rains".**

A go
B going
C to go

490) **Choose the best form to complete the sentence. "I will be very happy if you _____ come to my party".**

A shall
B have
C will

491) **Choose the best form to complete the sentence. "We _____ finish the job early if Tom will help us".**

A have to
B will
C should

492) **Choose the correct translation. "None of these houses have a garden".**

A Quasi nessuna casa ha il giardino.
B Nessuna di queste case ha il giardino
C Solo una di queste case ha il giardino.

493) **Fill in the blank. "Some flowers, _____ violets and roses, are very delicate".**

A such
B like
C as

494) **Fill in the blank. "Have you _____ spent the money I gave you yesterday?"**

A yet
B already
C still

495) **Choose the best form to complete the sentence. "Oscar Wilde, a great novelist in the late Victorian Age, _____ in Paris".**

A had died
B was dying
C died

496) **Read the passage and answer the question.The World Health Organization (WHO) declares that about 35% of women worldwide have experienced sexual violence in their life-time.As many as 38% of female murders are committed by a male partner.Violence can affect a woman's physical, mental, sexual, and reproductive health and may increase the risk of acquiring HIV.Much has been done to contrast the plague represented by the violence against women, but much more has to be done.195 According to the text, as many as 38% of female murders:**

A are are committed by other women.
B are committed by serial killers.
C are committed by a male partner.

497) **Choose the correct sentence.**

A On visiting the city, we came across a strange building.
B Visiting the city, we came across a strange building.
C While visited the city, we came across a strange building.

498) **Fill in the blank." I don't work in this sector and .... does she!"**

A or
B either
C neither

---

499) **Choose the correct translation. "Everyone was surprised when he turned down the offer".**

A Si sono tutti meravigliati che la sua offerta fosse così bassa.
B Tutti erano sorpresi quando ha rifiutato l'offerta.
C Sono rimasti tutti senza parole quando lui ha abbassato l'offerta.

---

500) **Fill in the blank. "They sold their house .... they could buy a boat".**

A to allow
B so that
C in order

---

501) **Fill in the blank. "I'm afraid we can't comment _____ the court's decision at this time".**

A on
B to
C of

---

502) **Read the passage and answer the question. The Treasury Select Committee is to launch an inquiry into the planned take-over of Liffe, the London Futures exchange, by Euronext, the alliance of the Paris, Brussels and Amsterdam stock exchanges. The unusual move is thought to have been provoked by growing concern among committee members about the impact on the City of London of the 555 million cash take-over. The committee will hear evidence from Liffe and Euronext officials on December 13. It will then question officials from the London Stock Exchange, which lost out in the auction for Liffe despite tabling a higher offer. Philip Morris switch challenged": Philip Morris, the tobacco company, has become embroiled in a dispute about its proposed name change. Altria Healthcare, a private medical billing company in America, is concerned about Philip Morris's proposed name change to Altria Group. "It is of great concern to a healthcare business to have a big tobacco and alcohol company wish to adopt an identical name," Warren Smedley, Altria Healthcare's president, said. Philip Morris said it had conducted all necessary searches and was confident that it was not in breach of any laws and would not confuse Altria Healthcare's customers. An "alliance" is...**

A club.
B lodge.
C partnership.

---

503) **Complete the following sentence: "_____ we were unable to solve the problem".**

A Nonetheless we tried hard
B Even if we gave it a hard try
C However hard we tried

---

504) **Complete the following sentence: "St. Helena is a British territory in the South Atlantic and one of the remotest islands_____**

A in the world.
B out of the world.
C of the world

---

505) **Fill in the blank. "There's no ..... thirteen on many aereoplanes as this number is believed to bring bad luck in Englísh speaking countries".**

A seats
B row
C file

---

506) **Choose the best verb form to complete the sentence. "He suggested _____ a letter of apology".**

A me writing
B me to write
C I should write

---

507) **Choose the best verb form to complete the sentence. "Don't do anything _____ give you the signal".**

A until I don't
B until I will
C until

---

508) **| haven't seen Paul since he _____ his new job.**

A started
B has been starting
C has started

---

509) **Choose the best verb form to complete the sentence. "The man denied the car _____".**

A to have stolen
B to steal
C stealing

---

510) **Choose the best verb form to complete the sentence. "| would have made sure Susan was here _____ you were coming too".**

A if I knew
B had I known
C if I were to know d) were I to know

---

511) **Complete the following sentence: "There has been a bridge on or near the site of the present London Bridge ____ two thousand years".**

A for nearly
B since more or less
C from almost

---

512) **Choose the best verb form to complete the sentence. "Before leaving, check that you ___everything with you".**

A has taken
B have taken
C has taking

---

513) **Fill in the blank. "He's always cheerful _____ his chronic health problems".**

A however
B despite
C in spite

---

514) **Fill in the blank."The test was _____ that I finally gave up".**

A such difficult
B so much hard
C so difficult

---

515) **Fill in the blank. "Never before as _____ rapidly as during the last ten years".**

A communications have been developed
B have communications developed
C communications have developed

---

516) **Choose the best verb to complete the sentence. "She is _____ dark glasses to protect her eyes from the sun.**

A puting
B carrying
C wearing

---

517) **You'll only avoid punishment if you ..... the truth.**

A say
B tell
C will tell

---

518) **This problem is getting serious. It's time we ..... something about it.**

A doing
B do
C would do

---

519) **I'm in a spot of bother. May I ask you for_____**

A some helps.
B some advice.
C some assistances.

---

520) **Read the passage and answer the question. Virginia Woolf was born in London in 1882. Her life was ruined by several breakdowns: depression never left her till a fatal suicide in 1941. When her father died she could meet writers taking part in the "Bloomsbury Group". She wrote her first novel in 1915, two years after her marriage with Leonard Woolf. Virginia Woolf was interested in giving voice to feelings and emotions. She represented the human personality as the mix of impressions and emotions. She gave a big contribution to the Modernism literary movement with her essay "Modern Fiction" of 1919. She is celebrated as one of the most fascinating female writer of the 20th century. Did depression affect Virginia Woolf's life?**

A Virginia Woolf was hit by many crisis and at the end committed suicide.
B Virginia Woolf was just sometimes anxious and anguished
C Virginia Woolf lived a very calm life.

---

521) **Fill in the blank. "There were _____ people at the meeting than I expected".**

A less
B few
C fewer

---

522) **Fill in the blank. "All the money _____was donated to charity".**

A arisen
B raised
C risen

---

523) **Fill in the blank. "_____ my cousin".**

A You look like
B You remind
C You seem

---

524) **Fill in the blank. " I'd like to _____ my mother".**

A introduce you to
B introduce to you
C introduce you

---

525) **Complete the following sentence. "I _____ when I was in Naple".**

A had stolen my wallet
B had my wallet stolen
C had my wallet robbed

---

526) **Complete the following sentence: "| _____ to work since I broke my leg".**

A didn't go
B don't go
C haven't been

---

527) **Fill in the blank. "In his position _____ managing director, he is responsible for more than a thousand employees".**

A as
B such as
C like

---

528) **Fill in the blank. "Jane wishes she _____ the new car last month when there was a special offer".**

A had bought
B bought
C would buy

---

529) **Complete the following sentence. "If you _____ less noise coming in last night you wouldn't have woken the baby".**

A had made
B were making
C would have made

---

530) **Complete the following sentence: "_____ and were tired".**

A All the guests are dancing
B All guests were been dancing.
C All the guests had been dancing.

---

531) **Choose the best verb form to complete this sentence: "By this time next week we ____ the new computer system".**

A have installed
B will have been installing
C will have installed

---

532) **Complete the following sentence: "A country's _____"**

A economics shapes every piece of its.
B economy touches every aspect of its of it's citizens' lives
C economy affects every angle of citizens life.

---

533) **Complete the following sentence: "_____ an expert in criminology".**

A When I will graduate I wish to be
B On graduation I would like to work like
C When I graduate I would like to work as

---

534) **Choose the best verb form to complete this sentence: "All attempts to catch the thief who _____ with failure".**

A burgled the painting from the museum
B stole the painting from the museum met resulted
C robbed the painting from the museum

---

535) **Fill in the blank. "_____ Americans will begin receiving health insurance coverage under the Affordable Care Act on Wednesday after years of contention and a rollout hobbled by delays and technical problems".**

A Millions of
B A million of
C One million of

---

536) **Fill in the blank. "We are ... as you are".**

A so rich not
B not as rich
C richer

---

537) **Complete the following sentence: " _____ change your mind about handing in your resignation, we would be happy for you to stay on at the company".**

A Were you to
B You should
C May you

---

538) **Complete the following sentence: "| can't work for him until he .....me how much he's going to pay".**

A doesn't' tell
B won't tell
C tells

---

539) **Complete the following sentence: "The pageantry of the great state occasions, much enjoyed and admired by visitors to Britain, means that '_____ ' is part of the modern monarchy's public relations activities".**

A making a spectacle
B putting on a show
C doing a show

---

540) **Which of the following CANNOT be used to complete this sentence "Jim isn't at school today so I think he ____ be ill"?**

A can
B may
C might

---

541) **Complete the following sentence: "Alice ___ very happy today".**

A doesn't seem
B don't seem
C isn't seeming

---

542) **Complete the following sentence: "She really looks like her father. She's got his nose and his mouth; he wears glasses and __"**

A she does.
B so she does.
C she does so.

543) **Complete the following sentence: "She suggested I _____ you".**

A calling
B to call
C call

544) **Complete the following question: "That's a clapped-out old car! How long _____ it?"**

A do you have it
B have you had
C have you got

545) **Choose the best verb form to complete the sentence. "I _____ really grateful if you could answer my question".**

A have been
B would have been
C would be

546) **Choose the best verb form to complete the sentence. "By this time next week we ____ the new computer system".**

A will have installed
B will have been installing
C have installed

547) **Fill in the blank. "I spoke slowly _____ she could understand me."**

A so that
B such
C for that

548) **Fill in the blank. At school I wasn't very keen ... studying.**

A of
B on
C to

549) **Complete the following sentence: "You _____ have a driver's license to ride a bike".**

A don't need to.
B mustn't.
C shouldn't.

550) **Fill in the blank. " Italy is much _____ than Germany".**

A less little
B smaller
C smallest

551) **Complete the following sentence: "I read the paper every day because I believe it's important to ....."**

A inform myself of what's going on.
B keep in touch with the world politics.
C keep up with current affairs

552) **Complete the following sentence: "His boss is so rude and inconsiderate that I don't know how he .... it".**

A puts up with
B supports with
C stands with

553) **Fill in the blank."My mother has worked as a graphic designer _____ the last six years".**

A with
B for
C since

554) **Fill in the blank. "She discussed her plans _____ her father".**

A between
B from
C with

555) **Fill in the blank. "Who's that boy ____ a black T-shirt and white trousers?"**

A on
B in
C to

556) **Fill in the blank. "The 11.45 train left _____time".**

A on
B the
C to

557) **Fill in the blank. "We had a lot of problems with our car _____ the end we sold it and bought another".**

A in
B at
C on

558) **Choose the correct form. "I always ___ to the restaurant on Saturdays".**

A are going
B goes
C go

559) **Complete the following sentence: " _____ in the 1940s when living conditions had deteriorated".**

A Most of the outskirts was knocked down
B Most of the area was torn up demolished
C Much of the neighbourhood was

560) **Complete the following sentence: "To _____ it may concern, I hereby designate Mathilda Jones _____ my attorney".**

A whoever / such as
B whom / as
C who / as

561) **Complete the following sentence: "I can speak ___ English ___ Italian".**

A both; that
B both; and
C both; also

562) **Complete the sentence. "Jack the Ripper is said ... the vital organs from many of his victims".**

A to amputate
B to having removed
C to have extracted

563) **Choose the best word or words to complete this sentence: "There's ____ speculation about who will become the new leader of the Labour Party when the Prime Minister retires".**

A too much
B a lot
C | many

564) **Fill in the blank " He .... it!".**

A made me to do
B made me do
C made me doing

565) **He was sorry to _____ my birthday.**

A lose
B forget
C lost

566) **We seem to be _____ for bankruptcy!**

A concentrating
B heading
C aiding

567) **The company is thinking about _____some managers.**

A rubbing
B disposing
C removing

---

568) **What do you like_____ in your spare time?**

A to do
B doing
C being done

---

569) **Choose the best verb form to complete the question: "If I ____ a cake, will you bring some wine?"**

A had made
B make
C will make

---

570) **Choose the best verb to complete this sentence: "By midnight yesterday all the forms _____ to the Commission".**

A were transmitting
B had sand
C had be sent

---

571) **Which of the following CANNOT be used to complete this sentence? "James isn't at work today so I think he ____ be ill".**

A may
B can
C might

---

572) **Complete the following sentence: "He works very, very __"**

A more care.
B carefully.
C careful.

---

573) **Fill in the blank. "There has been a bridge on or near the site of the present London Bridge _____ two thousand years".**

A since more or less
B up to about
C for nearly

---

574) **Complete the following sentence: "If I _____ to university, I _____ the possibility to work in this field".**

A hadn't gone / wouldn't have had.
B hadn't gone / had had.
C had gone / wouldn't have.

---

575) **Complete the following sentence: "Our teachers are all highly _____ ".**

A qualified
B prepared
C instructed

---

576) **Complete the following sentence: "She has an _____ the most fantastic lies".**

A amazing ability to invent
B ability amazing to invent
C capability of inventing

---

577) **Choose the best words to complete the sentence: "Blackboards are _____. We need to change them all for interactive whiteboards".**

A out of fashion
B up to date
C back dated

---

578) **Complete the following sentence: "That boy's always _____ on those who are smaller or weaker than himself".**

A picking
B tells
C pick

---

579) **It _____ all day and the road was slippery.**

A had been raining
B rains
C will rain

---

580) **Complete the following sentence: "Never _____ such a beautiful building!"**

A did see
B I seen
C have I seen

---

581) **Complete the following sentence. "You were frightened by a concept which you ... in your own mind".**

A sought
B created
C hired

---

582) **Choose the best word to complete this sentence: "There is no _____ for paying women less than men if they do the same job".**

A time
B reason
C point

---

583) **Complete the following sentence: "I'm sorry I did it. It's all my _____" .**

A charge
B guilt
C fault

---

584) **Doctors now say that in order to prepare our bodies for sleep we _____ turn off our laptop or smartphone at least a couple of hours before going to bed.**

A shoyld
B ought
C need

---

585) **Complete the following sentence: "Would you like a drink? Yes,____ ".**

A sorry
B all right
C please

---

586) **Read the passage and answer the question. The visitor that has reached London can go about in taxis, buses or by Underground. The Underground is rapid, easy and cheap. There are so many cars and buses that one cannot drive along the roads quickly and without many stops. The Underground is therefore usually quicker than taxis or buses. On the Underground you find good maps which tell you the names of the stations and show you how to get to them, so that it is easy to find your way. Then you are allowed to relax looking at the people around you. London Underground is:**

A rapid, easy and cheap.
B rapid, cheap but there are no good maps in the stations.
C rapid, easy, but expensive.

---

587) **Fill in the blank. _____ do? Pleased to meet you.**

A What do you.
B How do you.
C When do you.

---

588) **Complete the following sentence: "Can you manage with that or _____?"**

A would you like me helping you
B do you want a help d) do you want that I help you
C would you like me to help you

---

589) **Complete the following sentence: "A lot of people think they _____ for the work they do".**

A don't get paid enough
B don't receive enough salary
C are not enough well paid

---

590) **Choose the correct alternative. "The packages _____ as soon as the courier arrives".**

A have been wrapped and are all ready to be mailed
B are wrapped and are already to be mailed
C have been wrapped and are already for mailing

591) **Choose the best verb form to complete this sentence: "The notebook _____ in the office yesterday evening, but now it's gone!"**

A aren't
B were there
C was

592) **Complete the following sentence: "John drove .... along the narrow road".**

A carefully
B quiet
C quick

593) **Fill in the blank. "The teacher explains the lessons ... the students".**

A for
B to
C above

594) **Fill in the blank. "The cat wants to go ____ : open the door!".**

A in
B out
C away

595) **Complete the following sentence: "Beethoven lived ... 1770 ... 1827".**

A from/ to
B at / into
C to / from

596) **Complete the following sentence: "Mark isn't up yet. He's still _____ ".**

A on bed.
B at bed
C in bed.

597) **Complete the following sentence " ..... in the battle, Captain Smith fought on and was awarded a medal for bravery"**

A Despite being wounded
B Notwithstanding stiff injuries
C In spite of being flawed

598) **Complete the following sentence "Einstein's theories are_____"**

A well known world-wide.
B known world wide well.
C well known in all world.

599) **Complete the following sentence: "It's a fact that people everywhere are spending _____ on the Internet".**

A an ever increasing time
B more and more time
C always more time

600) **Fill in the blank. "What did that man say...?".**

A at you
B to you
C you

601) **Fill in the blank. "It is difficult to get ... such a small car".**

A inside in
B in
C inside at

602) **Complete the following sentence: "Our personal information _____ social media companies in order to target us with specific Internet advertising".**

A are analysed from
B is analysed from
C is analysed by

603) **Complete the following sentence: "In this part of the US, _____ but nobody has seen one for over ten years".**

A foxes used to be very widespread
B foxes were used to being widespread
C there used to be a large fox number

604) **Complete the following sentence: "Please fasten _____ seat belts as we prepare for take off".**

A its
B yours
C your

605) **Complete the following sentence: "This is the ___ play we have ever seen".**

A most bad
B worsts
C worst

606) **Complete the following sentence: "____ signing the contract he made a phone call".**

A After he had
B Before
C Before he has

607) **Fill in the blank. "Something was wrong, but I couldn't quite put my ... on it".**

A thumb
B mind
C finger

608) **What is the opposite of the word "boring"?**

A Hard
B Easy
C Interesting

609) **Fill in the blank. "What do you _____ we do tonight, John?".**

A tell
B think about
C suggest

610) **Complete the following sentence: "Tom _____ a bar of chocolate".**

A have just eaten
B hadn't not eaten
C has just eaten

611) **Fill in the blank. "I'll help you when I ... downloading my e-mails".**

A conclude
B have finished
C finished

612) **Complete the following sentence: "It's a very nice room.It's the ____ room in the hotel".**

A nicer
B better
C nicest

613) **Complete the following sentence: "He ... a fair knowledge of the English language up to now".**

A will have
B has had
C has

614) **Complete the following sentence: "Let me tell you what ____ last night".**

A happened
B is happening
C has happened

615) **Complete the following sentence: "Jack has got some money; he _____ to the bank".**

A has just been
B have been
C have just been

---

616) **Complete the following sentence: "You haven't to go to school today, ____"**

A haven't you?
B have you?
C had you?

---

617) **Choose the correct verb form: "He _____ too much wine at the party last night! He's got a terrible headache!"**

A drunken
B drink
C drank

---

618) **Complete the following sentence: "I've been trying to get _____ with her all week, but she's never home and her mobile is always off".**

A hold
B along
C in touch

---

619) **Complete the following sentence: "The company took _____ shortly after the deal".**

A down.
B up
C over

---

620) **Choose the best phrase to complete this sentence: "Rome is ____ ".**

A a very beautiful city
B very beautiful city
C a city very beautiful

---

621) **Complete the following sentence: "Although our opinions on many things ... , we're good friends".**

A differ
B oppose
C divide

---

622) **Complete the following sentence: "Mount Everest is _____ highest mountain in the world".**

A more
B the most
C the

---

623) **Which of the following sentences is correct?**

A Ryan used to play baseball a lot, but he doesn't play very often now
B Ryan is used to play baseball, but he doesn't play very often now.
C Ryan was used to play baseball, but he doesn't play very often now

---

624) **My father often dozes _____ in front of the TV after dinner.**

A off
B up
C over

---

625) **Complete the following sentence. "... one would you like?".**

A How
B What
C Which

---

626) **Complete the following sentence: "In any problems _____, be sure to let me now"**

A arise
B arouse
C rise

---

627) **Complete the following sentence: "Maria's coffee bar was _____ she decided to franchise it".**

A so successful that
B so success than
C such successful as

628) Choose the correct translation. "La cena viene sempre servita alle 19:00".

A Dinner comes always served at 19:00.
B Dinner is always served at 19:00
C The dinner comes always serve at 19:00.

629) Complete the following sentence "She doesn't look like _____ her father or her mother".

A both
B either
C or

630) Complete the following sentence: "Tomorrow morning I ____ the 6.30 train to Rome to attend a European conference on world poverty".

A am getting
B going to take
C have taken

631) Complete the following sentence: "Firms can avoid ____ middle managers".

A pay
B paying
C paid

632) Which of the following cannot be used to complete this sentence? James isn't at work today so I think he ____ be ill.

A might
B may
C can

633) Fill in the blank. "He parked his car and _____ ".

A go down from it
B got off
C go out

634) You can say that someone will have "an easy ride":

A if you think that they will travel in a comfortable vehicle.
B if you think that they will spend a happy time riding a horse.
C if you think that they will achieve something without difficulty.

635) We _____ to inform you that your application _____ successful.

A regretting / is not
B regret / was not
C regret / had not

636) In the sentence: "Everyone recognized her down-to-earth approach to life", "down-to-earth" means _____.

A depressed
B practical
C hopeless

637) Our personal information _____ social media companies in order to target us with specific Internet advertising.

A are analysed from
B is analysed by
C are analysed by

638) Complete the following sentence: "The main focus of trade unions is to organize, maintain or improve the conditions of the workers' _____" .

A employee
B employment
C employer

639) Complete the following sentence: "My brother, _____ in Switzerland, is coming to visit me".

A who lives
B whom is living
C which live

640) **Complete the following sentence: "In England it's often too cold _____ outside."**

A for people to eat
B for people eating
C that people eat

641) **Which sentence is correct?**

A A trade union is an organized of workers association formed to protect and further their rights and interests.
B A trade union is an association organized of workers formed to protect and further their rights and interests.
C A trade union is an organized association of workers formed to protect and further their rights and interests.

642) **Complete the following sentence: "I _____ other people borrowing my books".**

A object to
B avoid on
C disagree to

643) **Complete the following sentence: I don't suppose I could have a glass of water, _____?**

A couldn't I
B suppose I.
C could I.

644) **Choose the best verb form to complete this sentence: "Call me at 10 p.m. By that time my parents_____".**

A Will leave.
B Will have been leaving.
C Will have left.

645) **Complete the following sentence: "She's not very keen ___ basketball".**

A on
B around
C with

646) **Choose the right sentence.**

A Who do say it? It's not true.
B Who does say it? It's not true.
C Who did say it? It's not true.

647) **Complete the following sentence: "She got a different pizza to ____, so I ____ hers".**

A my / try
B mine / tried
C I / was tried

648) **Complete the following sentence: "I got up late and I _____ the train".**

A lost
B missed
C loss

649) **Complete the following sentence: "She is _____ a baby in two months time".**

A will have
B going to having
C going to have

650) **Choose the right sentence.**

A Don't movel'm coming.
B Don't to movel'm arrive.
C Don't move. I'm arriving.

651) **Complete the following sentence: I have never broken the law or _____ a crime.**

A done
B committed
C made

652) **Fill in the blank. "My friend Paul is a journalist: ____ job is ____ interesting".**

A her / very
B his / very
C their / much

653) **Choose the correct sentence.**

A Wherever we gone people recognize us.
B Wherever we go people recognize us.
C Wherever we have gone people recognize us.

654) **Complete the following sentence: When we entered the room, the children were _____ television.**

A watching on
B watching
C looking at

655) **Choose the correct sentence.**

A It's the first time I've met such nice people.
B It's the first time I met such nice people.
C It's the first time I am meeting such nice people.

656) **Complete the following questionn: "____ you like to come to Germany with me next month?"**

A Would
B Do
C Will

657) **Complete the following sentence: "When my brother goes on holiday, she asks me ___ after her pets".**

A look
B for looking
C to look

658) **Complete the following sentence: "European students don't need a/an _____ to travel within the Schengen area".**

A pass
B entry
C visa

659) **Choose the right sentence.**

A Mary is the more intelligent girl in the class, and is also the more beautiful.
B Mary is the girl most intelligent in class, and is more beautiful.
C Mary is the most intelligent girl in the class, and is also the most beautiful

660) **Complete the following sentence: I am writing a book about Italy, it will be _____ next year.**

A publish
B published
C in publisher

661) **Complete the following question: "What did you have ___ lunch?"**

A on
B in
C for

662) **Choose the best question for this answer: it's sunny!**

A What is the weather like?
B What's the sun?
C What are the weather?

663) **Complete the following sentence: "She is very old. she needs someone to look ___ her."**

A after
B by
C on

664) **Complete the following sentence: How ____ your house from here?**

A along is
B long are
C far is

---

665) **Which of the given alternatives correctly fills in the gap?_____ the only creature that consumes without producing. He does not give milk, he does not lay eggs, he is too weak to pull the plough, he cannot run enough to catch rabbits. Yet he is lord of all the animals. He sets them to work, he gives back to them the bare minimum that will prevent them from starving, and the rest he keeps for himself. (George Orwell).**

A The man are
B Men are
C Man is

---

666) **Choose the best word or words to complete this sentence: "There's to much speculation about who _____ the new leader of the Labour Party when the Prime Minister retires".**

A will become
B is became
C become

---

667) **Choose the best word or words to complete the sentence. "_____ his illness, Tom continued to play football".**

A Although.
B Even though.
C Despite.

---

668) **Choose the best word to complete this sentence: "Don't put your cup on the_____ of the table - someone will knock it off".**

A edge
B top
C boundary

---

669) **Choose the best verb form to complete the question: "I've never_____ a design like this before".**

A saw.
B see.
C seen.

---

670) **Fill in the blank. "Leave everything as it ....."**

A might.
B will.
C is

---

671) **Choose the correct translation.**

A How many languages they spoken in Canada?
B How many languages is spoken in Canada?
C How many languages are spoken in Canada?

---

672) **Choose the best verb form to complete the question: "Where did they all ____ after the party?"**

A go
B gone
C going

---

673) **Choose the correct sentence.**

A As it was raining I stayed at home.
B For it was raining I stayed at home.
C Because it was raining I stay at home.

---

674) **She can't play the violin! In fact, she's ....**

A cunning.
B sly.
C hopeless.

---

675) **I'm so sorry I couldn't come to your party. The communicative function of the sentence is _____ .**

A apologising
B giving instructions
C explaining

676) **Choose the words which best complete the following sentence. "The organisation ... together countries ... the principles of the market economy".**

A expels; teaching
B brings; sharing
C relieves; promoting

677) **Choose the correct form. "The city's underground system doesn't make a good impression on _____ visitors".**

A stranger
B foreign
C strange

678) **Choose the correct form. "We cannot call ourselves civilised _____ we stop killing animals for sport".**

A if not
B until
C while

679) **Choose the correct sentence.**

A How many bananas do you usually buy?
B How much fishes does she eat?
C How many pasta do you eat?

680) **Complete the following sentence: "We hadn't _____ to meet. We met by chance".**

A arrange
B arranging
C arranged

681) **Choose the correct form. "He is not a friend of _____".**

A mine
B my own
C me

682) **Choose the best verb form to complete the question: "This time tomorrow we _____ to London".**

A will be flying
B aren't flying
C flying

683) **Fill in the blank. "When I ___ to school I ___very hard".**

A Gone; was studying.
B Went; studied.
C Came; study

684) **Choose the best verb form to complete the question: Learning from your mistakes is smart, _____ from the mistakes of others is wise.**

A seeing
B learning
C taking

685) **Complete the following sentence: "He _____ for ten minutes when he came to the conclusion that he was in the wrong shop".**

A had wait
B had been waiting
C were waiting

686) **Fill in the blank. "I won't wait ___ her a minute more".**

A for
B about
C up

687) **Choose the best verb form to complete the sentence: "In 1989 the Berlin wall ____ down".**

A was come
B coming
C came

688) **Choose the best verb form to complete the sentence: "I have never.... Paris".**

A been
B visited
C see

689) **Choose the best verb form to complete the sentence: "He _____ too much wine at the party last night! He's got a terrible headache!"**

A drank
B drunk
C drink

690) **Choose the best verb form to complete the sentence: "He's really ____ meeting your sister".**

A looks for
B looked forward to
C looking forward to

691) **Fill in the blank. "I ____ haven't seen the film that won the Cannes Film Festival this year".**

A again
B still
C yet

692) **The sun _____ at 7 p.m. yesterday.**

A sat
B seated
C set

693) **Fill in the blank. "First I'm going to China and ____ I'm going to India".**

A second
B after
C then

694) **Fill in the blank. "This is absolutely the ____ book I've ever read".**

A more bad
B worse
C worst

695) **Fill in the blank. "The office ____ every day ____ 17:00".**

A closes / on
B closes / at
C close / at

696) **Fill in the blank. "Ann can't cook and ___ Thomas".**

A neither can
B either
C neither can't

697) **Fill in the blank. "Please _____ everything _____ your bag".**

A get/in
B take/at
C put / into

698) **Fill in the blank. "He can't come to the phone. He ____ a shower".**

A is taking
B is having
C is washing

699) **Complete the following sentence: "We ____ the bus and had to walk".**

A take
B missed
C lost

700) **Complete the following sentence: " ____ can run ____ than you".**

A Anyone/fast as
B Nobody / faster
C Nobody/more fastFill in the bank

701) **Choose the best verb form to complete the question: "Sorry, I don't ____ , ____ you speak slowly?"**

A understanding/could
B understood/would
C understand / could

702) **Choose the best verb form to complete the question: "He ____ his car ____ year".**

A bought / last
B bought / next
C buy/this

703) **Choose the best verb form to complete the question: "Mr Smith ____ very early tomorrow".**

A will leave
B were leave
C is leaving

704) **Choose the best verb form to complete the question: We ____ for mushrooms ____ the wood.**

A are looking/over
B are searching/ into
C are looking / in

705) **Complete the following sentence: "I am afraid I _____ keep the appointment I made for Monday 14th May".**

A must not be able to
B will not be able to
C should not be able to

706) **Complete the following sentence: "He'll give you a call as soon as he ____".**

A is going to arrive.
B arriving
C arrives

707) **Choose the best verb form to complete the sentence: Hurry up! if you ___ hurry, you'll be late.**

A Don't
B Will
C Willn't

708) **Choose the best form to complete the sentence. "We _____ about being late because when we got there the show hadn't even started".**

A needn't have worried
B shouldn't worry
C didn't need worry

709) **Complete the following sentence: "I met him ____ the stairs as I was going down to lunch".**

A in
B on
C at

710) **Which plural is wrong?**

A Girls
B Mens
C Boys

711) **Choose the best verb form to complete the question: "____ you like to come to Italy with me next month?"**

A Will
B Do
C Would

712) **Choose the correct form: "The newspaper article contained _____ important information".**

A a lot of
B many
C a lots of

713) **Choose the correct form: "The new director ____ hard to _____ his objectives".**

A worked / win
B work /gain
C works / achieve

---

714) **Complete the following sentence: "It wasn't too bad. I was able to answer most of the questions ...."**

A clearly.
B carefully.
C easily.

---

715) **Complete the following sentence: "He ____ a fair knowledge of the English language up to now".**

A has
B will have
C had

---

716) **Complete the following sentence: "After he left, it suddenly on me that I hadn't given him my phone number".**

A occurred
B dawned
C reminded

---

717) **Fill in the blank. "_____ you when I have finished downloading my e-mails".**

A I'll help
B I shall help
C I'am helping

---

718) **Fill in the blank. "What do you ... we do tonight, John?".**

A going
B suggest
C think about

---

719) **Choose the best form. "We _____ to book the most beautiful room you have!".**

A wants
B would like
C will had

---

720) **Fill in the blank. "I'm ____ back tomorrow ____ to the manager".**

A having to / talking
B coming / to talk
C going / talk

---

721) **You haven't to go to school today, ...**

A had you?
B won't have you
C have you?

---

722) **Complete the following sentence: "Managing director and _____ will have a meeting on _____".**

A my / next week
B I / Tuesday
C mine / January

---

723) **Complete the following sentence: "I have _____ studied _____ London".**

A byways / next
B never / in
C not / by

---

724) **Complete the following sentence: "Paul ____ Italy ___ 2010.**

A leaves / on
B leaving / in
C left / in

---

725) **Complete the following sentence: "I'm _____ . _____ you speak more slowly?"**

A strange / Must
B stranger / Can
C a foreigner / Could

726) **Complete the following sentence: I _____ to inform you that the meeting will be in _____ days**

A will / tens
B am writing / ten
C will / tens

727) **Complete the following sentence: "The office opens _____ on _____".**

A not / Thursday
B earlier / Thursday
C early / morning

728) **Complete the following sentence: "We're _____ on a _____ project".**

A worked / good
B works / better
C working / new

729) **Complete the following sentence: "Our courier ____ our goods ____".**

A delivers / on Mondays
B deliver we / the Mondays
C delivered / at Mondays

730) **Complete the following sentence: "My company _____ sends me _____ Paris".**

A often / from
B frequently / to
C sometimes / before

731) **If they _____ me the _____, I'll accept it**

A will offer / work
B offering / jobs
C offer / job

732) **Complete the following sentence: "He was ____ in a car accident this weekend but fortunately it's nothing too serious".**

A blocked
B damage
C injured

733) **Choose the best form to complete the sentence: "It has been a busy day, you are tired, ____"**

A aren't you?
B are you?
C did you?

734) **Complete the following sentence: "The books ____ returned by the end ____ week".**

A are / in the
B will be/ of the
C were / on the

735) **Complete the following sentence: "Last month a government spokesman told journalists that getting ____ to the protestors could be dangerous".**

A too closely
B too close
C close too much

736) **Complete the following sentence: "I'm ____, ____ there's nothing to drink".**

A thirsty / for
B thirst / and
C thirsty / but

737) **Fill in the blank. "My father was worried about us _____ we weren't back on time".**

A since
B for
C from

738) **Complete the following sentence: "_____ the animals go free.**

A Lie
B Leave
C Let

---

739) **Complete the following sentence: "I didn't hear what Mary was_____"**

A telling
B speaking
C saying

---

740) **Complete the following sentence: "_____ the heavy rain, they went to the sea to get a break from the city".**

A Anyway
B Although
C In spite of

---

741) **Complete the following sentence: "He thinks we _____ one day".**

A getting married
B are marrying
C will get married

---

742) **Complete the following sentence: "Every morning, when the class starts, the teacher _____".**

A calls the register
B makes the appeal
C calls the students

---

743) **Complete the following sentence: "Tom has an _____ the most fantastic lies".**

A ability amazing to invent
B amazing ability to invent
C capability of inventing

---

744) **Complete the following sentence: "The question _____ this year by the committee".**

A examining
B is being examined
C has examined

---

745) **Complete the following sentence: "Charles doesn't work _____ Fridays or _____ weekends".**

A Until / at.
B on /at.
C At / in.

---

746) **Choose the best verb form to complete this sentence: "By next year we ... to speak Italian fluently".**

A will be able.
B needn't.
C can.

---

747) **Choose the best word or phrase to complete this sentence: "Several people ___ his suggestion and some emails were exchanged about this".**

A told
B responded to
C replied

---

748) **Choose the correct phrase to complete this sentence: "The manager said that all personal telephone calls ____".**

A had to be paid for
B must have paid for
C might have to pay

---

749) **Fill in the blank: "How .... did it cost?"**

A much
B many
C well

---

750) **Choose the best phrase to complete the question. "_____ to do the training program face-to-face or online?"**

A Cost less
B Is it cheaper
C Is cheap

---

751) **Choose the best word to complete the question:"____ do you like your job?"**

A Who
B Why
C What

---

752) **New leadership _____ to its muzzling of the press yesterday as journalists launched a furious attack on state censorship.**

A was severely challenged
B faced an unprecedented challenge
C affronted a strong challenge

---

753) **Do you know why all _____ that noise?**

A do those crows
B those crows are making
C those crows are doing

---

754) **Fill in the blank. "Because he is ..., we can't ... what course he will follow at any moment".**

A deleterious; foretell
B capricious; predict
C guilty; guess

---

755) **Complete correctly. "When I _____ the course, I _____ work in a software house".**

A go up / would
B finish /could
C shut / would likes

---

756) **Complete correctly. "Yesterday I_____ to the town centre to buy a present for my girlfriend"**

A have been going
B had gone
C went

---

757) **Complete the following sentence. "He ____ his reflection ___the mirror".**

A see /against
B look / on
C sees / in

---

758) **Choose the correct sentence.**

A Is always she so kind?
B Is she always so kind?
C Is always so kind she

---

759) **Complete correctly. " Who are ___ people over there?"**

A that
B those
C these

---

760) **Read the passage and answer the question. Pride and Prejudice, by far the most popular of all Jane Austen's novels, requires no detailed description. Jane Austen said of it that it "is rather too light, and bright, and sparkling; it wants shade," and this is perhaps the reason for its popularity. The precision and vivacity of style carry the reader through the novel with ease and spirit; there is a sparkling life about the characters and rainwashed freshness about the scenery which combine to make this gayest of Jane Austen's novels, in spite of deeper overtones which emerge when Charlotte Lucas agrees to marry Mr. Collins or when Lydia is discovered to have run off with Wickham with no prospect of marriage. The speed and ski ii with which the author moves into the story is remarkable. According to the passage, Jane Austen's novel Pride and Prejudice:**

A is popular due to its vivacity of style
B doesn't need elaborate explanation
C doesn't require shade to be understood by the readers

---

761) **Complete correctly. "When I finish the course, I _____ work in a software house".**

A would likes
B could
C like

762) **Complete the following sentence: "Please ____ need any further information. I will be very pleased to provide it".**

A let me know if you
B if you let me know
C let me know you if

763) **Complete the following sentence: "Philip has just left the office. In other words he's ...."**

A down.
B up.
C out.

764) **Which word CANNOT be used as a synonym for prevents in the following newspaper headline? "Russia prevents plan to sell arms to African states".**

A blocks
B stops
C helps

765) **Complete the following sentence: "Before leaving, check that you ..... everything with you".**

A was take
B have taken
C has taking

766) **Choose the correct answer: "How often do you walk your dog for a walk?"**

A Three times a day.
B yes, I like it.
C He is 2 years old.

767) **Choose the correct answer: "Whose are the glasses on the desk?"**

A He's Mrs Smith
B They're Mrs Smith's
C It's Mrs Smith's

768) **Complete the following sentence: She is ..... dark glasses to protect her eyes from the sun.**

A wearing
B fitting
C taking

769) **Choose the right answer: "How old is Miss Davis, your English teacher?"**

A They are 39
B He is 39.
C She is 39.

770) **Choose the right answer: "I feel cold."**

A I shall wear a T-shirt
B You should wear a sweater.
C You was getting off your shirt

771) **Choose the word or group of words which best completes the following sentence. "I have to buy ...".**

A a bread loaf
B a loaf of bread
C bread

772) **Complete the following sentence: "_____ necklace do you prefer _____ the one with the pearls and the one with the diamonds?"**

A Which / between
B Who / in
C What /among

773) **Choose the alternative which best completes the following sentence. "Diabetes, _____, is sometimes caused by an antibody that destroys the pancreas cells producing this hormone".**

A a serious disease in which the body cannot enough produce insulin
B a serious disease in which the body cannot produce enough insulin
C a seriously disease in which the body cannot make enough insulin

774) **Complete the following sentence: "I'm really quite lost. _____ you _____ showing me how to get out of here?"**

A Might / minding
B Would / mind
C Would / be

775) **Complete the following sentence: "It usually ____ a lot in winter".**

A go rain
B rains
C rain

776) **Fill in the blank. "I have lived in India ____ ten years".**

A since
B forward
C for

777) **Complete the following sentence: "This time tomorrow we _____ to New York".**

A flying
B will be flying
C aren't flying

778) **Complete the following sentence: "This summer is _____ last year".**

A warmer of
B warmer than
C more warm of

779) **Complete the following sentence: "She suggested I _____ him".**

A calling
B call
C to call

780) **Complete the question. "Could you tell me _____"**

A how long it takes to get to Seattle?
B how long to get to Seattle it takes?
C how long does it take to get to Seattle?

781) **Choose the best word or phrase to complete this sentence." ____ left after the tourist office and you will see the Marine Hotel on the right".**

A Turn
B Go to
C Turn on

782) **Complete the following sentence: "I _____ really grateful if you could answer my question".**

A have been
B would have been
C would be

783) **Choose the correct sentence.**

A He wishes he hadn't left home.
B He wishes he didn't left home.
C He wishes he haven't left home.

784) **Choose the correct answer: "Have you ever been in Naples?"**

A Yes I did.
B Yes I had.
C Yes I have.

785) **The nearest library is in Oxford Street. Go straight down here. Turn right at the traffic lights then take the second on the left. is:**

A an indication
B a suggestion
C an order

786) **Complete the following sentence: "I'll pay you back the money ____ I can get to the bank".**

A as soon as
B as soon
C sooner

---

787) Complete the following sentence: "The company took .... shortly after the deal".

A up
B over.
C down

---

788) Which question is correct?

A How does the weather in Milan?
B How the weather is in Milan?
C What's the weather like in Milan?

---

789) Scegliere la traduzione esatta.Ho un lavoro più interessante adesso.

A I have a work more interesting now.
B I have a more interesting work now.
C I have a more interesting job now.

---

790) The word "time" is:

A an adjective.
B a noun
C an adverb

---

791) The idiom "to be in hot water" means:

A essere nei guai.
B sentirsi sicuri di sé.
C essere con l'acqua alla gola.

---

792) Choose the best phrase to complete this sentence: "Everyone ____ pay taxes".

A has to
B don't have
C doesn't have

---

793) Complete the following sentence: "Last May 17th was an ___ holiday. The 150th anniversary of any event only happens once!"

A unprecedented
B unexpected
C irregular

---

794) You read the following newspaper headline: "Get away for less". The article will be about...

A a low-cost travel offer.
B buying a house.
C online trading.

---

795) Complete the following sentence: "I went to the library to _____ a book".

A take.
B lend.
C borrow.

---

796) Choose the best answer for this question: Are you ready?

A No, I ready.
B Yes, I do.
C Yes, I am.

---

797) Complete the following sentence: "_____ you be so kind as _____ the window?"

A Could / to open.
B Would / to open.
C Would / opening.

---

798) Complete the following sentence: "I knew you .... show up!"

A Wasn't.
B Wouldn't
C Didn't.

799) **Fill in the blank. "Our customers usually pay ____ bills promptly".**

A you're
B there
C their

800) **Choose the best verb form to complete the sentence. "_____ at the station just in time to catch his train, Mike realised that he had left his wallet at home".**

A Having arrived
B When he was arrived
C After he has arrived

801) **Choose the best verb form to complete this sentence: "Doctor advised me ... smoking".**

A that giving up.
B to give up
C giving up.

802) **Choose the best verb form to complete this sentence: The notebook ___ in the office yesterday evening, but now it's ___!**

A was/gone
B were/went
C be/go

803) **Fill in the blank. "It was a difficult problem, but he worked ... a solution".**

A out
B of
C on top of.

804) **Complete the following sentence. "Education in the widest sense is any act or experience that _____ the mind, character or physical ability of an individual".**

A doesn't a formative effect on
B has a formative effect of
C has a formative effect on

805) **Read the passage and answer the question. Marco Polo was a merchant and explorer who traveled throughout the Far East and China for much of his life. His stories were the basis for what Europe knew about Ancient China for many years.He lived from 1254 to 1324. He was born in Venice in 1254. His father was a wealthy merchant. Marco Polo first left for China when he was 17 years old. He went to China with his father and his uncle: it took Marco Polo three years to reach China, where among other extraordinary events, he could meet Kublai Khan, the mongol emperor. During his travels he learnt about different cultures, foods, cities, and different peoples. He saw many places and things that no one from Europe had ever seen before. He was fascinated by China's landscapes. After twenty years of permanence in China, the three Polo decided to come back to Venice, to which finally returned in 1295. After his return, Venice fought a war with Genoa: Marco was arrested. In prison, he told his adventures to Rustichello, a writer that collected them in "The travels of Marco Polo". The book, also known as "The Million", became very famous and was translated into many languages. Marco Polo spent his last years in Venice, surrounded by his sons and nephews. Did Marco Polo live always in Venice?**

A Yes he lived in Venice all his life.
B No, he was a great explorer and remained twenty years in China.
C He left Venice only for a brief period spent in Genoa.

806) **Complete the following sentence: "She said I_____ overweight and should go on a diet".**

A being
B was
C had

807) **Fill in the blank. "Anna _____ in Sweden for four years".**

A has lived
B live
C lives

808) **He didn't know he _____ a mistake.**

A made
B had made
C did

809) **Fill in the blank. "The London Eye is Europe's tallest cantilevered observation wheel. The London Eye is open _____ and visitors can buy tickets on the day or pre book to take a ride on the wheel.**

A throughout the years
B all year
C throughout the year

---

810) **Choose the best words to complete this sentence: "The _____ you have dialed has not been recognized. Please _____".**

A number/hang up
B address/ hang up
C phone/get down

---

811) **Fill in the blank. "He's not very keen _____ football".**

A on
B of
C about

---

812) **Fill in the blank. "A Viennese journalist, writing ... the end of the eighteenth century, observed that these serenades occurred almost every fine summer evening".**

A adjacent
B nearby
C towards

---

813) **Fill in the blank. "Tom denied .... the boy".**

A is beating.
B to beat
C beating

---

814) **Fill in the blank. "My sister has three ___, Barbara, Helen and Peter."**

A sons
B children
C daughters

---

815) **Choose the best words to complete the sentence: "When I see your friend _____ him _____ you said".**

A I tell / that
B I told / which.
C I'll tell / what.

---

816) **Fill in the blank. "Helen is a _____ nicer person than I thought she was".**

A quite.
B much.
C very.

---

817) **Fill in the blank. "The door ____ have been opened with a key".**

A had
B must
C is

---

818) **Fill in the blank. "The man ... ... next door is a painter".**

A who live
B whom lives
C who lives

---

819) **Complete the following sentence: "Beethoven wrote nine symphonies _____ by orchestras all over the world".**

A which they are still being played
B which have still played
C which are still played

---

820) **Choose the correct form. "When i finish the course, I _____ work in a software house".**

A want like
B ought
C could

821) **Complete the following sentence. "I was able to _____ my baggage promptly after leaving the plane".**

A rescue
B retrieve
C recover

822) **Complete the following sentence. "According to a lifestyle magazine, the latest diet craze is fasting - an idea which has been around _____"**

A for at least 2,000 years.
B from at least 2,000 years.
C since at least 2,000 years.

823) **Fill in the blanks with the right words. "Because Tom is ..., we can't ... what course he will follow at any moment".**

A capricious; predict
B deleterious; foretell
C sad; tell

824) **Complete the following sentence. "Our friend .... very happy today".**

A isn't seeming
B seem
C doesn't seem

825) **Fill in the blank. "Tell me ... wrote that novel".**

A who
B when
C what

826) **Fill in the blank. "... can we get some information about this old church?".**

A What
B Where
C Wherever

827) **Complete the following sentence. "I like your tablet very much. How much does it cost?"_____".**

A He cost 250 euros.
B They costs 250 euros.
C It costs about 250 euros.

828) **Complete the following sentence. "The weather was fine on the day ..... we arrived".**

A what
B whose
C when

829) **Fill in the blank. "We stayed at the Grand Hotel, ... our friend recommended to us".**

A which
B what
C where

830) **Fill in the blank. "____ signing the contract he made a phone call".**

A Before
B Since he'd had
C After he had

831) **Where were you yesterday at 5pm? I _____ the shopping centre.**

A was at
B will be at
C were at

832) **Complete the following sentence. "If you'd told me the truth in the first place, ..."**

A I understand.
B I would understand.
C I would have understood.

833) **Complete the following sentence. "How do you help _____ the organization of your birthday party?"**

A about
B with
C by

---

834) **Choose the best word to complete the sentence: "Yesterday Peter ... us a lift in his car".**

A took.
B caught.
C gave

---

835) **Read the passage and answer the question. The majority of people in Scotland are in favor breaking away from the rest of the UK and becoming independent, according to a poll taken just before the 300th anniversary of the Act of Union, which united Scotland and England. Scotland was an independent kingdom through the Middle Ages, having won wars of independence against England. The two kingdoms were joined in personal union in 1603 when the Scottish King James VI became King James I of England. A pair of Acts of Parliament, passed in 1706 and 1707 that came into effect on May 1, 1707, created Great Britain. The parliaments of both countries were dissolved, and replaced by a new Parliament of Great Britain in Westminster, London. Great Britain:**

A was formed by Acts of Parliament that came into effect on May 1st 1707.
B was formed by two Acts of Parliament in 1707.
C was formed by an Act of Parliament that came into effect on May 1st 1707.

---

836) **Complete the following sentence. "The guy ... spoke first must be the boss".**

A who
B which
C why

---

837) **Fill in the blank. "I want to know ... you went yesterday".**

A where
B who
C what

---

838) **Fill in the blank. "... did you meet yesterday evening?".**

A What
B Which
C Whom

---

839) **Fill in the blank. "... won't they be able to join us?".**

A What
B Why
C Which

---

840) **Fill in the blank. "I'm sure it ... to rain".**

A will
B is going
C can

---

841) **Yesterday morning I ... angry because they ... late.**

A was / were
B were ... was
C is ... are

---

842) **Complete the following sentence. "The driver is sorry about the accident. He _____".**

A is angry about what happened
B regrets making an accident
C really regrets what happened

---

843) **Fill in the blank. "This pair of shoes ...".**

A are more fashionable that that
B are less fashionable than those
C is less fashionable than that one

---

844) **Complete the following sentence. "The day before yesterday the girl ..... on her desk!"**

A is dancing
B were dancing
C was dancing

845) **Choose the correct form. "John _____to do, so he could not go out".**

A is having too much
B had too much
C was having so little

846) **Complete the following sentence."My book _____a vocabulary section".**

A is very different from yours because it has
B differs from yours since
C is such good as yours which has

847) **Fill in the blank. "Are the cars in the garage?". "No, there ... in the garage".**

A is nothing
B is anything
C is no one

848) **Choose the bet word to complete the sentence. "The majority of people in Scotland are in favour _____ away from the rest of the UK and _____ independent".**

A break /become
B broke / became
C breaking / becoming

849) **Choose the correct translation. "The results of the test were doctored up".**

A I risultati dell'esame sono stati mandati al dottore.
B I risultati dell'esame sono stati pubblicati.
C I risultati dell'esame sono stati falsificati.

850) **Choose the best word to complete this sentence: "It rained all last weekend ____ we didn't go to the seaside".**

A such as
B through
C so

851) **Choose the correct form. "I _____ studied physics if the teacher _____ interesting".**

A Wouldn't / hadn't been.
B Wouldn't have / hadn't been.
C Would have / hadn't been.

852) **Choose the best phrase to complete this sentence. "I am going to London to do a summer course to ____".**

A know better the English
B get to know the language better
C know better English language

853) **Choose the correct translation. "Tom drove off without saying a word".**

A Tom se ne andò in macchina senza dire una parola.
B Tom guida in modo strano.
C Tom non ha detto una parola mentre guidava.

854) **Fill in the blank. "He hit the target with great .... every time he shot".**

A want.
B time.
C desire

855) **Fill in the blank. "Oh, look! The helicopter is flying ..... the town".**

A over
B on
C upon

856) **Fill in the blank. "Indian people differ _____ other nationalities I know".**

A as
B from
C along

857) **Choose the correct form. "There .... a considerable amount of consolidation among suppliers".**

A going to be.
B were.
C has been.

---

858) **Choose the best word or phrase to begin this sentence: " ____ I manage to get through all the letters I have to write this morning, I'll be able to start working on the new project this afternoon".**

A Since
B As long as
C Whether

---

859) **Choose the best word or phrase to begin this sentence: "Mary is terribly .... . She doesn't remember anything you tell her."**

A Outgoing.
B forgetful.
C Easygoing.

---

860) **Fill in the blank. "I ... go out in the evening: the last time I did was three months ago".**

A forever
B seldom
C often

---

861) **Complete the following sentence. "My grandmather places his glasses at the tip of _____ when he reads".**

A her nose
B his knee
C his chair

---

862) **Fill in the blank. "No names have yet .... made".**

A still
B been
C just.

---

863) **Complete the following sentence. "It's .... since I last .... her!"**

A months / will see.
B A lot / seen.
C years / saw.

---

864) **Read the passage and answer the question. Robert Louis Stevenson was born in Edinburgh in 1850 in a rich family. Only son of a successful engineer, he went to Edinburgh University. After taking a degree in law he preferred the study of literature. With poor health since childhood, he decided to leave Edinburgh in 1873 for the French Riviera to find a better climate. Later he went to California where he married Fanny Osbourne. Come back to England, he wrote his first novels, among which "Strange case of Dr. Jekyll and Mr. Hyde" gained a great success. In 1890 he settled in Samoa, where he died in 1894. Robert Louis Stevenson took a degree:**

A in law
B in medicine
C in literature

---

865) **Complete the following sentence. "It's about time you made .... your mind!"**

A out
B up
C in

---

866) **Complete the following sentence. "Do you think violent supporters ..... arrested?**

A is
B should be
C will being

---

867) **My neighbours are so intrusive that I'd sometimes like to tell them that my private life is none of their _____!"**

A business
B affair
C work

---

868) **Choose the alternative which best completes the following sentence. "Diabetes, ..., is sometimes caused by an antibody that destroys the pancreas cells producing this hormone".**

A a serious disease in which the body cannot enough produce insulin.
B a serious disease in which the body cannot produce enough insulin.
C a seriously disease in which the body cannot make enough insulin.

---

869) Which sentence is correct?

A Art therapy uses the process of making art to improve a person's mental and emotional well-being.
B Art therapy uses the process of making art for to improve a person's mental and emotional well-being.
C Art therapy uses the process of making art to improving a person's mental and emotional well-being.

---

870) Fill in the blank. "He forgot to consider the rise ... the cost ... living".

A in/ of.
B of/ for.
C of/ in.

---

871) Choose the best word to complete this question. "Where ____ you like to go this evening?"

A does
B are
C would

---

872) Fill in the blank. "... was calling you this morning".

A Someone
B Som
C Some body

---

873) Fill in the blank. "There aren't _____ children in the park".

A some
B lot
C any

---

874) Choose the correct sentence.

A The office was moved to a new apartment on 11th street.
B The office were moved in a new apartment on 11th street.
C The office had moved to a new apartment on 11th street.

---

875) Choose the correct form. "For _____ information, contact the center.

A further
B nearer
C closer

---

876) Choose the correct form. "What _____ for a living?"

A he does
B he is doing
C does he do

---

877) Choose the correct sentence.

A None of they is of very use in practical life.
B None of them is of much use in practical life.
C None of them are of much use in practical life

---

878) Choose the correct sentence.

A I have learned that its better to be pro-active than to have regrets.
B I have learned that its better to be proactive than to have regrets.
C I have learned that it's better to be proactive than to have regrets.

---

879) Complete the following sentence: "I want .... to the store".

A Who you go.
B You to go.
C You'd go.

---

880) Complete the following sentence: "The main focus of trade unions is to organize, maintain or improve the conditions of the workers' _____ ".

A employer
B employement
C employee

881) **Complete the following sentence: "Where are you going? The staff meeting hasn't finished ___ ".**

A just
B yet
C already

882) **Choose the best word to complete the sentence: "It has been a busy day, you are tired, ____"**

A aren't you?
B did you?
C are you?

883) **Choose the correct sentence:**

A Tom has won the lottery
B Ton is winner lottery
C Tom has winned lottery

884) **Indicare la traduzione corretta: "Studio inglese da cinque anni".**

A I have studied English for five years
B I am studying English from five years
C I have studied English five years ago

885) **Choose the correct sentence:**

A He ran, but he couldn't bring the bus.
B He ran, but he couldn't catch the bus.
C He ran, but he couldn't carry the bus.

886) **Fill in the blanks. "Would you like to join us ____ lunch? We're going ____a nice restaurant!".**

A for; to
B on; at
C in; in

887) **Indicare la traduzione corretta: "Come stai?" "Bene, grazie."**

A I'll fine, thanks. I fine, thanks".
B What are you? "I'm good, thanks".
C How are you? "I'm fine, thanks".

888) **Choose the best word to complete this sentence: "Giuseppe Verdi was a _____ " .**

A wide composer in Italy
B bigger composer of Italy
C great italian composer

889) **We should be grateful for a _____ reply.**

A prompt
B early
C soon

890) **Choose the correct form. "He is spanish but _____ passport is italian".**

A her
B his
C their

891) **Fill in the blank. "_____ the bad weather, they've decided to go camping".**

A In spite
B Although
C Despite

892) **Complete the following sentence: "We _____ the project a month ago, but we are still in the middle of it".**

A needed finishing
B should have finished
C must have finished

893) **Complete the following sentence: "Tom goes to Sidney_____".**

A two times in the year.
B twice a year.
C two time for year.

894) **Complete the following sentence: "The BBC_____ throughout the world".**

A broadcasts
B receives
C presents

895) **Choose the correct alternative. "The child burst at tears after fall down".**

A The child bursted in tears after falling down
B The child burst into tears after falling down
C The child burst in tears after has fallen down

896) **Fill in the blank. "This is by far ____ coffee I have ever had!".**

A the worst
B the most bad
C the worse

897) **Complete the following sentence: "Chinese is _____ language in the world".**

A the most spoken
B the least spoken
C the more spoken

898) **Fill in the blank. "Kilimanjaro is _____mountain in Africa".**

A the highest
B more high
C the tallest

899) **Fill in the blank. "You're _____ friends of all".**

A the oldest
B the older
C the most old

900) **The student succeeded in passing the examination. The verb succeeded means:**

A non è riuscito
B potrebbe riuscire
C è riuscito

901) **Fill in the blank. "More people live in Rome ...".**

A than in Milan
B which in Milan
C then in Milan

902) **Fill in the blank. "Mrs Smith is ... teacher in the school".**

A the best
B better
C the better

903) **Choose the best word or words to complete this sentence: "He want to become a engineer so he is studying ____" .**

A by engineer
B engineery
C in engineery

904) **Complete the following sentence: "You will help me to do the dishes, _____"**

A could she?
B should he?
C won't you?

905) **Complete the following sentence. "..... the TV, it's time to go to bed".**

A Spent off
B Switch on
C Switch off

906) **Fill in the blank. "Laura is studying at the moment. _____ disturb her!".**

A You don't have to
B Don't
C You needn't

---

907) **Complete the following sentence. "The organisation ... together countries ... the principles of the market economy".**

A brings; sharing
B relieves; promoting
C removes; rejecting

---

908) **Complete the following sentence. "Campaigners have been protesting against the widening gap between wages and rail fares as the cost of some season tickets _____ five times more than average earnings".**

A are increased
B has risen
C is risen

---

909) **Complete the following sentence. "She .... very happy today".**

A isn't seeming
B don't seem
C doesn't seem

---

910) **Fill in the blank. "Please, ... at your little brother".**

A takes looking
B take a look
C take ashore

---

911) **Complete the following dialogue. "..... my history book?" "Yes, it's here on my desk".**

A Having you see
B Did you had seen
C Have you seen

---

912) **Complete the following sentence. ".. ... ... Victoria when you meet her, she is very nice".**

A You are liking
B You won't like
C You'll like

---

913) **Complete the following sentence. "The room is very dirty! I can't stand it._____"**

A You must clean it immediately
B You to must clean it immediately
C You have clean immediately

---

914) **Complete the following sentence: "We have finished our homework and right now ....." .**

A we' ve just relaxed
B we just relaxing
C we are just relaxing

---

915) **Complete the following question. "How .....his name?"**

A do you spell
B you spell
C are you spell

---

916) **Complete the following sentence. "All political parties are aware that the possibility of high numbers of new migrants has become an issue, fuelled by unproven claims that the new arrivals _____ crime and social problems".**

A could lead to a rise in
B could be leading to a raise in
C might led to a rise of

---

917) **Complete the following sentence. "I really ... any interesting plays lately".**

A saw
B haven't seen
C didn't see

---

918) **Complete the following question. "_____ money have you got?"**

A How much
B How many
C What many

---

919) **Complete the following sentence. "____ not to say anything at the meeting and to let the others do all the talking".**

A I was said
B They told
C I was told

---

920) **Fill in the blank. "... do you feel today?".**

A Why
B How
C How like

---

921) **Fill in the blank. "... is the airport from the hotel?". "Just 10 km".**

A How far
B How long
C How much

---

922) **Complete the following sentence: "If your data base needs _____ , contact my friend's company".**

A to update
B updating
C up to dates

---

923) **Complete the following sentence: "The day before yesterday ..... at home".**

A he have been
B he was
C he were

---

924) **Choose the correct sentence.**

A I spent Christmas to my family in Italy.
B I am spending Christmas with my family in Italy.
C I spent Christmas over my family in Italy.

---

925) **Complete the following sentence: "Why don't you ____ with me to New York?**

A coming
B came
C come

---

926) **Complete the following sentence: "My sister _____"**

A don't like traveling
B wasn't to travel
C doesn't like to travel

---

927) **Find the opposite meaning of "native".**

A dead
B stranger
C national

---

928) **Choose the correct sentence.**

A The lamp is hanging over the table.
B The lamp is hanged on the table.
C The lamp is on the table.

---

929) **Choose the correct sentence.**

A I have call earlier, but I fell asleep.
B I meant to call earlier, but I fell asleep.
C I will to call earlier, but I fell asleep.

---

930) **Complete the following sentence: "I think she _____ to her party".**

A will to invite I
B will invite me
C wills invite me

931) **Choose the correct sentence.**

A He got me understand that I was wrong.
B He got me to understand that I was wrong.
C He got to me understood I was wrong.

932) **Fill in the blank. "I know what that word means! I looked ____ in my dictionary".**

A it up
B for it
C to it

933) **Complete the following sentence. "| _____ at least six months".**

A haven't heard rom him for
B don't hear from him for
C don't hear from him since

934) **One molecule of pure water is composed _____ two hydrogen atoms and one oxygen atom.**

A from
B of
C by

935) **Complete the following sentence: "She wanted to give her baby a natural ... at home instead of in the hospital".**

A birth
B borning
C born

936) **Completes the following sentence. "The audience had mixed feelings ... the film".**

A on
B about
C with

937) **Completes the following sentence. "Excuse me, where is ... bookshop?"**

A the nearer.
B the near.
C the nearest

938) **Fill in the blank. "I want to read the letter ... lunch".**

A behind
B afterwards
C before

939) **Fill in the blank with the right word. "The police car disappeared ___ the corner".**

A below
B across
C round

940) **There were a lot of people ... ... shop: it was very crowded.**

A on the
B over the
C in the

941) **Complete the following sentence. "At the dinner party, Helen sat ... Peter".**

A upon to
B over to
C next to

942) **Choose the correct sentence.**

A I'm more and more enthusiastic about this project.
B I'm more enthusiastic about this project.
C I'm most enthusiastic about this project.

943) **Choose the group of words which best completes the following sentence. "... to get to Trafalgar Square?". "About 20 minutes".**

A How long does it take.
B What long does it take.
C How much take we.

---

944) **Fill in the blank. "... were you born?". "I was born in 1985".**

A Where
B When
C Why

---

945) **Complete the following sentence. "I would prefer not ... ... the last train".**

A risking to miss
B risking to lose
C to risk missing

---

946) **Fill in the blank. "She explained to us ... to arrive there".**

A in what way
B how
C which way

---

947) **Fill in the blank. "... are you coming back from France?".**

A Where
B Because
C When

---

948) **Fill in the blank."_____ you yesterday? I couldn't find you!**

A Were where
B Where were
C Where was

---

949) **Fill in the blank. "The house on the corner, ...owners are away, has been damaged by the fire".**

A which
B where
C whose

---

950) **He ..... the successful director of a luxury hotel for over five years.**

A was
B is
C has been

---

951) **Fill in the blanks. "... is your father ...?".**

A Where; liking
B What; like
C Why; likes

---

952) **Choose the right answer. "Are you thirsty?"**

A Yes, can I have an orange juice, please?
B No, thanks. I don't like it.
C Oh thank you, I am very hungry!

---

953) **Complete the following sentence: "My father wants to know _____."**

A how many is that car
B how that car is much
C how much that car is

---

954) **Complete the following sentence: I _____ really grateful if you could answer my question.**

A have been
B am
C would be

---

955) **Fill in the blank. "The two thieves ... in a stolen car".**

A got away.
B carried away.
C brought away.

---

956) **Complete the following sentence "I'm so sorry I couldn't come to your party". The communicative function of the sentence is _____ .**

A explaining
B apologizing
C giving instructions

---

957) **He was so depressed that he wished he . .. . born.**

A had never been
B was never
C has never been

---

958) **Read the passage and fill in the blanks. Keesh lived long ago on the rim of the polar sea, was head man of his village through many and prosperous years, and died full of honors with his name on the lips of men. So long ago did he live that only the old men remember his name, his name and the tale, which they got from the old men before them, and which the old men to come will ____to their children and their children's children down to the end of time. And the winter darkness, when the north gales make their long sweep ____ the ice-pack, and the air is filled with flying white, and no man may venture forth, is the chosen time for the telling of how Keesh, from the poorest igloo in the village, rose to power and place over them all. (Jack London)**

A said /over
B tell / across
C told / at

---

959) **Fill in the blank. "She started a course at college, but she _____ after two months".**

A fell out
B dropped out
C went out

---

960) **Complete the following sentence: "Tell the students _____ about the exam".**

A don't worry not worrying
B not to worry
C not worry

---

961) **Complete the following sentence: "What is the name of the woman.....is coming to the party with your sister?"**

A which
B who
C whose

---

962) **Fill in the blank. "It has been ... experience of my life".**

A worst
B the worst
C the worse

---

963) **Fill in the blank. "They ... not forget Henry's birthday gift".**

A had rather
B had better
C would better

---

964) **Complete the following sentence: "George is telling John that they .....the baseball match tomorrow".**

A would have gone
B are going to
C go to

---

965) **The past simple of the verb 'to take' is:**

A took
B taked
C taken

---

966) **Complete the following sentence: "He promised me he _____ back the following day".**

A would come
B will to come
C would to come

---

967) **Choose the words which best complete the following sentence. "... if I ... the radio on?".**

A Would you mind; turned
B Do you mind; turning
C Would you mind; turning

---

968) **Choose the words which best complete the following sentence. . "Do you like surfing the Internet?"**

A No, I haven't.
B Yes, I love doing that.
C No, thanks.

---

969) **Fill in the blank. "The mother is ... her baby".**

A milking
B eating
C feeding

---

970) **Complete the following sentence: "I'd like to know ...!".**

A what are they doing here
B what they are doing here
C they are doing here

---

971) **Complete the following sentence. "I tried two pairs of shoes, but I_____".**

A didn't like the second pair.
B liked either of them.
C liked neither of them.

---

972) **Fill in the blank. "Has your sister come back ... London?"**

A about
B from
C because

---

973) **Fill in the blanks. "... school I am going ...".**

A after; house
B before; shop
C after; home

---

974) **Fill in the blank with the right word. "Can we have a table ... the window?".**

A by
B between
C besides

---

975) **Complete the following sentence. "Jenny and Ken _____".**

A by saying are good tennis players
B is good said tennis players
C are said to be good tennis players

---

976) **Fill in the blank. "Can you give me the book, ... is on the shelf over there?"**

A who
B when
C which

---

977) **Complete the following sentence. "Shall I get anything for you at the supermarket?". "Yes please, ... potatoes".**

A take a little
B | get some
C I get any

---

978) **Complete the following sentence with the right word. "I haven't seen Kate ... I was 12".**

A since
B from
C then

---

979) **Fill in the blank. "... did you arrive so late?".**

A Where
B Why
C When

980) **Fill in the blank. "... is the weather like today?".**

A Why
B When
C What

981) **Fill in the blank. "This is ... pizza I have ever had in my life".**

A the best
B best
C the better

982) **Choose the word which best completes the following sentence. "I ... the glass".**

A broken
B breaken
C broke

983) **Choose the correct form. "I'm _____ at the moment".**

A busy writing
B busy write
C a busy to write

984) **Choose the right answer. "What would you like to have for lunch?"**

A A cheese sandwich, please
B Yes, please.
C No, please, I don't like it.

985) **Choose the right answer. "Can I borrow your guitar for a minute, please? "**

A Yes, we can
B No, I can't
C Yes, you can

986) **Choose the right answer. "Have you read any books by Charles Dickens?"**

A No, I have.
B Yes, they haven't.
C Yes, I have.

987) **Choose the right answer. "How old is your daughter?"**

A She are seventeen years old.
B He is seventeen years old
C She is seventeen years old.

988) **Complete the following sentence: "The film ..... last week was really boring".**

A I have seen
B I saw
C I was seen

989) **Complete the following sentence. "It's .....raining".**

A still
B already
C yet

990) **Complete the following sentence. "My wife is ... having breakfast".**

A yet
B still
C already

991) **Complete the following sentence. "The ships have ___ reached the main canal".**

A yet
B already
C still

992) **Complete the following sentence: "Excuse me sir, ... me where the Big Ben is, please? It's my first time in London, you know".**

A will you tell
B can you tell
C you can tell

993) **Fill in the blank. "I'm not _____ hats".**

A usually wearing
B usually wearing
C used to wearing

994) **Choose the correct sentence:**

A I sorry, but I not help with you!
B I'm sorry, but I don't help to you!
C I'm sorry, but I don't help you!

995) **Choose the right translation. "C'è il sole. Metterò gli occhiali da sole".**

A It's sun. I'll wear my sunglass!
B It's sunny. I'll wear my sunglasses!
C It's sunny. I'll put my sunglasses!

996) **What does the word "environment" mean?**

A inquinamento
B ecologia
C ambiente

997) **Choose the correct sentence:**

A Can you carry me a glass of water, please?
B Can you bring me a glass of water, please?
C Can you lead me a glass of water, please?

998) **Choose the right translation. "I'll pick you up at five o'clock".**

A Ci incontriamo alle cinque.
B Ti mando un messaggio alle cinque.
C Ti passo a prendere alle cinque.

999) **Complete the following sentence: "She was able to give me a ... account of the accident since she had been a witness to it".**

A second-hand
B preview.
C first-hand.

1000) **Fill in the blank. "This cake _____ good".**

A appears
B seems
C tastes

1001) **Fill in the blank. "My mother wants to know _____".**

A how much that shirt is
B how that shirt is much
C how many is that shirt

1002) **Fill in the blank. "He is ... player in the club".**

A the best
B better
C the better

1003) **Complete the following sentence: "I'm afraid _____. Would you kindly explain to me again?"**

A I find a quite baffling
B I have much confusion.
C I'm somewhat amazed for it.

1004) **Complete the following sentence: "Fill in the blank. " _____ me to buy some bread before we leave".**

A Remember
B Remind
C Recall

1005) **Complete the following sentence: "The table _____ was virtually impossible to lift".**

A owing his weight
B due its weight
C being so heavy

1006) Complete the following sentence: "You won't be allowed to leave _____ your passport".

A if you won't have renewed
B unless you renew
C unless you'll not to renew

1007) Complete the following sentence: "In Europe, there are far too many_____"

A jobless
B disoccupied
C unemployed

1008) Complete the following sentence: "The managing director made several attempts to arrange a meeting but he could never ____ him down to a definite time".

A pin
B track.
C stick.

1009) Complete the following sentence: "She's lacking the basic skills and doesn't have much tact_____"

A either
B as well
C neither

1010) Fill in the blanks. "____is _____ for your happiness".

A Love/ important
B Loving/ no important
C Loves/ important

1011) Fill in the blank. "Her failure in the examination was a great ____ to her pride".

A strike.
B blow
C attack

1012) Complete the sentence. "He thinks.....better than everyone else".

A to be
B he is
C of being

1013) Complete the sentence. "My father suggested _____a letter of apology".

A me to write
B me writing
C | should write

1014) Complete the following sentence: "There is going to be a _____ of television programmes on the great artists of the Renaissance".

A serial
B broadcast.
C series

1015) As the weeks went by, his depression got _____ and eventually his wife decided he should see a doctor.

A more and more
B ever more bad
C worse and worse

1016) Complete the sentence. "You _____ catch a cold, if you stay out any longer".

A are going
B shall
C will

1017) The police ... a good deal of criticism over their handling of the affair.

A passed through to.
B came in for.
C went down through.

1018) Complete the sentence. "I _____ buy a new dress tomorrow".

A shall
B will to
C go to

1019) Complete the sentence. "My flat mate asked me if I_____ for the Pilates class organized by the university".

A will register
B had the intention
C was going to sign up

1020) Fill in the blank. "_____ are you staying in Italy?".

A When long
B How long
C Which times

1021) Complete the following sentence: "_____ better if I wasn't clear the first time".

A A.
B Allow me to explain myself
C Allow me to explain you

1022) Complete the following sentence: "In most big cities nowadays _____ to recycle paper, plastic, glass and even organic waste".

A it's due
B you are required
C it's request

1023) Complete the following sentence: "How long have you been in Britain?' _____ since August.

A I'm been here
B I will staying
C I've been here

1024) Read the passage and answer the question.Though relatively few people know it by name, palm oil is found in over fifty per cent of processed supermarket goods, from soaps to snacks. This vegetable oil, which is taken from the fruit of the oil palm tree, causes a great deal of environmental concern. The clearing of tropical forests to grow oil palm plantations threatens the survival of orangutans and other endangered species. The land conversion often happens on carbon rich peat soils in a process which releases significant greenhouse gas emissions. Yet even some environmental organizations warn that alternative vegetable oil crops may require much larger areas of forest to be converted to agricultural land. Which one of the following is a conclusion that can be drawn from the above passage?

A A ban on palm oil alone would not solve all of the environmental problems associated with vegetable oil production.
B If farmers stopped clearing tropical forests for oil palm plantations, endangered orangutan populations would recover.
C There is no motivation for manufacturers to stop using palm oil in their products.

1025) Fill in the blank. "Can you stop? You have be singing ___ two hours".

A all
B for
C in

1026) Fill in the blank. They say it's very difficult to _____ in today economic climate.

A have successful business
B do successfully business
C run a successful business

1027) Fill in the blank: "Our initiative was successful ___ the shortage of funds".

A in spite of
B by virtue of
C in despite

1028) Fill in the blank. "The _____ number of children being targeted by mobile phone thieves was revealed earlier this year in an annual crime survey for England and Wales".

A rising
B raising
C increase

1029) Fill in the blank. "Many people are fond _____ ice creams".

A in
B about
C of

1030) Complete the following sentence: "If she should phone. ..... I'm out".

A telling her
B tell her
C told her

1031) Complete the following sentence: "I couldn't help_____ that his attitude had changed".

A noticing
B notice
C to notice

1032) We have but to stand on a sea-shore and _____ that beat at our feet, to observe that at nearly regular intervals this monotonous rhythm is accentuated for several beats, so that the waves are really dancing.

A see the fishes
B look the sand
C watch the waves

1033) Choose the word or words which best complete the following sentence. "... shoes are not expensive".

A That
B This
C These

1034) Fill in the blank. "... do you spell the word "elephant"?".

A How
B What
C That

1035) Fill in the blank. "When will you ___ to the theatre?". "... Saturday".

A going / at
B go / on
C gone / for

1036) Choose the correct sentence:

A If I were you, I should more prudent.
B If I were you, I was be more prudent.
C If I were you, I should be more prudent.

1037) Read the passage and answer the question. The fallout from the global slowdown in the airline industry is still casting a shadow over airline suppliers, despite the resurgence of budget airlines. L Gardner, the engineering company, said yesterday that it had got rid of its final dividend and would cut 250 staff in the face of uncertain short-term prospects after the events of September 11. The supplier to Boeing and Rolls-Royce said that it would cut about 10 per cent of its workforce in a costcutting drive, announced last month, to pre-empt lower business levels. The group, which generates two-thirds of its income from making aircraft components, also said it felt that it was inappropriate to pay a dividend. Brett Welch, the finance director, said the cost-cutting exercise would help the company when the airline industry returned to normality. Separately, Ryanair, the no-frills Republic of Ireland airline, is expected to confirm Frankfurt as its second European hub today. The move, eagerly anticipated by observers in the airlines sector, would enable the budget airline to step up its efforts to take cost-conscious business passengers from the flag carriers. A "cost-conscious passenger" wants....

A Fewer fellow passengers.
B Night service.
C Cost-effective service.

1038) Complete the sentence. "He _____ to be the victim of fake news".

A claims
B declares
C says

1039) Choose the best word to complete the sentence. "When my sister goes on holiday, she ___ me the keys to her house .

A had left
B leaves
C left

1040) Complete the sentence. "I'd rather you ... . right away. Let's think about things for a bit before giving him a final answer".

A don't phone to him
B don't phone him
C didn't phone him

1041) What does the idiomatic expression "throw in the towel" mean?

A sfidare qualcuno
B mentire
C arrendersi

1042) Fill in the blank. "Robots will never _____ men".

A replace
B replayed
C replaying

1043) Choose the best phrase to complete the sentence: "Visiting the Russian Republic ____ a visa".

A are used to requiring
B were used to require
C used to require

1044) Complete the following sentence: "You wouldn't be able to buy a house unless you _____ some money".

A saved
B will save
C would save

1045) Complete the sentence. "The red wine that I had last night was _____ strong that I woke up with a bad headache this morning".

A whom / too much
B whose / enough
C that /so

1046) Choose the best word to complete the sentence. "_____ me again, what would you like for dinner tonight?"

A Remind
B Remember
C Recall

1047) Complete the following sentence: " ..... in Dubai next Tuesday".

A We had gone
B We have been
C We will be

1048) Choose the correct sentence.

A I never have asked and never will asking for special treatment
B I have never ask and never will ask for special treatment
C I have never asked and never will ask for special treatment

---

1049) Fill in the blank."Can you come on Monday evening?" "Sorry, but ... ... football".

A I'm playing
B I have played
C I played

1050) Choose the words which best complete the sentence. "I can't buy a DVD player, _____".

A I haven't got enough money.
B I haven't got money enough.
C I haven't run out of money yet.

1051) **Complete the following sentence: "I'd rather you _____ right away. Let's think about things for a bit before giving him a final answer".**

A don't phone
B hadn't phone
C didn't phone

1052) **____ Japanese food, but I don't think I'd like it.**

A I've never tried
B I won't try
C I never tried

1053) **Fill in the blank. "On one ..... online shopping has made our lives much easier, but on the other it isgradually forcing local shops to close down".**

A side
B hand
C part

1054) **Complete the following sentence: "What are you doing? I _____ a summary.**

A am writing
B am written
C am wrote

1055) **Fill in the blank. "If you want to stay here you are ... ... to obey the rules".**

A reputed
B expected
C demanded

1056) **Choose the words which best complete the following sentence. "The ... of this poisonous algae has caused the _____of many kinds of fish".**

A proliferation; death
B love; exodus
C morality; decline

1057) **Choose the correct sentence.**

A Stop makes that dreadful noise.
B Stop to make that dreadful noise.
C Stop making that dreadful noise.

1058) **Choose the word or group of words which best completes the following sentence. "They woke up when they_____ the noise".**

A saw
B heard
C made

1059) **Fill in the blank. "Many centuries ago, medicine suffered from the dishonest practice of _____".**

A hypnotics.
B charlatans.
C astrologers.

1060) **Choose the correct sentence.**

A When it is raining, Mary is every sad.
B When it rains, Mary feels very sad.
C When it rained, Mary is very sad.

1061) **Fill in the blank. "I've decided _____ the mountains for my holidays this year".**

A go to
B to go in
C going on

1062) **Fill in the blank. "We're going ____ France ____ a long holiday".**

A in / about
B at / since
C to /for

1063) **Find the opposite of "lazy".**

A active
B afraid
C ugly

1064) **Fill in the blank. "... are you leaving for the Christmas holidays?".**

A If
B When
C Since

1065) **Choose the correct sentence.**

A If I were you, I should be more prudent.
B If I were you, I should more prudent.
C If I were you, I shall be more prudent.

1066) **Fill in the blank: "What a beautiful coat! Did you pay ____ credit car?"**

A on
B by
C in

1067) **Find the opposite meaning of "vivacious".**

A Quiet
B Traditional
C Immoral

1068) **Choose the correct sentence. .**

A She can't stand working by herself.
B She can't stand working herself.
C She can't stand working for herself..

1069) **Fill in the blank. "____ first we didn't like each other very much, but then we_____ friends".**

A At / became
B From /becomes
C On / become

1070) **Complete the following sentence. "I must wear my glasses, _____ I can't see_____ without them".**

A because / anything
B however / something
C despite / nothing

1071) **Find the opposite of "blunt".**

A temperated
B hard
C sharp

1072) **Fill in the blank. There is somebody ... the door. Shall I go and ____ who it is?**

A on / seeing
B in /saw
C at /see

1073) **Fill in the blank. "I wonder if his son ____ lives in Rome".**

A still
B yet
C not yet

1074) **Read the passage and answer the question.Many people argue that the many government programs intended to increase road safety have caused a steady decline in the number of accidents on our roads. However, some observers report that the real number of accidents may be much higher than is shown in the official records thatmany accidents are not reported by drivers. They also say that during the time when accident figures have decreased, the number of people going to hospitals because of road accidents has stayed constant. Which one of the following can be drawn as a conclusion from the above passage?**

A Road safety has improved greatly in recent years. B Drivers should be required to report all accidents that occur on the road.
B Government programmes have been unsuccessful in reducing the number of accidents.
C Positive views about continually improving road safety may not be supported by what actually happens.

1075) Complete the following sentence: "The fact that US Hollywood stars sometimes take an interest in politics is not new, and some famous names have even _____ for political office".

A been voted
B run
C nominated

1076) Everybody had a good day out _____ the cold weather.

A although
B however
C despite

1077) Which number is written correctly?

A Two thousand two hundred and sixty two.
B Two thousands and two hundreds and six two.
C Two thousand two hundred sixteen two.

1078) To move at a snail's pace means:

A affrettarsi
B perdere l'orientamento
C muoversi lentamente

1079) Complete the sentence. "Had you seen what a wonderful speech he _____, you would have died of envy!"

A gave
B did
C pronounced

1080) Complete the sentence. "You'll only avoid punishment if you ..... the truth".

A tell
B say
C will say

1081) Complete the following sentence. "This new timetable is horrid. _____ work so early".

A I'm not used to start
B I don't' use to start
C I'm not used to starting

1082) Fill in the blank. "The congress passed a vote of ... against the president".

A censure.
B census.
C sensor.

1083) Fill in the blank. "She is _____ proud of her son".

A very
B much
C many

1084) Complete the following sentence. "When I came through the customs at the airport, I had to pay duty __ an electric knife I had __ my luggage."

A on, in
B for, on
C about, in

1085) Fill in the blank. "There are twenty ____ so people waiting for you outside".

A about
B or
C odd

1086) Complete the following sentence. "Why did the burden _____ bringing ___ her two brothers fall on her shoulders?"

A of /up
B on /in
C to /down

1087) Complete the following sentence: "_____ take the umbrella if it rains?

A Should
B Should I
C Should me

1088) There doesn't seem to be_____ worth watching on TV this evening.

A any programs
B anything
C something

1089) Complete the sentence. " _____ the plan will have to be followed to the letter".

A That this works
B For this to work
C If this will work

1090) Fill in blanks. "There was a famous scientist that thought only about his work. One day he felt hungry, he went into the kitchen, boiled some water and took an egg from the cupboard. He wanted to boil the egg for three minutes. As he was thinking about his work, he put his swatch into the _____ water. Then he stood with the egg in his hand, looking at it. The servant came into the kitchen. The scientist was very surprised when she told him what he _____".

A boil / had had done
B boiled / do
C boiling / was doing

1091) Fill in the blank. "My friend has got _____ twins, who are a handful".

A four-year-old
B four-year's old
C four year-olds

1092) Complete the sentence. "_____ because no-one else I know managed to get tickets to the concert".

A You had to be lucky
B You must have been lucky
C You ought to have good luck

1093) Complete the sentence: "You _____ if you don't want to".

A needn't have stayed
B needn't staying
C needn't stay

1094) Complete the sentence. "Paintings by the artist Picasso, like the recently auctioned The Seeds of Hope, usually sell for _____ dollars".

A many million
B a million of
C millions of

1095) Complete the sentence. "He. ....know better than to buy things he can't afford".

A might
B would
C ought to

1096) Complete the sentence. "_____ in the gym but it's really old".

A There's tons of equipment
B There are many equipments
C There's so many equipments

1097) Complete the following sentence. " Food allergies, or simply intolerance of certain foods, mean that a lot of people nowadays have to _____ what they eat or drink".

A watch out
B take care of
C be very careful about

1098) Complete the sentence. "When_____ your grandmother?"

A have you last visited
B did you last visit
C did you visit last

1099) Proposals for a high speed train line have ..... considerable opposition.

A aroused
B roused
C arisen

1100) The woman next door told me that when she retired she _____ her house and go to live in Italy

A would probably sell
B would have sold
C might have sold

1101) We _____ to go out for a walk as it hasn't stopped raining all day.

A can't be able
B couldn't have
C haven't been able

1102) Choose the correct form. "I haven't seen my brother _____that I've almost forgotten what he looks like."

A from such a long time
B for so long time
C for so long

1103) _____ you to change your mind about joining us for dinner tonight, we'll be at the Chinese restaurant in Oxford Street from nine o'clock onwards.

A Might
B Should
C Were

1104) Choose the correct form. "James _____ we'd be here so early, so it can't be him waiting for us there in the arrivals hall".

A couldn't have known
B mustn't know
C may not have know

1105) Read the passage an answer the question.It was only in the Eighteenth century that people in Europe began to think that mountains are beautiful. Before that time they were feared by the inhabitants of the plain, and especially by the townsmen, to whom they were wild, dangerous. In the mountains one was lost or killed by terrible animals.Slowly, however, many of the people who were living comfortably in this town civilisation began to grow tired of it. In the Eighteenth century people began to turn away from the man-made town to the untouched country, to places where it was dangerous, rough to go. Wild rocks and high mountains began to take their place in the hearts of people.The mountain-climbing began to grow popular as a sport. When you are at the top of a giant mountain, after a long and difficult climb, what a satisfactory reward it is to be able to look down over everything within sight! When did people start to appreciate mountains?

A In the Eighteenth century.
B When mountain-climbing began to grow popular as a sport.
C People don't like mountains.

1106) Who's _____ of Customer Services in your company?

A the responsible
B in charge
C the leader

1107) Choose the best words to complete this sentence: "The question _____ this year by the committee".

A is in exam
B has examined
C is being examined

1108) Choose the best words to complete this sentence: "If you had been there, we_____ a good time".

A could have
B would have had
C will had

1109) Complete this following sentence: "Several people ___ his suggestion and some emails were exchanged about this".

A replied
B responded to
C told

1110) Complete this following sentence " The managing director said that all personal telephone calls ____".

A must have paid for.
B had to be paid for.
C might have to pay.

1111) Choose the best words to complete this question. _____ to do the training program face-toface or online?

A Cost less
B Is it cheaper
C Is cheap

1112) Choose the best word to complete this question: "____ do you ___ your job?"

A What / liking
B Who / likes
C Why / like

1113) Fill in the blanks with the right words. "Because she is ..., we can't ... what course she will follow at any moment".

A capricious; predict
B deleterious; foretell
C guilty; guess

1114) Complete the following sentence: "Have you ever _____ in the Atlantic Ocean?"

A swum
B swim
C be swimming

1115) Fill in the blank. "Yesterday I_____ to the town centre to buy a present for my girlfriend".

A had gone
B went
C have been going

1116) Choose the correct sentence.

A Is she always so kind?
B Is always so kind she?
C Is always she so kind?

1117) Fill in the blank. "Who are _____ people over there?"

A that
B those
C these

1118) Complete correctly the sentence. "When I finish the course, I _____ work in a software house".

A would likes
B could
C like

1119) Choose the best way to complete the following: Please ____ need any further information. I will be very pleased to provide it.

A let me know you if
B if you let me know
C let me know if you

1120) Fill in the blank. "Philip has just ____the office. In other words he's ___"

A left / out.
B lefts /off
C leave /down.

1121) **Complete correctly the sentence. "Before leaving, check that you ..... everything with you".**

A has taking
B have taken
C was take

1122) **Fill in the blank. "The problem of plastic _____ on land and in the oceans has only grown as the use of single-use plastics has burgeoned worldwide. In addition, greenhouse gas emissions, such as methane and carbon dioxide, continue to drive global warming and pose a great threat to biodiversity and public _____"**

A pollution / health.
B environment / relations.
C use / security

1123) **Complete the following sentence: "_____ agreed that he was the best boss they'd ever had".**

A All staff
B Everyone of the staff
C All of the staff

1124) **Choose the word or group of words which best completes the following sentence. "I have to buy ...".**

A a bread loaf
B a loaf of bread
C bread

1125) **Choose the alternative which best completes the following sentence. "Diabetes, ..., is sometimes caused by an antibody that destroys the pancreas cells producing this hormone".**

A a seriously disease in which the body cannot make enough insulin.
B a serious disease in which the body cannot enough produce insulin.
C a serious disease in which the body cannot produce enough insulin.

1126) **I'm really quite lost. _____ you _____ showing me how to get out of here?**

A Would / mind.
B Would / be.
C Might / minding.

1127) **Il wasn't a very big wedding but I can' remember exactly how many ____**

A people there were
B people they were
C people were they

1128) **Next month my aunt and uncle _____ married for 60 years and they're going to have a big**

A will have
B will have been
C are going to be

1129) **This looks like a nice pub. Mike has offered to _____ the first round as he has to leave early.**

A make
B pay
C buy

1130) **It's getting late - perhaps_____ home.**

A it's time to go
B we have to go
C we should be going

1131) **I'll tell her about the change of venue when I _____ her tomorrow morning**

A see
B will be seeing
C will see

1132) **Complete the following sentence. "Do they have ... suggestions of what they would like to do?"**

A much
B some
C any

1133) Because of the continuing dispute with our neighbour over a boundary fence, we,ve decided to seek _____

A legal advices.
B a legal advice.
C legal advice.

1134) _____ this morning 's exam would be a piece of cake

A Had you studied more
B If you were to study more
C Were you do study more

1135) Complete the sentence. "With all its delights, the phone is now being added as a distraction to divert people from time that _____ given to the pleasure of reading".

A might be
B can to
C might

1136) Complete the sentence. "If you ... ... less noise coming in last night you wouldn't have woken the baby".

A were making
B made
C had made

1137) Choose the correct sentence.

A Much students ran towards to school.
B Many students were running towards the school.
C Many students was running towards the school.

1138) Complete the following sentence: "Despite _____ numerous in the 19h century, the number of tigers in Asia has fallen to 2,500".

A they be
B being
C they were

1139) Complete the following sentence. "Among other things, online deliveries are _____ for the increasing congestion on Britain's roads".

A being blamed
B given responsibility
C the responsible

1140) Find the opposite of "abundance".

A lack
B poverty
C absence

1141) Sara had to stay home on Monday because her _____ boiler repaired.

A has being
B could be
C was being

1142) Choose the best form. "_____ You almost got yourself killed!"

A Attention to the car.
B Beware to the car.
C Mind the car.

1143) Choose the correct form. "_____ to see if I have enough money".

A | have to control
B I have to check
C I have o watch

1144) Read the passage and answer the question.Over the last ten years there has been a huge increase in the number of television programmes involving the work of forensic scientists. This media attention has been matched by a massive increase in the number of courses and qualifications available in this field. Although this new attention has led to greater public awareness, it has not led to the creation of more jobs in this field. The work of forensics professionals has continued unchanged. Therefore, those who choose to study these courses will find that there is fierce competition for difficult and unpleasant work.Which one of the following, if true, would most weaken the above argument?

A New technologies have brought about a decrease in the number of forensics staff required in laboratories.
B Many students of forensic science go on to pursue careers in other areas.
C The number of university courses in forensic science has grown at an unprecedented rate.

1145) Luckily I _____ to the station before the train left.

A have got
B could have got
C was able to get

1146) Choose the correct form to complete the question. "If I _____ too sensitive, would be offended?"

A said you are
B said you were
C would said you were

1147) I think we'll be hearing wedding bells soon _____ these days.

A They're seeing a lot of each other
B The/re dating the other a lot
C They're seeing themselves a lot

1148) Fill in the blank. "The meaning of English phrasal verbs is often one of the most difficult things for non-native speakers to ____".

A grab
B grib
C grasp

1149) The little girl was very upset when her favourite pet hamster_____

A died
B is died
C has died

1150) Fill in the blank. "_____ you don't like it you'll just have to accept it".

A Despite
B Anyway
C However

1151) Choose the correct form to complete the sentence. "Tom really works _____ He even spends most weekends in the office!"

A hardly
B hard
C great

1152) Incentives always ... ...dissatisfaction among those excluded.

A induce
B give rise to
C bring to

1153) _____you don't like it you'll just have to accept it.

A However
B Anyway
C Although

1154) _____ 2020 the Chinese economy has been expanding steadily.

A From
B Before
C Since

1155) Fill in the blank. "_____ time do I have?".

A What any
B How many
C How much

1156) Complete the following sentence. "Who _____ the window?"

A opened
B did opened
C will opened

1157) Fill in the blank. "My mother was worried about us _____ we weren't back on time".

A since
B for
C from

1158) Fill in the blank. "Go ____ I don't want to see you anymore".

A on
B away
C off

1159) Complete the following sentence. "Government efforts are being made to entice _____ companies to relocate south".

A lots of more
B most of
C a lot more

1160) Fill in the blank. . "Which necklace do you prefer _____ the one with the pearls and the one with the corals?"

A among
B in
C between

1161) Insert the correct preposition. "There is someone nocking ___ the door".

A for
B in
C at

1162) Find the opposite of "broad".

A large
B abroad
C narrow

1163) Complete the following sentence: "You should _____ in case there's a problem with the equipment".

A be storing recipe
B conserve the recipe
C keep the receipt

1164) Choose the best form. "It has been a busy day, you are tired, ____"

A are you?
B aren't you?
C did you?

1165) Choose the best form. "Last week the government _____ voters that new immigration restrictions were a must".

A informed
B told to
C has said to

1166) Read the passage and answer the question.Car drivers understandably become very annoyed at high sales taxes on fuel. In the interests of fairness, money raised from fuel taxes should be spent on maintaining roads or even on subsidising public transport. In fact much of it is put to other uses, such as providing healthcare or improving national defence. Which one of the following is an application of the principle underlying the above argument?

A Maintaining roads should be a higher priority than spending on healthcare.
B Profits from sporting events should be spent on encouraging people to participate in sport.
C Better transport is more important than national defence.

1167) Fill in the blank. "The definitive closure of the airline is considered to be_____"

A immediate
B nearby
C imminent

1168) Choose the best form. "The days of the good old fax are ..... . Now it's all done by email".

A disappeared
B long gone
C not returnable

1169) Fill in the blank. "I haven't had time to speak to Mr. Reeve...."

A Yesterday.
B At lunchtime.
C Today

1170) Choose the best answer to the question: "When do you play tennis?"

A On Saturday afternoons.
B in Saturday the afternoon
C On the afternoons of Saturday

1171) Complete the following sentence. "I've been trying ____ with him all week, but he's never in the office and his mobile always seems to be busy.

A to answer
B to get in touch
C contacting

1172) Choose the correct form. "Hamlet is one of the best plays Shakespeare _____" .

A written never
B never wrote
C ever wrote

1173) Complete the following sentence. "Don't panic! I'll tell you exactly what to do when ... here!"

A you get
B you got
C you'll get

1174) Choose the correct form. "Each of the items on the _____ for our meeting today will be discussed thoroughly".

A agenda
B calendar
C order

1175) Complete the following sentence: "Mary said she _____ in Australia".

A was being.
B had been.
C has being.

1176) Indicare la traduzione esatta: "Il video dura un quarto d'ora":

A The video go on for a quarter of an hour
B The video lasts a quarter of an hour.
C The video is during a quarter of a hour

1177) Complete the following sentence: "It was a windy and rainy night. ___, I decided to go out".

A Otherwise.
B Nevertheless.
C Even if.

1178) Complete the following sentence: "That house isn't big enough for us, and ___, it's too expensive".

A hence
B although
C furthermore

1179) Complete the following sentence: "She's a very selfish person who doesn't show any consideration __others".

A on
B for
C in

1180) **Fill in the blank. "When I said: «the time is over», the young girl glanced quickly ... her watch".**

A in
B for.
C at

1181) **Complete the following sentence: "There's a fine ... 25 cents a day ... overdue library books".**

A of / on
B for / in
C of / at

1182) **Fill in the blank. "You are ___ friend I've ever had".**

A best
B better
C the best

1183) **Complete the following sentence: "The congress passed a vote of ... against the president".**

A censure
B sensor
C census

1184) **Choose the best phrase to complete this sentence: "Working in the office ____ dealing with the public".**

A is as tired than
B is more tired than
C isn't as tiring as

1185) **Fill in the blank. "Mary is completely absorbed ... the book she is reading".**

A in
B with
C by

1186) **Choose the best word or phrase to complete this sentence: I like ____ news on the radio in the morning".**

A to listen
B listening
C listening to the

1187) **Complete the following sentence: "I usually enjoy _____ to training courses".**

A go.
B to go.
C going.

1188) **Complete the following sentence: "All boarding passes .... to the flight attendant before boarding".**

A Must be given.
B Must have given.
C Must give.

1189) **Complete the following sentence: "The horse's ... needs to be brushed daily".**

A mine
B hof
C mane

1190) **Choose the correct form. "When did you last _____ mr Reeves?"**

A meeting
B meet
C met

1191) **Complete the following sentence: "We expected about 20 guests but there were _____ people".**

A more
B some
C another

1192) Choose the correct verb to complete the indirect sentences. Mary: «I love chocolate.». «Mary said she ... chocolate.»

A have loved.
B love.
C loves

1193) Complete the following sentence: "I see no point _____ any longer":

A waiting
B in waiting
C that I wait

1194) t was a windy and rainy night. ..., I decided to go out.

A Otherwise.
B Nevertheless.
C Even if.

1195) Read the passage and answer the question. Sports are played either as a means of getting exercise or as a competition with an opponent.Some sports, such as football, involve a large amount of running and some people are moremotivated to run when it is part of a game. Other sports, such as pool, do not involve much physical activity and so it is unlikely that they would be played for the exercise.Which one of the following conclusions is best supported by the passage above?

A There is no point in running as a hobby, since football is more fun.
B Football is a better sporting activity than pool.
C People who play pool are more likely to be interested in the competition than those who play football.

1196) Complete the following sentence: "I'm afraid. I _____ your invitation".

A can't accept.
B shouldn't to accept.
C wouldn't accept.

1197) You'd better take a taxi. ..., you'll arrive late.

A Otherwise.
B However.
C Furthermore.

1198) Complete the following sentence: "All the poems you selected are good, but only the ... one will get the prize".

A best
B good
C better

1199) Fill in the blank. "Jack wasn't tired,_____ he took a nap".

A Nevertheless.
B Otherwise
C Hence

1200) Complete the following sentence: "I can't open the door because I've lost _____ keys".

A their
B my
C its

1201) Choose the correct sentence.

A My son goes to Greece every summer
B My son go to Greece every summer
C My son had went to Greece every summer

1202) The kids didn't study. _____, they failed the course.

A Nonetheless.
B Otherwise.
C Therefore.

1203) Complete the following sentence: "We live in the same building; ..., we hardly see each other".

A therefore.
B furthermore.
C however

1204) Complete the following sentence: "We have plenty of money and workers; ..., we hope to finish the house remodelling soon".

A whereas.
B anless.
C thus.

1205) Complete the following sentence: "Riding a horse is not ... riding a bike".

A as easy as
B more easy than
C so easy then

1206) Complete the following sentence: "This exercise is ... than the previous one".

A harder
B the most hardest.
C the harder.

1207) Complete the following sentence: "These computers are _____ those".

A the newer of
B so newer than
C newer than

1208) Fill in the blank. "The school will be closed until ... notice".

A farthest
B further
C last

1209) Fill in the blank. "The ____famous date in English history is 1066 AD".

A very
B too
C most

1210) Fill in the blank. "I enjoy reading this new magazine. ..., it has good -articles".

A Moreover.
B In spite of.
C Nevertheless.

1211) Fill in the blank. "__ the beginning ___ his career he had very little success".

A At, of
B On, at.
C In, of.

1212) Fill in the blank. "I _____ swim when I was four years old".

A be able
B can
C could

1213) Fill in the blank. "I know _____ words in German".

A any
B a few
C many

1214) Fill in the blank. "The _____of the allied troops in Normandy took place on june 6, 1944".

A landing
B land
C lander

1215) Read the passage and answer the question.Widespread underage drinking in certain countries prompted their governments to place restrictions on selling alcohol to young people. The aim was to protect young people's health, but the result was not as intended. Soon after the restrictions were in place, hospitals saw several cases of young people becoming ill as a result of drinking alcohol-based liquids such as medical spirits, ethanol solutions and perfumes. The young people claimed that the restriction on legal alcohol was the main reason they were drinking other substances. If the restrictions were abolished, the health risk would be reduced.Which one of the following is the best statement of the flaw in the above argument?

A It ignores the fact that if there had been no restrictions more young people would have suffered from drinking alcohol
B It does not take into account the social and cultural importance of drinking alcohol.
C It assumes that restrictions encourage young people to drink alcohol.

1216) Choose the best phrase to complete the following: "Hello, reception? ____ an external line please?"

A I would
B Can you give
C Can I have

1217) Choose the best words to complete the sentence. "I reached him _____ e-mail the _____ day".

A by / next
B for/ near
C in/tomorrow

1218) Fill in the blank. "I speak Russian very _____".

A bad
B badly
C worse

1219) Fill in the blank. "I _____ this is their house but I'm _____ sure".

A think / not
B thunk/ no
C am thinking/ no

1220) Complete the following sentence. "It ... yesterday".

A hadn't rained
B didn't rain
C wasn't raining

1221) Complete the following sentence. "I _____ never _____ in a marathon".

A am / ran
B having /run
C have / run

1222) Complete the following sentence. "I _____ playing theatre _____ three years".

A was been / in
B had / during
C have been / for

1223) Complete the following sentence: "I _____ call my wife now".

A must
B has to
C ought

1224) Complete the following question: "Would you say this place is worth _____?"

A seeing
B saw
C being seen

1225) Complete the following sentence: "I _____ it if it _____ good".

A wouldn't have eaten / hadn't been
B would eat /is
C don 't want eat /hasn't

1226) Complete the following sentence: "I _____ too much so I decided I _____".

A smoked / will stop
B having smoke / must stop
C was smoking / would stop

1227) Complete the following sentence: "I know Mr. Jones, but I don't know _____ wife".

A her
B his
C own

1228) Complete the following sentence: "I have not _____ your letter _____".

A read / yet
B reads / already
C reading / yet

1229) Complete the following sentence. "He _____ the party, unfortunately!".

A don't like
B is not enjoying
C is playing not

1230) Complete the following sentence: "I am very happy ____ won the first prize. However, I ____ give some money for charity!"

A to have / will
B have / will do
C to have /will have

1231) Complete the following sentence: "I lost the last flight, so there _____ nothing _____ done".

A is / will
B were / be
C was / to be

1232) Complete the following sentence: "I ____ playing cards but I just _____ want to do it now".

A love / do not
B loves / do not
C is loving / not

1233) Choose the correct form. "_____ twins were missing".

A Both
B Either
C Neither

1234) Choose the correct form. Visitors are handed out leaflets upon_____.

A leaving
B left
C leavings

1235) Complete the following sentence: "This ticket entitles you ... a free meal ... our new restaurant".

A to/ in.
B in/ to.
C to/ for.

1236) Complete the following question: "Please Tom, could you .... me some money until tomorrow?"

A borrow
B gift
C lend

1237) Which is the meaning of: " It's pouring with rain"?

A Piove a dirotto
B Sta iniziando a piovere
C Sta finendo di piovere

1238) Fill in the blank. "My brother.....spent all his money".

A yet
B still
C already

1239) Complete the following sentence: "We are lighter on the moon because the gravity is ____" .

A weaker
B very strong
C stronger

1240) Fill in the blank. "The scenery was ... beautiful, I had to take a photograph".

A such
B suddenly
C so

1241) Choose the correct answer: "How did you learn to drive"?

A My father teach me
B My father teach to me
C My father taught me.

1242) Fill in the blank. "Have you ever read ... book _____ cooking?".

A any /about
B not / in
C some / from

1243) Fill in the blank. "I hate books: I have got ...".

A none
B no one
C no

1244) Complete the following sentence: "The burglars got into the house ... . the window".

A by breaking
B is breaking
C to breaking

1245) Complete the following question: "What were you doing when we arrived?"

A you was talking to my mother.
B I were talking to my mother.
C I was talking to my mother.

1246) Fill in the blank. "... are you leaving for the summer holidays?".

A When
B Since
C If

1247) The adjective "good" becomes ..... as an adverb

A better
B quietly
C well

1248) Choose the best answer. "What were you doing at school so late"?

A I am preparing my lessons..
B I was arranging my lessons.
C I prepare my lessons.

1249) Complete the following sentence: "The uncontrollable spread of unverified information on the internet has _____ to the worrying problem of fake news".

A brought
B resulted
C led

1250) Complete the following sentence. "He ____ see it".

A wants
B couldn't
C hasn't

1251) Fill in the blank. "The appearance of the teeth varies from one child to another, as when they are born, their teeth are already under the gums, but they _____ in different forms and times. In some children they may appear at the beginning. They are the four upper teeth. In some other children, the lower teeth may appear first. The first tooth begins to appear when the child _____ the first year of his life. At the third year it is assumed that about twenty teeth have appeared in his mouth, which is the general condition common among children".

A appeared / reach
B appears / accomplish
C appear / reaches

1252) Fill in the blank. "To be late is always_____ to be on time".

A worst than
B worser than
C worse than

1253) Fill in the blank. "The weather was terrible. ___, we decided to delay our trip".

A And.
B Therefore.
C Besides.

1254) Fill in the blank. "____ do you make a cake? I have been wondering".

A Which
B Who
C How

1255) Complete the following sentence: "The weather is lovely, ...?"

A hasn't it?
B don't you?
C isn't it?

1256) Fill in the blank. "Here's the boy ... helped me".

A who
B which
C whom

1257) Complete the sentence. "Find the opposite of the verb "to add"

A to refuse
B to deny
C to subtract

1258) Complete the following sentence: "I have ____ wanted to live ____".

A always / in Rome
B forever/ to Rome
C ever / at Rome

1259) Complete the following sentence: "I don't want to _____ early tomorrow. I need to sleep".

A wake out
B wake up
C waking down

1260) Complete the following sentence: "I forgot my raincoat ____ I got wet".

A than
B so
C although

1261) Complete the following sentence: "I didn't have any breakfast _____ I didn't ____ time".

A for / had
B because /have
C when / having

1262) Complete the following sentence: "Yesterday ..... to go out of my office for some minutes" .

A I have to
B I was to
C I had to

1263) Complete the following sentence: "You must buy the tickets; ..., we won't be able to see that play".

A Besides.
B Consequently.
C Otherwise.

1264) His cost estimate of the new kitchen was_____

A wildly exaggerated
B over the moon
C out of range

1265) Fill in the blank. "I always get up early _____the morning".

A in
B at
C but

1266) Complete the following sentence: "It is extraordinary that she_____ to hold her breath for so long".

A can be
B can
C is able

1267) Complete the following sentence: "Last May 17th was an ___ holiday. The 150th anniversary of any event only happens once!"

A unexpected
B unprecedented
C unprecedented

1268) Complete the following sentence: "If I _____ to university, I _____ the possibility to work in this field".

A hadn't gone / wouldn't have had.
B had gone / wouldn't have.
C hadn't gone / had had.

1269) Complete the following sentence. "Sound comes in waves, and the higher the frequency, ...".

A C.
B pitch is the higher
C the higher the pitch

1270) Read the passage and answer the question. Many banks encourage their customers to buy insurance against credit card fraud and other kinds of 'identity theft'. But the banks are really protecting themselves. Customers who are victims of credit card fraud suffer inconvenience but they are unlikely to lose money: the costs of any fraudulent transactions are met by the bank. It is therefore unnecessary for customers to spend money on additional insurance services.Which one of the following is an underlying assumption of the above argument?

A Additional insurance services are widely available for credit card customers.
B People who are worried about identity theft worry only about their credit cards.
C Credit card fraud is a less serious problem than many people believe.

1271) Fill in the blank. "Blackboards are _____. the school need to change them all for interactive whiteboards".

A out of fashion
B backdated
C up to date

1272) Fill in the blanks. "FAO's vision is of a 'world free from _____ and malnutrition, where agriculture contributes to improving the living standards of all, especially the poorest, in an economically, socially and environmentally _____ manner".

A hunger / sustainable
B war / unsustainable
C violence / political

1273) Complete the following sentence: "If you pay by direct debit, you ____ a discount".

A get
B will get
C got

1274) Complete the following sentence: "Never _____ such a beautiful garden like Inverness, in Scotland!"

A have I seen
B I have seen
C do I see

1275) Complete the following sentence: "Just _____ students were good, but none of them were excellent".

A any
B some many
C many

1276) Complete the following sentence: "There is no _____ for paying women less than men if they do the same job".

A time
B reason
C point

1277) Complete the following sentence: "I'm sorry. It's all my _____" .

A charge
B fault
C guilt

1278) Choose the best word to complete this sentence: "You can invest your money in stocks and ____".

A hedges
B divides
C shares

1279) Complete the following sentence: "If I ___ you, I'd tell him what happened".

A was
B was be
C were

1280) Complete the following sentence: "The weatherman had _____ us it would be sunny, but it rained all day".

A tell
B said
C told

1281) Complete the following sentence: "Neither you ___ Tom should use that knife!"

A nor
B heather
C either

1282) Considering that Shakespeare is one of the world's best known playwrights _____ about his private life.

A one knows not much
B no-one is much informed
C not much is known

1283) Read the passage and fill in the blanks. The sun shone down from a clear sky, growing steadily hotter as he rose above the low hills. All the grass and other green plants had been burned brown some months before, so that the plain and hills were a uniform, infinitely sad, or infinitely restful colour - sad to those who had grown up surrounded by the meadows and woods of a green countryside, and could see no beauty in this bare land. I am one of those who love the desert. It brings peace to my mind. In the desert the sun is master, all else retires before its merciless rays. Only where there is ____ does the earth of the desert give a rich home to trees and flowers: a paradise. Strengthened in spirit, with rested nerves and a _____ mind , the visitor can return to the battle for existence in the towns.

A oil / agitated
B shadow / brilliant
C water / peaceful

1284) Fill in the blank. "If ..... tired, you can have a break".

A you are
B you were
C you will be

1285) Complete the following sentence: "It has been a busy day, you are tired, ____"

A are you?
B aren't you?
C did you?

1286) Fill in the blank. "Everyone is interested ..... protecting the environment".

A in
B on
C of

1287) Complete the following sentence: "After two years _____ the sequel to the RAI's Brilliant Friend will now be screened in the autumn".

A in the making
B in the doing
C having been filmed

1288) Fill in the blank. "... was she talking?".

A To whom
B To who
C Whom

1289) Complete this sentence: "Don't buy that jacket - it's ____ for you".

A too big size
B bigger
C too big

1290) Choose the correct answer for this question: "Did you get the job?"

A Yes, I get it
B Yes, I did
C Yes, I have got

1291) Fill in the blank. "The policeman asked me_____ there".

A no parking
B not to park
C to not park

1292) Choose the correct alternative.

A I would a chocolate box please.
B I'd like a box of chocolates please.
C Please I would like a chocolates box.

1293) Choose the words which best complete the following sentence. "In some countries, women still cover their heads ...".

A as they did in the past.
B like they did in the past.
C they did in the past.

1294) Choose the word which best completes the following sentence. "The sky was grey and it _____ heavily".

A rained
B ran
C raining

1295) She slept very well last night'. 'Slept' is the past simple of the verb:

A to sleep
B to seek
C to see

1296) Fill in the blank. "I saw him standing _____ your door".

A to
B at
C through

1297) Fill in the blank. "_____ time do we have?".

A How many
B What
C How much

1298) Complete the following sentence. "Sara _____ called Arthur".

A is talking with a friend of her on an old man
B talks to a friend to an old man
C is talking to a friend of hers about an old man

1299) Complete the following sentence. "He sees his reflection ___the mirror".

A against
B in
C at

1300) Few linguists would argue against the view that our first language is acquired and not learned. Pre-school children do not study their native tongue nor do they learn grammar rules but, by the time they start school at the age of five or six, the vast majority are competent users of their language. Therefore, when learning a second or additional language, studying grammar is a waste of time and all that is required is exposure to the target language in order to acquire competency in its use. Which one of the following identifies the underlying assumption of the above argument?

A Children are better at acquiring languages than adults.
B Acquiring a second or additional language is the same process as acquiring a first language.
C Only people who know how to read can learn a second or additional language.

1301) Complete the following sentence: "Many women _____American art since the 18h century".

A made mark on
B have made a mark on
C had a mark on

1302) Complete the following sentence. "_____ had he turned his back than the students started chatting"

A No sooner
B Not a moment
C Not hardly

1303) Complete the following sentence. "This function allows for a wide range of data to _____ very quickly".

A recuperate
B be caught
C be retrieved

1304) Complete the following sentence. "To do this properly they need to _____"

A make a course
B be trained
C be formed

1305) Unless there's some kind of remuneration, our operatives tend ..... focus.

A to loose
B to lack
C to miss

1306) Complete the following sentence. "It's not enough_____ you also have to actively participate".

A frequenting
B assisting
C to attend

1307) Complete the following sentence. "The two brothers_____ in their work ethics".

A are not unlike
B much similar
C are quite alike

1308) Complete the following sentence. "To afford that would take a _____ of your income".

A good bit
B good sum
C fine touch

1309) Complete the following sentence. "I propose the office _____ to London".

A will move
B moves itself
C be moved

1310) Read the passage and fill in the blank.The fallout from the global slowdown in the airline industry is still casting a shadow over airline suppliers, despite the resurgence of budget airlines. L Gardner, the engineering company, said yesterday that it had got rid of its final dividend and would cut 250 staff in the face of uncertain short-term prospects after the events of September 11. The supplier to Boeing and Rolls-Royce said that it would cut about 10 per cent of its workforce in a cost-cutting drive, announced last month, to pre-empt lower business levels. The group, which generates two-thirds of its income from making aircraft components, also said it felt that it was inappropriate to pay a dividend. Brett Welch, the finance director, said the cost-cutting exercise would help the company when the airline industry returned to normality. Separately, Ryanair, the no-frills Republic of Ireland airline, is expected to confirm Frankfurt as its second European hub today. The move, eagerly anticipated by observers in the airlines sector, would enable the budget airline to step up its efforts to take cost-conscious business passengers from the flag carriers. "A cost-cutting drive" refers to an._____

A Attempt to reduce employers.
B Act of faith.
C Attempt to cut costs.

1311) Complete the following sentence: "Because the woman hadn't ____ the bill, the electricity went off".

A paid
B pay
C bought

1312) We ..... to go out for a walk as it hasn't stopped raining all day.

A couldn't have
B couldn't
C haven't been able

1313) Fill in the blank. "... your biggest faults is impatience".

A Any
B Some of
C One of

1314) Choose the right answers to the following question. "May I borrow your car next Thursday? My friend is coming to visit me and I'd like to show her around".

A Why should you?
B Sure. Maybe some other time.
C Sure. Any time.

1315) Choose the correct sentence:

A I'm sorry, but I don't help to you!
B I'm sorry, but I don't help you!
C I sorry, but I not help with you!

1316) Which is the correct way to read January7th,

A Seven January
B Seventh of January
C January the seventh

1317) What does the idiomatic expression "take the wind out of one's sails" mean?

A aiutare qualcuno a ottenere qualcosa.
B rendere qualcuno meno sicuro di sé.
C essere molto fortunato

1318) Fill in the blank. "If you are going to be interviewed for a new job, you ____ as much as possible about what the interview will be like. Who'll _____ you? Does the interview include any tests or exercises?"

A may find / interview
B have to look after / interviewing
C should find out / be interviewing

1319) Complete the following dialogue. "Is that the car you've just bought?" David asked. "Yes, ' said Mary, ____"

A it is
B it does
C it has

1320) Fill in the blank. "There are no ____ today: taxi drivers are ___strike".

A taxis / on
B the taxis / in
C taxi / at

1321) Complete the following sentence: "I went to the library to _____ a book".

A borrow.
B take.
C borrow.

1322) Fill in the blank. "Last week I met Charles ____ way home".

A was met / on the my
B meet / in mine
C met / on my

1323) Fill in the blank. "Old Bill threw a _____ out of the kitchen window and saw the neighbours' cat in his garden".

A glimpse
B view
C glance

1324) Complete the following sentence: "My grandfather is a teacher. He has _____ hundreds of students during his career".

A teach
B is teaching
C taught

1325) We constantly split our attention between the people we are with and what's happening on our mobile phone screens. On-screen multi-tasking makes us less efficient as well as less emotionally engaged with others. It takes 64 seconds to recover our train of thought after interruption by a message and when we've sent an email or SMS text message, the brain goes through a series of semi-conscious calculations as we wonder when and how the recipient will reply. The result is that we're not 'present' for several minutes afterwards. In order to function effectively in the workplace, we need to switch off our communication hardware. Which one of the following is the best statement of the flaw in the above argument?

A People may be unwilling to make less use of their mobile phones.
B In many work environments you may not be allowed to use personal mobile phones.
C Without the means to send and receive information instantly, our effectiveness may be compromised.

1326) The term "snowflake generation" is sometimes used in the media to describe the young people of today because, it is claimed, they have been _____ up to believe they are special and unique.

A born
B grown
C brought

1327) Fill in the blank. "| ..... you kept the news to yourself for the time being".

A would rather
B might rather
C rather had

1328) Fill in the blank. "It was a difficult problem, but he worked ... a solution".

A out
B of
C on top of.

1329) In 1688 the Irish philosopher William Molyneux asked whether a blind person who regained their vision could recognise by sight an object they had previously only known by touch. Two scientists of the Massachusetts Institute of Technology attempted to answer this question in an experiment with five children in India who had just had successful surgery which gave them their sight for the first time. Within 48 hours of the operation the children were asked to feel a toy block without looking at it. They were then shown two blocks, one of which they had touched. They identified the original block just over half of the time and this is only a little better than guesswork. Recognising touched objects by sight alone improved within days. Which one of the following can be drawn as a conclusion of the above passage?

A Identifying an object by sight alone which had been touched but not seen previously is something which adults do better than children.
B Identifying an object by sight alone which had been touched but not seen previously is learned behaviour and not innate.
C Using children in experiments such as the one described above is morally wrong.

1330) Fill in the blank. "I think Mary is _____ a nervous breakdown".

A appointed to
B on the verge of
C in charge of

1331) Complete the following sentence: "Which is the correct way to read 1801?"

A Eighteen one
B Eighteen zero and one
C Eighteen oh one

1332) According to the latest demographic forecasts, the world's population _____ 9 billion by 2050.

A is said to raise
B is expected to reach
C is going to arise

1333) Complete the following sentence: "In no circumstances ... this light switch".

A you must turn on
B you must turn onto
C you must put at

1334) Complete the following sentence: "She's a typical ... teenager who just thinks about what's best for herself!"

A overself.
B selfish
C selfmost.

1335) Complete the following sentence: "By next year we ... to speak Italian fluently".

A will be able
B needn't.
C can

1336) Complete the following sentence: "I meant ... the book, but the shop was shut".

A bought
B to buy
C buy

1337) Fill in the blank. "I don't want to have ..... to do with him".

A nothing
B someone
C anything

1338) Fill in the blank. "She has a ... to think she knows best in every situation".

A move
B tendency
C pretext.

1339) Fill in the blank. "She ____ several attempts to arrange a meeting but she could never pin him down to a definite time".

A gave
B made
C tried

1340) Complete the following question: "Where does this road _____?"

A to arrive
B lead
C to go

1341) Complete the following sentence: "Her failure in the examination was a great ... to her pride".

A strike.
B blow
C attack

1342) Fill in the blank. "He gave a ... of astonishment when he saw her because he had thought she was in India".

A breath
B blow
C gasp

1343) Complete the following sentence: "I've got a stiff neck from sitting in a ... from that window".

A drought
B draught
C breath

1344) Complete the following sentence: "There is going to be a ... of television programmes on the great artists of the Renaissance".

A broadcast.
B serial
C series

1345) Complete the following sentence: "His first ... to the news was one of total disbelief".

A report.
B reaction.
C action.

1346) Complete the following sentence "The police ... a good deal of criticism over their handling of the affair".

A came in for.
B went down through.
C passed through to.

1347) Complete the following sentence: "If my father were here, ..."

A he'd know what to do.
B he'll know which to do.
C he'd know what do.

1348) Choose the correct sentence.

A The mission was well planned, everything went smoothly.
B The mission was well planned, as soon as everything went smoothly.
C The mission was well planned, so everything went smoothly.

1349) Fill in the blank. "... long are you staying in Liverpool?".

A Which
B How
C When

1350) Complete the following sentence: "_____ your e-mail last night.

A I have
B I had
C I will have

1351) Complete the following sentence: "How long have you been in Rome?' _____ since July".

A I've been here
B I was been here
C I will be here

1352) Complete the sentence. "I'm in a spot of bother_____. May I ask you for"

A some assistances.
B some helps.
C some advice.

1353) Fill in the blank. "Can you stop? You have ____ for two hours".

A be singing
B singing
C sing

1354) Fill in the blank. "He should drive _____ than usual".

A more slowly
B most slowly
C less slower

1355) Fill in the blank. "Do they have ... suggestions of what they would like to do?"

A any
B much
C some

1356) Fill in the blank. "... you help me, please?".

A Must
B Want
C Could

1357) Choose the correct sentence.

A My friends and I are like basket.
B My friends and I are liking basket.
C My friends and I like basket.

1358) Complete the following sentence: "I like these fairytales so much! They _____ me of my childhood".

A Remember
B Remind
C Tell

1359) Complete the following sentence: "If she should phone, ... I'm out".

A tell her
B telling her
C told her

1360) Fill in the blank. "See you ... !".

A than
B later
C late

1361) Fill in the blank. "She's much taller _____ me".

A than
B of
C that

1362) Complete the following sentence. "... shoes are _____ expensive".

A That / many
B This / more
C These /much

1363) Fill in the blank. "._____ do you spell the word "elephant"?".

A How
B That
C What

1364) Fill in the blank. "When will you go to the theatre?". "... Saturday".

A About
B At
C On

1365) Our builder wants 30o/o of the total cost to be paid _____ so that he can buy the materials he needs for the job.

A in advance
B in anticipation
C on account

1366) Choose the correct form.

A Take care in oneself
B Take care on oneself
C Take care to oneself

1367) Fill in the blank. "Hurry up! The train is_____".

A going out
B living
C leaving

1368) Complete the following sentence. "We _____a car".

A need rent of
B need to rent
C need rent

1369) Choose the best word to complete the sentence. "A workman's café in Italy was recently _____ with phone calls from gourmet diners after it was awarded a Michelin star - by mistake".

A overcome
B overwhelmed
C overcharged

1370) Fill in the blank. "That pupil speaks French ... than his teacher".

A fluenterly
B more fluently
C most faster

1371) What does idiomatic expression "Not out of the woods" mean?

A sentirsi in imbarazzo in un ambiente nuovo.
B non avere ancora superato una fase problematica.
C avere uno scarso senso della realtà.

1372) Complete the following dialogue. "Do we need _____ from the market?" "Yes, can you get a chocolate bar please?".

A anything
B everything
C someone

1373) Choose the correct sentence.

A I'm saving because I want buying a car.
B I'm saving because I'm going to buy a car.
C I'm saving because I'm going buy a car.

1374) Fill in the blank. "Robots will never _____ men".

A replayed
B replaying
C replace

1375) Complete the following sentence. "He _____ too much beer at the party last night! He's got a terrible headache!"

A drunk
B drank
C drink

1376) Complete the following sentence: "Red wine _____ to benefit circulation".

A has been found was being found.
B has found.
C was being found.

1377) Complete the following sentence: "The examination was _____ difficult _____ I expected".

A least / for
B worst/as
C less / than

1378) Complete the following sentence: "She asked me what ____".

A was the new supervisor like
B the new supervisor was like
C like the new supervisor was

1379) Complete the following sentence: "Before .... , I phoned Jim".

A going out
B I wasn't out
C to go out

1380) **Read the passage and answer the question. Many people believe that foreign travel broadens the mind and that there is some inherent benefit in spending some time in a culture different from your own. Many students are taking 'gap' years where they spend time in another country. Whilst this may offer some benefits in terms of confidence and independence, it is wrong to assume that foreign travel alone can provide this. Global travel can have negative impacts on local cultures and the environment. Home country based 'gap' projects are often seen as unglamourous but the benefit of working with different groups and cultures within our own society can be equally rewarding. Which one of the following is the main conclusion of the above passage?**

A It's impossible to learn anything without motivation.
B Though these conditions seemed persuasive, the results led us to the same conclusion.
C We also noticed that many of those who felt they were most motivated were also learning in favourable conditions or for fun, which meant they may have become motivated since starting their classes.

1381) **Complete the following sentence. I think it's a _____ investment scheme. I certainly wouldn't put any money into it.**

A fly by night
B night flying
C night fly

1382) **Fill in the blank." Can you come on Monday evening?" "Sorry, but ... ... football".**

A I'm playing
B I played
C I have played

1383) **Choose the words which best completes the sentence. "I can't buy a DVD player, _____".**

A I haven't run out of money yet.
B I haven't got money enough.
C I haven't got enough money.

1384) **Choose the right answer: "How long have you known your best friend?**

A I am knew him for six years.
B I has known him for six years.
C I have known him for six years.

1385) **... Japanese food, but I don't think I'd like it.**

A I never tried
B I won't try
C I've never tried

1386) **Complete the following sentence. " _____ to USA on vacation next week".**

A I'm gone
B I 'm go
C I'm going

1387) **What does the phrase "It doesn't matter in the least" mean?**

A Non capisco dove si vuole arrivare
B Non intendo affrontare l'argomento.
C Non ha nessuna importanza

1388) **It's forbidden to smoke in this taxi: can you please ... the cigarette?.**

A buy
B put out
C lit off

1389) **Choose the words which best complete the following sentence. "The ... of this poisonous algae has caused the ... of many kinds of fish".**

A morality; decline
B proliferation; death
C love; exodus

1390) **The parts of the following sentence between square brackets contain one or more mistakes; choose the correct forms. "____is _____ for your happiness".**

A Loves/ important
B Love/ important
C Loving/ no important

1391) **Choose the word or group of words which best completes the following sentence. "They woke up when they ... the noise".**

A saw
B heard
C made

1392) **Fill in the blank. "Many centuries ago, medicine suffered from the dishonest practice of ...".**

A charlatans.
B hypnotics.
C astrologers.

1393) **Find the opposite of "domestic".**

A foreign
B stranger
C abroad

1394) **Fill in the blank. "I've decided to go ... the mountains for my holidays this year".**

A on
B to
C in

1395) **Fill in the blank. "We're going ... France for a holiday".**

A to
B since
C over

1396) **Choose the following dialogue: A: "Shall we have a barbecue tomorrow?" B: "It might rain. ... do something inside instead".**

A I'd rather
B I'd better
C I'd prefer

1397) **Fill in the blank. "... are you leaving ___ the summer holidays?".**

A Since / about
B If / on
C When / for

1398) **Find the opposite of the word "amazing".**

A Unpleasant
B Excellent
C Interesting

1399) **Fill in the blank: "What a beautiful dress! Did you pay ... credit car?"**

A by
B on
C in

1400) **Choose the correct translation. "She can't stand working by herself".**

A Non sopporta di lavorare da sola.
B Non è mai stata in grado di farcela da sola.
C Non è certa di potercela fare da sola.

1401) **Complete the following sentence. "I must wear my glasses, I can't see ..... without them".**

A anything
B nothing
C something

1402) **Fill in the blank. " At first we didn't like each other very much, but then we became friends".**

A didn't like
B do not like
C wasn't like

1403) Complete the following sentence: "I think it's better not to ... on unpleasant things but try to be optimistic".

A think.
B dwell
C recall.

1404) Fill in the blank. There is somebody ... the door. Shall I go and see who it is?

A at
B in
C on

1405) Fill in the blank. "I wonder if his son ..... lives in Rome".

A yet
B still
C not yet

1406) Choose the correct form. "They say that _____ has studied Economics will know a lot about statistic".

A anyone who
B who
C person who

1407) Find the similar meaning of "appealing".

A Grumpy
B Charming
C Sad

1408) "'I have just looked in the fridge and I'm afraid ... ... milk again".

A we're lacking of
B we're out of
C we're missing

1409) Choose the correct form. "Where's the chief? _____ today?".

A Not he is
B Isn't he here
C Aren't he here

1410) Fill in the blank. "You have got a nice house ... London".

A instead
B in front of
C near

1411) Complete the following sentence: "Not until later _____ that I had been complaining to the wrong person".

A | did realize
B | realized
C did I realize

1412) Choose the correct forms. "My mother _____ anymore, _____".

A doesn't work; she's a pensioner
B not work; she's a pension
C is not work; is a pensioner

1413) Fill in the blank. "The doctor wrote a ... for the drug treatment".

A receipt
B prescription
C note

1414) Fill in the blank. "Children learned all of the songs _____ for the school play".

A by heart
B by mind
C memory

1415) Fill in the blank. "He likes to ride ... his bicycle".

A by
B on
C with

1416) The congress passed a vote of ... against the president.

A sensor.
B census.
C censure.

1417) Complete the following sentence. "A bully is _____ systematically victimises another person, perceived as physically or intellectually different from himself".

A someone who
B anybody that
C one that

1418) Complete the following sentence. "When I came through the customs at the airport, I had to pay duty ... an electric knife I had ... my luggage."

A for, on
B on, in
C about, in

1419) Complete the following sentence. "The botanist discovered some new specimens __ flowers __ that island".

A of/ on
B out/ in
C among/ to

1420) Fill in the blank. " Good afternoon Ladies and Gentlemen. It gives me great pleasure to introduce _____"

A us to yourself
B you to us
C ourselves to you

1421) Complete the following sentence. "I have to _____ at the next stop".

A get off
B got out
C go down

1422) Read the passage and answer the question.Undercover police investigators sometimes commit 'crimes' in order to convince the 'real criminals' that they are on the same side as them. Some of these activities have victims,although in the main these are other criminals rival gang members for example. In committingwhat are technically offences the officers are preventing many more serious crimes by helping to convict and imprison dangerous criminals who might otherwise remain at liberty. But that is not really the point. A breach of the law is a breach of the law, whoever commits it and for whatever reason. Preventing a crime does not make it right to commit another crime.Which one of the following is the general principle underlying the above argument?

A An act is criminal only if it is committed for criminal reasons.
B The end does not justify the means.
C There is no such thing as a victimless crime.

1423) Complete the following sentence. "I _____ a garage, I got my car stolen ____ last year".

A buy / two
B am buying / twice
C bought / double

1424) Complete the following sentence. "I ___ tomorrow morning ____ noon".

A will arriving / on
B will arrive / at
C arrived / at

1425) Complete the following sentence. "I _____ any money _____ you go to the bank this morning".

A will have/ unless
B won't have / unless
C have no / if

1426) Complete the following sentence. "I _____ send postcards _____ my friends":

A frequent/at
B frequently / to
C often/for

1427) Complete the following sentence. "I _____ as she prepared the _____".

A watch/ tables
B is watching/ table
C watched / table

1428) Complete the following sentence. "Bob is ... than his brother".

A shiest
B shyer
C the most shy

1429) Complete the following sentence. "I love _____ the beach!"

A go
B going to
C went

1430) I _____ go to the disco _____ the week, only on Saturdays.

A ever/in
B never/ on
C never / during

1431) Complete the following sentence. "You smoked in the staff room. ____, you broke a strict rule".

A Frankly speaking
B In other words
C For a change

1432) Complete the following sentence. "Problems related to immigration are getting ___".

A more and more complex.
B moreover complex.
C evermore complex.

1433) Fill in the blank. "The dog bays ... the cat".

A of
B on
C at

1434) Complete the following sentence. "Motivation makes ___ ".

A peoples work harder
B people harder work
C work harder people

1435) Complete the following sentence. "Why did the burden _____ bringing up her two brothers fall on her shoulders?"

A of
B to
C on

1436) Choose the correct form. "Sometimes ..... a moment for yourself"

A you needed
B you will need
C you need

1437) Complete the following sentence. "You can do with me what you _____"

A wanted
B are wanting
C want

1438) Choose the best word to complete the following: "I'm always exhausted because my job is so demanding. I'm ____ a coffee bar in the centre of town at the moment, so I'm busy every day except Sundays".

A working
B running
C directing

1439) Fill in the blank. "I saw him standing _____ your door".

A through
B to
C at

1440) Fill in the blank. "The first thing necessary to the pleasure of reading is that when people are young they should acquire the _____ of reading".

A use
B action
C habit

1441) Fill in the blank. "Would you like a drink? Yes, _____"

A all right.
B thanks.
C please.

1442) Fill in the blank. "Hello ____, what can I do _____ you?"

A there / for
B me / in
C I / on

1443) Read the passage and answer the question.Although the Earth supports life, it has a mysterious carbon deficit. Compared with other bodies in the solar system the Earth has far less carbon than would be expected for a planet that supports life. Originally it was thought that in the inner region of the dust disc where the Earth formed, temperatures soared high enough for the carbon to boil away. However, observations of developing solar systems have now suggested that the temperature would not have been high enough. It is more likely that fire is to blame. Hot oxygen atoms would have readily combined with carbon, burning to produce carbon dioxide. There would have been fewer of these oxygen atoms further away from the Sun.Wich one of the following, if true, would most strengthen the above argument?

A The abundance of carbon in the asteroid belt surrounding the inner planets increases the further away you get from the Sun.
B There are other solar systems with Earthlike planets that have an abundance of carbon on them.
C At temperatures that are high enough for carbon to boil away, oxygen would also have boiled away

1444) Complete the following sentence: " ..... in USA next Tuesday".

A We have been
B We had gone
C We will be

1445) Complete the following sentence: "I ____ love another cup of coffee, but I have ____ had enough for today!"

A would / already
B am / already .
C will / yet

1446) Fill in the blank. "I have _____ owned _____ boat".

A never / a
B not / the
C no / some

1447) Choose the best way to continue the dialogue:"I'll show you around the city, when you _____ to visit me."

A will come
B are coming
C will be coming

1448) Fill in the blank. "Everyone is interested _____the environment".

A on protecting
B to protect
C in protecting

1449) Fill in the back. "I was born in 1927, the only child of middle-class parents. I was ____ to a public school, I wasted two years doing my national service, I went to Oxford; and there I ____ to discover I was not the person I wanted to be. I had long before made the discovery that I lacked the parents and ancestors I needed.

A in / finish
B sent / began
C stay / begin

1450) **Everyone knows about it but no-one knows the reason ..... it.**

A in
B of
C for

1451) **Complete the following sentence: "I have no objection ._____ I think she will be an asset to the company".**

A her being hired
B to hiring her
C that she is hired.

1452) **Complete the following sentence: "As none of us wanted to cook, he suggested _____ to the italian restaurant for dinner".**

A going
B to go
C to us to go

1453) **Fill in the blank. "He is ... the oldest of the group".**

A for surely
B probably
C most

1454) **Choose the best answer to complete the following sentence: "This is the skirt I _____ from my sister's wardrobe last week."**

A taken
B toke
C took

1455) **Complete the following sentence: " Would you mind _____ here?"**

A that I sat
B that I seat
C my sitting

1456) **Complete the following sentence: "Floods _____ last winter".**

A have hit Britain hard
B hit Britain hard
C hit Britain hardly

1457) **Choose the right question.**

A Won't you?
B Could she?
C She couldn't arrange that, ___

1458) **Fill in the blank. "There is someone _____ at the door".**

A nocking
B beating
C hiting

1459) **Fill in the blank. "Martin was out of breath because he ...".**

A ran
B had been running
C has run

1460) **Complete the following sentence: "Have you ever _____ a famous person?"**

A met
B meeting
C meet

1461) **Complete the following sentence: "My cousin, who lives in Spain , is coming ____ me".**

A to visit
B visit
C visiting

1462) Why does he always come to see me at the _____ possible moment?

A worst
B my bad moment
C your time

1463) Choose the best word to complete the sentence: "It has been a busy day, you are tired, ____"

A are you?
B aren't you?
C did you?

1464) Fill in the blank. "Do we need to go inside the circle?"

A Yes, we do.
B Yes, we don't.
C No, we do

1465) Complete the following sentence with the most appropriate word. "Although there are ... outbursts of gunfire, we can report that the major rebellion has been suppressed".

A heinous
B nocturnal
C isolated

1466) Fill in the blank. "There is _____ charge for admission: it is free".

A none
B anyone
C no

1467) Fill in the blank. "I love this cake: may I have ____ more?".

A no
B none
C some

1468) Fill in the blank. "Have you ... ridden a horse? No, I've ____ done that".

A never ... ever
B Ever ... never
C none ... ever

1469) Fill in the blanks. "He is retired: he works ___ more and hasn't got ____ to do".

A no; anything
B none; anything
C did; any

1470) Fill in the blank. "Jogging, or slow running, is an excellent form of exercise. When you jog your exercise begins as soon ... you step out of the door".

A as
B nor
C than

1471) Choose the group of words which best completes the following sentence. "._____ to get to bus stop?". "About five minutes".

A How long does it take
B What long does it take
C How much is long

1472) Fill in the blank. "Have you ever read ___ book ____ cooking?".

A any / about
B some / about
C some / of

1473) Complete the following sentence: "I _____ at home _____ 8 a.m. and 2 p.m".

A wasn't / between
B weren't/ among
C had being/ from

1474) Complete the following sentence: "This is not so bad after all, it could have been ____".

A worst
B bad
C worse

1475) Complete the following sentence: "She..... your e-mail last night".

A had
B will have
C is having

1476) Complete the following sentence. "Mark looked everywhere in his room, but _____ find his keys".

A was not
B wasn't able to
C did

1477) Complete the following sentence. "She ..... your e-mail last night".

A had
B will have
C is having

1478) Fill in the blank. "She had a very unhappy childhood but as she grew older she tried _____ to put all herproblems behind her".

A much
B hard
C strongly

1479) Complete the following sentence. "How far is it from your home to school?"

A They are very near, about 300 meters.
B It's very near, about 300 meters.
C No, it aren't near.

1480) Choose the correct sentence.

A we will be stuck until two hours
B we've been stuck two hours yet
C it is two hours since we've been stuck here

1481) Complete the following sentence. "Everyone has the right to a day off _____"

A every while and then
B once in a while
C once any time

1482) Complete the following sentence. "Before _____ altogether, I'd ask you to give it one last try".

A renounce it
B giving up
C surrender

1483) Complete the following sentence. "| wish to _____ everyone what happened last year".

A recall
B remember
C remind

1484) Complete the following sentence: "I don't know why _____ to come if you don't enjoy musicals".

A have you bothered
B you bothered
C are you bothering

1485) Complete the following sentence: "According to research, reaching for an alarm clock will soon be _____ thanks to smartphones".

A out date
B a thing of the past
C no longer

1486) Fill in the blanks. "Temperature ____ and the effects of greenhouse gases are among the most important issues associated with climate change. Studies have shown that the production and quality of fresh fruit and vegetable crops can be directly and indirectly affected by ____ temperatures and exposure to elevated levels of carbon dioxide and ozone. Temperature increase affects photosynthesis directly, causing alterations in sugars, organic acids, and flavonoids contents, firmness and antioxidant activity".

A decrease / low
B C.
C increase /high

1487) Complete the following sentence. "As people get older they ..... to wear glasses for reading".

A use to need
B often have need
C usually need

1488) Choose the correct sentence:

A Yesterday I start to make a bookcase
B Yesterday I made a bookcase.
C Yesterday I started to make a bookcase

1489) Which is the correct way to read date 1999?

A Nineteen ninety-nine.
B A thousand, nine hundred and fifty nine
C A thousand, nine and ninety nine

1490) Complete the following sentence: "To _____ it may concern, I hereby designate Mrs. Jones _____ my attorney".

A whom /as
B who / as
C whoever / such as

1491) Complete the following sentence: "I think I _____ stay at home next summer. My friends have invited me to Rome".

A won't to
B won't
C I am not going to Rome

1492) I don't suppose I could have a glass of water, _____?

A could I
B couldn't I
C I suppose

1493) Complete the following sentence. "Call me at 10 p.m. By that time my parents_____".

A will have left
B will leave
C will have been leaving

1494) Complete the following sentence. "I really _____ any interesting plays lately".

A not saw
B haven't seen
C didn't see

1495) Complete the following sentence "Indoor plants are not always easy to , _____ especially in modern centrally heated flats".

A look over
B care of
C look after

1496) Choose the correct form to complete the sentence. "My English teacher _____ for London next week"

A will leave
B is leaving
C leaves

1497) Complete the following sentence: "If I had gone to Osaka, I'd _____ the earthquake".

A have felt
B feel
C felt

1498) Choose the correct form:

A Not disturb the lesson!
B Don't disturb the lesson!
C Don't disturbed the lesson!

1499) Choose the correct sentence:

A Stop making that dreadful noise!
B Stop to make that dreadful noise!
C Stop makes that dreadful noise!

1500) Choose the correct sentence.

A I like met him tomorrow.
B I like meet him tomorrow
C I should like to meet him tomorrow

CONOSCENZA DELLA LINGUA INGLESE
RISPOSTE CORRETTE

1 **C**	2 **C**	3 **A**	4 **B**	5 **B**
6 **B**	7 **A**	8 **B**	9 **A**	10 **C**
11 **B**	12 **B**	13 **B**	14 **C**	15 **B**
16 **A**	17 **C**	18 **A**	19 **C**	20 **B**
21 **A**	22 **A**	23 **A**	24 **B**	25 **C**
26 **B**	27 **B**	28 **B**	29 **C**	30 **A**
31 **A**	32 **B**	33 **A**	34 **B**	35 **B**
36 **C**	37 **C**	38 **B**	39 **A**	40 **A**
41 **A**	42 **C**	43 **C**	44 **B**	45 **C**
46 **A**	47 **A**	48 **A**	49 **C**	50 **C**
51 **A**	52 **A**	53 **B**	54 **C**	55 **B**
56 **C**	57 **A**	58 **B**	59 **B**	60 **A**
61 **B**	62 **B**	63 **B**	64 **B**	65 **B**
66 **C**	67 **B**	68 **B**	69 **C**	70 **A**
71 **C**	72 **C**	73 **A**	74 **A**	75 **B**
76 **B**	77 **A**	78 **C**	79 **A**	80 **B**
81 **A**	82 **C**	83 **A**	84 **B**	85 **A**
86 **A**	87 **B**	88 **A**	89 **C**	90 **C**
91 **C**	92 **B**	93 **A**	94 **A**	95 **B**
96 **A**	97 **B**	98 **A**	99 **C**	100 **C**
101 **A**	102 **B**	103 **B**	104 **C**	105 **C**
106 **B**	107 **B**	108 **C**	109 **C**	110 **A**
111 **C**	112 **A**	113 **A**	114 **C**	115 **C**
116 **C**	117 **A**	118 **C**	119 **A**	120 **B**
121 **B**	122 **C**	123 **A**	124 **C**	125 **A**
126 **B**	127 **C**	128 **C**	129 **C**	130 **C**
131 **A**	132 **B**	133 **A**	134 **A**	135 **B**
136 **A**	137 **C**	138 **C**	139 **A**	140 **C**
141 **A**	142 **A**	143 **B**	144 **C**	145 **C**
146 **C**	147 **B**	148 **B**	149 **B**	150 **B**
151 **A**	152 **A**	153 **A**	154 **B**	155 **A**
156 **C**	157 **B**	158 **C**	159 **C**	160 **A**
161 **A**	162 **C**	163 **C**	164 **C**	165 **A**
166 **C**	167 **C**	168 **A**	169 **B**	170 **C**
171 **A**	172 **B**	173 **B**	174 **C**	175 **B**
176 **C**	177 **B**	178 **A**	179 **A**	180 **B**
181 **C**	182 **A**	183 **C**	184 **A**	185 **C**
186 **A**	187 **C**	188 **B**	189 **B**	190 **A**
191 **C**	192 **A**	193 **B**	194 **B**	195 **B**
196 **C**	197 **B**	198 **C**	199 **A**	200 **B**
201 **C**	202 **B**	203 **A**	204 **B**	205 **C**
206 **A**	207 **A**	208 **B**	209 **B**	210 **C**
211 **B**	212 **B**	213 **B**	214 **B**	215 **B**
216 **C**	217 **C**	218 **C**	219 **B**	220 **A**
221 **C**	222 **A**	223 **A**	224 **C**	225 **C**
226 **A**	227 **A**	228 **B**	229 **A**	230 **B**
231 **C**	232 **B**	233 **C**	234 **C**	235 **A**
236 **A**	237 **B**	238 **C**	239 **B**	240 **C**
241 **C**	242 **B**	243 **B**	244 **B**	245 **B**

246 **C**	247 **A**	248 **B**	249 **C**	250 **A**
251 **B**	252 **C**	253 **C**	254 **A**	255 **B**
256 **A**	257 **C**	258 **B**	259 **B**	260 **C**
261 **A**	262 **C**	263 **B**	264 **B**	265 **A**
266 **B**	267 **B**	268 **B**	269 **B**	270 **C**
271 **B**	272 **C**	273 **A**	274 **A**	275 **C**
276 **A**	277 **C**	278 **C**	279 **A**	280 **C**
281 **A**	282 **C**	283 **C**	284 **A**	285 **C**
286 **C**	287 **B**	288 **A**	289 **C**	290 **A**
291 **A**	292 **B**	293 **C**	294 **C**	295 **B**
296 **B**	297 **B**	298 **B**	299 **A**	300 **C**
301 **B**	302 **C**	303 **C**	304 **A**	305 **C**
306 **A**	307 **B**	308 **A**	309 **B**	310 **C**
311 **B**	312 **C**	313 **C**	314 **C**	315 **B**
316 **A**	317 **A**	318 **C**	319 **A**	320 **B**
321 **A**	322 **A**	323 **C**	324 **B**	325 **B**
326 **B**	327 **C**	328 **A**	329 **C**	330 **A**
331 **B**	332 **B**	333 **B**	334 **C**	335 **B**
336 **A**	337 **C**	338 **B**	339 **A**	340 **B**
341 **A**	342 **C**	343 **A**	344 **B**	345 **A**
346 **C**	347 **B**	348 **C**	349 **B**	350 **C**
351 **B**	352 **A**	353 **C**	354 **C**	355 **C**
356 **B**	357 **A**	358 **C**	359 **A**	360 **C**
361 **A**	362 **C**	363 **A**	364 **C**	365 **B**
366 **C**	367 **B**	368 **A**	369 **A**	370 **C**
371 **B**	372 **C**	373 **B**	374 **C**	375 **B**
376 **C**	377 **A**	378 **C**	379 **A**	380 **C**
381 **A**	382 **C**	383 **B**	384 **A**	385 **C**
386 **A**	387 **C**	388 **A**	389 **A**	390 **A**
391 **B**	392 **B**	393 **B**	394 **B**	395 **C**
396 **C**	397 **B**	398 **B**	399 **C**	400 **B**
401 **B**	402 **B**	403 **B**	404 **B**	405 **C**
406 **A**	407 **A**	408 **C**	409 **B**	410 **B**
411 **A**	412 **A**	413 **C**	414 **B**	415 **A**
416 **C**	417 **B**	418 **A**	419 **B**	420 **B**
421 **A**	422 **A**	423 **B**	424 **A**	425 **C**
426 **A**	427 **A**	428 **C**	429 **B**	430 **A**
431 **C**	432 **A**	433 **C**	434 **A**	435 **A**
436 **A**	437 **B**	438 **A**	439 **B**	440 **B**
441 **B**	442 **A**	443 **B**	444 **C**	445 **A**
446 **A**	447 **C**	448 **C**	449 **B**	450 **B**
451 **A**	452 **A**	453 **C**	454 **B**	455 **C**
456 **A**	457 **A**	458 **A**	459 **A**	460 **B**
461 **C**	462 **B**	463 **A**	464 **B**	465 **A**
466 **A**	467 **A**	468 **B**	469 **B**	470 **B**
471 **A**	472 **C**	473 **B**	474 **A**	475 **A**
476 **B**	477 **A**	478 **A**	479 **A**	480 **B**
481 **B**	482 **B**	483 **C**	484 **B**	485 **B**
486 **A**	487 **C**	488 **B**	489 **C**	490 **C**
491 **C**	492 **B**	493 **A**	494 **B**	495 **C**
496 **C**	497 **A**	498 **C**	499 **B**	500 **B**
501 **A**	502 **C**	503 **C**	504 **A**	505 **B**
506 **C**	507 **C**	508 **A**	509 **C**	510 **B**
511 **A**	512 **B**	513 **B**	514 **C**	515 **B**
516 **C**	517 **B**	518 **B**	519 **B**	520 **A**

521 **C**	522 **B**	523 **A**	524 **A**	525 **B**
526 **C**	527 **A**	528 **A**	529 **A**	530 **C**
531 **C**	532 **B**	533 **C**	534 **B**	535 **A**
536 **B**	537 **A**	538 **C**	539 **B**	540 **B**
541 **A**	542 **B**	543 **C**	544 **B**	545 **C**
546 **A**	547 **A**	548 **B**	549 **A**	550 **B**
551 **C**	552 **A**	553 **B**	554 **C**	555 **B**
556 **A**	557 **A**	558 **C**	559 **C**	560 **B**
561 **B**	562 **C**	563 **A**	564 **B**	565 **B**
566 **B**	567 **C**	568 **B**	569 **B**	570 **C**
571 **B**	572 **B**	573 **C**	574 **A**	575 **A**
576 **A**	577 **A**	578 **A**	579 **A**	580 **C**
581 **B**	582 **B**	583 **C**	584 **A**	585 **C**
586 **A**	587 **B**	588 **C**	589 **C**	590 **A**
591 **C**	592 **A**	593 **B**	594 **B**	595 **A**
596 **C**	597 **A**	598 **A**	599 **B**	600 **B**
601 **B**	602 **B**	603 **A**	604 **C**	605 **C**
606 **B**	607 **C**	608 **C**	609 **C**	610 **C**
611 **B**	612 **C**	613 **C**	614 **A**	615 **A**
616 **B**	617 **C**	618 **C**	619 **C**	620 **A**
621 **A**	622 **C**	623 **A**	624 **A**	625 **C**
626 **A**	627 **A**	628 **B**	629 **B**	630 **A**
631 **B**	632 **C**	633 **C**	634 **C**	635 **B**
636 **B**	637 **B**	638 **B**	639 **A**	640 **A**
641 **C**	642 **A**	643 **C**	644 **C**	645 **A**
646 **A**	647 **B**	648 **B**	649 **C**	650 **A**
651 **B**	652 **B**	653 **B**	654 **B**	655 **A**
656 **A**	657 **C**	658 **C**	659 **C**	660 **B**
661 **C**	662 **A**	663 **A**	664 **C**	665 **C**
666 **A**	667 **C**	668 **A**	669 **C**	670 **C**
671 **C**	672 **A**	673 **A**	674 **C**	675 **A**
676 **B**	677 **B**	678 **B**	679 **A**	680 **C**
681 **A**	682 **A**	683 **B**	684 **B**	685 **B**
686 **A**	687 **C**	688 **B**	689 **A**	690 **C**
691 **B**	692 **C**	693 **C**	694 **C**	695 **B**
696 **A**	697 **C**	698 **B**	699 **B**	700 **B**
701 **C**	702 **A**	703 **A**	704 **C**	705 **B**
706 **C**	707 **A**	708 **A**	709 **B**	710 **B**
711 **C**	712 **A**	713 **C**	714 **C**	715 **A**
716 **B**	717 **A**	718 **B**	719 **B**	720 **B**
721 **C**	722 **B**	723 **B**	724 **C**	725 **C**
726 **B**	727 **C**	728 **C**	729 **A**	730 **B**
731 **C**	732 **C**	733 **A**	734 **B**	735 **B**
736 **C**	737 **A**	738 **C**	739 **C**	740 **C**
741 **C**	742 **A**	743 **B**	744 **B**	745 **B**
746 **A**	747 **B**	748 **A**	749 **A**	750 **B**
751 **B**	752 **B**	753 **B**	754 **B**	755 **B**
756 **C**	757 **C**	758 **B**	759 **B**	760 **A**
761 **B**	762 **A**	763 **C**	764 **C**	765 **B**
766 **A**	767 **B**	768 **A**	769 **C**	770 **B**
771 **B**	772 **A**	773 **B**	774 **B**	775 **B**
776 **C**	777 **B**	778 **B**	779 **B**	780 **A**
781 **A**	782 **C**	783 **A**	784 **C**	785 **A**
786 **A**	787 **B**	788 **C**	789 **C**	790 **B**
791 **A**	792 **A**	793 **A**	794 **A**	795 **C**

796 **C**	797 **B**	798 **B**	799 **C**	800 **A**
801 **B**	802 **A**	803 **A**	804 **C**	805 **B**
806 **B**	807 **A**	808 **C**	809 **C**	810 **A**
811 **A**	812 **C**	813 **C**	814 **B**	815 **C**
816 **B**	817 **B**	818 **C**	819 **C**	820 **C**
821 **B**	822 **A**	823 **A**	824 **C**	825 **A**
826 **B**	827 **C**	828 **C**	829 **A**	830 **A**
831 **A**	832 **B**	833 **B**	834 **C**	835 **A**
836 **A**	837 **A**	838 **C**	839 **B**	840 **B**
841 **A**	842 **C**	843 **C**	844 **C**	845 **B**
846 **A**	847 **A**	848 **C**	849 **C**	850 **C**
851 **B**	852 **B**	853 **A**	854 **C**	855 **A**
856 **B**	857 **C**	858 **B**	859 **B**	860 **B**
861 **A**	862 **B**	863 **C**	864 **A**	865 **B**
866 **B**	867 **A**	868 **B**	869 **A**	870 **A**
871 **C**	872 **A**	873 **C**	874 **A**	875 **A**
876 **C**	877 **B**	878 **A**	879 **B**	880 **B**
881 **B**	882 **A**	883 **A**	884 **A**	885 **B**
886 **A**	887 **C**	888 **C**	889 **A**	890 **B**
891 **C**	892 **B**	893 **B**	894 **A**	895 **B**
896 **A**	897 **A**	898 **A**	899 **A**	900 **C**
901 **A**	902 **A**	903 **B**	904 **C**	905 **C**
906 **B**	907 **A**	908 **B**	909 **C**	910 **B**
911 **C**	912 **C**	913 **A**	914 **C**	915 **A**
916 **A**	917 **B**	918 **A**	919 **C**	920 **B**
921 **A**	922 **B**	923 **B**	924 **B**	925 **C**
926 **C**	927 **B**	928 **A**	929 **B**	930 **B**
931 **B**	932 **A**	933 **A**	934 **B**	935 **A**
936 **B**	937 **C**	938 **C**	939 **C**	940 **C**
941 **C**	942 **A**	943 **A**	944 **B**	945 **C**
946 **B**	947 **C**	948 **B**	949 **C**	950 **C**
951 **B**	952 **A**	953 **C**	954 **C**	955 **A**
956 **B**	957 **A**	958 **B**	959 **B**	960 **B**
961 **B**	962 **B**	963 **B**	964 **B**	965 **A**
966 **A**	967 **A**	968 **B**	969 **C**	970 **B**
971 **C**	972 **B**	973 **C**	974 **A**	975 **C**
976 **C**	977 **B**	978 **A**	979 **B**	980 **C**
981 **A**	982 **C**	983 **A**	984 **A**	985 **C**
986 **C**	987 **C**	988 **B**	989 **A**	990 **B**
991 **B**	992 **B**	993 **C**	994 **C**	995 **B**
996 **C**	997 **B**	998 **C**	999 **C**	1000 **C**
1001 **A**	1002 **A**	1003 **A**	1004 **B**	1005 **C**
1006 **B**	1007 **A**	1008 **A**	1009 **A**	1010 **A**
1011 **B**	1012 **B**	1013 **C**	1014 **C**	1015 **C**
1016 **C**	1017 **C**	1018 **A**	1019 **C**	1020 **B**
1021 **A**	1022 **B**	1023 **C**	1024 **A**	1025 **B**
1026 **C**	1027 **A**	1028 **A**	1029 **C**	1030 **B**
1031 **A**	1032 **C**	1033 **C**	1034 **A**	1035 **B**
1036 **C**	1037 **C**	1038 **A**	1039 **B**	1040 **C**
1041 **C**	1042 **A**	1043 **C**	1044 **A**	1045 **C**
1046 **A**	1047 **C**	1048 **C**	1049 **A**	1050 **A**
1051 **C**	1052 **A**	1053 **B**	1054 **A**	1055 **B**
1056 **A**	1057 **C**	1058 **B**	1059 **B**	1060 **B**
1061 **A**	1062 **C**	1063 **A**	1064 **B**	1065 **A**
1066 **B**	1067 **A**	1068 **A**	1069 **A**	1070 **A**

1071 **C**	1072 **C**	1073 **A**	1074 **C**	1075 **B**
1076 **C**	1077 **A**	1078 **C**	1079 **A**	1080 **A**
1081 **C**	1082 **A**	1083 **A**	1084 **A**	1085 **B**
1086 **A**	1087 **B**	1088 **B**	1089 **B**	1090 **C**
1091 **A**	1092 **B**	1093 **C**	1094 **C**	1095 **C**
1096 **A**	1097 **C**	1098 **B**	1099 **A**	1100 **A**
1101 **C**	1102 **B**	1103 **C**	1104 **A**	1105 **A**
1106 **B**	1107 **C**	1108 **B**	1109 **B**	1110 **B**
1111 **B**	1112 **C**	1113 **A**	1114 **A**	1115 **B**
1116 **A**	1117 **B**	1118 **B**	1119 **C**	1120 **A**
1121 **B**	1122 **A**	1123 **C**	1124 **B**	1125 **C**
1126 **A**	1127 **A**	1128 **B**	1129 **C**	1130 **C**
1131 **A**	1132 **C**	1133 **C**	1134 **A**	1135 **A**
1136 **C**	1137 **B**	1138 **B**	1139 **A**	1140 **A**
1141 **C**	1142 **C**	1143 **B**	1144 **B**	1145 **C**
1146 **B**	1147 **A**	1148 **C**	1149 **A**	1150 **B**
1151 **B**	1152 **B**	1153 **C**	1154 **C**	1155 **C**
1156 **A**	1157 **A**	1158 **B**	1159 **C**	1160 **C**
1161 **C**	1162 **C**	1163 **C**	1164 **B**	1165 **A**
1166 **B**	1167 **C**	1168 **B**	1169 **C**	1170 **A**
1171 **B**	1172 **B**	1173 **A**	1174 **A**	1175 **B**
1176 **B**	1177 **B**	1178 **C**	1179 **B**	1180 **C**
1181 **A**	1182 **C**	1183 **A**	1184 **C**	1185 **A**
1186 **C**	1187 **C**	1188 **A**	1189 **C**	1190 **B**
1191 **A**	1192 **C**	1193 **B**	1194 **B**	1195 **C**
1196 **A**	1197 **A**	1198 **A**	1199 **B**	1200 **B**
1201 **A**	1202 **C**	1203 **C**	1204 **C**	1205 **A**
1206 **A**	1207 **C**	1208 **B**	1209 **C**	1210 **A**
1211 **A**	1212 **C**	1213 **B**	1214 **A**	1215 **A**
1216 **C**	1217 **A**	1218 **B**	1219 **A**	1220 **B**
1221 **C**	1222 **C**	1223 **A**	1224 **A**	1225 **A**
1226 **C**	1227 **B**	1228 **A**	1229 **B**	1230 **A**
1231 **C**	1232 **A**	1233 **A**	1234 **A**	1235 **A**
1236 **C**	1237 **A**	1238 **C**	1239 **A**	1240 **C**
1241 **C**	1242 **A**	1243 **A**	1244 **A**	1245 **C**
1246 **A**	1247 **C**	1248 **B**	1249 **B**	1250 **B**
1251 **C**	1252 **C**	1253 **B**	1254 **C**	1255 **C**
1256 **A**	1257 **C**	1258 **A**	1259 **B**	1260 **B**
1261 **B**	1262 **C**	1263 **C**	1264 **A**	1265 **A**
1266 **C**	1267 **B**	1268 **A**	1269 **C**	1270 **B**
1271 **A**	1272 **A**	1273 **A**	1274 **A**	1275 **B**
1276 **B**	1277 **B**	1278 **C**	1279 **C**	1280 **C**
1281 **A**	1282 **C**	1283 **C**	1284 **A**	1285 **B**
1286 **A**	1287 **A**	1288 **A**	1289 **C**	1290 **B**
1291 **B**	1292 **B**	1293 **A**	1294 **A**	1295 **A**
1296 **B**	1297 **C**	1298 **C**	1299 **B**	1300 **B**
1301 **B**	1302 **A**	1303 **C**	1304 **B**	1305 **B**
1306 **C**	1307 **C**	1308 **A**	1309 **C**	1310 **C**
1311 **A**	1312 **C**	1313 **C**	1314 **C**	1315 **B**
1316 **C**	1317 **B**	1318 **C**	1319 **A**	1320 **A**
1321 **A**	1322 **C**	1323 **C**	1324 **C**	1325 **C**
1326 **C**	1327 **A**	1328 **A**	1329 **B**	1330 **B**
1331 **C**	1332 **B**	1333 **A**	1334 **B**	1335 **A**
1336 **B**	1337 **C**	1338 **B**	1339 **B**	1340 **B**
1341 **B**	1342 **C**	1343 **B**	1344 **C**	1345 **B**

1346 **B**	1347 **A**	1348 **C**	1349 **B**	1350 **B**
1351 **A**	1352 **C**	1353 **A**	1354 **A**	1355 **A**
1356 **C**	1357 **C**	1358 **B**	1359 **A**	1360 **B**
1361 **A**	1362 **C**	1363 **A**	1364 **C**	1365 **A**
1366 **B**	1367 **C**	1368 **B**	1369 **B**	1370 **B**
1371 **B**	1372 **A**	1373 **B**	1374 **C**	1375 **B**
1376 **A**	1377 **C**	1378 **B**	1379 **A**	1380 **C**
1381 **A**	1382 **A**	1383 **C**	1384 **C**	1385 **C**
1386 **C**	1387 **C**	1388 **B**	1389 **B**	1390 **B**
1391 **B**	1392 **A**	1393 **A**	1394 **B**	1395 **A**
1396 **A**	1397 **C**	1398 **A**	1399 **A**	1400 **A**
1401 **A**	1402 **A**	1403 **B**	1404 **A**	1405 **B**
1406 **A**	1407 **B**	1408 **B**	1409 **B**	1410 **C**
1411 **C**	1412 **A**	1413 **B**	1414 **A**	1415 **B**
1416 **C**	1417 **A**	1418 **B**	1419 **A**	1420 **C**
1421 **A**	1422 **B**	1423 **B**	1424 **B**	1425 **B**
1426 **B**	1427 **C**	1428 **B**	1429 **B**	1430 **C**
1431 **B**	1432 **A**	1433 **C**	1434 **A**	1435 **A**
1436 **C**	1437 **C**	1438 **B**	1439 **C**	1440 **C**
1441 **C**	1442 **A**	1443 **A**	1444 **C**	1445 **A**
1446 **A**	1447 **A**	1448 **C**	1449 **B**	1450 **C**
1451 **B**	1452 **A**	1453 **B**	1454 **C**	1455 **C**
1456 **B**	1457 **C**	1458 **A**	1459 **B**	1460 **A**
1461 **A**	1462 **A**	1463 **B**	1464 **A**	1465 **C**
1466 **C**	1467 **C**	1468 **B**	1469 **A**	1470 **A**
1471 **A**	1472 **A**	1473 **A**	1474 **C**	1475 **A**
1476 **B**	1477 **A**	1478 **B**	1479 **B**	1480 **C**
1481 **B**	1482 **B**	1483 **C**	1484 **B**	1485 **B**
1486 **C**	1487 **C**	1488 **C**	1489 **A**	1490 **A**
1491 **B**	1492 **A**	1493 **A**	1494 **B**	1495 **C**
1496 **A**	1497 **A**	1498 **B**	1499 **A**	1500 **C**

L'AGENZIA DELLE ACCISE, DOGANE E MONOPOLI

CONCORSO PUBBLICO PER ESAMI A COMPLESSIVI 766 POSTI - III AEA F1 - PER L'ASSUNZIONE DI VARIE FIGURE PROFESSIONALI PRESSO L'AGENZIA DELLE DOGANE E DEI MONOPOLI
RETTIFICA BANCA DATI DEI QUESITI PER LE PROVE PRESELETTIVE

Si comunica che alcuni dei quesiti contenuti nella banca dati per la prova preselettiva del concorso in epigrafe, pubblicata in data 2 luglio u.s., presentano refusi o imprecisioni.

Tali quesiti verranno, pertanto, eliminati dal database dal quale saranno estratti i quiz da sottoporre ai candidati durante la prova d'esame.

Nelle pagine seguenti si riporta il primo elenco dei quesiti soppressi.

Nei prossimi giorni seguiranno ulteriori aggiornamenti.

I candidati possono inviare, fino alle ore 23.59 del 10 luglio, eventuali segnalazioni inerenti anomalie nella formulazione dei quesiti al seguente indirizzo email: test.concorso.funzionari@adm.gov.it. I quesiti verificati come errati saranno parimenti espunti dalla banca dati anche in assenza di ulteriori comunicazioni e comunque non oltre il termine stabilito dalla struttura collegiale per la formazione delle buste telematiche da predisporre per le prove preselettive.

CONOSCENZA DELLA LINGUA INGLESE
Quesiti espunti dalla banca dati

10	18	29	30	32	34	47	47	56	56	60	61	100	113
118	120	123	125	126	128	138	143	145	147	149	154	162	175
179	181	182	183	186	187	188	191	194	202	205	211	218	220
222	228	235	238	243	264	525							

CONOSCENZA BASE DEGLI STRUMENTI DI OFFICE AUTOMATION
Quesiti espunti dalla banca dati

5	6	8	13	14	21	23	27	33	35	40	41	51	63
68	73	74	76	82	96	101	105	108	114	140	142	148	156
158	161	185	192	194	228	259	283	289	294	300	308	314	327
331	366	385	398	405	447	456	461	466					

L'AGENZIA DELLE ACCISE, DOGANE E MONOPOLI

CONCORSO PUBBLICO PER ESAMI A COMPLESSIVI 766 POSTI - III AEA F1 - PER L'ASSUNZIONE DI VARIE FIGURE PROFESSIONALI PRESSO L'AGENZIA DELLE DOGANE E DEI MONOPOLI
SECONDA RETTIFICA BANCA DATI DEI QUESITI PER LE PROVE PRESELETTIVE

Si comunica che alcuni dei quesiti contenuti nella banca dati per la prova preselettiva del concorso in epigrafe, pubblicata in data 2 luglio u.s., presentano refusi o imprecisioni.

Tali quesiti verranno, pertanto, eliminati dal database dal quale saranno estratti i quiz da sottoporre ai candidati durante la prova d'esame.

A seguire si riporta il secondo elenco dei quesiti soppressi.

Nei prossimi giorni seguiranno ulteriori aggiornamenti.

I candidati possono inviare, fino alle ore 23.59 del 10 luglio, eventuali segnalazioni inerenti anomalie nella formulazione dei quesiti al seguente indirizzo email: test.concorso.funzionari@adm.gov.it.

I quesiti verificati come errati saranno parimenti espunti dalla banca dati anche in assenza di ulteriori comunicazioni e comunque non oltre il termine stabilito dalla struttura collegiale per la formazione delle buste telematiche da predisporre per le prove preselettive.

CONOSCENZA DELLA LINGUA INGLESE
Quesiti espunti dalla banca dati

11	24	46	64	74	75	80	89	90	92	93	102	107	116
157	197	206	220	224	253	265	285	286	294	308	317	318	319
321	335	342	350	358	367	371	377	383	403	408	411	419	421
435	436	438	441	526	530	531	532						

CONOSCENZA BASE DEGLI STRUMENTI DI OFFICE AUTOMATION
Quesiti espunti dalla banca dati

65	109	117	149	163	174	178	186	188	203	214	225	226	230
237	239	241	257	258	263	264	268	278	285	297	309	310	313
320	346	352	365	367	369	370	371	372	382	390	400	404	415
417	432	438	449	468	473	475	476						

L'AGENZIA DELLE ACCISE, DOGANE E MONOPOLI

CONCORSO PUBBLICO PER ESAMI A COMPLESSIVI 766 POSTI - III AEA F1 - PER L'ASSUNZIONE DI VARIE FIGURE PROFESSIONALI PRESSO L'AGENZIA DELLE DOGANE E DEI MONOPOLI
TERZA RETTIFICA BANCA DATI DEI QUESITI PER LE PROVE PRESELETTIVE

Si comunica che alcuni dei quesiti contenuti nella banca dati per la prova preselettiva del concorso in epigrafe, pubblicata in data 2 luglio u.s., presentano refusi o imprecisioni.

Tali quesiti verranno, pertanto, eliminati dal database dal quale saranno estratti i quiz da sottoporre ai candidati durante la prova d'esame.

A seguire si riporta il terzo elenco dei quesiti soppressi.

Nei prossimi giorni seguiranno ulteriori aggiornamenti.

I candidati possono inviare, fino alle ore 23.59 del 10 luglio, eventuali segnalazioni inerenti anomalie nella formulazione dei quesiti al seguente indirizzo email: test.concorso.funzionari@adm.gov.it.

I quesiti verificati come errati saranno parimenti espunti dalla banca dati anche in assenza di ulteriori comunicazioni e comunque non oltre il termine stabilito dalla struttura collegiale per la formazione delle buste telematiche da predisporre per le prove preselettive.

CAPACITÀ LOGICO-DEDUTTIVA E RAG. LOGICO-MATEMATICO
Quesiti espunti dalla banca dati

5	17	23	28	31	38	52	60	72	88	93	97	103
116	123	129	135	138	141	143	146	148	155	158	160	162
166	174	179	182	191	197	199	211	214	216	223	226	245
252	263	266	272	274	280	294	297	301	303	310	314	317
319	323	326	329	336	339	344	348	349	351	352	353	354
355	357	359	360	361	364	366	367	368	369			

L'AGENZIA DELLE ACCISE, DOGANE E MONOPOLI

CONCORSO PUBBLICO PER ESAMI A COMPLESSIVI 766 POSTI - III AEA F1 - PER L'ASSUNZIONE DI VARIE FIGURE PROFESSIONALI PRESSO L'AGENZIA DELLE DOGANE E DEI MONOPOLI
QUARTA RETTIFICA BANCA DATI DEI QUESITI PER LE PROVE PRESELETTIVE

Si comunica che alcuni dei quesiti contenuti nella banca dati per la prova preselettiva del concorso in epigrafe, pubblicata in data 2 luglio u.s., presentano refusi o imprecisioni.

Tali quesiti verranno, pertanto, eliminati dal database dal quale saranno estratti i quiz da sottoporre ai candidati durante la prova d'esame.

A seguire si riporta il quarto elenco dei quesiti soppressi.

Nei prossimi giorni seguiranno ulteriori aggiornamenti.

I candidati possono inviare, fino alle ore 23.59 del 10 luglio, eventuali segnalazioni inerenti anomalie nella formulazione dei quesiti al seguente indirizzo email: test.concorso.funzionari@adm.gov.it.

I quesiti verificati come errati saranno parimenti espunti dalla banca dati anche in assenza di ulteriori comunicazioni e comunque non oltre il termine stabilito dalla struttura collegiale per la formazione delle buste telematiche da predisporre per le prove preselettive.

CAPACITÀ LOGICO-DEDUTTIVA E RAG. LOGICO-MATEMATICO
Quesiti espunti dalla banca dati

8	19	26	30	37	51	58	67	85	91	96	99	111	121
128	132	136	140	142	145	147	154	157	159	161	164	172	175
181	190	195	198	209	212	215	220	225	240	247	253	265	271
273	276	282	296	299	302	305	312	315	318	322	324	328	335
338	341	347	370	371	375	377	378	379	380	386	387	388	392
395	396	399	409	410	414	416	420	423	424	428	429	432	433
434	435												

L'AGENZIA DELLE ACCISE, DOGANE E MONOPOLI

CONCORSO PUBBLICO PER ESAMI A COMPLESSIVI 766 POSTI - III AEA F1 - PER L'ASSUNZIONE DI VARIE FIGURE PROFESSIONALI PRESSO L'AGENZIA DELLE DOGANE E DEI MONOPOLI
QUINTA RETTIFICA BANCA DATI DEI QUESITI PER LE PROVE PRESELETTIVE

Si comunica che alcuni dei quesiti contenuti nella banca dati per la prova preselettiva del concorso in epigrafe, pubblicata in data 2 luglio u.s., presentano refusi o imprecisioni.

Tali quesiti verranno, pertanto, eliminati dal database dal quale saranno estratti i quiz da sottoporre ai candidati durante la prova d'esame.

A seguire si riporta il quinto elenco dei quesiti soppressi.

Nei prossimi giorni seguiranno ulteriori aggiornamenti.

I candidati possono inviare, fino alle ore 23.59 del 10 luglio, eventuali segnalazioni inerenti anomalie nella formulazione dei quesiti al seguente indirizzo email: test.concorso.funzionari@adm.gov.it.

I quesiti verificati come errati saranno parimenti espunti dalla banca dati anche in assenza di ulteriori comunicazioni e comunque non oltre il termine stabilito dalla struttura collegiale per la formazione delle buste telematiche da predisporre per le prove preselettive.

CAPACITÀ LOGICO-DEDUTTIVA E RAG. LOGICO-MATEMATICO
Quesiti espunti dalla banca dati

438	439	441	443	444	448	449	452	455	459	464	467	468	469
471	472	477	478	481	483	484	494	498	500	501	502	509	513
515	520	523	531	535	536	537	540	541	543	544	546	548	549
550	551	556	563	568	569	571	572	573	578	590	593	595	597
599	600	602	605	610	611	613	614	619	623	625	629	630	640
641	645	646	648	653	661	663	668	669	670	671	674	680	681
683	685	688	690	692	698	709							

L'AGENZIA DELLE ACCISE, DOGANE E MONOPOLI

CONCORSO PUBBLICO PER ESAMI A COMPLESSIVI 766 POSTI - III AEA F1 - PER L'ASSUNZIONE DI VARIE FIGURE PROFESSIONALI PRESSO L'AGENZIA DELLE DOGANE E DEI MONOPOLI
SESTA RETTIFICA BANCA DATI DEI QUESITI PER LE PROVE PRESELETTIVE

Si comunica che alcuni dei quesiti contenuti nella banca dati per la prova preselettiva del concorso in epigrafe, pubblicata in data 2 luglio u.s., presentano refusi o imprecisioni.

Tali quesiti verranno, pertanto, eliminati dal database dal quale saranno estratti i quiz da sottoporre ai candidati durante la prova d'esame.

A seguire si riporta il sesto elenco dei quesiti soppressi.

In data odierna o al più tardi entro la giornata di domenica 11 luglio 2021, seguiranno ulteriori aggiornamenti.

I quesiti verificati come errati saranno parimenti espunti dalla banca dati anche in assenza di ulteriori comunicazioni e comunque non oltre il termine stabilito dalla struttura collegiale per la formazione delle buste telematiche da predisporre per le prove preselettive.

CAPACITÀ LOGICO-DEDUTTIVA E RAG. LOGICO-MATEMATICO
Quesiti espunti dalla banca dati

22	24	90	210	264	268	358	442	730	731	732	736	743	744
745	746	747	748	749	752	753	756	758	760	761	762	763	769
770	772	775	776	777	778	779	781	784	786	790	792	797	799
802	806	808	813	820	822	823	830	839	847	849	851	855	858
861	865	866	867	869	872	874	876	877	886	891	892	893	894
896	899	901	918	927	928	931	943	952	993	995	996	997	998
1000	1003	1008	1010	1014	1022	1033	1038	1051	1085	1104	1105	1116	1117
1122	1123	1125	1127	1134	1141	1145	1147	1151	1165	1166	1170	1173	1174
1176	1183	1195	1198	1200	1203	1209	1212	1213	1281	1292	1302	1307	1320
1321	1328	1348	1357	1366	1367	1368	1370	1374					

L'AGENZIA DELLE ACCISE, DOGANE E MONOPOLI

CONCORSO PUBBLICO PER ESAMI A COMPLESSIVI 766 POSTI - III AEA F1 - PER L'ASSUNZIONE DI VARIE FIGURE PROFESSIONALI PRESSO L'AGENZIA DELLE DOGANE E DEI MONOPOLI
SETTIMA RETTIFICA BANCA DATI DEI QUESITI PER LE PROVE PRESELETTIVE

Si comunica che alcuni dei quesiti contenuti nella banca dati per la prova preselettiva del concorso in epigrafe, pubblicata in data 2 luglio u.s., presentano refusi o imprecisioni.

Tali quesiti verranno, pertanto, eliminati dal database dal quale saranno estratti i quiz da sottoporre ai candidati durante la prova d'esame.

A seguire si riporta il settimo elenco dei quesiti soppressi.

In data odierna o al più tardi entro la giornata di domenica 11 luglio 2021, seguiranno ulteriori aggiornamenti.

I quesiti verificati come errati saranno parimenti espunti dalla banca dati anche in assenza di ulteriori comunicazioni e comunque non oltre il termine stabilito dalla struttura collegiale per la formazione delle buste telematiche da predisporre per le prove preselettive.

ELEMENTI DI DIRITTO PENALE E FUNZIONI POLIZIA GIUDIZIARIA
Quesiti espunti dalla banca dati

13	33	40	60	87	102	104	117	137	147	150	161	167	173
177	187	199	214	219	223	232	243	248	250	252	254	256	261
268	271	372	376	387	401	438	477	493	520	547	556	568	578
583	585	601	653	655	664	672	677	732	739	745	749	753	876
887	897	904	924	936	947	959	965	968	1126	1154	1162	1166	1199
1200													

L'AGENZIA DELLE ACCISE, DOGANE E MONOPOLI

CONCORSO PUBBLICO PER ESAMI A COMPLESSIVI 766 POSTI - III AEA F1 - PER L'ASSUNZIONE DI VARIE FIGURE PROFESSIONALI PRESSO L'AGENZIA DELLE DOGANE E DEI MONOPOLI
ULTIMA RETTIFICA BANCA DATI DEI QUESITI PER LE PROVE PRESELETTIVE

Si comunica che alcuni dei quesiti contenuti nella banca dati per la prova preselettiva del concorso in epigrafe, pubblicata in data 2 luglio u.s., presentano refusi o imprecisioni.

Tali quesiti verranno, pertanto, eliminati dal database dal quale saranno estratti i quiz da sottoporre ai candidati durante la prova d'esame.

A seguire si riporta **l'ultimo** elenco dei quesiti soppressi. **Non** seguiranno altre comunicazioni.

I quesiti verificati come errati saranno espunti dalla banca dati anche in assenza di altre comunicazioni e comunque non oltre il termine stabilito dalla struttura collegiale per la formazione delle buste telematiche da predisporre per le prove preselettive.

CAPACITÀ LOGICO-DEDUTTIVA E RAG. LOGICO-MATEMATICO

Quesiti espunti dalla banca dati

710	714	715	718	719	720	721	724	725	726	728	729	845	878
880	881	957	958	966	969	970	978	989	1064	1072	1074	1157	1159
1161	1164	1217	1229	1234	1238	1256	1259	1261	1262	1271	1275	1378	1379
1388	1391	1393	1394	1406	1407	1408	1415	1423	1427	1433	1438	1441	1447
1590	1601	1614	1615	1620	1666	1670	1673	1676	1679	1680	1681	1682	1686
1687	1688												

ELEMENTI DI DIRITTO PENALE E FUNZIONI POLIZIA GIUDIZIARIA

Quesiti espunti dalla banca dati

21	24	34	43	44	53	60	68	91	94	101	103	113	114
129	142	148	154	155	158	164	165	168	171	174	178	182	196
211	218	220	224	238	245	249	251	253	255	260	262	263	269
270	274	277	278	289	291	293	294	302	305	314	320	320	331
335	336	336	340	344	350	351	356	363	365	370	374	378	382
400	402	413	426	448	453	458	464	476	482	486	491	517	522
536	542	550	561	567	577	579	584	586	588	609	624	630	638
641	642	645	651	654	663	669	674	678	680	681	689	690	694
697	704	705	706	708	712	718	721	722	730	731	738	740	747
750	754	762	783	785	790	818	819	821	822	829	835	853	856
864	878	895	898	916	928	929	935	937	957	960	967	974	978
989	990	992	995	999	1000	1055	1058	1063	1068	1072	1075	1079	1083
1086	1094	1101	1105	1112	1118	1137	1138	1140	1142	1148	1155	1156	1158
1160	1164	1174	1176	1179	1180	1182	1184	1185	1186	1187	1188		

L'AGENZIA DELLE ACCISE, DOGANE E MONOPOLI

CONOSCENZA DELLA LINGUA INGLESE

Quesiti espunti dalla banca dati

2	9	13	16	26	27	33	57	70	78	133	137	146	160
176	178	244	246	249	252	255	257	260	269	274	276	279	365
400	414	442	444	455	462	464	470	479	480	487	490	491	493
496	497	506	507	509	510	511	512	515	516	517	529	534	538
540	541	542	543	545	546	548	557	559	560	563	565	568	570
571	573	574	576	577	580	582	583	584	585	588	589	591	602
606	609	611	613	617	619	626	632	633	637	638	644	646	650
656	657	666	671	675	676	682	683	689	698	700	703	711	715
716	718	721	726	727	733	737	739	743	744	746	748	749	750
751	754	755	757	758	759	760	761	762	763	765	766	768	772
773	774	779	782	784	787	788	789	794	798	803	805	808	811
820	823	824	829	830	832	835	848	854	858	861	862	868	872
878	880	882	890	903	907	909	917	928	933	936	937	943	953
956	960	977	980	990	993	1000	1003	1007	1009	1021	1025	1030	1036
1040	1045	1047	1049	1051	1053	1056	1057	1058	1061	1064	1065	1066	1068
1074	1082	1088	1089	1100	1102	1105	1109	1113	1115	1123	1124	1125	1127
1128	1130	1132	1133	1134	1140	1141	1143	1146	1147	1150	1152	1159	1161
1164	1171	1172	1183	1190	1194	1195	1196	1199	1209	1210	1213	1214	1230
1242	1249	1256	1259	1262	1265	1267	1269	1270	1272	1273	1275	1285	1286
1287	1288	1295	1297	1304	1310	1312	1315	1316	1318	1319	1321	1322	1325
1327	1329	1331	1333	1339	1341	1344	1346	1348	1349	1350	1351	1352	1353
1354	1356	1359	1360	1362	1363	1364	1365	1366	1371	1372	1374	1375	1376
1380	1381	1383	1384	1385	1386	1388	1390	1392	1396	1397	1399	1401	1402
1404	1405	1415	1418	1431	1433	1434	1435	1439	1444	1447	1451	1457	1458
1463	1464	1472	1475	1477	1483	1486	1488	1492	1495	1496	1500		

CONOSCENZA BASE DEGLI STRUMENTI DI OFFICE AUTOMATION

Quesiti espunti dalla banca dati

28	30	32	69	84	121	155	162	177	205	280	296	304	311
406	477	481	488	492	499								